UNIVERSAL
LIBRARY
OU_224780
UNIVERSAL
LIBRARY

شرح تحریر اقلیدس

پہلے چھہ مقالے اور گیارہوین اور بارہوین مقالہ کی ضروری شکلون کی مع تحلیل

اور نتائج کے

مؤلفہ ٹاڈ ہنٹر صاحب ایم۔ اے۔ ایف۔ آر۔ ایس

جسکو

منشی محمد ذکاء اللہ صاحب وفیسور رنی کیولر سائنس اینڈ لٹریچر میور سنٹرل کالج

الہ آباد نے ترجمہ کیا

پانچوین دفعہ

مطبع مرتضوی دہلی مین اہتمام سی حافظ محمد عزیز الدین کے طبع ہوا

سنہ ۱۸۸۴ء

۵	رسالہ مساحت مور صاحب	۳	۰
۶	رسالہ سوالات مساحت اسمین ۱۲۲ سوال مع حل ہین	۲	۰

علم مثلث

۱	رسالہ علم مثلث مستوی ٹوڈہنٹر	عہ ۴	۰۱
۲	ایضاً گردی	۱۲	۰
۳	رسالہ علم مثلث مستوی ہاٹن گلبرتہہ	۱۲	۰
۴	رسالہ استعمال جداول علم مثلثی	۴	۰

متفرقات

۱	رسالہ علم ہندسہ بالجبر	عہ ۲	۰۱
۲	رسالہ علم حساب الجزئیات ٹوڈہنٹر	عہ ۲	۰۱
۳	رسالہ علم حساب الکلیات "	عہ ۲	۰۱

علوم طبیعیہ

۱	رسالہ علم سکون۔ اس علم کی بہت معتبر انگریزی کتابونسے انتخاب کرکے لکھا ہی	عہ ۸	۰۱
۲	رسالہ چار فصلہ علم کیمیا۔ ابتداے اصول علم کیمیا کے لکھے ہین اور اوسکے ساتھہ تمہید مین علم کیمیا کی تاریخ کا کچھہ بیان ہی	۳	۰
۳	صحیفہ فطرت کی تمہید و مقالہ اول	۶	۱
۴	علوم طبیعیہ کی الف بے تے سوالات وجوابات کے طور پر	۶	۱
۵	جغرافیہ یا ضیہ رسالہ کرہ اور نقشون کے بنانے اور سمجھنے کے باب مین۔	۸	۱
۶	جغرافیہ طبعی مع سوالات سواء اسکے اسمین ہوا۔ بادل۔ مینہہ۔ اوس۔ برف کے باب مین سوال وجواب اسطرح لکھے ہین کہ کیونکر اوستادونکو پوچھنے چاہئین اور شاگردون کو بتلانے۔	۶	۰

تواریخ وجغرافیہ

۱	تاریخ ہند عہد ہنود	۴	۱
۲	تاریخ ہند عہد انگلشیہ در چہار جلد	عہ ۸	۱۲
۳	جغرافیہ مبتدیون کے لئے	۸	۱

محمد ذکاء اللہ پروفیسر میور کالج الہ آباد

۲۱۳۸۱۲

بسم اللہ الرحمن الرحیم

شرح مقالہ اول

حدود اول سات حدود پر بہت سی بحثین محققین نے کی ہین لیکن ہم ان بحثون مین نہین پڑتے اسلیے کہ انہین دو طرح کی تحقیقات ہوتی ہے **اول** یہ کہ تصورات اور تصدیقات ہندسیہ کا مبدا کیا ہے اور اونکی ذاتیات کیا ہین **دوم** ترجمون کا اختلاف اور پھر اونکا مقابلہ اصل کے ساتھہ یعنی یہ تحقیق کرنا کہ اصل کتاب مین کیا تہا اور اور مولفین و مترجمین نے اصل مین سے کیا نکالڈالا اور اپنی طرف سے کیا الحاق کر دیا سمسن صاحب نے انگریزی ترجمہ مین اور محقق طوسی نے عربی ترجمہ مین بہت سے تصرفات جا و بیجا کیے ہین اور اور مولفون نے ایسا کیا ہے کہ اصل کو بدلکر اپنی طرف سے اوسمین کچھہ الحاق کیا ہے یہ دونون بحثین ہمارے مطلب سے خارج ہین ہمارا مطلب اس کتاب سے فقط یہ ہی کہ ہم اصول کو بیان کرین جس کسی کو بحث اول کا دیکھنا منظور ہو وہ کتب منطقیہ و فلسفیہ کو جسمین یہ بحثین لکھی ہین دیکھے **یوٹ اقلیدس** کا ترجمہ جو مین نے لکھا ہے اوسمین بھی بعض مباحث قابل دیکھنے کے ہین۔ دوسری بحث تحقیقات الفاظ سے زیادہ تعلق رکھتی ہے اجنبی زبانون کے لفظون کی تحقیقات اردو زبان مین کیا لطف رکھتی ہے

ہم فقط اتنی بات لکھتے ہین کہ الفاظ نقطہ و خط و سطح ایسے نہین ہین کہ اونکا وہ مفہوم جو اقلیدس نے حدود مین بیان کیا ہے ذہن مین آجاے مثلاً لفظ نقطہ سے یہ ہرگز مفہوم نہوگا کہ وہ مقدار نہین رکھتا اور مقام رکھتا ہی اور خط سے یہ ہرگز سمجھہ مین نہین آئیگا کہ عرض و سمک نہین رکھتا صرف طول ہی طول ہے سطح سے یہ کب سمجھہ مین آتا ہے کہ وہ سمک نہین رکھتی اور فقط طول اور عرض رکھتی ہے اسلیے اون الفاظ کیواسطے حدود بنائی گئی تاکہ اونکی مفہومات محدود اور مقید ہوجائین یعنی جب یہ الفاظ بولے جائین تو اونکا مورد اور مصداق ذہن مین فوراً آجاے۔

آٹھوان حدود اسمین زاویہ کی تعریف ایسی بیان ہوتی ہے کہ ہر زاویہ پر صادق آتی ہے خواہ دو خطوط منحنی کے ملنے سے پیدا ہوا ہو خواہ ایک خط مستقیم اور ایک خط منحنی کے ملنے سے

لیکن تمام اقلیدس مین فقط اونہین زاویون کا ذکر آیا ہے جو دو خطوط مستقیم کے ملنے سے پیدا ہوتے ہین اسلئے ایسی حدود کا لکھنا فضولی سے خالی نہین فقط زاویہ مستقیمۃ الخطین کا حدود کافی ہے اس کو طالبعلم خوب سمجھ لے کہ خطوط زاویہ بناتے ہین اونکے بڑہانے سے زاویہ مین کچھہ فرق نہین آتا

بعض محققین مثلث متساوی الاضلاع اور مربع کی حدود پر اعتراض کرتے ہین کہ جن اشیا کی تعریف کی ہے اونکے وجود کو بغیر ثابت کرنیکے مان لیا ہے اول یہ ثابت کرنا تھا کہ ایسا مثلث وجود بھی رکھتا ہے کہ جسکے تینون ضلعے آپسمین برابر ہون اور ایسا مربع ہو بھی سکتا ہے جسکے چارون زاویے قائمے ہون پھر تعریف کرتی تھی۔ اسلئے اب یہ تعریف اوسکی مناسب ہے کہ اگر کوئی مثلث ایسا ہو کہ جسکے تینون ضلعے آپسمین برابر ہون تو اوسکو مثلث متساوی الاضلاع کہتے ہین بعض محققین نے حدود پر بے محل ہونیکا اعتراض کیا ہے یعنی اپنے موقع سے پہلے بیان کئے گئے ہین مثلاً مثلث قائم الزاویہ اور منفرجۃ الزاویہ کی حدود مین تیرہوین شکل تک یہ بات ثابت نہین ہوئی کہ مثلث مین ایک زاویہ قائمہ اور دوسرا منفرجہ نہین ہو سکتا اسلئے ایک مثلث قائم الزاویہ اور منفرجۃ الزاویہ نہین ہو سکتا اسلئے یہ حدود ستہرہوین شکل سے پہلے بیمحل ہین اور ایسے ہی زاویہ حادہ اور منفرجہ کی حدود گیارہوین علوم متعارفہ سے پہلے بیمحل ہین۔

اسلئے کہ اس علوم متعارفہ سے پہلے ایک ہی زاویہ ایک قائمہ سے چھوٹا اور دوسرا قائمہ سے بڑا ہو سکتا ہے یعنی حادہ اور منفرجہ دونون ہو سکتے ہین اسلئے جب تک یہ نہ بیان کیا جائے کہ زاویے قائمے سب آپسمین برابر ہوتے ہین حدود قائمہ اور منفرجہ کی بے موقع ہین۔ مربع کی تعریف مین ایک شرط فضول ہے اسواسطے کہ اگر چار ضلعے کی شکل کے سب ضلعے آپسمین برابر ہون اور ایک زاویہ قائمہ ہو تو ثابت ہو سکتا ہے کہ اوسکے سب زاویے قائمے ہین اسلئے چارون زاویون کی قائمہ ہونیکی شرط فضول ہے

اصول موضوعہ۔ اصول موضوعہ مین وہ باتین بیان ہوتی ہین کہ جنکو فرض کرکے ہم عمل مین لا سکتے ہین مثلاً ایک نقطہ سے دوسرے نقطہ تک خط ملا سکتے ہین ایک خط مستقیم کو بڑہا سکتے ہین مرکز معلوم پر بعد معلوم کو نصف قطر بنا کر دائرہ کھینچ سکتے ہین۔ بعض اوقات یہ بیان کیا جاتا ہے کہ اصول موضوعہ مین مسطر اور پرکار کی ضرورت پڑتی ہے لیکن اس بات کو خیال رکھنا چاہیئے کہ مسطر اوسمین کام آتا ہے اوسکے لئے ضرور نہین ہے کہ پیمانون کے نقش اوسپر منقش ہون جن سے طولون کے پیمایش کی جائے اور نہ پرکار کسی اور کام مین سوا اسکے آتی ہے کہ نقطہ معلوم کو مرکز اور بعد معلوم کو

نصف قطر بنا کر دائرہ کھینچ لین

علوم متعارفہ- علوم متعارفہ ایسی باتین ہین جنکو سب سمجھتے ہین بعض مہندسین کی یہ رائے ہے کہ اقلیدس نے اصول موضوعہ مین تو وہی باتین لکھی ہین جنکی ضرورت اور احتیاج علم ہندسہ ہی مین پڑتی ہے لیکن علوم متعارفہ مین یہ علم ہندسہ کی تخصیص چھوڑ دی اور ایسی باتین اونمین علی العموم لکھین کہ تمام قسم کی مقادیر سے متعلق ہوسکتی ہین کچھہ اوسکی تخصیص مقادیر متصلہ یعنی سطح و خط وغیرہ سے نہین ہے اپنی رائے کی تائید کے لئے ان مہندسین نے آخر کے تین علوم متعارفہ کو علوم متعارفہ مین سے علیحدہ کرکے اصول موضوعہ مین داخل کردیا ہے اقلیدس کے بعض قلمی نسخے اور بعض ترجمے اس تغیر اور تبدیل پر شہادت دیتے ہین-

چوتھا علوم متعارفہ- یہ علوم متعارفہ ناقص ہے اوسمین کچھہ اور زیادہ ہونا چاہئے تاکہ کامل ہو اقلیدس لکھتا ہے کہ ا اور ب غیر متساوی ہون اور س اور د متساوی ہون تو ا اور س کا مجموعہ ملکر د اور س کے مجموعہ کے برابر نہوگا- لیکن جس طرح سے اقلیدس مین اوسکا کام اکثر پڑتا ہے وہ یہ ہے اگر ا بڑا ہو ب سے اور س اور د مساوی ہون تو ا اور س کا مجموعہ ملکر ب اور د کے مجموعہ سے ہوگا اس علوم متعارفہ کی ضرورت ۱۰ شکل ۱ مین پڑتی ہے اور یہی کیفیت علوم متعارفہ پنجم کی ہے

آٹھوان علوم متعارفہ- اصل یونانی مین یہ عبارت نہین ہے کہ دونون ایک ہی چیز کو گھیرتے ہون یہ الحاق پیچھے لوگون نے کیا ہے اور اوسپر یہ اعتراض ہوتا ہے کہ خط اور زاویہ ایسی مقادیر ہین کہ وہ چیز کو نہین گھیرتے مگر اونسے بھی یہ علوم متعارفہ متعلق ہے

گیارھوان وبارھوان علوم متعارفہ- گیارھوین علوم متعارفہ کا کام چودھوین شکل تک اور بارھوین علوم متعارفہ کا کام انتالیسوین شکل تک کچھہ نہین پڑتا اس لئے ہم ان علوم متعارفہ پر خیال نہین کرتے جب شکلون مین اونکے اول ضرورت پڑیگی اوسوقت ہم اونپر توجہ کرینگے

مقالہ اول

اس مقالہ مین مثلث اور متوازی الاضلاع کے خواص سے بحث کیگئی ہے شکل نظری ۱ اور شکل عملی کے درمیان خود اقلیدس نے سوائے اس بات کے کسی اور بات کی تمیز نہین کی شکل نظری کے آخر مین لکھدیا کہ یہی ثابت کرنا تھا اور شکل عملی کے انجام مین یہ لکھدیا کہ یہی عمل کرنا تھا

۲- شکل اس شکل کے آٹھہ اختلاف ہین اسلئے کہ نقطہ معلوم خط مستقیم معلوم کے ہر طرف

ہوسکتا ہے اور خط مستقیم پر مثلث متساوی الاضلاع دونون طرف بن سکتا ہی اور مثلث متساوی الاضلاع کا ضلع جو خارج کرتے ہین وہ ہر ایک طرف سے خارج ہوسکتا ہی ان اختلافات کا اثبات طالبعلم ہی کی سمجھ پر چھوڑ دیتے ہین کچھ اونمین اشکال نہین مگر ضرور نہین کہ ہمیشہ آنہہ ہی خط نقطہ معلوم سے کھنچین کیونکہ بعضی صورتون مین اختلاف آنہہ نہ رہین گے مثلاً اوس صورت مین کہ نقطہ ا خط مستقیم ممدودہ کی سیدھ مین واقع ہو بعض حل شکل کے ایک ہی صورت پیدا کرین گے یہ امر اس بات پر موقوف ہے کہ بحکم (۳۲ ش ام) کے مثلث متساوی الاضلاع کے زاوئے آپسمین برابر ہوتے ہین

پانچوین شکل - یہ محاورہ کہ ملاؤ ف س اختصار اس عبارت کا ہی کہ نقطہ ف سے س تک ایک خط مستقیم ف س کھینچو ف اور س کو بذریعہ خط مستقیم ف س کے ملا دو مثلثون ب ف س اور س ح ب کے بیان مین یہ لکھنا کہ ب س دونون مثلثون مین مشترک ہی فضول ہے وہ مبتدیون کی طبیعت کو پریشان کرتا ہے اسلئے ہمنے بعض مولفین کی تقلید کی اور اوسکو نہین لکھا اگرچہ اصل کتاب مین یہ موجود ہے

نتیجہ صریح - وہ نتیجہ ہے کہ معاً اثبات دعوی کی نکل آوے اگرچہ اس قسم کے نتائج اصل اقلیدس مین نہین مگر اور مولفین اقلیدس نے اوسمین داخل کردئے ہین - پانچوین شکل انطباق سے اسطرح ثابت ہوسکتی ہے کہ مثلث ا ب س کو ہم اوٹھا کر اسطرح سے رکھین کہ ا ب اوس مقام پر آوے جہان ا س تھا اور ا س اوس مقام پر آئے جہان ا ب تھا تو چوتھی شکل مقالہ اول کی طرح زاویہ ا ب س مساوی زاویہ ا س ب کے ثابت ہوگا

اس شکل کا نام مامونی ہے اسلئے کہ خلیفہ مامون رشید اکثر اپنے لباس پر اس شکل کو بنواتا تھا وہ اس شکل کا عاشق تھا اور ہر وقت اپنی آنکھون کے سامنے رکھتا تھا

چھٹی شکل - پانچوین شکل کا عکس یہ چھٹی شکل ہے ایک شکل کا عکس دوسری شکل جب کہلاتی ہے کہ ایک شکل کی دعوی مین جو باتین بطور فرض کے ہون وہ دوسری شکل کے دعوی مین بطور نتیجہ کے ہون اور جو پہلی شکل کے دعوی مین باتین بطور نتیجے کے ہون وہ دوسری شکل کے دعوی مین بطور فرض کے ہون مثلاً پانچوین شکل کے دعوی مین یہ فرض کیا گیا ہے کہ مثلث کے ضلعے برابر ہین اور نتیجہ یہ نکالا گیا ہے کہ زاوئے برابر ہین چھٹی شکل مین فرض یہ کیا گیا ہے کہ زاوئے برابر ہین اور نتیجہ یہ نکالا گیا ہے کہ ضلعے برابر ہین اور اگر ایک دعوی مین ایک سے زیادہ فرض یا نتیجے ہون تو اوسکے عکس بھی کئی بن سکتے ہین مثلاً شکل پنجم کا دوسرا عکس یہ ہے

کہ اگر مثلث کے اضلاع خارج ہونے سے تحت القاعدہ کے زاویے آپسمین برابر ہون تو اضلاع مثلث مساوی ہونگے اور یہ عکس صحیح ہے پس طالب علم اسکو خود ثابت کرلین اقلیدس کی اکثر شکلون کے دعوی معکوس کرکے ثابت کئے ہین مگر یہ قاعدہ کلیہ نہین کہ صحیح دعوی کا عکس بھی ضرور صحیح ہو آٹھوین شکل کا دعوی صحیح ہے مگر عکس اوسکا صحیح نہین

دعوی دو طرح سے ثابت ہوتا ہے ایک تو یہ کہ عین دعوی کو ثابت کرین دوسرے یہ کہ کہین اگر دعوی ثابت نہین ہے تو نقیض دعوی ثابت ہوگا اور اس بات کو مانکر نتیجہ آخر نکالتے ہین جو منافی دعوی کی ہوتا ہے پس جب نقیض دعوی کا ثبوت محال ہوا ہے تو دعوی ثابت ہوگا اس طرح کے اثبات کو ثبوت بہ خلف یا برہان خلف کہتے ہین - اثبات عینی کو اثبات خلف پر ترجیح ہے اثبات خلف مین کچھ تکلف ہے اور پھیر پھیر اوسمین ہوتا ہے اوس سے یہ معلوم ہوتا ہے کہ دعوی صحیح ہے یہ نہین معلوم ہوتا کہ کیون صحیح ہے - دعوی کا عکس صحیح مانتے ہین اور پھر آخر کو ایک نتیجہ باطل نکالتے ہین جب مطلب حاصل ہوتا ہے اقلیدس شکلون کا عکس اسی برہان سے ثابت کرتا ہے ۱۴ و ۱۹ و ۲۵ و ۴۰ شکلون کو دیکھ لو کہ سب برہان خلف سے ثابت ہوئی ہین

چھٹی شکل کی ضرورت ۴ ش ۲ م تک کہین نہین پڑتی اسلئے اوسکو یہان سے علیحدہ کرکے کسی اور مقام پر ثابت کرین تو خرابی نہین اور اوسکو بعد انہارہوین شکل مقالہ اول کے ثابت اس طرح کرین - فرض کرو کہ ا ب س مثلث ہے جسکا زاویہ ا ب س برابر ہے زاویہ ا س ب کے تو ضلع ا ب برابر ہوگا ضلع ا س کے اسلئے کہ اگر وہ باہم متساوی نہون تو اونمین سے ایک بڑا ہوگا مثلاً فرض کرو کہ ا ب بڑا ہے اوس سے تو بحکم (۱۸ ش ۱ م) زاویہ ا س ب بڑا ہوگا زاویہ ا ب س سے اور یہ ناممکن ہے کیونکہ فرض یہ کیا ہے کہ زاویہ ا ب س برابر ہے زاویہ ا س ب کے

یہ شکل ۱۰ ش کے پہلے مقالہ کے بعد بھی ثابت ہوسکتی ہے اس طرح سے کہ زاویہ ب ا س کے خط مستقیم سے تنصیف کرو جو قاعدہ سے ڈیرلے تو بحکم (۲۶ ش ۱ م) مثلث ا ب د اور ا س د سب طرح سے آپسمین مساوی ہونگے اسلئے ا ب اور ا س آپسمین برابر ہونگے

ساتوین آٹھوین شکل - ساتوین شکل کا فقط آٹھوین شکل مین کام پڑتا ہے سو آٹھوین شکل کو ایک اور طرح سے ثابت کرتے ہین جس سے ساتوین شکل کی ضرورت نہین رہتی اس امر کو اکثر فاضلون نے پسند کیا ہے

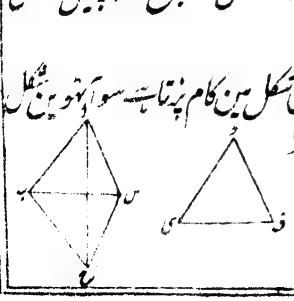

فرض کہ ا ب س اور د ی ف

دو مثلث ہین اور اضلاع ا ب اور ا س بالتناظر برابر اضلاع د ی اور د ف کے ہین اور قاعدہ ب س برابر ہے قاعدہ ف ی کے تو زاویہ ب ا س برابر ہوگا زاویہ ی ف د کے۔ اسواسطے کہ مثلث د ی ف کو مثلث ا ب س پر اسطرح چسپان کرو کہ قاعدے منطبق ہون اور اضلاع مساوی متحد الطرف ہون اور راس کے مقابل جہت مین قاعدہ کے نیچے واقع ہون یعنی فرض کرو کہ اسطرح رکھنے سے ب ح س مثلث د ی ف کو تعبیر کرنے سے اور راس د راس ح پر منطبق ہوا ہے ملاؤ ا ح بموجب فرض کے ب ا برابر ہے ب ح کے تو بحکم ۵ ش ا م کے زاویہ ب ا ح برابر ہوا زاویہ ب ح ا کے اسیطرح سے زاویہ ح ا س برابر ہے زاویہ ا ح س کے تو کل زاویہ ب ا س برابر ہوا زاویہ ب ح س کے یعنی برابر زاویہ ی د ف کے اس شکل کی دو صورتین ہو سکتی ہین ایک یہ کہ ا ح نقاط ب اور س کے درمیان مین گذرے دوسری یہ کہ ح باہر ب اور س سے واقع ہو دونون صورتون مین اثبات ایک ہی طرح ہے۔ آٹھوین شکل مین مثلث سب طرح سے آپسمین برابر ہین مگر اقلیدس قاعدہ کے سامنے کے زاویون کی مساوات ثابت کرکے آگے مطلب اپنا چوتھی شکل مقالہ اول سے نکالتا ہے سو اوسی طرح سے ہمارے اثبات مین بھی کام نکل سکتا ہے

نوین شکل مین لکھا ہے کہ اگر بعد مثلث متساوی الاضلاع د ی ف بناؤ اگر یہ شرط نہ لگائی جائے تو مثلث اوس طرف بنایا جائے جسطرف آ ہے تو ممکن ہے کہ نقطہ ف منطبق آ پر ہو اسی شکل بنانے مین خلل پڑے گا

گیارہوین شکل نتیجہ صریح اس شکل کا ممسن صاحب نے الحاق کیا ہے مگر اوسپر یہ اعتراض ہے کہ عمود ی ب کے نکلنے کی طرف نہین معلوم اگر گیارہوین شکل مقالہ اول کا حوالہ دین تو ضرور ہے کہ ا ب کو خارج کرین اور جب خارج کرین تو یہ ثابت کرنا چاہیے کہ وہ ایک ہی طرح خارج ہو سکتا ہے کیونکہ بغیر اوسکے ہم جان نہین سکتے کہ صرف ایک ہی عمود کھینچ سکتا ہی پس اسواسطے دعوی اور دلیل ایک ہی ہوتا ہے یعنی اس نتیجہ مین یہ بات مان لی ہے کہ ایک خط مستقیم ایک ہی طرح خارج ہو سکتا ہے حالانکہ یہ بات ایسی ہے اثبات طلب ہے جیسی کہ دو خطوط مستقیم متصل کے ساتھ ایک خط مستقیم کا مشترک ہونا **ممسن صاحب** کا نتیجہ صریح بعد تیرہوین شکل کے کب اعتراض ثابت ہو سکتا ہے اسواسطے کہ فرض کرو خط مستقیم ا ب دونون خطوط مستقیم ا ب س اور ا ب د مین مشترک ہی نقطہ ب سے کوئی خط مستقیم ب ی کھینچو تو بحکم (۱۳ ش ا م) زاویہ ا ب ی اور ی ب س ملکر برابر دو قائمون کے ہین اور ایسے ہی بحکم (۱۳ ش ا م) کے زاویے ا ب ی اور ی ب د ملکر برابر دو قائمون کے اسواسطے زاویہ

ا ب ی اور ی ب س ملکر برابر ہوئے زاویہ ا ب ی اور ی ب د کے۔ اسیواسطے زاویہ ی ب س برابر ہوا زاویہ ی ب د کے اور یہ باطل ہے۔ اگر سمسن صاحب کو یہ خیال کرنا ہی تہا کہ خط مستقیم دو خطوط مستقیم کا حصہ مشترک نہین ہوسکتا تو پانچوین شکل مین اس سے پہلے خیال کرنا چاہیے تہا اگر دو خطوط مستقیم کا ایک خط مستقیم ا ب مشترک ہوسکتا ہے اور ب سے جدا ہوتا ہے تو دو مختلف زاویے قاعدہ ب س کے نیچے پیدا ہونگے اور یہ ہے ہر ایک برابر ب س ح کے ہوگا بعض کی یہ رائے ہے کہ پہلی ہی شکل مین یہ امر مخفی طور پر فرض کر لیا گیا ہے کہ اوس اور ب س نقطہ س پر جہان وہ ملتی ہین حصہ مشترک نہین رکہتے سمسن صاحب اپنے اس نتیجہ کو (۱۱ ش ۱ م) سے پہلے کہین قاعدہ کے موافق نہین بیان کرتے۔ اس نتیجہ کو دور کرو اور دسوین علوم متعارفہ کی توسیع اس طرح کرو کہ اگر دو خط مستقیم دو نقطون پر منطبق ہون تو وہ اون نقطون کے اندر اور باہر بالکل منطبق ہوجائینگے پس اس علوم متعارفہ کے ہونے سے تمام جہگڑے تمام ہوتے ہین

بارہوین شکل خط کو غیر محدود اس سبب سے فرض کیا ہے کہ دائرہ اوس خط کو کاٹ سکے اقلیدس مین کہین تو یہ لکہا ہے کہ خط مستقیم زاویہ قائمہ بناتا ہوا کہینچو اور کہین یہ کہ عمود نکالو اقلیدس نے اوسمین یہ تمیز رکہی ہے کہ جہان عمود کسی خط مستقیم پر بحکم (۱۱ ش ۱ م) کے نکالا گیا ہے وہان تو یہ لکہا ہے کہ خط مستقیم زاویہ قائمہ بناتا ہوا کہینچو اور جہان عمود بحکم (۱۲ ش ۱ م) کے نکالا ہے وہان یہ لکہا ہے کہ عمود نکالو مگر اب زمانہ حال کی تحریرین اس قید کا خیال کچہ نہین

چودہوین شکل۔ گیارہوین علوم متعارفہ کا اول کام یہین آنکر پڑتا ہے کیونکہ ثبوت دعوی مین لکہا ہے کہ زاویہ ا ب س اور ا ب ی ملکر برابر دو قائمون کے اور زاویہ ا ب س اور ا ب د ملکر برابر دو قائمون کے تو بحکم (۱۱ علوم متعارفہ) کے پہلے دو قائمے برابر ہوئے پچہلے دو قائمون کے اور اب زمانہ حال کے بہت سے مولفین اقلیدس حوالہ فقط پہلے ہی علوم متعارفہ دیتے ہین اگر یہ حوالہ اس شکل مین کافی ہو تو ۱۵ ش اور ۱۴ ش مین بہی کافی ہوگا۔ ہم نے وقت کے سبب سے حوالہ کسی کا بہی نہین لکہا طالب علم خود سمجہہ جائیگا کہ پہلے اور گیارہوین علوم متعارفہ دونون کا حوالہ ضرور ہے

یہ حوالہ کی خطا ایسی ہے کہ اکثر زمانہ حال کے مولفین سے سرزد ہوئی ہے مثلاً پہلی شکل تیسرے مقالہ مین اس مقام پر کہ اسیواسطے زاویہ ف د ب برابر ہوا زاویہ ح د ب کے حوالہ پہلے علوم متعارفہ کا لکہنا غلط ہے گیارہوین علوم متعارفہ کا چاہیے۔

اثبات گیارہوین علوم متعارفہ کا۔ جسطرح سے گیارہوین علوم متعارفہ کہ ثابت کیا ہے وہ اصول اقلیدس کے موافق قابل اعتراض نہین ہے۔ پہلے۔ فرض کرو کہ اوس کے نقطہ آ پر قائمے زاویے ا ب بناتا ہے اور ح ی ہ کے نقطہ ی پر قائمے زاویے ی ف بناتا ہے تو زاویہ ب ا س برابر ہوگا زاویہ ح ی ف کے کوئی طول ا س لیکر ا د اور ی ہ اور ی ح سب برابر ا س کے بناؤ



اب ہ ی ف کو د ا س پر اسطرح سے چسپان کرو کہ ہ نقطہ تو نقطہ د پر ہو اور ہ ح منطبق د س پر ہو اور ب اور ف دونون ایک طرف د س کے ہون تو ح منطبق س پر ہوگا اور ی منطبق آ پر اور ی ف منطبق ا ب پر ہوگا اور اگر منطبق ا ب پر نہ ہو تو کسی اور طرح سے مثلاً ا ک کی طرح سے واقع ہوگا تو زاویہ د ا ک برابر ہوگا زاویہ ہ ی ف کے اور زاویہ س ا ک برابر زاویہ ح ی ف کے ہے لیکن زاویہ ح ی ف اور ف ی ہ آپسمین مساوی بموجب فرض کے ہین تو زاویہ د ا ک اور س ا ک بھی آپسمین مساوی ہوئے لیکن زاویہ د ا ب اور س ا ب بھی آپسمین مساوی بموجب فرض کے ہین اور زاویہ س ا ب بڑا ہے زاویہ س ا ک سے اسیواسطے زاویہ د ا ب بڑا ہوا زاویہ س ا ک سے تو زاویہ د ا ک بدرجہ اولی بڑا زاویہ س ا ک سے ہوا لیکن پہلے ثابت ہوچکا ہے کہ زاویہ د ا ک برابر ہے زاویہ س ا ک کے اور یہ باطل ہے۔ اسواسطے ی ف منطبق ا ب پر ہوگا اور اسیواسطے زاویہ ی ف ح منطبق ب ا س پر ہوگا اور اوسکی برابر ہوگا۔

۱۸ و ۱۹ ش۔ ان دونون شکلون کی وہی کیفیت ہے جو پانچوین اور چھٹی شکل کی تھی۔ اٹھارہوین شکل کا عکس اونیسوین شکل ہے اور برہان خلف سے ثابت ہوئی ہے

بیسوین شکل۔ اس شکل کا نام حماری ہے اور وجہ اسکی پروقلس اپنی شرح مین لکھتا ہے کہ یہ شکل ایسی بدیہی ہے کہ گدہے بھی اوسے سمجھتے ہین ثابت کرنے کی کیا ضرورت ہے اوسکی بداہت کا ادراک حواس سے ہوتا ہے لیکن یہ علم ہندسہ کی ہی خوبی ہے کہ وہ ایسی ظاہر بات کو بھی دلیل سے ثابت کرتا ہے کہ مثلث کے دو ضلعے ملکر تیسرے ضلع سے کیون بڑے ہوتے ہین لیکن بیسوین اور اکیسوین شکل کے اعتراض کا ٹھیک جواب یہ ہے کہ اگر ایسی شکلین ثابت نہ کی جائین تو ضرور علوم متعارفہ مین داخل ہوتین۔

اور اس سبب سے علوم متعارفہ کی تعداد بے ضرورت زیادہ ہوتی اور علوم مین علوم متعارفہ کی تعداد بڑہانی ممنوع اور معیوب ہے پس اگر یہ شکلین ثابت نہوتین تو علوم متعارفہ کی تعداد کو بڑہاتین اور علم کو عیب لگاتین

اکیسوین شکل یہان اس بات کو غور سے دیکھو کہ کیون مثلث کے اندر ضلع کے اطراف سے خطوط مستقیم کہینچے گئے ہین - اگر یہ شرط نہ لگائی جاے تو کچھ ضرور نہین کہ دو خطوط مستقیم مثلث کے اندر اوسکے کسی دو ضلعون سے کم ہون

بائیسوین شکل بعض مصنفین نے اقلیدس پر یہ اعتراض کیا ہے کہ اوس نے دوائر کا متقاطع ہونا ثابت نہین کیا لیکن سمسن صاحب نے اوسکا یہ جواب لکھا ہے کہ اقلیدس کو معلوم نہ تھا کہ ایسے احمق بھی اوسکی کتاب کو پڑہین گے جو اس شرط سے کہ د ف اور ف ح اور ح ہ ہین دو دو مل کے تیسرے سے بڑے ہین یہ نہ سمجھ جائین گے کہ دائرے ضرور متقاطع ہونگے ظاہر ہے کہ جو دائرہ ف کے مرکز پر اور ف ہ کے بعد کہینچا جائیگا وہ ف ہ سے نقاط ف اور ہ کے درمیان ضرور ملیگا اسواسطے ف د کم بہ نسبت د ہ کے ہی اور اسی دلیل سے ح کے مرکز اور ح ہ کے بعد پر دائرہ کہینچا گیا د ح سے درمیان د اور ح کے ملیگا اور یہ دائرے آپسمین ضرور ملین گے اسلئے کہ ن ہ اور ح ہ ملکر ف ح سے چہوٹے ہین -

اس شرط سے کہ ب اور س ملکر بہ نسبت ا کے بڑے ہین یہ ظاہر ہوتا ہے کہ ح کی مرکز پر جو دائرہ کہینچا جاے وہ بالکل اندر اوس دائرہ کے نہین ہوگا جو مرکز ب پر کہینچا جاے اور اوس شرط سے کہ ا اور ب ملکر بڑے س سے ہین یہ تحقیق ہوتا ہے کہ دائرہ جو مرکز ف پر کہینچا جائیگا وہ بالکل اندر اوس دائرہ کے جو ح پر کہینچا جاے نہین ہوگا اور اس شرط سے کہ ا اور س ملکر بڑے ب سے ہین یہ ثابت ہوتا ہے کہ اونمین ایک دائرہ دوسرے دائرہ کے اندر نہین واقع ہوگا پس اس سے معلوم ہوگا کہ دائرے باہم ملتے ہین یہ سمسن صاحب کا کہنا سچ ہے کہ اقلیدس اس ظاہر بات کو کیا ثابت کرتا - مگر اقلیدس کی کیفیت یہ ہے کہ کبھی تو وہ بہت ظاہر باتون کو ثابت کرتا ہے اور کہین ظاہر سمجھکر چہوڑ دیتا ہے اور اقلیدس کی اس عادت سے سمسن صاحب خوب واقف ہین

چوبیسوین شکل - شکل کے بنانے مین جو یہ شرط لگائی ہے کہ دی ایسا ضلع ہے کہ وہ دوسرے ضلع سے بڑا نہین ہے وہ سمسن صاحب نے لگائی ہے اگر یہ شرط نہو تو یہ اختلاف پیدا ہونگے اول ی ح س ف واقع ہو دوم اوسکے اوپر ہو سوم نیچے ہو اگر سمسن صاحب کی شرط کو مان لین تو یہ اور ثابت کرنا پڑیگا کہ ف نیچے ی ح کے واقع ہے - سمسن صاحب اوسکو اس طرح ثابت کرتے ہین کہ

یہ آسانی سے خیال مین آتا ہے کہ دح برابر دی کے ہے تو د کے مرکز پر اور نصف قطر دف پر جو دائرہ کینچا جائیگا اوسکے محیط پر نقطہ ح واقع ہوگا اور اوس حصہ مین واقع ہوگا جو ی ف سے اوپر کی طرف ہے اسلئے کہ دف کے اوپر دح واقع ہے اور زاویہ ی دح بڑا زاویہ ی دف سے ہے اور اوسکو ہم اس طرح ثابت کرتے ہین کہ فرض کرلو کہ دف اور ی ح کا نقطہ تقاطع ہ ہے تو بحکم (۱۶ ش ام) کے زاویہ دفح زاویہ دی ح سے بڑا ہے اور بحکم (۱۹ ش ام) کے زاویہ دی ح بہ نسبت زاویہ دہی ح کے کم نہین ہے اسیواسطے زاویہ دفح زاویہ دی ف سے بڑا ہوا اسیواسطے بحکم (۲۰ ش ام) کے دح سے دہ کم ہوا پس دہ کم بہ نسبت دف کے ہوا اگر ہمسن صاحب کی شرط کو الغا کرین تو سوائے اوس صورت کے جو اقلیدس مین مذکور ہین دو اور صورتین پیدا ہونگی اگر ی ح پر ف واقع ہوتا ہے تو ظاہر ہے کہ ی ف بہ نسبت ی ح کے کم ہے اگر ی ح کے اوپر ف واقع ہوتا ہے تو بحکم (۲۱ ش ام) کے دف اور ی ف کا مجموعہ دح اور ی ح کے مجموعہ سے کم ہوگا اور اسیواسطے ی ح سے ی ف کم ہوگا

چھبیسوین شکل بعد ۲۲ ش ام کے یہ بات معلوم ہوجائیگی کہ اگر ایک مثلث کے دو زاویے علی التناظر برابر دوسرے مثلث کے دو زاویون کے ہون تو اونکے تیسرے زاویے بھی آپس مین برابر ہون گے پس اس طرح سے چھبیسوین شکل کی دو صورتین اس ایک دعوی مین آجاتی ہین کہ اگر مثلث کے تینون زاویے علی التناظر برابر دوسرے مثلث کے تینون زاویون کے ہون اور ایک ضلع مقابل کسی زاویہ کا دوسرے مثلث کے اوسی زاویہ کے مساوی زاویہ کے مقابل ضلع کے برابر ہو تو دونون مثلث سب طرح ہی آپس مین برابر ہون گے

اول شکل سے لیکر ۲۶ ش تک اقلیدس کے مقالہ اول کا ایک جدا حصہ ہے اس حصہ مین نتائج عظیمہ ۴ و ۹ و ۲۶ شکلون مین ثابت ہوئی ہین ان تینون شکلون مین یہ ثابت کیا ہے کہ اگر مثلثون کے تینون جزو آپسمین برابر ہون تو مثلث سب طرح سے آپس مین برابر ہین اور مثلث کے جزو سے ضلع یا زاویہ اوسکا مراد ہے پس ایسے موقع پر طالبعلم کے دل مین تین تین جزون کے مطابقت کے بعد اور دو خیال پیدا ہونگے کہ ایسی صورتون مین کیا نتیجہ ہوگا **اول** اگر ایک مثلث کے تینون زاویے برابر دوسرے مثلث کے تینون زاویون کے ہون **دوم** اگر ایک مثلث کے دو ضلعے برابر علی التناظر دوسرے مثلث کے ضلعون کے ہون اور ایک ضلع کے مقابل کا زاویہ برابر ہو دوسرے مثلث کے ایک زاویہ کے جو پہلے ضلع کے سامنے واقع ہے۔ پہلی صورت مین تو بعد (۲۹ ش ام) کے طالبعلم کو صاف ظاہر ہوجائیگا کہ مثلث آپسمین برابر نہین ہونگے دوسری صورت مین بھی ضرور نہین کہ مثلث

مساوی ہون مثلاً یہ امر بخوبی عیان ہو سکتا ہے اگر (۱۱ ش ام) ہین فرض کرین کہ خط ف ب ملایا گیا ہی تو مثلث ف ب ح اور ف ب د مین ضلع ف ب اور زاویہ ف ب س مشترک ہین اور ضلع ف ی برابر ہے ضلع ف د کے یعنی صورت دوم کی شرائط پائی جاتی ہین اور پھر بھی مثلث اسطرح سے آپسمین مساوی نہین لیکن بعض خاص صورتین ایسی ہین کہ اونمین مثلث مساوی ہونگے اونکا حال لکھا جاتا ہے

اگر دو مثلثون مین دو دو ضلعے علی التناظر مساوی ہون اور دو مساوی اضلاع کے مقابل کے زاوئے آپسمین برابر ہون اور دو باقی مساوی اضلاع کے سامنے کے زاوئے کیا دونون حادی ہون کیا دونون منفرجہ یا اونمین سے ایک قائمہ ہو تو مثلث سب طرح سے آپسمین مساوی ہونگے

فرض کرو کہ ا ب س اور د ی ف دو مثلث ہین اور اونمین ضلع ا ب برابر د ی کے اور ب س برابر ی ف کے اور زاویہ ا برابر زاویہ د کے

صورت اول فرض کرو کہ زاویہ س اور ف دونون حادے ہین اگر زاویہ ب مساوی زاویہ ی کے ہو تو بحکم (۴ ش ام) کے مثلث ا ب س برابر مثلث د ی ف کے ہوگا اور دعوی ثابت ہوگا اگر زاویہ ب برابر زاویہ ی کے نہو تو ضرور ہے کہ ایک اونمین دوسرے سے بڑا ہو فرض کرو زاویہ ب بڑا زاویہ ی سے ہے تو زاویہ ا ب ح برابر زاویہ ی کے بناؤ تو بحکم (۲۶ ش ام) کے مثلث ب ح ا اور د ی ف سب طرح آپسمین مساوی ہوئے اور اس لئے ب ح برابر ہوا ی ف کے اور زاویہ ب ح ا برابر ہوا زاویہ ی ف د کے لیکن زاویہ ی ف د بموجب فرض کے حادہ ہے تو زاویہ ب ح ا بھی حادہ ہوا اور اسی لئے بحکم (۱۳ ش ام) کے زاویہ ب ح س منفرجہ ہوا اور یہ ثابت ہو چکا ہے کہ ب ح برابر ہے ی ف کے اور ی ف برابر ہے ب س کے تو ب س برابر ہوا ب ح کے اور سیوا اسطے بحکم (۴ ش ام) کے زاویہ ب ح س برابر ہوا زاویہ ب س ح کے اور زاویہ ب س ح بموجب فرض کے حادہ ہے تو زاویہ ب ح س بھی حادہ ہوا اور پہلے وہ منفرجہ ثابت ہو چکا ہے سو یہ باطل ہے اس سے ثابت ہوا کہ زاوئے ب اور ی چھوٹی بڑی نہین بلکہ مساوی ہین اور جب مساوی ہین تو مثلث بحکم (۴ ش ام) کے آپسمین سب طرح برابر ہوئے دوسری صورت فرض کرو کہ زاویہ س اور ف منفرجہ ہین تو بھی اسیطرح سے دعوی ثابت ہو جائیگا صورت آخر مین فرض کرو کہ زاویون مین سے ایک مثلاً س قائمہ ہی اگر زاویہ ب

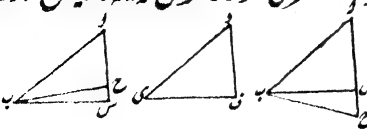

برابر زاویہ ی کے نہو تو زاویہ ا ب ح برابر زاویہ ی کے بنایا تو بطور سابق ثابت ہو سکتا ہے کہ ب ح برابر ہے ب س کے اسیواسطے زاویہ ب س ح اور ب ح س آپسمین مساوی ہوئے اور زاویہ س قائمہ ہے تو زاویہ ب ح س بھی قائمہ ہوا اسلئے مثلث ب س ح کے دو زاوئے ملکر برابر دو قائمون کے ہوئے اور یہ بحکم (۱۷ ش ام) محال تو ثابت ہوا کہ زاوئے ب اور ی غیر مساوی نہین بلکہ برابر ہین اسلئے (۴ ش ام) کے مثلث ا ب س اور د ی ف سب طرح سے آپس مین مساوی ہوئے - اگر زاویہ ا اور د دونون قائمے یا منفرجے ہون تو زاویہ س اور ف مین ہر ایک بحکم (۱۷ ش ام) کے حادہ ہوگا اگر ا ب بہ نسبت ب س کے کم ہے اور د ی بہ نسبت ی ف کے کم ہے تو بحکم (۱۹ ش ام) کے زاویہ س اور ف دونون حادے ہونگے

۱۸ ش سے ۳۴ ش تک پہلے مقالہ کا دوسرا حصہ ہے اونمین خطوط متوازیہ کے مسائل سے بحث ہوئی ہے ۲۹ شکل مین بارہوین علوم متعارفہ کا اول ہی مرتبہ حوالہ دیا گیا ہے - تمام اصول علم ہندسہ مین کوئی مسئلہ ایسا دشوار نہین ہے جیسا کہ خطوط متوازیہ کا مسئلہ مشکل ہے اور بہت سی کوشش اور سعی اوسکی مشکلات کے حل کرنے مین مہندسین نے کی ہے اور چاہا ہے کہ اوسکو اقلیدس سے اچھی طرح حل کرین - ہم اون باتون کا ذکر نہین کرین گے جو اوس خاص مسئلہ کے باب مین مختلف مہندسین نے لکھے ہین جس طالبعلم کو شوق ہو وہ پوٹ اقلیدس کی شرح مین دیکھے یہان فقط یہ لکھنا کافی ہے کہ جن مہندسین نے اقلیدس سے اس مسئلہ مین بڑا اختلاف کیا اور ترکیبین نئی اس مسئلہ کی حل کی نکالین اونہون نے ضرور اول کوئی علوم متعارفہ لکھا ہے جو اوسی طرح دشواری اور دقت مین ڈالتا ہے جیسا کہ اقلیدس کا علوم متعارفہ بلکہ اقلیدس نے علوم متعارفہ کے ماننے کے بعد کچھ شکلون کی اثبات مین دقت نہین رہتی اور اورون کے علوم متعارفہ ماننے کے بعد بھی بڑی پیچیدہ پیچیدہ شکلین ثابت کرنی پڑتی ہین - مگر ایک ترمیم اس علوم متعارفہ کی ہوئی ہے جس سے البتہ کچھ آسانی کی صورت پیدا ہوتی ہے اور وہ ترمیم یہ ہے کہ دو خطوط مستقیم متقاطع ایک خط مستقیم کے متوازی نہین ہو سکتے اور اس ترمیم سے ۲۹ ش کو اس طرح ثابت کیا ہے کہ زاویہ ب ح ہ اور ح ہ د ملکر کم ہوئی دو قائمون سے تو ضرور ب ح ہ اور ح ہ د خارج ہونے سے آپسمین ملین گے اسوجہ سے کہ جب کوئی خط مستقیم نقطہ ح سے ایسا کھینچین کہ وہ دو زاوئے داخلے ملکر برابر دو قائمون کے پیدا کرے تو بحکم (۲۸ ش ام) کے یہ خط مستقیم متوازی ہوگا س د کا اور بموجب ہمارے علوم متعارفہ کے نقطہ ح سے گذرتے ہوئے دو خط مستقیم ایک خط مستقیم کے متوازی نہین ہو سکتے اس ترمیم کو

بڑے بڑے مہندسین نے پسند کیا ہے اور اونمین ڈاکٹر پلے فیر اور ڈی مورگن صاحب بہی شریک ہین اونہون نے اس علوم متعارفہ کو بہت پسند کیا ہے اور لکہا ہے کہ خطوط متوازیہ کی بہت دقتین اوس سے رفع ہوجاتی ہین اور اس سے بہتر کوئی ترکیب ابتک ایجاد نہین ہوئی

تیسوین شکل - اسی طرح ثابت ہوسکتا ہے کہ اگر ا ب اور ی ف مین سے ہر ایک س د کا متوازی ہو تو وہ آپسمین متوازی ہون کے اقلیدس مین جو صورت ثابت کی وہ تو نہایت ہی ظاہر ہے کچہہ ثبوت کی محتاج نہین ظاہر ہے کہ جب خطوط ا ب اور س د ی ف سے جو اون کے درمیان مین واقع ہے نہین ملتے تو وہ آپسمین کیسے مل سکتی ہین

بتیسوین شکل - یہ نتیجے سمسن صاحب نے ایزاد کئے ہین دوسرے نتیجہ مین زاویہ خارجہ مستقیمۃ الاضلاع کے معنی یہ ہین کہ دو ضلعے مستقیمۃ الاضلاع کے جس نقطہ پر ملتے ہین اوس نقطہ سے ایک ضلع خارج کیا جاے تو زاویہ اس نقطہ پر درمیان اس حصہ محدودہ اور ضلع کے جو خارج نہین ہوگا اوسکو زاویہ خارجہ کہین گے اور ضلع خواہ کوئی سا اون دونون مین سے خارج کیا جاے بات ایک ہی ہے اس لئے کہ بحکم (۵ ش ا م) کے دونون اوئے جو اس طرح سے پیدا ہوتے ہین برابر ہوتے ہین اقلیدس نے شکلین مستقیمۃ الاضلاع وہی لکہی ہین جنمین سب زاویون کا رخ اندر کی طرف واقع ہو - اسلئے ہم دوسری طرح کی شکلین کہنچکر بتلاتے ہین جنمین رخ زاویہ کا باہر واقع ہو اس شکل مین زاویہ ا ف س کا رخ باہر کی طرف واقع ہے اور وہ دو قائمون سے کم ہے لیکن وہ زاویہ داخلہ شکل ا ف س د ی کا نہین ہے

یہان زاویہ داخلہ وہ زاویہ ہے جو چار قائمون سے بقدر زاویہ س ف ا کے کم ہے

اس لئے زاویہ داخلہ کو جو زائد از دو قائمہ ہو زاویہ داخلہ مکررہ کہتے ہین نتیجہ اول تو اون شکلون مین بہی جن مین ایک زاویہ یا کئی زاوئے داخلہ مکررہ ہون ثابت ہی مگر نتیجہ دوم نہین ثابت ہوتا اگر دو مثلثون کے دو زاوئے آپسمین علی التناظر متساوی ہون تو تیسرے زاوئے آپسمین مساوی ہونگے یہ نتیجہ بہت بکار آمد ہے اکثر مقام پر اصول ہندسہ اقلیدس مین اوسکا حوالہ دینا پڑتا ہے اور وہ ثابت اس طرح سے ہوتا ہے کہ بموجب (۱ علوم) متعارفہ دو قائمے برابر دو قائمون کے ہوتے ہین تو بحکم (۳۲ ش ا م) کے ایک مثلث کے تینون زاوئے ملکر برابر دوسرے مثلث کے تینون زاویون کے ہوئے اور جب بموجب (۱ علوم) کے ایک مثلث کے دو زاویون کا مجموعہ برابر ہے

دوسرے مثلث کے دو زاویون کے مجموعہ کے تو بحکم (۳ علوم متعارفہ) کے تیسرے زاویے بھی آپسمین برابر ہوے اس شکل کے اور اس خط مستقیم پر بغیر اوسکے بڑہانے کے ایک طرف سے ایک خط مستقیم زاویہ زاویہ قائمہ بناتا ہوا نکال سکتے ہین

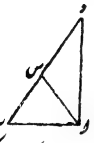

فرض کرو کہ اب خط معلوم ہے اور مطلوب یہ ہے
کہ نقطہ ا سے اب پر ایک خط مستقیم زاویے قائمے
بناتا ہوا نکالین و ب پر ایک مثلث متساوی الاضلاع اب س بناؤ اور ب س کو د تک ایسا
خارج کرو کہ س د برابر ب س کے ہو اور ملاؤ ا د تو اب پر ا د زاویے قائمے بنائیگا۔
اسلئے کہ بحکم (۵ ش ام) کے زاویہ س ا د برابر ہے زاویہ س د ا کے اور زاویہ س ا ب برابر ہے زاویہ
س ب ا کے۔ اسیواسطے بحکم ۲ علوم متعارفہ کے زاویہ ب ا د برابر ہے دو زاویون ا ب د اور
ب ا د کے اسیواسطے (۳۲ ش ام) کے زاویہ ب ا د کے قائمہ ہوا

۴۵ شکل سے ۴۸ ش تک تیسرا حصہ مقالہ اول کا ہے اوسمین سطوح کا مساحتاً یعنی رقبہ مساوی ہونا
ثابت کیا ہے گو وہ طولاً و عرضاً ایک سے نہون

پینتیسوین شکل سمسن صاحب نے اقلیدس کے ثبوت کو اس سبب سے بدل دیا ہے کہ اوسمین شکل
کی تین صورتین ثابت کرنی پڑتی تہین۔ اور وہ اس شکل کی اثبات مین تیسرے علوم متعارفہ کو بھی
نئی طرح سے کام مین لائے ہین کہ منحرف مین سے ایک مثلث کو کم کیا اور پہر اوسی منحرف مین
دوسرا مثلث کہ پہلے مثلث کی برابر تہا تفریق کیا اور پہر کہا کہ باقی آپسمین برابر رہین اگر اقلیدس کی
طور پر اس شکل کو ثابت کرین تو تین صورتین پیدا ہونگی اور اونمین سے دو اختلاف ثبوت کے آخر بیان
مین واقع ہونگے باہین طرف کی شکل مین فرض کرو کہ نقطہ تقاطع ب ی اور د س کا ح ہے تو مثلث
ا ب ی برابر ہوگا مثلث د س ق کے ہر ایک مین سے مثلث د ح ی کو تفریق کرو تو شکل ا ب ح د
برابر ہوگی شکل ی ح س ق کے مثلث ح ب س کو ہر ایک پر زیادہ کرو تو متوازی الاضلاع
ا ب س د برابر ہوگی متوازی الاضلاع ی ب س ق کے اور دائین طرف کی شکل مین مثلث ا ب ی
برابر ہے مثلث د ق س کے شکل ب ی د س کو ہر ایک پر زیادہ کرو تو متوازی الاضلاع ا ب س د
برابر متوازی الاضلاع ی ب س ق کے ہوگی۔ اس شکل مین فقط متوازی الاضلاع مساحتاً
مساوی ہین اور طولاً و عرضاً اوسکی مساوات ضرور نہین سطحون کا متساوی ہونا خواہ مساحتاً ہو
خواہ طولاً اور عرضاً دونون صورتون مین یہ کہا کرتے ہین کہ وہ آپس مین متساوی ہین

اور قرینہ سے سمجھہ جاتے ہین کہ وہ کس لحاظ سے متساوی ہین آیا مساحتاً یا طولاً عرضاً ایک صاحب نے اس شکل کو اس طرح ثابت کیا ہے کہ سطوح متوازی الاضلاع کو زوج حصون مین تقسیم کیا اور پہر اونکو آپسمین منطبق کرکے مساوات کو دکہلایا

اڑتیسوین شکل - اس شکل کا یہ اختلاف بکار آمد بہت ہی کہ مثلث برابر قاعدون پر واقع ہون اور اونکے راس مشترک ایک نقطہ پر ہون

چالیسوین شکل - اس دعوی کو بغیر برہان خلف کے اس طرح ثابت کرتے ہین کہ ب د اور س د کو ملاؤ بحکم (۳۸ ش ام) مثلث د ب س اور د ی ف آپسمین برابر ہین اور مثلث ا ب س اور د ی ف بموجب فرض کے آپسمین برابر ہین تو بموجب اول علوم متعارفہ کے مثلث د ب س اور ا ب س آپسمین برابر ہوئے اور اسیواسطے بحکم (۳۹ ش ام) کے ب س کا متوازی ا د ہوا

چوالیسوین شکل - اس شکل مین اقلیدس نے یہ نہین ثابت کیا کہ ا ہ اور ف ح آپسمین ملین گے ولیم سن صاحب لکہتے ہین کہ اگر شکل اسطرح سے بنائی جاے کہ ح ہ برابر ب ا کے بنایا جاے اور ہ ا ملایا جاے تو وہ بموجب (۳۳ ش ام) کے متوازی ح ب کا ہوگا تو اس صورت مین شکل کا ثبوت اقلیدس کے اثبات کے ساتہہ زیادہ تر مشابہت پیدا کریگا

سینتالیسوین شکل - یہ علم ہندسہ مین عجیب اور غریب شکل ہے اور اوسکا موجد حکیم فیثاغورس مشہور ہے اور بہت سی کہانیان اوسکے باب مین مشہور ہین اوسکا اثبات طرح طرح سے مہندسین نے کیا ہے اونمین سب سے زیادہ عمدہ یہ اثبات ہے جو نیچے مرقوم ہے - فرضکرو کہ دو مربعے ا ب س د اور د ی ف ح اس طرح ملا کر کی گئی ہین کہ اونکے قاعدے ایک خط مستقیم مین ہین ح ہ اور ک ی مین سے ہر ایک برابر ا ب کے بناؤ اور ہ س اور ہ ف اور س ک اور ک ف ملاؤ تو یہ ثابت ہو سکتا ہے کہ مثلث ہ ب س سب طرح سے برابر ہے مثلث ف ی ک کے اور مثلث ک د س برابر مثلث ف ح ہ کے

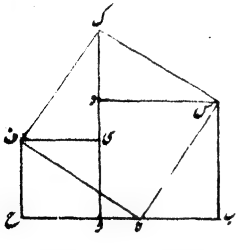

اسیواسطے دونون مربعے برابر شکل س ک ف ہ کے ہوئی اور بموجب (۳۲ ش ام) کے ثابت ہو سکتا ہے کہ شکل س ک ف ہ ایک مربع ہے اور اوسکا ضلع س ہ وتر اوس مثلث قائم الزاویہ کا جسکے اضلاع س ب اور ب ہ برابر ہین دونون معلوم مربعون کے اضلاع کے

کسی شکل کا دعوی اس اثبات مین ۳۲ ش سے آگے نہین آیا اور یہ بہی اوسمین خوبصورتی ہے کہ اوس سے

معلوم ہوتا ہی کہ مربعے کسطرح کترے جائین کہ وہ تیسرے مربعے پر ٹھیک منطبق آجائین

حاشیہ از طرف مترجم

یہ شکل ایسی حسین اور خوبصورت ہی کہ اوسکا نام عروسی کہا گیا ہے۔ واقعی وہ علم ہندسہ کی کیا سارے علوم ریاضیہ کی دلہن ہے اور حجلہ مین بنی سنوری بیٹھی ہے یہ ابتک تحقیق نہین ہوا کہ اوسکا حسب نسب کیا ہی۔ کوئی یونانی کہتا ہی کوئی ہندی بتلاتا ہے۔ مین اپنے نزدیک یہی جانتا ہون کہ اوسکا جنم اسی ملک مین ہوا ہے۔ ہندؤن کو علم ہیئت مین مرتفع اشیا کے سایہ کے ناپنے کی ضرورت پڑتی ہے اوسکے دریافت کرنیکے یہ قاعدے اونکے بیان تھے کہ فرض کرو کہ اب کوئی مرتفع شے ہے تو وہ اس کو ملاکر اوسپر عمود ب د ڈالتے تھے اور اس کو س د مین ضرب دیکر جذر لیتے تھے اوس سے ب س معلوم ہوجاتا تھا اور اس اور ا د کو آپسمین ضرب دیکر جذر لینے سے ا ب کو معلوم کر لیتے تھے غالباً فیثاغورس کو یہ قاعدہ ہندؤن کا معلوم ہوا اوسنے اس دلہن کے پرانے لباس کو بدلکر اور اوسکو پہیرے دیکر یہ نیا لباس پہنا دیا کہ اس اور س د کو ضرب نہ دے بلکہ اس اور س د سے قائم الزاویہ بنائے اور ب س کے مربع کی برابر ثابت کی اور ایسے ہی اس اور ا د قائم الزاویہ بنا کر ا ب کے مربع کی برابر بنائے۔ اقلیدس کی ہر شکل نئی طرح سے ثابت ہوسکتی ہے مگر کوئی ثبوت اوسکا ایسا نہین پیدا ہوتا کہ وہ اقلیدس کے اثبات سے آسان اور بے تکلف ہو اور اوسپر کوئی اعتراض نہ وارد ہوتا ہو۔ اس شکل کو یون بھی ثابت کرتے ہین کہ فرض کرو کہ ا ب س د ایک مربع ہے اور اضلاع پر نقاط ی اور ف اور ح اور د ایسے مقرر کئے گئے ہین کہ د ی اور ا ف اور ح ب اور ہ س آپسمین برابر ہین اور نقاط ی اور ہ اور ح اور ف ملائے گئے ہین تو ی ہ ح ف مربع ہے۔ ا د کا متوازی ف ک اور اس کا متوازی ی م کھینچو تو ظاہر ہے کہ د ی ل ک اور ب ف ل م مین سے ہر ایک مربع ہے اور ان دونون مربعون اور مربع ح ف ہ ی مین سطح ح ہ ل ف کے اور سطح ک ی د برابر ہے ل ن ہ کے اسلئے ح ب اور ب ف پر جو مربع بنائے جائین وہ برابر اوس مربع کے ہوئے جو ح ف پر بنائے جائین غرض ایک صورت ہی نہین ہے بلکہ بہت طرح سے یہ ثابت ہوتی ہے

دوسرا مقالہ

اس مقالہ مین مختلف طور سے خطوط مستقیم کو حصون مین تقسیم کیا ہی اور پھر انکی سطوح کے تعلقات اور ارتباطات کو بتلایا ہی جب ایک خط دو ٹکڑون مین تقسیم کیا جاے تو ہر ایک ٹکڑے کو حصہ کہتے ہین مگر حصہ کی یہ تعریف کرنی مناسب معلوم ہوتی ہے کہ اگر ایک خط مستقیم پر یونہین یا اوس سے بڑھا کر کوئی نقطہ مقرر کرین تو ہر خط مستقیم کو جو مابین اس نقطہ اور خط مستقیم کے ہر طرف کی واقع ہو اوسے حصہ کہتے ہین اور تمیز کرنیکے لیے جب نقطہ خط محدود کے حصہ محدود مین مقرر کیا جاے تو حصص کو حصص خارجی کہتے ہین اور جب نقطہ خط کے اندر ہی مقرر کیا جاے تو حصص کو حصص داخلی اور اول تقسیم کا نام تقسیم خارجی اور دوسری تقسیم کا نام تقسیم داخلی ہی۔ طالب علم کو اس مقالہ مین یہ بات جاننی ضرور ہی کہ اسکے اول دس شکلون کو بعض اصول علم حساب اور جبر مقابلہ کے ساتھ مماثلت ہے۔

فرض کرو کہ اب س د ایک متوازی الاضلاع قائم الزاویہ ہے جو ۴ انچہ طول مین اور ۳ انچہ عرض مین ہے اب اگر اضلاع متوازی الاضلاع کے متوازی خطوط مستقیم کھینچکر اوس کے حصے بنائین تو بارہ مربع بنین گے اور اونمین سے ہر ایک مربع اوس ضلع پر کھینچا ہوگا جسکا طول ایک انچہ سے تعبیر ہوتا ہے مربع جو ایک خط پر جسکا طول ایک انچہ ہو کھینچا جاتا تو اوسکو اختصار کے لیے ایک مربع انچہ یا ایک انچہ کا مربع کہتے ہین پس معلوم ہوا کہ جو متوازی الاضلاع قائمہ الزاویہ ۴ انچہ طول مین اور ۳ انچہ عرض مین ہے

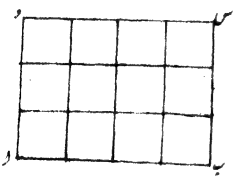

وہ بارہ بعون انچہ مین تقسیم ہو سکتی ہے اور ان بارہ مربع انچ کو اوسکی مساحت یا رقبہ کہتے ہین اور علی ہذا القیاس ایسی صورت اور صورت مین ہوگی مثلاً ایک متوازی الاضلاع قائمہ الزاویہ ۱۲ فیٹ طول اور ۷ فیٹ عرض مین ہو تو ۱۲ گنا ۷ مربع فیٹ یعنی ۸۴ مربع فیٹ رقبہ اوسکا ہوگا

یہ بات ہمیشہ یاد رکھنی چاہیے کہ طول اور عرض ایک ہی پیمانہ سے پیمایش ہوتی ہین اگر وہ مختلف پیمانون سے پیمائش ہون تو اونکی تحویل ایک ہی پیمانہ کی طرف کرنی چاہیے مثلاً ایک سطح کا طول ایک گز اور عرض ڈیڑھ فٹ ہو تو ان پیمانون کو ایک پیمانہ کی طرف تحویل کرنا چاہیے یعنی طول ۳۶ انچہ اور عرض ۱۸ انچہ بنا لینا چاہیے تو رقبہ اوسکا ۶۴۸ مربع انچہ ہوگا پس ان بیانون سے ثابت ہوا کہ سطح کے طول اور عرض کے پیمانہ واحد طولانی کی تعداد کو جو اعداد تعبیر کرین اونکا حاصل ضرب رقبہ سطح کو تعبیر کریگا اور اوسمین اوس پیمانہ واحد کے مربعون کی تعداد برابر حاصل ضرب کے اعداد کے ہوگی۔

اب فرض کرو کہ ایک مربع ہے جسکا ضلع ۵ انچہ سے تعبیر ہوتا ہے تو بموجب ہمارے قاعدہ کے اوسکے رقبہ مین ۲۵ مربع انچہ ہونگے اور حساب مین بھی عدد ۲۵ کا عدد ۵ کا مربع ہے پس اس سے معلوم ہوا کہ اگر کوئی پیمانہ واحد طول کا ناپنے والا کسی خط مین پوری دفعہ شامل ہو تو اوس خط کا مربع اوس عدد کے مربع سے تعبیر ہوگا جو خط کے طول کو تعبیر کرتا ہے۔ دو عددون کے حاصل ضرب مین اور قائم الزاویہ کے دو ضلعون کی سطح مین اور ایک خط مستقیم کے مربع اور عدد کے مربع مین باہم ایک مناسبت اور تعلق ہے اور اسی سبب سے اس مقالہ کے اول دس شکلین علم حساب اور جبر مقابلہ کے بھی دس مسئلے ہین طالبعلم کو یاد رکھنا چاہئے کہ جب ہم کہتے ہین ایک خط مستقیم کا مربع تو اوس سے ہمارا مطلب شکل ہندسی سے ہوتا ہے اور جب عدد کا مربع کہتے ہین تو یہ بات علم حساب کی ہوتی ہے اور جب خط مستقیم کا مربع لکھتے ہین تو مطلب اوس مربع سے ہوتا ہے کہ اوس خط مستقیم پر بنایا جائے اقلیدس نے ۴۷ اور ۴۸ شکلون مین تو یہ لکھا ہے کہ اضلاع پر جو مربعے بنائے جائین مگر بعد ازان اضلاع کے مربعے لکھے ہین اور یہی محاورہ تمام اقلیدس مین لکھا گیا ہے انہین اصول کے موافق جو ہم نے بیان کئے ہین بعض مولفین اقلیدس نے اس مقالہ کی شکلون کا اثبات جبریہ اور حسابیہ لکھا ہے لیکن اول دس شکلون کو جبر مقابلہ سے لکھنا جیسا کہ بعض شارحین نے لکھا ہی بیفائدہ ہے۔ اسواسطے کہ جس شخص کو جبر مقابلہ اور حساب آتا ہے اوسکو ثابت کرنا اونکا آسان ہے اسلئے ہمنے اونکو جبر مقابلہ سے ثابت کرکے لکھنا ضرور نہین جانا یہان اس بات کا لکھنا ضرور ہے کہ انکے اثبات مین اکثر یہ ہوتا ہے کہ قائم الزاویہ کے اضلاع کسی پیمانہ واحد کے رقبون مین ٹھیک ٹھیک بیان ہوتے ہین لیکن طالب علم آگے جانے گا کہ یہ بات ہمیشہ نہین ہوتی بلکہ جہان مقادیر متباین آجاتی ہین وہان ٹھیک ٹھیک اضلاع کی مقدار پیمانہ واحد مین نہین معلوم ہوتی اگر اس طرف ہم توجہ کرین اور کچھ لکھین تو علم ہندسہ کی حد سے پرے نکل جاوینگے۔ اس لئے اسے فروگذاشت کرتے ہین اول دس شکلین اقلیدس کی مختلف طرح سے مرتب ہوسکتی ہین اس ترتیب کا کچھ مختصر بیان لکھتے ہین لیکن ہم یہ کہے دیتے ہین کہ اونکی ترتیب کی اولٹ پلٹ اور اختلاف سے بندی اپنے تئین متشوش نہ کرے۔ ۲ اور ۳ شکل پہلی شکل کی خاص صورتین ہین گویا وہ حقیقت مین پہلی ہی شکل مین ثابت ہوگئی ہین

۴ شکل ایک مہتم بالشان شکل ہے اوسکی ایک خاص صورت ضرور بیان کرنی چاہئے کہ مربع ایک خط مستقیم کا جو دو مساوی خطون سے مرکب ہوا ہو جو چندان مساوی خطون مین سے ہر خط کے مربعے سے ہوتا ہے۔ پانچوین اور چھٹی شکل کے دعوی اس طرح سے ایک دعوی مین بیان

ہو سکتے ہین کہ سطح دو خطوط مستقیم کے مجموعہ اور تفاوت کی برابر ہوتی ہے اون مربعون کے فرق
کی جو اون خطون پر بنائی جائین یا اس طرح سے کہو کہ سطح دو خطوط مستقیم کے مع اوس مربع کے جو
اونکے نصف فرق پر بنایا جاوے برابر ہوتی ہے اوس مربع کی جو اونکے نصف مجموعہ پر بنایا جاوے
ساتوین شکل کا دعوی بون بیان ہو سکتا ہے کہ دو خطوط مستقیم کی فصل پر مربع بنایا گیا
اون دونون خطون کے مربعون سے بقدر دو چند سطح اون خطوط کے کم ہوتا ہے اور اس
شکل اور (۴ ش ۲ م) اور دو علوم متعارفہ سے ہم یہ نتیجہ نکالتے ہین کہ دو خطوط مستقیم کے مجموعہ
کا مربع مع اونکے فرق کے مربع کے دو چند ہوتا ہے اون خطوط کے مربعون کے مجموعہ سے
اور اس دعوی سے دونون دعوے نوین اور دسوین شکل کے ثابت ہو جاتے ہین اس لیے یہ دعوی
اون دونون شکلون کا قائم مقام ہو سکتا ہے آٹھوین شکل خاص صورت اوس دعوی کی جو
پہلے ۵ اور ۶ شکلون کے حاشیہ مین لکھا ہے مگر اوس کے ساتھ خاص صورت (۴ ش ۲ م) کی
بھی ملحوظ رہے۔ ۱۱ شکل جب طالبعلم کو اصول جبریہ مین مہارت ہوگی تو اوسکو معلوم ہوگا کہ یہ
شکل مقالہ دوم کی مساوات درجہ دوم کا حل ہے۔

۱۲ و ۱۳ شکل ۱۰ شکلین ۴ شکل کے ساتھ خوب مناسبت رکھتی ہین اور بہت بکار آمد
ہین علم مثلث مین وہ بہت جگہ آتی ہین گو اقلیدس مین وہ کہین کام نہین آتین جب ۴ ش کا عکس
صحیح ہے ویسا ہی ۱۲ اور ۱۳ کا عکس صحیح ہے ۱۴ شکل کا عکس ۸ ہین اقلیدس نے ثابت کیا ہے مگر اونکا
عکس نہین ثابت کیا ۱۲ کا عکس تو یہ ہوگا کہ اگر مثلث کے ایک ضلع کا مربع باقی دو ضلعون کے مربعون
کے مجموعہ سے بڑا ہو تو زاویہ پہلے ضلع کے سامنے کا منفرجہ ہوگا۔ اسواسطے کہ اگر منفرجہ نہو گا تو صرور ہے
کہ قائمہ یا حادہ ہوگا اگر قائمہ ہے تو اوس کے سامنے کے ضلع کا مربع برابر ہوگا باقی دو ضلع کے مربعون کے
اور یہ خلاف فرض ہے اگر حادہ ہوگا تو اوسکے سامنے کے ضلع کا مربع چھوٹا ہوگا باقی دو ضلعون کے مربعون
سے اور یہ بھی خلاف فرض ہے پس اس سے ثابت ہوا کہ زاویہ منفرجہ ہے علی ہذا القیاس ۱۳ شکل
کا عکس یہی ثابت ہوگا کہ اگر مثلث کے ایک ضلع کا مربع کم بہ نسبت باقی دو ضلعون کے مربعون کے
ہو تو ثابت ہوگا کہ اوس پہلے ضلع کے سامنے کا زاویہ حادہ ہوگا۔ اقلیدس نے دعوی ۱۳ شکل کا اسطرح
سے لکھا ہے کہ مثلث حادۃ الزاویہ مین مربع الخ اور اوسمین فقط صورت اول ثابت کی ہے لیکن
سمسن صاحب نے اوسکو مثلث کے لیے درست سمجھکر اوسکی تین صورتین بنائی ہین اور دوسری اور
تیسری صورت بنا کر علیحدہ علیحدہ ثابت کی ہے لیکن دونون صورتون کا ایک ثبوت نہایت مختصر اور

صاف یہ ہے کہ فرض کرو اب س ایک شاخ ہے جسکا زاویہ ب زاویہ حادہ اوسکے حادے زاویون مین سے ہے اگر اس عمود ب س پر نہین ہو تو اب س پر یونہین اور اگر ضرورت ہو تو خارج کرکے عمود ا د مقابل کے زاویہ سے نکالین تو زاویہ ب کے مقابل جو ضلع اس واقع ہے اوسکا مربع س ب اور ب ا کے مربعون سے بقدر دو چند سطح ب س اور ب د کے کم ہوگا۔ اول فرض کرو کہ اس عمود ب س پر نہین ہے بحکم (ش ۱۲ م) کے س د اور ب د کے مربعے برابر ہین دو چند سطح س ب اور ب د مع مربع س د کے ان مساویون مین سے ہر ایک پر ا د کا مربع زیادہ کرو تو س ب اور ب د اور ا د کے مربعے برابر ہوئے دو چند سطح س ب اور ب د کے مع مربعون س د اور ا د کے۔ لیکن اس سبب سے کہ زاویہ ب د ا قائمہ ہے بحکم (۴۷ ش ۱ م) کے ا ب کا مربع برابر ہے مربعون ا د اور د ب کے اور مربع اس کا برابر ہے مربعون ا د اور س د کے اسیواسطے مربعے س ب و ب ا کے برابر ہوئے مربع اس مع دو چند سطح س ب اور ب د کے یعنی اس کا مربع مربعات س ب اور ب ا سے بقدار دو چند سطح س ب اور ب د کے کم ہے

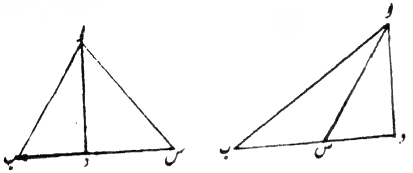

دوم فرض کرو کہ اس عمود ب س پر ہے تو خط ب س مابین زاویہ حادہ اور موقع عمود کے ہوگا بحکم (۱۲ ش ۱ م) ا ب کا مربع برابر ہے مربعات اس اور س ب کے۔ اسیواسطے اس کا مربع مربعات ا ب اور ب س سے بقدر دو چند مربع ب س کے کم ہے

چودھوین شکل ۱۲ م۔ جسقدر اقلیدس پڑھنے مین آتی ہے اوسمین کہین اس شکل کا کام نہین پڑتا اور یہ شکل (۲۲ ش ۴ م) مین ضمناً ثابت ہوتی ہے

مقالہ سوم

اس مقالہ مین دائرہ کے خواص بیان ہوئے ہین

۳ حد۔ اس حد کے باب مین مختلف رائین ہین ایک رائے یہ ہے کہ مطلب اس حد کا یہ ہے کہ نقطہ تماس کے پاس دائرے ایک دوسرے کو قطع نہین کرتے اور جب یہ حال ہو تو ثابت ہوسکتا ہے کہ کہین اور بھی ایک دوسرے کو قطع نہین کرتے دوسری رائے یہ ہے کہ اس حد کا مطلب یہ ہے کہ دائرے بالکل قطع ایک دوسرے کو نہین کرتے اور یہی رائے صحیح ہے اس حدود کا یہ بیان نہایت صاف ہے کہ وہ دائرون کو جب کہتے ہین کہ وہ اندر کی طرف مس کرتے ہین کہ اونکے محیطون مین ایک

نقطہ یا کئی نقطے مشترک ہون اور سارے نقطے ایک دائرہ کے سوا نقطہ یا نقاط مشترکہ کے دوسرے دائرہ کے اندر ہون - اور دو دائرون کو جب کہتے ہین کہ وہ باہر کی طرف مس کرتے ہین کہ اون کے محیطون مین ایک نقطہ یا کئی نقطے مشترک ہون اور سب نقطے ہر ایک دائرہ کے سوا نقطہ یا نقاط مشترکہ کے باہر ایک دوسرے سے ہون اور یہ تیسرے مقالہ مین ثابت ہوا ہے کہ دو دائرے متماسہ مین ایک ہی نقطہ مشترک ہوتا ہے - خط مستقیم جو دائرہ کو مس کرتا ہے مماس دائرہ کہلاتا ہے اور اختصار کے لئے فقط مماس کہتے ہین - اقلیدس کل محیط کے لئے اور محیط کے واسطے لفظ محیط کا استعمال کرتا ہے رفع اشتباہ کے واسطے حصہ محیط کا نام قوس رکھنا مناسب ہے

پہلی شکل - شکل بنانے مین یہ کہنا کہ دس کوسی تک بڑھاؤ یا خارج کرو اوسمین یہ بات فرض کرلی ہے کہ وہ دائرے کے اندر واقع ہوتا ہے اور یہ اقلیدس نے ۲ ش ۳ م مین ثابت کیا ہے

تیسری شکل - اس شکل کے دعوی کے دو جزو ہین اور وہ ایک دوسرے کے عکس ہین اور یہ کل دعوی برعکس نتیجہ اول مقالہ سوم کا ہے

پانچوین چھٹی شکل - ان دونون شکلون کا یہ ایک دعوی بنانا چاہئے تھا کہ دائرے جو ایک نقطہ پر ملتے ہین اونکا مرکز ایک نہین ہو سکتا اسواسطے کہ جن دائرون کا مرکز ایک ہو اور ایک نقطہ مشترک اونکے محیطون مین ہو تو وہ بالکل منطبق ایک دوسرے پر ہو جاوین گے - یہ معلوم ہوتا ہی کہ اقلیدس نے دعوی کی تین صورتین بنائی ہین - اول جس مین دائرے متقاطع ہون - دوسرے جسمین دائرے اندر کی طرف مس کرتے ہون تیسرے جسمین دائرے باہر کی طرف کرتے ہون اور یہ آخر صورت بدیہی تھی اسلئے اوسکو چھوڑ دیا

ساتوین آٹھوین شکل پروفیسر ڈی مورگن صاحب نے ان شکلون کی نسبت یہ لکھا ہے کہ (۱۰ ش ۳ م) مین مانا ہے کہ زاویہ ف ی ب بڑا ہے زاویہ ف ی س سے اور بموجب فرض کے صرف زاویہ و ف ب بڑا ہے زاویہ و ف س سے اور (۸ ش ۳ م) مین یہ مان لیا ہے کہ نقطہ ک مثلث و ل م کے اندر واقع ہے اور نقطہ ی باہر مثلث د م ف سے وہ بتلاتے ہین کہ یہ دونون باتین جو مانی ہین اونکا اثبات ان دو دعووں سے ہو سکتا ہی جو بعد (۲۱ ش م) کے ثابت ہو سکتی ہین - اول نقطہ معلوم سے ایک خط معلوم تک جتنے خط کھینچے جائین اونمین سب سے چھوٹا خط عمود ہوتا ہے اور جو خط عمود کے قریب ہوگا وہ بعید سے چھوٹا ہوگا اور اسکے برعکس بھی ثابت ہوگا اور اوس نقطہ سے اوس خط تک صرف دو ہی خط برابر نکل سکتے ہین جنمین سے ہر ایک عمود کی ایک جانب مین واقع ہوگا - دوم مثلث کی اس سے

قاعدے تک خط کھینچا گیا مثلث کے دو ضلعون مین سے بڑے ضلع سے چھوٹا ہوتا ہے اور اگر وہ برابر ہون تو ہر ایک ضلع سے چھوٹا ہوتا ہے۔ دعوی قبل بھی مشابہ ساتوین شکل مقالہ سوم کے ہے۔ اگر کسی دائرہ کے محیط مین کوئی نقطہ مقرر کیا جاے اور اوسی خطوط محیط تک کھینچے جائین تو اونمین وہ خط سب سے بڑا ہوگا جو مرکز مین گذریگا اور خطون مین جو اس بڑے خط سے کہ مرکز مین گذریگا قریب ہوگا وہ بعید سے بڑا ہوگا اور اوس نقطہ سے صرف دو ہی خط محیط تک ایسے کھنچ سکتے ہین کہ وہ آپسمین برابر ہون اور اونمین سے ہر ایک اوس بڑے خط کے ہر ایک جانب مین ہو اول دو جزو اس شکل کے ۱۵ ش ۳ م مین ثابت ہوئی ہین اور تیسرا جزو اسی طرح ثابت ہو سکتا ہے جسطرح سے کہ ساتوین شکل کا تیسرا جزو ثابت ہوا ہے اور اونکا ثابت ہونا ضرور ہے اسلیے تیسرے جزو کے جو ضرورت ہے اوسکا دسوین شکل کے حاشیہ مین ذکر ہوگا

نوین شکل - نقطہ ی زاویہ ا د س کے اندر واقع ہو سکتا ہے اسلیے یہ ثابت نہوگا کہ د س بڑا د ب سے اور د ب بڑا د ا سے ہے لیکن یہ ثابت ہوگا کہ د س یا د ا چھوٹا د ب سے ہے اور نقطہ ی اثبات دعوی کے لیے کافی ہے۔ اقلیدس نے دو طرح سے نوین شکل کو ثابت کیا ہے سمسن صاحب نے فقط دوسری طرح تحریر کیا اقلیدس کا دوسرا ثبوت یہ ہے کہ نقطہ د اور ب کے نقطہ وسط مین خط وصل کرو تو بموجب نتیجہ ۱۰ ش ۳ م کے ثابت ہوگا کہ دائرہ کا مرکز اوس خط مستقیم مین ہے اور اسی طرح یہ ثابت ہوگا کہ مرکز دائرہ اوس خط مستقیم مین ہے جو نقطہ د اور نقطہ وسط ب س مین ملایا جاے اسیواسطے مرکز دائرہ نقطہ ی ہے اسلیے کہ خطوط مستقیم مین ایک نقطہ سے زیادہ کوئی نقطہ مشترک نہین ہو سکتا

دسوین شکل اقلیدس نے اس شکل کے دو ثبوت لکھے ہین سمسن صاحب نے اونمین سے فقط دوسرا لکھا ہے اقلیدس نے اوسکا دوسرا ثبوت اوسی طرح لکھا ہے جسطرح کہ نوین شکل تیسرے مقالہ کا ثبوت لکھا ہے اوس نے یہ ثابت کیا ہے کہ دائرہ کا مرکز اوس خط مستقیم مین ہے کہ نقطہ ک اور نقطہ وسط خط مستقیم ب ج مین ملا جاے اور اوس خط مین بھی ہے جو نقطہ ک اور نقطہ وسط خط مستقیم ب د مین ملایا جاے اسواسطے ک مرکز دونون دائرون کا ہے سمسن صاحب نے جو ثبوت لکھا ہے وہ ناقص ہے اسکی تکمیل کے لیے اور زیادہ کرنا ضرور ہے اسواسطے کہ نقطہ ک باہر دائرہ د ی ف سے یا اوسکے محیط مین یا اوسکے اندر واقع ہو سکتا ہے

ان تینون صورتون مین اقلیدس نے فقط آخر صورت لکھی ہے اگر نقطہ ک باہر دائرہ د ی ف سے واقع ہو تو آٹھوین شکل تیسرے مقالہ کے خلاف نتیجہ نکلیگا جو باطل ہے اور اگر نقطہ ک محیط دائرہ د ی ف مین فرض کیا جاے تو نتیجہ خلاف اوس دعوی کے نکلیگا جو ہمنے حاشیہ مین ساتوین آٹھوین شکل کے لکھا ہے اور یہ باطل ہے۔ دسوین شکل مین صرف یہ ثابت ہوا ہے کہ دو دائرون کے محیطون مین دو

نقطون سے زیادہ نقطے مشترک نہین ہوسکتے اور کچھہ اوسکا ذکر ثبوت مین نہین ہے کہ دائرے ایک دوسرے کو قطع کرتے ہین لیکن دعوی فقط اسی صورت سے متعلق ہے اسلئے کہ تیرہوین شکل مین ثابت کیا ہے کہ دائرے جو ایک دوسرے کو مس کرتے ہین اونکے محیطون مین ایک نقطہ سے زیادہ نقطے مشترک نہین ہوسکتے۔

گیارہوین بارہوین شکل۔ سمسن صاحب نے اور اورون نے ان دونون شکلون کی دعوی مین نقطہ تماس کا ذکر کیا ہے گو اس امر کا ثبوت کہ نقطہ تماس ایک ہی ہوتا ہے تیرہوین شکل مین ہوا ہے گیارہوین شکل کا ثبوت قائم رہے گا اگر دائرہ منطبق ہون اور بارہوین شکل ثبوت قائم رہے گا اگر مس اور دائرہ آپسمین منطبق ہون۔ اب ہم گیارہوین اور بارہوین شکلون کے دعوی کو ملا کر یہ ایک دعوی بناتے ہین کہ اگر دو دائرے مس کرین تو ممکن نہین کہ اونکے محیطون مین کوئی نقطہ مشترک اوس خط مستقیم کی سمت سے باہر ہو جو اونکے مرکزون مین ملایا جاے

گیارہوین شکل۔ ساتوین شکل تیسرے مقالہ سے بآسانی ثابت ہوتی ہے اس لئے کہ ح د نہایت چھوٹا خط ہے کہ نقطہ ح سے محیط دائرہ تک جسکا مرکز ہ ہے کھینچا جا سکتا ہے اور اسیواسطے ح د کم ح ا سے ہے یعنی نہایت کم ح د سے اور یہ باطل اور علی ہذا القیاس بارہوین شکل آٹھوین شکل سے مستنبط ہوسکتی ہے

تیرہوین شکل۔ سمسن صاحب لکھتے ہین کہ دائرون کو اندر کی طرف ایک نقطہ سے زیادہ نقطون پر مس کرتے ہوئے جانب واحد مین خیال کرنا بہ نسبت مقابل جانبون کے زیادہ آسان ہے اسلئے اس صورت کا اثبات فروگذاشت کرنا نہین چاہیے مگر اصل یونانی مین جو ترکیب شکل بنانے کی لکھی ہے وہ اس شکل کے مناسب حال نہین کیونکہ اوسمین مرکز دائرون کے محیط کے قریب رکھنے پڑتے ہین اس لئے ایک دوسری طرح ثبوت لکھا اور شکل بنائی ہے اور وہ بالکل مطابق عربی کے ترجمہ کے ہے جسمین بغیر دلیل کے ثبوت کو دو حصون مین تقسیم کیا ہے اس حاشیہ سے نہین معلوم ہوتا کہ سمسن صاحب نے کس شکل کو اختیار کیا ہے کیونکہ اوسمین یہ نہین معلوم ہوتا کہ جانب واحد اور مقابل جانبون سے یہ مطلب ہے اقلیدس نے اس شکل کو نہین لکھا تو نہایت مناسب کیا اسلئے کہ اوسنے گیارہوین شکل کو تیسرے مقالہ مین ثابت کیا کہ اگر دو دائرے اندر کی طرف مس کرین تو اونکے تماس کا نقطہ اوس خط سے کہ مرکزون مین ملایا جاے باہر نہین واقع ہوگا پس اسلئے فقط یہ ثابت کرنیکے لئے کہ نقطہ تماس ایک ہی ہوتا ہے یہ امر کافی ہے کہ دوسرا نقطہ تماس جو فرض کیا جاتا ہے وہ اس خط کی سمت مین رکھنا چاہیے جو اونکے مرکزون مین ملایا جاے۔ اسلئے اقلیدس نے اپنے ثبوت مین دائین طرف کی شکل صرف لکھی اور ثابت کیا کہ یہ صورت نہین ہوسکتی اسلئے کہ خط مستقیم ب د قطر دونون دائرون کا ہوگا اسیواسطے وہ

دو نقطون پر تنصیف ہوگا اور یہ ناممکن ہے - دوسری صورت مین بھی اقلیدس ایسے قبیل کا ثبوت لا سکتا تھا اسواسطے کہ نقطہ تماس اوس خط سے باہر نہین ہو سکتا کہ مرکزون مین ملایا جاے اور یہ ظاہرا ممکن معلوم ہوتا ہے کہ جب دائرے باہر کی طرف مس کرین تو دوسرا نقطہ تماس ہو یہ بات آسان تھی مگر اقلیدس نے ایک اور ترکیب اختیار کی جسمین قاعدہ کے موافق اثبات لکھا ہے - اقلیدس نے جسطرح دوائر متماسہ کا ذکر کیا ہے اوسپر اکثر شارحین نے الزام لگایا ہے مگر اس الزام کی کوئی دلیل انہون نے ابھی نہین بیان کی ناحق کا الزام دیا ہے مثلاً واکر صاحب نے تیرہوین شکل کا ثبوت ایک اور طرح لکھا ہے اور فرمایا ہے کہ اقلیدس کا ثبوت پوچ ہے اور سمسن صاحب کا ثبوت ناقص و ناتمام ہے اسواسطے کہ اوس نے یہ نہین ثابت کیا کہ دو متماسہ دائرون کے محیطون مین کوئی قوس مشترک نہین ہو سکتی لیکن اوسکا ناممکن ہونا دسوین شکل مین ثابت ہو چکا ہے یہ خود واکر صاحب کے سمجھہ کی غلطی ہے کہ وہ دسوین شکل فقط دوائر متقاطع ہی سے متعلق سمجھے دسوین شکل کی شرح کو دیکھو

سترہوین شکل - شکل بنانے سے معلوم ہوتا ہے کہ دو خط مستقیم دائرہ کے مماس نقطہ بیرونی سے نکل سکتے ہین اور یہ دونون خطوط مستقیم آپسمین برابر ہونگے اور اونکا میلان خط مستقیم سے کہ نقطہ بیرونی اور مرکز مین ملایا جاے یکسان ہوگا

اکتیسوین شکل مقالہ سوم کے بعد طالب علم کو سترہوین شکل کا اثبات یہ اور معلوم ہوگا کہ آ ی کو قطر بنا کر دائرہ کھینچو تو اس دائرہ اور دائرہ معلوم کے نقاط تقاطع یہان دو نقاط تماس ہون گے جنپر دو خط مستقیم نقطہ آ سے دائرہ کو مس کرتے ہوئے نکالے جائین

اٹھارہوین شکل - اس شکل کے ثابت کرنے سے کوئی نئی بات اس مقالہ کی سولہوین شکل سے زیادہ نہین نکلی اسلئے کہ سولہوین شکل مین یہ ثابت ہوا ہے کہ ایک نقطہ معلوم پر ایک ہی خط مستقیم مس کرتا ہے اور زاویہ اس خط مستقیم اور نصف قطر کے درمیان کہ نقطہ تماس سے کھینچا جاے قائمہ ہوتا ہے

بیسوین شکل - دو باتین اثبات شکل مین فرض کیگئی ہین - فرض کرو کہ آ دو چند ہے ب سے اور س دو چند ہے د سے تو اول صورت مین یہ بیان کیا ہے کہ آ اور س کا مجموعہ دو چند ہے ب اور د کے مجموعہ سے اور دوسری صورت مین یہ بیان کیا ہے کہ آ اور س کا فرق دو چند ہے ب اور د کے فرق سے فرض اول کو ایک خاص صورت (اش ہم) کی ہے اور دوسرا فرض ایک

خاص صورت (ر ہ س ہ م) کی اس شکل کی بہت توسیع ہو جائے اگر اقلیدس مین دو قائمون سے بڑے زاوے لئے جائین اسواسطے کہ اول شکل مین فرض کرو کہ خطوط مستقیم ب ف اور س ف کھینچے جائین تو اویہ ب ی ا دو چند زاویہ ب ف ا سے اور زاویہ س ی ا دو چند س ف ا سے ہوگا اسواسطے زاویون ب ا ی اور س ی ا کا مجموعہ دو چند زاویہ ب ف س سے ہوگا اور زاویون ب ی ا اور س ی ا کا مجموعہ قائمون سے بڑا ہے تو اس مجموعہ کو ہم زاویہ داخلہ مکررہ ب ی س کا کہین گے پس یہ زاویہ داخلہ مکررہ ب ی س دو چند زاویہ ب ف س سے ہوگا حاشیہ (۳۲ ش ۱ م) کا دیکھو اگر یہ زاویہ کی توسیع اقلیدس مین داخل ہو جاے تو بعض شکلون کا اثبات تیسرے مقالہ مین مختصر ہو جائیگا۔ اکیسوین شکل تیسرے مقالہ مین کچھ ضرورت دو اختلاف بنانیکی نہین رہیگی اور بائیسوین شکل اس سبب سے کہ مرکز پر زاویون کا مجموعہ برابر چار قائمون کے ہوتا ہے فوراً ثابت ہو جائیگی اور تیسوین شکل بیسوین شکل سے معاً ثابت ہو جائیگی

اکیسوین شکل۔ اقلیدس نے اکیسوین شکل کی پہلی صورت ثابت کی ہے اور دوسری صورت سمسن صاحب اور اورون نے زیادہ کی ہے اس شکل کی سب صورتون کی شکلون مین اگر ایک نقطہ ب پر اوس سمت مین کہ آ واقع ہے مقرر کیا جاے اور دائرہ کے اندر ہو تو زاویہ کہ درمیان اون خطوط مستقیم کے کہ اس نقطہ اور ب د کے اطراف مین ملائے جائین ب ا د سے ہوگا اور اگر دائرہ کے باہر نقطہ ہے تو یہ زاویہ کم ہوگا یہ امر (۱۲ ش ۱ م) سے ظاہر ہے۔ اب ہم تیسرے مقالہ کے بعض حاشیون مین چوتھی شکل مقالہ چہارم کا حوالہ دینگے۔ اس لئے طالبعلم کو چاہئے کہ وہ اس شکل کو پڑھ لے۔ ایک نہایت عمدہ اور بکار آمد یہ شکل ہے کہ اگر ایک قاعدہ پر ایک ہی جانب مین مثلث ایسے بنائے جائین کہ اونکے راس کے زاوے آپسمین برابر ہون تو اونکی سب راس ایک ہی قطعہ دائرہ کے محیط پر واقع ہونگے۔ اسواسطے کہ ان مثلثون مین کسی مثلث پر بموجب (۲۲ ش ۳ م) کے ایک دائرہ کھینچو تو اور سب مثلثون کی راس اس دائرہ کی محیط پر واقع ہونگی اسلئے کہ ایسی شکل کے اول حاشیہ کے بموجب کوئی راس دائرہ کے اندر اور باہر نہین واقع ہو سکتا

بائیسوین شکل۔ ۲۲ شکل ۳ مقالہ کا عکس درست ہے اور نہایت بکار آمد ہے یعنی اگر ذو اربعۃ الاضلاع کے دو زاوے ملکر برابر دو قائمون کے ہون تو ایک دائرہ اس ذو اربعۃ الاضلاع پر بن سکتا ہے اسواسطے کہ فرض کرو کہ ا ب س د ذو اربعۃ الاضلاع ہے بحکم (۲۲ ش ۳ م) کے مثلث ا ب س پر دائرہ کھینچو اور اوس قطعہ کے محیط مین کہ ب س سے قطع ہوا ہے کوئی نقطہ

ی اوسی سمت مین کہ د سے ہے مقرر کرو تو بحکم (۲۲ ش ۴ م) کے زاویے ب اور ی ملکر برابر دو قائمون کے ہین اور بموجب فرض کے زاویہ ب اور د ملکر برابر دو قائمون کے ہین اسیواسطے زاویہ ی برابر ہے زاویہ د کے اسیواسطے موافق حاشیہ (۲۱ ش ۳ م) کے ی اوسی قطعہ کے محیط پر ہے جسپر د ہے

بتیسوین شکل - اس شکل کا عکس بھی صحیح ہے اور بکار آمد یعنی اگر خط مستقیم ایک دائرے سے ملے اور ملاپ کے نقطہ سے ایک مستقیم دائرہ کو قطع کرتا ہوا کھینچا جاے اور ان دو خطوط مستقیم کے درمیان کا زاویہ برابر زاویہ قطعہ متبادلہ کے ہو تو خطوط مستقیم کہ دائرہ کو سے ملتا ہے دائرہ کا مماس ہوگا - اثبات خلف سے دعوی ثابت ہے - اسواسطے کہ اگر ممکن ہو تو فرض کرو کہ خط مستقیم کہ دائرہ سے ملتا ہے دائرہ کو مس نہین کرتا تو ملاپ کے نقطہ سے دائرہ کا مماس نکالو تو بحکم (۳۲ ش ۳ م) کے ثابت ہوگا کہ دو مختلف خطوط مستقیم کہ ایک نقطہ پر ملتے ہین ایک تیسرے خط مستقیم کے ساتھ جو اوس سے نقطہ پر گذرتا ہے ایک جانب مین ایک ہی زاویہ بناتے ہین یہ ناممکن ہے

۳۵ و ۳۶ شکل - اگر اون شکلون سے پہلے یہ دعوی ثابت ہوجاتا تو اون شکلون کے اثبات کا نہایت اختصار ہوجاتا اونکے اثبات مین بڑا کام اس دعوی کا پڑتا ہے کہ اگر ایک مثلث مساوی الساقین کے قاعدہ پر یا قاعدہ ممدودہ پر کوئی نقطہ معین کرین اور اس نقطہ مین خط مستقیم وصل کرین تو اس خط کے مربع اور ساق کے مربع کا فرق برابر ہوگا قاعدہ کے حصون کے سطح کے - یہ شکل یون بھی ثابت ہوسکتی ہے کہ دائرہ کی کسی خاصیت کو کام مین نہ لائین اگر وہ ۳۵ و ۳۶ شکل سے پہلے ثابت ہوجاتی تو ان شکلون کا ثبوت نہایت مختصر ہوجاتا - ۳۵ شکل کا یہ عکس ہے کہ اگر دو خطوط مستقیم اب اور س د نقطہ ر پر تقاطع کرین اور سطح ا ر اور ر ب کی برابر سطح س ر اور ر د کے ہو تو دائرہ کا محیط چارون نقاط ا اور ب اور س اور د پر گذریگا - اسواسطے کہ اگر بحکم (۵ ش ۴ م) کے دائرہ مثلث ا ب س پر کھینچین تو برہان خلف سے بحکم (۳۵ ش ۳ م) ثابت ہوگا کہ محیط دائرہ نقطہ د پر گذرتا ہی اور نتیجہ ۳۶ شکل تیسرے مقالہ کا ہے کہ محیط اس دائرہ کا نقطہ د پر گذرتا ہے

چوتھا مقالہ

اس مقالہ مین سب شکلین عملی ہین - اور چھ اول کی شکلون مین ہر قسم کے مثلثون کا بیان ہے اور باقی شکلون مین کثیر الاضلاعون کا جنکے سب ضلعے آپسمین مساوی ہون اور زاویے بھی

آپسمین برابر ہون جس کثیر الاضلاع کے ضلعے سب آپسمین برابر ہوتے ہین اور زاوئے سب آپسمین برابر ہوتے ہین اوسکو کثیر الاضلاع منتظم کہتے ہین۔

چوتھی شکل۔ اس شکل کی طرح عمل کرنے سے ایک دائرہ ایسا کھینچ سکتا ہے کہ وہ مثلث کے ایک ضلع کو اور دو اضلاع ممدودہ کو مس کرے مثلاً ایسا دائرہ کھینچنا منظور ہو کہ مثلث اب س کے ضلع ب س اور اضلاع ممدودہ اب و اس کو مس کرے تو اوس زاویہ خارجہ کے جو اب ممدودہ اور ب س کے درمیان واقع ہو تنصیف کرو اور ایسے ہی زاویہ خارجہ کے کہ اس ممدودہ اور ب س کے درمیان واقع ہو تنصیف کرو جس نقطہ پر یہ دونون خطوط مستقیم زاویون کی تنصیف کرنے والے ملین گے وہی دائرہ مطلوب کا مرکز ہوگا ثبوت اسکا مثل اثبات (۴ ش ۴ م) کے ہے دائرہ جو مثلث کے ایک ضلع اور دو اضلاع ممدودہ کو مس کرتا ہے اوسی مثلث کا دائرہ خارجی کہتے ہین۔ ہم ایک مثلث متساوی الزوایا ایک مثلث معلوم کا ایسا بنا سکتے ہین کہ اوس کے ضلعون مین سے ایک ضلع اور دو ضلعے ممدودہ دائرہ معلوم کو مس کرین۔ اسواسطے کہ (۳ ش ۴ م) مین فرض کرو کہ ا ک خارج ہو کر دائرہ سے پہلے ملتا ہے اور نقطہ تقاطع سے ایک خط مستقیم دائرہ کو مس کرتا ہوا کھینچو تو یہ خط مستقیم اور حصص ن ب اور ن س سے ایک مثلث بنے گا جو متساوی الزوایا مثلث م ل ن کا ہوگا اور اسیواسطے متساوی الزوایا مثلث ی د ف کا ہوگا اور مثلث کا ایک ضلع اور دو اضلاع ممدودہ دائرہ معلوم کو مس کرتے ہین۔

پانچوین شکل سمسن صاحب نے اس شکل کے اثبات مین یہ جزو الحاق کیا ہے کہ د ف اور ی ف خارج ہونے سے ملین گے اور بعض نے اس امر کو اس طرح ثابت کیا ہے کہ ملا دو ی تو زاوئے ی د ف اور د ی ف ملکر زاویون ا د ف اور ا ی ف سے کم ہین یعنی کم دو قائمون سے ہین اور اسیواسطے بموجب (۱۲ علوم) کے د ف اور ی ف ملجائین گے اسمین یہ فرض کرلیا ہے کہ زاوئے ا د ی اور ا ی د حادے ہین اور یہ بآسانی ثابت ہوسکتا ہے کہ ب س کا متوازی د ی ہے اسلئے مثلث ا د ی متساوی الزوایا مثلث ا ب س کا ہے تو اس سبب سے دو ضلعے ا ب اور ا س مثلث ا ب س کے ایسے منتخب کرسکتے ہین کہ زاوئے ا ب س اور ا س ب حادے ہون

دسوین شکل۔ اس شکل مین ظاہر ہے کہ مثلث کا زاویہ راس پانچوان حصہ دو قائمون کا ہے اور وہ تنصیف بھی ہوسکتا ہے اسطرح ایک زاویہ علم ہندسہ مین پانچ برابر حصون مین تقسیم ہوسکتا ہے چوتھے مقالہ مین جو شکلین ثابت ہوئی ہین اون سے یہ معلوم ہوتا ہے

کہ دائرہ کا محیط ۳ و ۶ و ۱۲ و ۲۴ وغیرہ مساوی حصون مین اور ۴ و ۸ و ۱۶ و ۳۲ وغیرہ برابر حصون مین اور ۵ و ۱۰ و ۲۰ و ۴۰ وغیرہ برابر حصون مین اور ۱۵ و ۳۰ و ۶۰ و ۱۲۰ وغیرہ برابر حصون مین تقسیم ہوسکتا ہے اور اسی سبب سے کثیر الاضلاع منتظم جنکے اضلاع کی تعداد اعداد مذکور مین سے کوئی ہو دائرہ کے اندر اور گرد کھنچ سکتی ہین اس سے معلوم ہوتا ہے کوئی ترکیب ایسی نہین ہے کہ ہر کثیر الاضلاع منتظم دائرہ کے اندر اور باہر بن سکے مثلاً سات ضلع کے کثیر الاضلاع منتظم ہندسہ کی استعانت سے دائرہ کے اندر نہین بن سکتی سنہ ۱۸۰۰ع مین ایل گاس صاحب نے ثابت کیا کہ علم ہندسہ مین ممکن ہے کہ وہ کثیر الاضلاع جسکے اضلاع کی تعداد 2^n+1 ہو دائرہ کے اندر بن سکتی ہے بشرطیکہ 2^n+1 عدد اولی ہو ثبوت اس بات کا خلاف اصول ہندسہ ہے بڑی مشکل اور تکلف سے سترہ ضلعے کے کثیر الاضلاع دائرہ کے اندر بنائی گئی ہے

پانچوان مقالہ

تناسب کا بیان اس مقالہ مین ہے

اسمین فقط اونہین مقدارون کا ذکر نہین جو خط اور سطح سے تعلق رکھتے ہین بلکہ اوس مین علی العموم سب قسم کے مقادیر کا بیان ہے جنکا اضعاف لیا جا سکتا ہے اسکا مفصل حال پوٹ اقلیدس کی شرح مین دیکھو (مترجم)

پہلا حدود پانچوان مقالہ۔ علم ہندسہ مین لفظ جزو کا دو معنی مین مستعمل ہوا ہے بعض اوقات تو اوسکے یہ معنی ہوتے ہین کہ ایک مقدار تو چھوٹی اوسی قسم کی ایک اور مقدار سے ہو جیسا کہ اس علوم متعارفہ مین ہے کہ کل بڑا اپنے جزو سے ہوتا ہے لیکن پانچوین مقالہ مین اس لفظ کے معنی خاص لئے گئے ہین

تیسرا حدود پانچوان مقالہ سمسن صاحب کی یہ رائے ہے کہ یہ حدود اور آٹھوان حدود کسی بد سلیقہ نے اپنی طرف سے الحاق کر دیا ہے بعض شارحین نے اونکو بیکار سمجھکر کاٹ دیا ہے اقلیدس نے یہ حدود نہین لکھے تیسرے حدود کا مطلب یہ ہونا چاہئے کہ ایک مقدار جتنی دفعہ دوسری مقدار مین شامل ہوتی ہے اوسے نسبت کہتے ہین

چوتھا حدود ضمناً یہ بات اس حدود سے نکلتی ہے کہ مقادیر ایک جنس کے ہین

پانچوان حدود تمام مسائل تناسب کی بیان ہے برمتا بلکے ترجمہ اردو مین جناب

اور جبر مقابلہ کے تناسب کی تعریفون کا آپسمین مقابلہ کیا گیا ہے - اقلیدس کا حدود مقادیر موافق اور تباین دونون پر حاوی ہے طالب علم کو چاہیئے کہ بعد اس حدود کے پڑھنے کے چھٹے مقالہ کی اول شکل پڑھے اوس سے خوب معنی اس حدود کے سمجھ مین آجائینگے

نسبت مولفہ یہان یہ حدود سمسن صاحب نے لکھا ہے اصل یونانی مین اس موقع پر نہین ہے بلکہ وہ چھٹے مقالہ کا پانچوان حدود ہے جسکو سمسن صاحب فضول اور بیفائدہ بتاتے ہین

۸ او ۱۹ و ۲۰ حدود - جس طرح اصل یونانی مین یہ حدود ہین سمسن صاحب نے اونکو اوسطرح نہین لکھا آخر فقرہ اٹھارہوین حدود کا سمسن صاحب کی تصنیفات سے ہے - اقلیدس اونیسوین اور بیسوین حدود کو اٹھارہوین حدود کے ساتھہ شامل نہین کرتا اگر اٹھارہوین حدود کو اوڑادین تو کچھہ ہرج نہوگا

علوم متعارفہ یہ علوم متعارفہ اقلیدس مین نہین ہین بلکہ سمسن صاحب نے لکھے ہین

پانچوین مقالہ کی شکلین چار مختلف قسم کی ہین پہلی شکل سے چھٹی شکل تک مین تو خواص اضعاف بیان کئے ہین اور ساتوین سے دسوین تک اور تیرہوین اور چودہوین مین نسبت کے بڑے اور برابر اور چھوٹے ہونے کا ذکر ہے اور شکلین ۱۱ و ۱۲ و ۱۵ و ۱۶ مین یہ ثابت کیا ہے کہ جب چار مقادیر متناسب ہون تو وہ تبدیل کرنے سے متناسب رہین گے اور باقی شکلون مین یہ ذکر ہے کہ مقادیر متناسبہ ترکیب و تفصیل و منظمہ و مضطربہ حالتون مین متناسب رہین گے

تیرہوین اور چودہوین شکل کو دسوین شکل کے بعد لکھنے مین ترتیب شکلون کی اچھی ہوجاتی ہے اور اقلیدس کے شکلون کے اثبات مین کچھہ ہرج نہین ہوتا

شکلین جنکی پیشانی پر حروف د و ب و ح و س لکھے ہوئے ہین وہ سمسن صاحب نے الحاق کی ہین اور ۲ و ۳ و ۵ و ۶ شکلین ایسی ہین کہ علم حساب مین بیان اونکا نہایت آسان ہے الفاظ مین اونکو بیان کرنا دقت مین ڈالتا ہے اور جب اونکا مطلب حساب مین صاف ہے ایسا الفاظ مین بیان بیان نہین ہوا مثلاً اش ۵ مقالہ کا مطلب یہ ہے کہ دس بیگہہ دس بسوہ دس گنٹے ایک بیگہہ اور ایک بسوہ سے ہوتے ہین

پانچوین شکل کو سمسن صاحب نے اقلیدس کے طور پر نہین لکھا اسواسطے کہ اقلیدس کے ثبوت مین یہ ماننا پڑتا ہے کہ ایک خط مستقیم کا کوئی ساجزو ہم قطع کر سکتے ہین اور یہ دعوی نوین شکل ۱۰ مقالہ اقلیدس مین ثابت ہوا ہے

اٹھارھوین شکل کا ثبوت سمسن صاحب نے لکھا اقلیدس نے اسیطرح ثابت کیا ہی



فرض کرو کہ ای کو ی ب سے وہ نسبت ہو جو س ف کو ہے ف د سے
تو اب کو ب ی سے وہ نسبت ہوگی جو س د کو د ف سے
اسواسطے کہ اگر یہ نہو تو فرض کرو کہ اب کو ب ی سے وہ نسبت ہے جو س د کو ہی
کسی اور مقدار سے جو بڑی د ف سے یا چھوٹی د ف سے ہے
اول یہ فرض کرو کہ اب کو ب ی سے وہ نسبت ہے جو س د کو د ح سے اور د ح چھوٹا س د سے ہے
چونکہ اب کو ب ی سے وہ نسبت ہے جو س د کو د ح سے تو بحکم (۱۷ ش ۵ م) کے ای کو ی ب
سے وہ نسبت ہے جو س ح کو ہے ح د سے اور بموجب فرض کے ای کو ی ب سے وہ
نسبت ہے جو س ح کو ہے ف د سے اسیواسطے بحکم (۱۱ ش ۵ م) کے س ح کو ح د سے
وہ نسبت ہے جو س ف کو ہے ف د سے لیکن بموجب فرض کے س ح بڑا س ف سے ہی
بحکم (۱۴ ش ۵ م) کے ح د بڑی ف د سے ہے لیکن ح د کم ف د سے اور یہ ناممکن ہے
اور اسی طرح ثابت ہو سکتا ہے کہ اب کو ب ی سے ایسی ہی نسبت نہین ہے جیسی س د
کو ہو کسی مقدار سے جو د ف سے بڑی ہو تمسن صاحب کا اعتراض اقلیدس کے اس ثبوت پر یہ ہے کہ اقلیدس
کے بیان سے یہ بات لازم آتی ہے کہ تین مقادیر مین جنمین دو کم از کم بجنس ہون چوتھی
مقدار متناسب مین داخل ہو سکتی ہے اور اس بات کو یہان اقلیدس نے ثابت نہین کیا کہ
متناسب مین چوتھی مقدار کسطرح سے دریافت کرتے ہین وہ بارھوین شکل ۶ مقالہ مین ثابت ہوئی
اسلئے اسٹن صاحب نے اقلیدس کے امتحان مین اس شکل کو یون ثابت کیا ہے۔ کہ فرض کرو کہ ای
کو ی ب سے وہ نسبت ہے جو س ف کو ہے ف د سے تو اب کو ب ی سے وہ نسبت ہوگی جو س د کو
ہے د ف سے اسواسطے کہ ای کو ی ب سے وہ نسبت ہے جو س ف کو ہے ف د سے تو بحکم
(۱۶ ش ۵ م) کے ابدال نسبت سے ای کو س ف سے وہ نسبت ہے جو ی ب کو ہے ف د سے اور
بحکم (۱۲ ش ۵ م) کے مقدمات مین سے ایک مقدم کو اپنی تالی سے وہ نسبت ہوتی
ہے جو جمیع مقدمات کو ہی جمیع توالی سے۔ اسیواسطے ی ب کو ف د سے

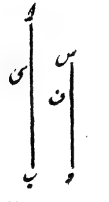

وہ نسبت ہے جو مجموعہ ای اور ی ب کو ہے س ف اور ف د
کے مجموعہ سے۔ یعنی اب کو س د سے وہ نسبت ہے جو
ی ب کو ہے ف د سے اسیواسطے بحکم (۱۶ ش ۵ م) کے

ابدال نسبت سے اب کوی ب سے وہ نسبت ہے جو س د کو ہے ف د سے

پچیسوین شکل ۵م۔ اس شکل مین اول مرتبہ مین یہ فرض کیا ہے کہ ا ح برابر ف کے اور س ہ برابر ف کے بناؤ اور یہان حوالہ اکثر (۳ شکل ام) کا دیتے ہین لیکن مقادیر شکل مین ضرور نہین کہ خطوط مستقیم ہون۔ اسلئے حوالہ تیسری شکل پہلے مقالہ کا نہ دینا چاہیے لیکن یہ سمجھنا چاہیے کہ جو خطوط مستقیم کی نسبت عمل تیسری شکل اول مقالہ سے ہوسکتا ہے اور مقادیر پر بھی ہوسکتا ہے۔ چونکہ اس مقالہ مین مقادیر کا بیان علی العموم ہے اوسمین تخصیص خطوط وسطوح اور زاویون کی نہین ہے۔ اسلئے اوسمین حوالہ کسی شکل کا چارون مقالون مین سے نہین دیا گیا۔ چارون شکلین آخر کی جنکی پیشانی پر حروف لکھے ہین ہمس صاحب کی تصنیف سے ہین لیکن وہ پڑھنے پڑھانے کے کام مین نہین آتین اسلئے اونکا لکھنا فضول ہے۔

چھٹا مقالہ

اصول مقالہ ششم مین اس بات کا بیان ہے کہ تناسب کو کس طرح خواص اشکال ہندسیہ کے ثابت کرنے مین کام مین لاتے ہین

حد اول مقالہ ششم۔ اس حدود کے لئے حاشیہ د حدود پانچوین مقالہ کا پڑھو

حد دوم مقالہ ششم بے فائدہ ہے اقلیدس اشکال متکافیۃ الاضلاع کا بیان نہین کرتا

حد چہارم مقالہ ششم یہ حدود صرف مثلث ہی سے ٹھیک ٹھیک متعلق ہوسکتا ہے اسلئے کہ کوئی اور شکل نہین ہے کہ جسمین کوئی نقطہ ایسا ہو کہ اوسکو راس اوسکا کہہ سکین اور ارتفاع متوازی الاضلاع کا وہ عمود ہے کہ قاعدہ پر نکالا جائے کسی نقطہ سے کہ مقابل کے ضلع پر ہو۔

دوسری شکل۔ اس شکل پر یہ اعتراض ہے کہ دعوی مین بالتصریح یہ نہین لکھا کہ اضلاع کس طور پر قطع ہون مثلاً ہوسکتا ہے کہ ا د دو چند د ب سے ہو اور س ی دو چند ی ا سے اس صورت مین اضلاع تو متناسب قطع ہوئے۔ اسلئے کہ ہر ضلع ایسے دو حصون مین تقسیم ہوا کہ ایک حصہ دو چند دوسرے حصے سے ہے لیکن د ی متوازی ب س کا نہین ہے اسلئے دعوی مین اس شرط کا ہونا ضرور ہے کہ حصے مثلث کے جو راس پر منتہی ہوتے ہین وہ نظیر ایک دوسرے کے نسبت مین ہون یعنی مقدمات یا

توالی نسبت مین ہون - تین شکلین تین صورتون کی موافق ہین - اس واسطے کہ خط مستقیم متوازی قاعدے کا کھینچا گیا اضلاع کو تین طرح سے قطع کریگا
اول یہ کہ اضلاع کو قطع کرے - دوم راس کی طرف اضلاع خارجہ کو قطع کرے سوم اضلاع خارجہ کو قاعدہ کی طرف قطع کرے تینون صورتون مین مثلث جن کے مساوات ثابت ہوتی ہے اونکی راس مثلث معلوم کے قاعدہ کے اطراف پر ہوتے ہین اور اونکا قاعدہ مشترکہ متوازی قاعدہ مثلث کا ہے خواہ بموجب فرض کے یا بموجب اثبات کے اور اون مثلثون کا مقابلہ جس مثلث سے ہوتا ہے اوسکا راس اور مثلث معلوم کا راس مشترک ہے

شکل اول مقالہ ششم یہ شکل سمسن صاحب نے زیادہ کی ہے

شکل چہارم مقالہ ششم مثلثون کو جب ہم کہتے ہین کہ وہ مساوی الزوایا ایک دوسرے کے ہین تو یہ مطلب ہوتا ہے کہ ایک مثلث کے زاویے برابر دوسرے مثلث کے زاویون کے موافق اپنی اپنی نظیر کے ہین اقلیدس نقطہ مساوی الزوایا کو اس معنی مین استعمال مین لاتا ہے لیکن ہندسین بالفعل فقط مساوی الزوایا کو ان معنی مین استعمال کرتے ہین جیسے کہ نتیجہ (۵ ش ۱م) مین بیان کیا ہے کہ مثلث مساوی الاضلاع متساوی الزوایا ہوتا ہے ہم کبھی اس طرح لکھا کرتے ہین کہ مثلث ا ب س متساوی الزوایا مثلث د ی ف کا ہے اور کبھی اس طرح کہ ا ب س اور د ی ف متساوی الزوایا ہین اس شکل مین جس طرح مثلثون کو رکھا ہے اوسکا بیان ناقص ہے کامل بیان یہ ہے کہ اونکے قاعدے ایک خط مستقیم مین ہون اور متصل ہون اور ان مثلثون کے قاعدے ایک طرف ہون اور اون دو زاویون مین سے جنکی راس کا نقطہ مشترک ہے ہر ایک زاویہ برابر دوسرے زاویہ کے ہو - مثلثون کو اس طرح رکھ سکتے ہین کہ دوسری شکل مقالہ ششم سے نتیجہ نکال سکین

پانچوین شکل چھٹا مقالہ اس شکل کا دعوی اس طرح سے ہونا چاہیئے کہ اگر اضلاع زاویون کے دو مثلثون کے بالترتیب متناسب ہون اوسمین لفظ بالترتیب کی قید ضرور ہونی چاہیئے اسواسطے کہ ممکن ہے کہ دو مثلث ا ب س اور د ی ف ایسے ہون کہ ا ب کو ب س سے وہ نسبت ہو جو د ی کو ہے ی ف سے اور ب س کو س ا سے وہ نسبت ہو جو د ف کو ہے ی ف سے تو اس صورت مین بحکم (۲۳ ش ۵م) کے ا ب کو ا س سے وہ نسبت

ہے جو دف کو ہے ی ف سے اس صورت مین اضلاع متناسب ہین لیکن ضرور نہین کہ مثلث باہم متساوی الزوایا ہون اس بات کو بہت توضیح کے ساتھ اعداد مین سمجھ لو کہ اضلاع ایک مثلث کے ۳ و ۴ و ۵ فیٹ ہون اور دوسرے مثلث کے ۱۲ و ۱۵ و ۲۰ فیٹ ہون

چوتھی و پانچوین شکل مین سے ہر ایک شکل عکس دوسری شکل کا ہے اون سے ثابت ہوتا ہے کہ اشکال متشابہ کی تعریف مین جو دو خواص اونکے بیان کئے گئے ہین جب اونمین سے ایک مثلثون مین موجود ہو تو دوسرا بھی ضرور ہوگا یہ خاصیت مخصوص مثلثون سے ہے لیکن اور اشکال متشابہ مین ہو سکتا ہے کہ اون دونون خاصیتون مین سے ایک خاصیت اونمین ہو اور دوسری مفقود ہو مثلاً مستطیل اور مربعے کے زاوئے آپس مین برابر ہوتے ہین لیکن اونکے اضلاع متناسب نہین ہوتے ہین اور مربع معین کے اضلاع متناسب ہوتے ہین لیکن اونکے زاوئے آپسمین برابر نہین ہوتے۔

۷ ش مقالہ ۶ - اس شکل کے دعوی مین بھی نقص اوسی طرح کا ہے جیسا کہ پانچوین شکل مین تھا اوسکا دعوی اس طرح ہونا چاہئے کہ اگر دو مثلثون مین ایک مثلث کا ایک زاویہ برابر دوسرے مثلث کے ایک زاویہ کے ہو اور دو اور زاویون کے اضلاع متناسب ہون اس طرح سے کہ اضلاع مقابل برابر زاویون کے نظیر ہون الخ جس اس دعوی کو علما کر اوسکے اصلی مطلب کو اس طرح ادا کرو کہ اگر دو مثلثون مین ایک مثلث کے دو ضلعے متناسب دوسرے دو ضلعون کے ہون اور ایک زوج اضلاع نظیر کے مقابل کے زاوئے آپسمین برابر ہون تو دوسری زوج اضلاع نظیر کے مقابل کیا تو زاوئے آپسمین برابر ہونگے یا ملکر برابر دو قائمون کے ہون گے۔ اس واسطے کہ زاویئے درمیانی اضلاع متناسب کے کیا تو مساوی ہونگے یا غیر مساوی اگر وہ برابر ہین تو ایک مثلث کے دو زاوئے برابر دوسرے مثلث کے دو زاویون کے ہوئے موافق اپنی اپنی نظیر کے تو وہ مساوی الزوایا ایک دوسرے کے ہوئے اور وہ صورت رہی جسمین زاویئے غیر مساوی ہون۔ فرض کرو کہ مثلث ا ب س اور د ی ف ہین اور زاویہ ا برابر ہے زاویہ د کے اور ا ب کو ب س سے وہ نسبت ہے جو د ی کو ہے ی ف سے لیکن زاویہ ا ب س برابر زاویہ د ی ف کے نہین ہے تو دو زاوئے ا س ب اور د ی ف ملکر برابر دو قائمون کے ہونگے۔ اسی واسطے ایک زاویہ ا ب س اور د ی ف مین سے دوسرے سے بڑا ہوگا فرض کرو کہ ا ب س بڑا ہے تو زاویہ ا ب ح برابر زاویہ د ی ف کے بناؤ ساتوین شکل

۶ مقالہ کی طرح سے ثابت ہو سکتا ہے کہ ب ح
برابر ہے ب س کے اور زاویہ ب ح ا برابر ہے
زاویہ ی ف د کے اسیواسطے زاوئے ا س ب
اور د ف ی ملکر برابر ہوئے زاویون ب ح س اور ا ح ب کے یعنی دو قائمون کے
اب وہی نتیجے پیدا ہون گے جو دعوی مین ساتوین شکل ۶ مقالہ مین بیان ہوئے ہین۔ اسواسطے
کہ اگر زاویہ ا س ب اور د ی ف مین سے دونون بڑے زاوئے قائمہ سے ہون یا دونون کم زاویہ
قائمہ سے ہون یا ایک اونمین سے زاویہ قائمہ ہو تو وہ آپسمین برابر ہونگے

آٹھوین شکل چھٹا مقالہ سمسن صاحب نے اس شکل کے ثبوت مین یہ بات مان لی ہے
کہ مثلثات جو ایک مثلث کے متشابہ ہون آپسمین متشابہ ہوتے ہین اور یہ خاص صورت
(۱۲ ش ۶ م) کی ہے اوسکو طالبعلم خوب دیکھہ لے تاکہ نتیجہ کی صحت پر اطمینان ہو

نوین شکل۔ چھٹا مقالہ بیان جزو کے معنی وہی ہین جو مقالہ پنجم کی اول حد مین بیان
کئے گئے ہین اور یہ شکل ایک خاص صورت دسوین شکل کی ہے

دسوین شکل۔ اس شکل کی وہ صورت بڑے کام کی ہے جسمین خط مستقیم کے دو حصون مین
تقسیم خارجی یا داخلی ایسی ہوتی ہے کہ اونمین نسبت معلوم ہو وہ صورت جسمین خط مستقیم کی
تقسیم داخلی نسبت معلوم مین ہوئی اصل مین موجود ہے مثلاً فرض کرو کہ نسبت معلوم ا ی
اور ی س کی نسبت ہو تو اب نقطہ ح پر نسبت معلوم مین تقسیم ہوگا۔ اب فرض کرو کہ خط مستقیم
ا ب کی نسبت معلوم مین تقسیم خارجی کرنی ہے یعنی ا ب کو ایسا خارج کرو کہ کل خط ا ب
مع حصہ خارجہ کے نسبت معلوم رکھی۔ فرض کرو کہ نسبت ا س اور س ی کی نسبت معلوم
ہے ملاؤ ی ب نقطہ س سے خط مستقیم ی ب کا متوازی نکالا تو یہ خط مستقیم ا ب
خارج شدہ سے نقطہ مطلوب پر ملیگا

۱۱ ش ۶ مقالہ۔ یہ خاص صورت بارہوین شکل مقالہ ششم کی ہے

۱۴ ش ۶ مقالہ۔ یہ نتیجہ کہ ف ب اور ب ح ایک خط مستقیم مین ہونگے اس طرح نکلتا
ہے کہ بموجب فرض کے زاویہ د ب ف برابر ہے زاویہ ح ب ی کے ہر ایک پر زاویہ
ف ب ی زیادہ کرو تو بحکم (۲ علوم) کے زاوئے د ب ف اور ف ب ی ملکر برابر ہوئے
زاویون ح ب ی اور ف ب ی کے لیکن بحکم (۱۳ ش ۱ م) کے زاوئے د ب ف اور

ف ب ی ملکر برابر دو قائمون کے ہین۔ اسی واسطے بحکم (اعلوم) کے زاویے ج ب ی اور
ف ب ی ملکر برابر دو قائمون کے ہوے۔ اسی واسطے بحکم (۱۴ ش ام) کے ح ب اور ف ب ایک خط
مستقیم مین ہین

۵ ش ۶ مقالہ - یہ شکل ۱۴ شکل مقالہ ششم سے مستنبط ہوسکتی ہے اس لئے
کہ جس مثلث اور متوازی الاضلاع کا قاعدہ اور ارتفاع ایک ہی ہو اونمین مثلث نصف
متوازی الاضلاع کا ہوتا ہے چودھوین اور پندرھوین شکلون کے عکس بھی درست ہین اور
وہ یہ ہین کہ متساوی متوازی الاضلاعون مین جنکے ضلعون مین نسبت متکافیہ ہو وہ زاوئے اپنی
اپنی نظیر کو برابر ہوتے ہین۔ متساوی مثلثات مین جنکے ضلعون مین نسبت متکافیہ ہو وہ زاوئے
برابر ہوتے ہین جنکے ضلعون مین نسبت متکافیہ ہے یا دونون زاوئے ملکر برابر دو قائمون کے
ہوتے ہین۔ اب اس دوسری شکل کو ثابت کرتے ہین۔ فرض کرو کہ ا ب س اور ا د ی دو مثلث
ہین اور س ا کو ا د سے وہ نسبت ہے جو ا ی کو ہے ا ب سے تو زاویہ ب ا س کیا تو برابر د ا ی کے
ہوگا یا زاویہ ب ا س اور د ا ی ملکر برابر دو قائمون کے ہونگے۔ طالب علم شکل خود کھینچ لین
مثلثون کو اس طرح سے رکھو کہ س ا اور ا د ایک خط مستقیم مین ہون ا ب اگر ی ا اور ا ب
ایک خط مستقیم مین ہین تو بحکم (۱۵ ش ۱ ام) کے زاویہ ب ا س برابر ہوگا زاویہ د ا ی کے
لیکن ی ا اور ا ب ایک خط مستقیم مین نہون تو ب ا کو ا کی طرف سے ف تک خارج کرو ایسا
کہ ا ف برابر ا ی کے ہو۔ ملاؤ د ف اور ی ف اب چونکہ بموجب فرض کے س ا کو ا د سے وہ
نسبت ہے جو ا ی کو ہے ا ب سے اور ا ف برابر ا ی کے بنایا تھا اسواسطے بحکم (۹ و ۱۱ ش ۵ م)
کے س ا کو ا د سے وہ نسبت ہے جو ا ف کو ہے ا ب سے اسیواسطے بحکم (۱۵ ش ۶ م) کے مثلث
د ا ب برابر ہے مثلث ب ا س کے لیکن بموجب فرض کے مثلث د ا ی برابر ہے مثلث
ب ا س کے اسواسطے بموجب (اعلوم) کے مثلث د ا ی برابر ہے مثلث د ا ف کے
اسیواسطے بحکم (۲۹ ش ام) کے ی ف متوازی ا د کا ہے اب فرض کرو کہ زاویہ د ا ی بڑا
زاویہ د ا ف سے ہے تو بحکم (۲۹ ش ام) کے زاویہ س ا ی برابر ہے زاویہ ا ی ف کے
اور اسیواسطے بحکم (۵ ش ام) کے زاویہ س ا ی برابر ہے زاویہ ا ف ی کے اور اسی واسطے
بحکم (۲۹ ش ام) کے زاویہ س ا ی برابر ہے زاویہ ب ا س کے۔ اسیواسطے زاویہ ب ا س
اور د ا ی ملکر برابر دو قائمون کے ہوئے اور اسی طرح سے شکل ثابت ہوسکتی ہے

اگر زاویہ د ا ی کم زاویہ د ا ن سے ہو

۱۶ ش ۶ مقالہ۔ یہ خاص صورت چودھوین شکل مقالہ ششم کی ہے

۱۷ ش ۶ مقالہ۔ یہ خاص صورت سولھوین شکل مقالہ ششم کی ہے

۲۲ ش ۶ مقالہ۔ بائیسوین شکل مقالہ ششم کے دوسرے حصہ مین اس بات کی تحقیق ضرور ہے کہ ص ر کو متشابہ اور ہم وضع ن ہ کا ثابت کرکے یہ جو کہدیا ہے کہ ع ر برابر ہے ح ہ کے صحیح ہے یا نہین۔ اصل یونانی مین ان دونون کی مساوات کے لیے ایک شکل معاون کا حوالہ دیا ہے (شکل معاون سے یہ مطلب ہے کہ وہ اور شکلون کے اثبات مین اعانت کرے) لیکن وہ شکل اقلیدس کی نہین معلوم ہوتی اسلئے سمسن صاحب نے اوسکو فروگذاشت کیا اب اس شکل معاون کی اصل یہ ہے کہ اگر ص ر اور ح ہ آپس مین مساوی نہون تو ایک اونمین سے دوسرے سے بڑی ہوگی۔ فرض کرو کہ ح ہ بڑی ع ر سے ہے تو بسبب متشابہ ہونے اشکال ص ر اور ن ہ کے۔ بموجب (۱ حد ۶ م) کے ع ر کو ع ص سے وہ نسبت ہے جو ح ہ کو ہے ح ن سے لیکن بموجب فرض کے ع ر بڑا ح ہ سے ہے اسیواسطے بحکم (۱۴ ش ۵ م) کے ع ص بڑا ح ن سے ہے۔ اسی واسطے بموجب (۴ ش ۱ م ۶ علوم) کے مثلث ر ع ص بڑا مثلث ہ ح ن سے ہے۔ لیکن شکل ص ر اور ن ہ کے متشابہ ہونے سے بحکم (۲۰ ش ۶ م) کے مثلث ر ع ص برابر ہے مثلث ہ ح ن کے یہ ناممکن۔ اسواسطے ع ر برابر ہے ح ہ کے ہے

۲۳ شکل ۶ مقالہ۔ اس شکل مین فرض کرو کہ ب د اور ح ی کھینچی گئی ہین تو مثلث ب س د کو مثلث ح س ی سے وہ نسبت ہے جو متوازی الاضلاع ا س کو ہے متوازی الاضلاع س ق سے پس اس سے یہ نتیجہ نکلا کہ یہ دعوی مثلثون کے لئے بھی درست ہے اوس سے یہ شکل اور مستنبط ہوتی ہے کہ مثلثون مین جن مین ایک مثلث کا ایک زاویہ برابر ہو دوسرے مثلث کے ایک زاویہ کے تو مثلثون مین باہم وہ نسبت ہوگی جو اونکی نسبت اضلاع کی نسبت مولفہ ہے۔ انیسوین شکل اس سے بآسانی مستنبط ہوتی ہے۔ اسواسطے کہ فرض کرو ا ب س اور د ی ق متشابہ مثلث ہین اسی طرح سے کہ ا ب کو ب س سے وہ نسبت ہے جو د ی کو ہے ی ق سے اور اسی واسطے ابدال نسبت سے ا ب کو د ی سے وہ نسبت ہے جو ب س کو ہی ی ق سے تو شکل مذکور کے موافق مثلث ا ب س کو مثلث د ی ق سے وہ نسبت ہے جو نسبت مولفہ

نسبتون ا ب کی دی سے اور ب س کی ی ف سے ہے اور نسبت مثناۃ اور نسبت مولفہ کی تعریف سے یہ نتیجہ نکلتا ہے کہ نسبت مولفہ نسبتون ب س کی ی ف سے اور ب س کی ی ف سے نسبت مثناۃ ب س اور ی ف کی ہے۔ اسی واسطے مثلثون مین وہ نسبت ہوئی جو اونکے اضلاع نظیر مین نسبت مثناۃ ہے

پچیسوین شکل۔ یہ بات طالبعلم کے لئے آسان ہے کہ ب س اور س ف کو ایک خط مستقیم مین اور ل ی اور ی م کو ایک خط مستقیم مین ثابت کرین یہان وہی عمل کرنا چاہیے جو رہ ۴ ش ام) مین کیا ہے جس سے یہ ثابت ہوا ہے کہ ک ہ اور ہ م ایک خط مستقیم مین ہین اور ف ح ا ر ح ل ایک خط مستقیم مین اس شکل کا یہ محل نامناسب ہے کہ وہ چوبیسوین اور چھبیسوین شکلون کے درمیان مین آجاے اور اونکے ارتباط مین خلل ڈالے اس شکل کا دعوی اس طرح اچھا معلوم ہوتا ہے کہ ایک شکل بناؤ جسکی وضع ایک شکل کی سی اور وسعت دوسری شکل کی سی ہو۔

۲۶ شکل ۶ مقالہ۔ یہ شکل عکس چوبیسوین شکل مقالہ ششم کا ہے یہ دعوی اون متوازی الاضلاعون کے لئے بھی درست ہے جو متشابہ اور ہم وضع ہون اور مقابل کے دو زاوئے اونکے آپسمین برابر ہون

ہمنے ۲۷ و ۲۸ و ۲۹ شکلون کو نہین لکھا اور تیسوین شکل کا جو ثبوت اقلیدس نے لکھا ہی اوسکو شارحین اقلیدس بیکار و لغو بتلاتے ہین۔ ان شکلون کے خواص ۲۹ ش مین اس بیان سے کچھ خیال مین آسکتے ہین فرض کرو کہ ا ب ایک خط مستقیم ہے اوسے ب کی طرف سے نقطہ ت تک ایسا خارج کرو کہ متوازی الاضلاع ا ر پر ان شرائط کے ساتھ بنے کہ متوازی الاضلاع برابر مستقیم الاضلاع معلوم کے ہو اور متوازی الاضلاع کہ قاعدہ ب ر پر جو اوس خط مستقیم سے کہ نقطہ ب سے کھینچے قطع ہو متشابہ متوازی الاضلاع کے ہو

تیسوین شکل ۶ مقالہ۔ اس شکل سے کچھ مطلب نہین نکلتا اور علاوہ اس کے دعوی بھی ناقص ہے۔ اس واسطے کہ فرض کرو ی د خارج د کے طرف نقطہ ف تک ایسا ہو کہ د ف برابر د ی کے

اور ملاؤ س ف تو مثلث س د ف تمام شرائط دعوی کو مثل مثلث س د ی کے پورا کرے گا۔ لیکن س ف اور س ب ایک خط مستقیم مین نہین ہین۔

اس لئے اس شرط کو دعوی مین زیادہ کرنا چاہیئے کہ قاعدے خطوط متوازیہ کے درمیان ایک صورت سے واقع ہون قاعدے س ف اور ب س مطابق اضلاع متوازیہ ا ب اور د س کے نہین ہین اسی طرح مثلث س د ف سے تمام شرائط دعوی کی پوری نہین ہونگی اور اسیواسطے وہ خارج دعوی سے ہوجاویگا

۳۰ شکل ۶ مقالہ۔ زاویہ کی جو قید دو قائمون سے زیادہ ہونے کی اقلیدس مین تھی وہ یہان ٹوٹ گئی۔ اس واسطے کہ زاویہ ب ح ل اضعاف زاویہ ب ح س کا بڑا کیئے یا ایک قسمہ سے ہوسکتا ہے۔ اشکال ب اور س سمسن صاحب نے زیادہ کی ہین

گیارہوان مقالہ

ساتوان آٹھوان نوان مقالہ حساب سے متعلق ہے اور دسوان مقالہ مقادیر اصم سے اور گیارہوان اور بارہوان مقالہ اجسام سے گیارہوین مقالہ کا ایک حصہ بعد چھ مقالہ کے پڑھنا چاہیئے

دسوین حد مقالہ یازدہم۔ یہ حدود سمسن صاحب نے نہین لکھا اور وجہ اسکی معقول ہے اس لئے کہ اشکال مجسمہ جن مین سطوح متشابہ اور متساوی تعداد مین برابر ہون آپس مین برابر نہین ہوتے اسواسطے کہ دو مخروطون کو خیال کرو جنکے قاعدے متشابہ اور متساوی ہون اور ارتفاع اونکے مختلف ہون تو اگر اونکے قاعدونکو مختلف جانبون مین رکھین تو ایک اور جسم بن جاویگا اور قاعدہ کی ایک جانب مین رکھین تو ایک اور جسم بنجاوے گا تو وہ جسم اس طرح کے ہوئے جنکی سطوح متشابہ اور متساوی کی تعداد یکسان ہے لیکن وہ آپسمین برابر نہین ہین

دو اور حدود یہ اور زیادہ ہونی چاہیئین

۱ ایک خط مستقیم ایک سطح کا متوازی ہے اگر وہ خارج ہونے سے کہین نہ ملے

۲ دو خطوط مستقیم کہ آپسمین ملتے ہین اون سے جو زاویہ بنتا ہے وہ زاویہ ہوتا ہے کہ ایک نقطہ سے دو خطوط مستقیم متوازی اون خطوط کے نکالکر بناوین

۲۱ شکل ۱۱ مقالہ۔ صورت اول اقلیدس مین لکھی ہے اور صورت دوم مین یہہ شرط ضرور دعوی کے صحیح ہونیکے لئے چاہیئے کہ کثیر الاضلاع ب س د ی ف

مین زاویہ داخلہ مکرر نہو (۲۲ شکل ام کا حاشیہ) دیکھو
ہندسہ مجسمات کی شکلین پڑہی نہین جاتین اوس مین جو کام کام کی باتین ہین وہ لکھی
ہین لیکن ثبوت اونکا علم کلیات کی مثالون مین مذکور ہے۔ دوسرے مقالہ
مین ہمنے لکھا ہے مساحت سطوح کی انچ یا فٹ مربع سے ہوتی ہے اسی طرح
مساحت اجسام کی انچہ یا فٹ مکعب سے ہوتی ہے اور مکعب انچ وہ جسم ہے جس کے
ہر طرف ایک انچ مربع ہو اور علی ہذا القیاس ایک مکعب فٹ کے یہی معنی ہین۔ مساحت ایک
منشور کی اس طرح سے معلوم ہوتی ہے کہ قاعدہ کے انچہ مربعون کو ارتفاع کے انچہ
مین ضرب دو تو جسامت مکعب انچون مین معلوم ہو جاوے گی یا قاعدہ کے فیٹ
مربعون کو ارتفاع کے فٹون مین ضرب دو جسامت فٹ مکعبون مین حاصل ہوگی
قاعدہ منشور سے مراد وہ سطوح متوازی الاضلاع متساوی ہین جنکا بیان
۱۲ حدود گیارہوین مقالہ مین بیان ہوا ہے۔ اس قاعدہ سے یہ معلوم ہوتا ہی کہ
منشور برابر قاعدون پر درمیان ایک ہی سطوح متوازیہ کے جسامت مین برابر ہوتی
ہین جسم متوازی السطوح ایک خاص صورت منشور کی ہے اور جسامت ایک مخروط
کی ایک نہائی منشور کی ہے جسکا قاعدہ اور ارتفاع ایک ہی ہو
پانچ مجسمات منتظمہ جو مشہور ہین اونکا حال علم مثلث کروی مین دیکھو

بارہوان مقالہ

اس مقالہ کی صرف دو شکلین کہ نہایت سودمند اور بکار آمد ہین لکھی ہین اور پہلی
شکل مساوی جو لکھی ہے وہ دسوین مقالہ کی پہلی شکل ہے اوسکی ضرورت دوسری
شکل کے ثابت کرنے مین پڑتی ہے

تمام شد

ضمیمہ

اس ضمیمہ مین بعض شکلین ثابت کرتے ہین وہ علم ہندسہ کی تحقیقات مین نہایت بکار آمد اور سودمند اور ضروری ہین۔ بہت سے کام اس علم مین اون سے چلتے ہین دو فائدے اون سے حاصل ہین۔ اول مشق۔ دوم اون علم ہندسہ کے بعض نتائج کی معلومات کہ نہایت ضروری ہے بعض شکلین نہین کہینچین وہ طالبعلمون کی سمجھپر چھوڑ دی گئی ہین اپنی سمجھ سے آپ بنالین۔

(۱) ایک مثلث کے دو ضلعون کے مربعون کا مجموعہ برابر ہوتا ہے دو چند مربع نصف قاعدہ مع دو چند مربع اوس خط کے کہ راس اور نقطہ وسط قاعدے مین ملایا جاوے فرض کرو کہ اب س مثلث ہے اور اوسکے قاعدے اب کا نقطہ وسط د ہے س ی عمود قاعدہ پر نکالو جو اوس سے ی پر ملے۔

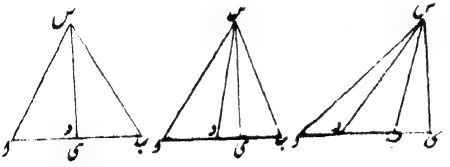

اب ی گیا تو اب مین ہوگا یا اب خارج شدہ مین اول فرض کرو کہ ی منطبق نقطہ د پر ہوتا ہے تو دعوی (۱۴ ش ۱م) سے ثابت ہے۔ دوم فرض کرو کہ ی منطبق د پر نہین ہوتا تو زاویہ اد س اور ب د س مین ایک حادہ اور دوسرا منفرجہ ہوگا فرض کرلو کہ زاویہ اد س منفرجہ ہے تو بحکم (۱۲ ش ۲م) کے مربع اس کا برابر ہے اد اور د س مربعون اور دو چند سطح ب د اور د ی کی اور بحکم (۱۳ ش ۲م) کے ب س کا مربع مع دو چند سطح ب د اور د ی کے برابر ہے ب د اور د س کے مربعون کے اسی واسطے بموجب علوم متعارفہ کے مربعے اس اور ب س کے مع دو چند سطح ب د اور د ی کے برابر ہوئے اد اور د ب کے مربعون اور س د کے دو چند مربع اور دو چند سطح اد اور د ی کے لیکن اد

برابر ہے د ب کے تو مربعے د س اور ب س کے ملکر برابر ہوے دو چند مربعون ا د اور د س کے

۲- اگر ایک دائرہ مین دو وتر متقاطع ہون تو اونکے زاوئے درمیانی کا مقیاس نصف مجموعہ اون قوسون کا ہوگا جو اوسکے سامنے واقع ہین

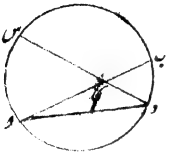

فرض کرو کہ ا ب اور س د دائرہ کے اندر نقطہ ی پر متقاطع ہین۔ ملاؤ ا د

بحکم (۳۲ ش ام) زاویہ ا ی س برابر ہے زاویون ا د ی اور ی ا د کے یعنی اون زاویون کے جو قوسون ا س اور ب د پر واقع ہین

پس زاویہ ا ی س برابر ہے دائرہ کے اوس محیطی زاویہ کے جو اوس قوس پر واقع ہے کہ برابر ہے مجموعہ قوسون کے

اور اسیواسطے وہ برابر ہے اوس زاویہ مرکزی کے جو اون قوسون کے نصف مجموعہ پر واقع ہے اور اسی طرح ثابت ہوسکتا ہے کہ زاویہ س ی ب کا مقیاس نصف مجموعہ قوسون س ب اور ا د کا ہے

۳- اگر دائرہ کے دو وتر خارج ہوکر دائرے کے باہر ملین تو اونکے زاویہ درمیانی کا مقیاس اون قوسون کا نصف تفاوت ہوگا جو مابین اونکے واقع ہین

فرض کرو کہ دائرہ کے دو وتر ا ب اور س د خارج ہوکر نقطہ ی پر متقاطع ہین ملاؤ ا د

بحکم (۳۲ ش ام) کے زاویہ ا د س برابر ہے زاوون ی ا د اور ا د ی کے

تو زاویہ ا ی س برابر ہوا زاویون ا د س اور ب ا د کے فرق سے یعنی زاویہ ا ی س برابر ہوا زاویہ محیطی کے جو اوس قوس پر واقع ہو کہ برابر ہے فرق قوسون ا س اور ب د کے

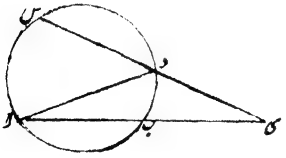

اور اسیواسطے وہ برابر ہے اوس زاویہ مرکزی کے جو اون قوسون کے نصف فرق پر واقع ہو۔

۴- دو معلوم دائرون کا ایک خط مستقیم مماس کینچو

فرض کرو کہ ا مرکز دائرہ کلان کا اور ب مرکز دائرہ خورد کا ہے دو دائرہ معلومہ کے نصف قطرون کے فرق کے برابر نصف قطر پر اور ا کے مرکز پر دائرہ کینچو اور اوس دائرہ کا مماس مرکز ب سے ب س کینچو اور د س کو ملا کر خارج کرو کہ محیط دائرہ سے نقطہ د پر ملے اور نصف قطر ب ی متوازی ا د کا

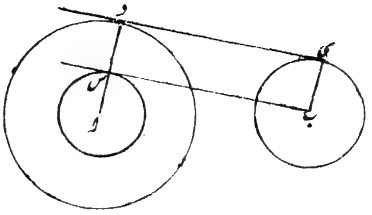

اب کے ایک ہی جہت مین نکالو اور ملاؤ دی تو دی دونون کو مس کریگا (۲۲ ش ۲۹ ش ام و نتیجہ ۱۶ ش ۳ م) سے ثبوت بدیہی ہے

چونکہ نقطہ س سے دائرہ کے دو مماس نکل سکتے ہین اس سبب سے دو خطوط مستقیم و دوائر معلوم کو مس کرتے ہوئے بنتے ہین اور یہ بھی ثابت ہو سکتا ہے کہ یہ دونون مماس خارج ہوکر اب سے ایک ہی نقطہ پر ملینگے شکل اوسی طرح بنیگی جس طرح بنی تھی خواہ دائرے ایک دوسرے سے باہر ہون خواہ متقاطع۔

اگر ایک دائرہ دوسرے دائرے سے باہر ہو تو دو اور صورتین اس شکل کے حل کی پیدا ہونگی اسطرح سے کہ آ کو مرکز بنا کر اور نصف قطر برابر مجموعہ دو دائر معلوم کے نصف قطرون کے لیکر ایک دائرہ بنا دین اور باقی شکل پہلی طرح سے بنا دین تو سب نتیجے موافق سابق کے ہونگے لیکن ب ی اور آ و خط مستقیم اب کی مختلف سمتون مین واقع ہونگے تو یہ مماس جو اس طرح سے دو دائر معلومہ کے کھینچے جاوینگے وہ اب کو ایک ہی نقطہ پر تقاطع کرینگے۔

۶ — ایک دائرہ کھینچو جو دو نقاط معلومہ پر کہ ایک ہی سمت مین ایک خط مستقیم معلوم کے واقع ہین گذرے اور اوس خط کو بھی مس کرے

فرض کرو کہ آ و ب نقاط معلوم ہین اب کو ملا کر خارج کرو یہانتک کہ خط مستقیم معلوم سے نقطہ س پہلے اور بحکم (۱۴ ش ۴ م) کے ایک مربع برابر سطح اس اور س ب کے بنا کر اوسکے ضلع کی برابر خط مستقیم معلوم مین سے س ی قطع کرو اور بحکم (۱۵ ش) دائرہ نقاط آ و ب اور ی پر گذرتا ہوا کھینچو تو بحکم (۲۷ ش ۳ م) کے یہی دائرہ مطلوب ہوگا

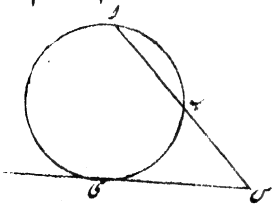

چونکہ ہی دونون طرف س کے ہوسکتا ہے اسلئے دو اختلاف شکل کے پیدا ہونگے اگر اب خط معلوم کا متوازی ہو اس حالت مین اب کے نقطہ د پر تنصیف کرکے دس عمود خط معلوم پر نکالو اور دائرہ نقاط ا اور ب اور س پر گذرتا ہوا کھینچو تو مطلب حاصل ہوگا اس صورت مین شکل موافق سابق کے نہین بنائی جائیگی۔

۷۔ ایک دائرہ کھینچو کہ ایک نقطہ معلوم پر گذرے اور دو خطوط مستقیم معلوم کو مس کرے فرض کرو کہ ا نقطہ معلوم ہے اور خطوط معلوم خارج ہو کر نقطہ ب پر ملتے ہین اور اب ملاؤ نقطہ ب سے خط مستقیم کھینچو کہ زاویہ درمیانی خطوط مستقیم معلوم کے جسکے اندر نقطہ ا ہے تنصیف کرے اور اس خط مین کوئی سا نقطہ س مقرر کرکے س د کسی خط معلوم پر عمود نکالو جو خط معلوم سے نقطہ د پر ملے اور س کے مرکز اور س د کے نصف قطر پر دائرہ بناؤ جو اب کو نقطہ ی پر قطع کرے بصورت ضرورت اب کو خارج بھی کرلو ملاؤ س ی اور نقطہ ا سے ایک خط متوازی س ی کا نکالو جو ب س سے نقطہ ف پر ملے بصورت ضرورت ب س کو خارج کرلو پس دائرہ جو ف کے مرکز پر اور ف ا کے نصف قطر پر کھینچے گا وہ دو خطوط مستقیمہ معلومہ کو مس کریگا۔

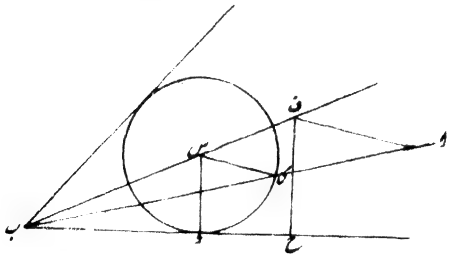

وجہ اسکی یہ ہے کہ ایک عمود ف ح نقطہ ف سے ب د پر نکالو کہ ب د سے نقطہ ح پر ملے تو بحکم (۱۴ ش ۶ م ۱۶ ش ۵ م) کے ی س کو ف ا سے وہ نسبت ہے جو ب س کو ہے ب ف سے اور س د کو ف ح سے وہ نسبت ہے جو ب س کو ہے ب ف سے اسی واسطے بحکم (۱۱ ش ۵ م) س ی کو ف ا سے وہ نسبت ہے جو س د کو ہے ف ح سے اسیواسطے بحکم (۱۰ ش ۵ م) کے س ی کو وہ نسبت ہے س د سے جو ف ا کو ہے ف ح سے لیکن س ی اور س د آپسمین مساوی ہین۔ اسیواسطے بحکم (۱ ش ۵ م) کے ف ا اور ف ح مساوی ہین۔ اگر نقطہ ا خط مستقیم ب س مین ہے تو ی کو بدستور سابق دریافت کرلو

اور پھر ی د کو ملاؤ اور نقطہ آ سے خط مستقیم متوازی ی د کا نکالو جو ی د سے نقطہ ح پر ملے بصورت ضرورت ب د کو خارج کر لو اور ح سے عمود ب ح نکالو تو اس خط اور خط ب س کا نقطہ تقاطع مرکز دائرہ مطلوب کا ہوگا اگر ضرورت ہو تو ب س کو خارج کر لو۔

چونکہ دائرہ مرکز س اور نصف قطر س د پر بنایا گیا اور ب سے نقطون پر ملتا ہے اسواسطے اس شکل کے دو حل ہین اگر آ خطوط معلوم مین سے کسی ایک خط مستقیم پر واقع ہو تو نقطہ آ سے عمود اس خط مستقیم معلوم پر نکالین جہان یہ عمود ان دونون خطوط مستقیم مین سے کسی ایک خط سے کہ زاویہ درمیانی خطوط معلومہ کو تنصیف کرتے ہین ملیگا وہی مرکز دائرہ مطلوب ہوگا۔

اگر دو خطوط معلومہ متوازی ہین جیسا کہ پہلی صورتون مین خطوط معلومہ کے زاویہ درمیانی کی تنصیف کرتا ہوا ب س کھینچا گیا تھا اس صورت مین اوسکو متوازی خطوط معلومہ کا اون سے متساوی البعد پر کھینچو۔

۸ - ایک دائرہ کھینچو کہ تین خطوط مستقیم معلوم کو مس کرے اور ان تین خطوط مستقیم مین سے دو سے زیادہ خطوط متوازی نہین ہین مثل ۴ ش ۴ م کے عمل کرو

اگر خطوط مستقیم معلوم ایک مثلث بناتے ہین تو چار دائرہ کھینچ سکتے ہین ایک تو ایسا جیسے اقلیدس مین مذکور ہے اور تین باقی ایسے کہ ایک مثلث کے ایک ضلع اور دو اضلاع خارجہ کو مس کرین اگر دو خطوط مستقیم خطوط معلوم مین متوازی ہین تو دو دائرے کھینچین گے جنمین سے ہر ایک تیسرے خط کی ہر جانب مین ہوگا۔

۹ - دائرہ کھینچو جو دائرہ معلوم کو اور ایک خط معلوم کو ایک نقطہ معلوم پر مس کرے

فرض کرو کہ خط مستقیم مین نقطہ معلوم آ ہے اور دائرہ معلوم کا مرکز س ہے نقطہ س سے عمود خط مستقیم معلوم پر نکالو کہ دائرہ کے محیط سے نقاط ب اور د پر ملے اور ان نقاط مین نقطہ د بعید خط معلوم سے ہے ملاؤ آ د جو دائرہ سے نقطہ ی پر ملے نقطہ آ سے خط معلوم پر عمود نکالو جو س ی خارج شدہ سے نقطہ ف پر ملے پس نقطہ ف مرکز اور ف د نصف قطر دائرہ مطلوب کا ہوگا

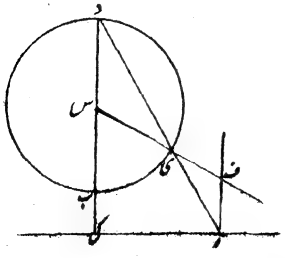

اسواسطے کہ زاویہ ا ی ف بحکم (۱۵ ش ا م) کے برابر ہے زاویہ س ی د کے
اور بحکم (۲۹ ش ا م) کے زاویہ ی د ف برابر ہے زاویہ س د ی کے تو زاویہ ف ی ا
برابر ہوا زاویہ ف د ی کے اور بحکم (۶ ش ا م) کے ف د برابر ہوا ف ی کے اور ا ب کے
ملانے سے ایک اور ثبوت شکل کا پیدا ہوگا اگر خط مستقیم باہر دائرہ کے واقع ہے تو
پہلے ثبوت سے دائرہ جو دریافت ہوگا وہ دائرہ معلوم کو باہر کی طرف مس کریگا اور جو
دوسرے ثبوت سے دائرہ معلوم ہوگا وہ دائرہ کو اندر کی طرف مس کریگا اور اگر خط دائرہ کو
قطع کرتا ہے تو دونوں صورتوں مین دائرہ باہر ہے دائرہ معلوم کو مس کرتا ہوا معلوم ہوگا

۱۰- ایک دائرہ کھینچو کہ دو نقاط معلوم پر گذرے اور ایک دائرہ معلوم کو مس کرے

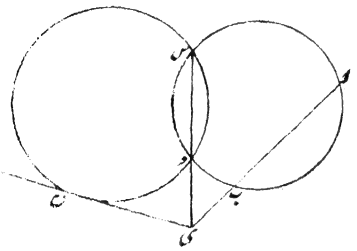

فرض کرو کہ ا اور ب نقاط معلوم ہین دائرہ
معلوم کے محیط مین کوئی نقطہ س مقرر کرو
اور ایک دائرہ نقاط ا اور ب اور س پر گذرتا
ہوا کھینچو اگر یہ دائرہ دائرہ معلوم کو مس کرتا ہے
تو دائرہ مطلوب حاصل ہوگیا اور اگر مس
نہ کرے تو فرض کرو کہ دوسرا نقطہ تقاطع
دائرون کا د ہے اور ا ب اور س د کو خارج کرو کہ نقطہ ی ملین اور نقطہ ی سے ایک خط
مستقیم دائرہ معلوم کو نقطہ ف پر مس کرتا ہوا کھینچو تو دائرہ جو ا اور ب اور ف پر
گذرے گا دائرہ معلوم ہوگا ثبوت (۳۵ اور ۳۷ ش ۳ م) سے ظاہر ہے -
چونکہ نقطہ ی سے دو مماس دائرہ معلوم کے کھینچ سکتے ہین اس سبب سے دو دائرے مطلوب معلوم ہونگے
اگر خط مستقیم جو ا ب کو زاویہ قائمہ پر تنصیف کرتا ہے دائرہ معلوم کے مرکز پر گذرے تو اسی
صورت شکل کی نہین رہے گی کیونکہ ا ب اور س د متوازی ہو جاوینگے اس حالت مین
ف اس طرح سے دریافت کرنا چاہیے کہ خط مستقیم متوازی ا ب کا جو دائرہ کو مس
کرے کھینچا جاوے -

۱۱- ایک دائرہ کھینچو کہ دو خطوط مستقیم معلوم اور ایک دائرہ معلوم کو مس کرے خطوط مستقیم
معلوم کے خطوط متوازی اون سے بفاصلہ نصف قطر دائرہ معلوم کے مرکز سے بیدتر سمت مین
نکالو اور دائرہ بحکم (۷ س) کے ایسا کھینچو کہ وہ اون خطوط مستقیم کو مس کرے اور دائرہ معلوم

کے مرکز مین گذرے پس یہ دائرہ مطلوب کہنچ جاویگا اگر اس دائرہ کے مرکز اور اوس نصف قطر پر دائرہ کہینچین گے کہ برابر اوس زیادتی کے ہو جو اس دائرہ کے نصف قطر کو دائرہ معلوم کے نصف قطر پر حاصل ہے۔ اس شکل کے دو اختلاف ہو سکتے ہین کیونکہ دائرہ بحکم (۱۰ش) کے دو کہنچ سکتے ہین اور اسی طرح سے جو دو دائرے مطلوب دریافت ہونگے وہ باہر کی طرف مس کرین گے وہ دائرے مطلوب جو دائرہ معلوم کو اندر کی طرف مس کرین معلوم ہو سکتے ہین اگر خطوط معلوم کے متوازی مرکز کے قریب سمت مین کہنچے جاوین۔

۱۲۔ ایک دائرہ کہنچو کہ ایک نقطہ معلوم مین گذرے اور ایک خط مستقیم معلوم اور ایک دائرہ معلوم کو مس کرے۔ ہم فرض کرتے ہین کہ خط مستقیم اور نقطہ معلوم باہر دائرہ کے واقع ہین یہ صورت اوسکی اور اوسکے سب اختلافات ایک ہی طرح ثابت ہوتے ہین کچھ فرق نہین ہے فرض کرو کہ نقطہ معلوم ا اور دائرہ معلوم کا مرکز ب ہے نقطہ ب سے ایک عمود خط مستقیم معلوم پر نکالو جو اوس سے نقطہ س پر اور محیط دائرہ سے نقاط د اور ی پر ملے اسطرح سے کہ د مابین ب اور س کے ہو ملاؤ ی ا اور ی د پر نقطہ ف ایسا مقرر کرو (بصورت ضرورت ی ا کو خارج بہی کرلو) کہ سطح ا ی اور ی ف کے برابر سطح ی س اور ی د کے ہو اور ایسا نقطہ اس طرح سے ی ا پر دریافت ہو سکتا ہے کہ ایک دائرہ نقاط ا اور س اور د پر گذرتا ہوا کہنچو تو بحکم نتیجہ (۳۶ ش ۳م) یہ دائرہ ا ی کو نقطہ مطلوب پر قطع کریگا۔ اور بحکم (۶ش) کے دائرہ کہنچو جو نقاط ا اور ف پر گذرے اور خط معلوم کو مس کرے تو بہی دائرہ دائرہ مطلوب ہوگا۔ اسواسطے کہ فرض کرو کہ دائرہ جو کہنچا گیا ہے وہ خط معلوم کو نقطہ ح پر مس کرتا ہے ملاؤ ی ح جو محیط دائرہ معلوم سے نقطہ ہ پر ملے اور ملاؤ د ہ تو مثلث ی ہ د اور ی س ح متشابہ ہین۔ اور اسیواسطے بحکم (۳۱ ش ۳م و ۱۶ ش ۶م) کے سطح ی س اور د ی کی برابر ہے سطح ی ہ اور ی ح کی تو سطح ی ا اور ی ف کی مساوی ہے سطح ی ح اور ی ہ کے اور اسیواسطے بحکم (نتیجہ ۳۶ ش ۳م) کے نقطہ ہ واقع ہے محیط

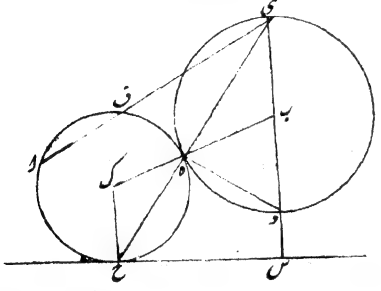

دائرہ پر جو کھینچا گیا ہے اس دائرہ کا مرکز ک دریافت کرلو اور ملاؤ ک ح اور ک ہ اور ب ہ
اب بحکم (۲۹ و ۵ ش ۱ م) کے ثابت ہے کہ زاویہ ک ہ ح برابر ہے زاویہ ی ہ ب کے پس
ک ہ ب ایک خط مستقیم ہوا اور اسی واسطے دائرہ کھینچا گیا مماس دائرہ معلوم کا ہوا اس
شکل کے دو اختلاف ہو سکتے ہین کیونکہ بموجب (۶ ش) کے دو دائرے کھینچ سکتے ہین جو
دائرے اسطرح کھینچے جاوین گے وہ متماسہ بیرونی ہونگے۔ بجائے ی ا کے د ا کے ملانے سے دو اختلاف
شکلون کے پیدا ہونگے جن مین دائرے اندر کی طرف متماسہ بنائے جاوین گے

۱۳- ایک دائرہ کھینچو جو ایک خط مستقیم اور دو دائرون معلوم کو مس کرے

فرض کرو کہ آ دائرہ کلان کا اور ب دائرہ خورد کا مرکز ہے خط معلوم کا ایک خط متوازی بفاصلہ
نصف قطر دائرہ خورد کے اوس سمت مین کہ بعید تر آ سے ہو کھینچو اور ایک دائرہ مرکز آ پر ایسا
کھینچو کہ اوسکا نصف قطر دوائر معلوم کے نصف قطرون کے فرق کے برابر ہو اور بحکم (۱۲ ش ۱) کے
ایک دائرہ کھینچو جو نقطہ ب پر گذرے اور اوس دائرہ کو جو ابھی کھینچا ہے باہر کی طرف اور خط کو جو
متوازی خط معلوم کا نکالا ہے مس کرے پس وہ دائرہ مطلوب ہوگا جسکا مرکز ایسے دائرہ کا
مرکز ہے اور جسکا نصف قطر برابر اوس زیادتی کے ہو جو اس دائرہ ثانی کے نصف قطر کو دائرہ خورد
کے نصف قطر پر حاصل ہے۔ جو کہ شکل دوازدہم کے دو اختلاف ہین اسلئے اس شکل کے
بھی دو اختلاف ہونگے اور ہر اختلاف مین دائرے باہر کی طرف مس کرینگے

اور اسی طرح دائرے جو اندر کی طرف دو دائرہ معلوم کو مس کرین اور دائرے جو ایک دائرہ کو اندر
کی طرف اور دوسرے دائرہ کو باہر کی طرف مس کرین ہم کھینچ سکتے ہین

۱۴- فرض کرو کہ آ مرکز دائرہ خرد اور ب مرکز دائرہ کلان کا ہے اور ایک خط مستقیم دائرہ کلان
کو نقطہ د پر اور دائرہ خرد کو نقطہ س پر مس کرتا ہوا کھینچا گیا ہے اور وہ آ ب سے کہ آ
کی طرف سے خارج کیا جاوے نقطہ ط پر ملتا ہے اور نقطہ ط سے ایک خط مستقیم
دائرہ خرد کو ک اور ل پر اور دائرہ کلان کو م اور ن پر قطع کرتا ہوا کھینچا گیا ہے اس
طرح سے پانچ نقطے ط اور ک اور ل اور م اور ن ترتیب وار ہین تو ثابت کرو کہ خطوط
مستقیم ا ک اور ک س اور س ل اور ل آ علی التناظر متوازی خطوط ب م اور م د
اور د ن اور ن ب کے ہونگے اور سطح ط ک کی ط ن مین اور سطح ط ل کے ط م مین اور سطح
ط س کی ط د مین آپسمین مساوی ہونگین۔

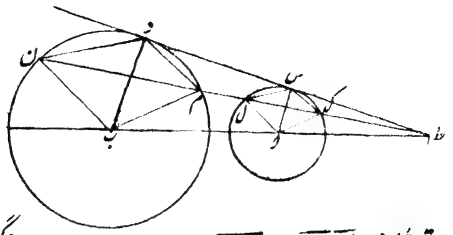

ط ا و اس اور ب د تو مثلث ط ا اس اور ط ب د باہم متساوی الزوایا ہونگے اور اسیواسطے بحکم (۴ ش ۶ م ۱۶ ش ۵ م) ط ا کو ط ب سے وہ نسبت ہے جو ا س کو ہے ب د سے یعنی ا ک کو ہے ب م سے تو بحکم (۷ ش ۶ م) کے مثلث ط ا ک اور ط م ب متشابہ ہوئے اور اسیواسطے زاویہ ط ا ک برابر ہوا زاویہ ط ب م کے اور اسی لئے ا ک متوازی ہوا ب م کا اسی طرح ثابت ہو سکتا ہے کہ ا ل متوازی ہے ب ن کا۔ اور چونکہ ا ک متوازی ب م کا اور ا س متوازی ب د کا تو زاویہ ک ا س برابر ہوا زاویہ م ب د کے اور اسیواسطے بحکم (۲۹ ش ۳ م) کے زاویہ ک ل س برابر ہوا زاویہ د م ن کے اور اسیواسطے س ل متوازی د ن کا اور علی ہذا القیاس س ک متوازی د م کا ہے بحکم (۳۷ ش ۳ م و ۱۶ ش ۶ م) کے ط م کو ط د سے وہ نسبت ہے جو ط د کو ہے ط ن سے اور بحکم (۴ ش ۶ م) کے ط م کو ط د سے وہ نسبت ہے جو ط ک کو ہے ط س سے تو ط ک کو ط س سے وہ نسبت ہے ہوئی جو ط د کو ہے ط ن سے اور اسی واسطے سطح ط ک اور ط ن کی برابر ہوئی سطح ط س اور ط د کی اور علی ہذا القیاس سطح ط ل اور ط م کی برابر ہوئی سطح ط س اور ط د کے اگر ہر ایک دائرہ دوسرے دائرہ سے باہر ہو تو خط مستقیم کو دونوں دائرون کو مس کرتا ہے ا ب سے نقطہ ہ پر مابین ا اور ب کے ملتا ہوا فرض کر سکتے ہین اس صورت مین اثبات دعوی پہلی ہی طرح سے ہوگا فقط حروف ک اور ل اور م کو اسطرح بدل دین کہ ترتیب نقاط کی اس وضع پر ہو کہ ل اور ک اور ط اور م اور ن نقطہ ط دونوں دائرون کا مرکز مشابہت کہلاتا ہے

۱۵- ایک دائرہ کھینچو کہ ایک نقطہ معلوم پر گذرے اور دو دائرون کو مس کرے فرض کرو کہ دائرۂ خرد کا مرکز ا اور دائرہ کلان کا مرکز ب ہے اور ہی نقطہ معلوم ہے ایک خط مستقیم کھینچو کہ پہلے دائرہ کو نقطہ س پر اور دوسرے دائرے کو نقطہ د پر

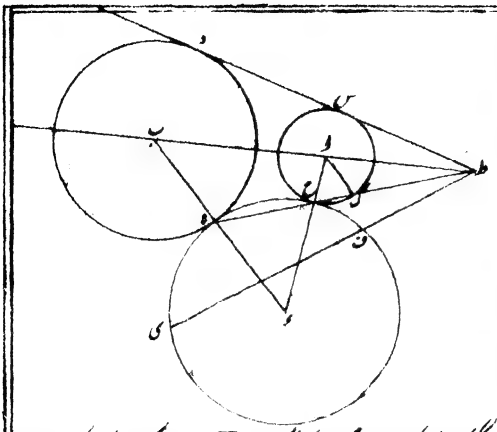

مس کرے اور خط مستقیم اب سے جو ا کی طرف سے خارج ہو نقطہ ط پر ملے ملاؤ طی اور طی کو نقطہ ق پر ایسا تقسیم کرو کہ سطح طی اور طق کی برابر ہو سطح طس اور طو کی بحکم (۱۲ ش) کے ایک دائرہ کھینچو کہ ی اور ق پر گذرے اور کسی ایک دائرہ کو دو معلوم میں سے مس کرے مثلاً دائرہ خورد کو نقطہ ح پر مس کرے و ثابت کرینگے کہ وہ دائرہ کلان معلوم کو مس کریگا ملاؤ طح اور اسکو خارج کرو کہ محیط دائرہ کلان سے نقطہ ہ پر ملے تو بحکم (۱۲ ش) کے سطح طح کی طہ مین برابر ہوئی سطح طس اور طو کے اسیواسطے سطح طح کی طہ مین برابر ہوئی سطح طی اور طق کے۔ پس اس سے معلوم ہوا کہ دائرہ نقطہ ہ پر گذرتا ہے۔ فرض کرو کہ ا مرکز اس دائرہ کا ہے تو ح و ایک خط مستقیم ہوگا اور ہم ثابت کرینگے کہ ہ ب بھی ایک خط مستقیم ہے۔ فرض کرو کہ طح چھوٹے دائرہ کو نقطہ ک پر قطع کرتا ہے تو بحکم (۱۲ ش) کے ا ک متوازی ب ہ کا ہے۔ اسیواسطے زاویہ ا ک ط برابر ہے زاویہ ب ہ ح کے اور زاویہ ا ک ح برابر ہے ا ح ک کے یعنی زاویہ ح ہ ط یا ہ ح کے اسیواسطے زاویہ ب ہ ح اور ہ ح ط مل کر برابر ہوئے زاویون ا ک ط اور ا ک ح کے یعنی دو قائمون کے اسیواسطے ہ ب ایک خط مستقیم ہوا۔ جو کہ شکل دہم کے دو اختلاف ہین اسلئے اس شکل کے بھی دو اختلاف ہین اگر دائرے ایک دوسرے سے باہر ہین تو اور بھی اختلاف ہونگے کیونکہ نقطہ ط کو درمیان ا اور ب کے فرض کرینگے جہان وہ خط مستقیم کہ دونون دائرون کو مس کرتا ہے ا ب کو قطع کرتا ہے اور بہت سے اختلاف اس شکل کے موقوف دائرون کے متماس ہونے پر ہین کہ وہ اندر کی طرف ہون یا باہر کی طرف

۱۶- ایک دائرہ کھینچو جو تین معلوم دائرون کو مس کرے

فرض کرو کہ ا اوس دائرہ معلوم کا مرکز ہے جو کسی دائرہ سے بڑا نہین ہے اور ب اور س مرکز اور دائرون کے ہین ایک دائرہ کھینچو جسکا مرکز ب ہو اور نصف قطر برابر اوس تفاوت کے ہو جو مرکز ب اور مرکز ا کے دائرون کے نصف قطرون مین ہی اور ایک اور دائرہ کھینچو جسکا مرکز س ہو اور نصف

قطر برابر اوس زیادتی کے ہو جو مرکز س اور مرکز د کے دائرون کے نصف قطرون مین ہے
اور اب بحکم (۱۰ ش ا) کے ایک دائرہ کینچو جو ان دونون دائرون کو جو ابھی ہمنے بنائے ہین
باہر کی طرف مس کرے اور نقطہ ا پر گذرے پس وہ دائرہ جسکا مرکز اس دائرہ آخر کا مرکز ہے اور
نصف قطر برابر اوس زیادتی کے ہے جو اس دائرہ آخر اور مرکز ا کے نصف قطرون مین ہو تو دائرہ
تینون دائرون کو باہر کی طرف مس کرتا ہوا کینچ جاویگا۔ اسیواسطے ہم ایک دائرہ ایسا کینچ سکتے ہین کہ
وہ تینون دائرون معلوم کو اندر کی طرف مس کرے یا ایک دائرہ کو باہر کی طرف اور دو کو اندر کی طرف
یا ایک کو اندر کی طرف یا دو کو باہر کی طرف مس کرتا ہو۔

۱۷۔ خط غیر محدود مین ایک نقطہ ایسا دریافت کرو کہ مجموعہ اوسکے فاصلون کا دو نقاط معلوم
سے جو خط مستقیم کی ایک سمت مین واقع ہون حتی الامکان چھوٹا ہو

فرضکرو کہ ا اور ب نقاط معلوم ہین اوسے ایک عمود خط مستقیم پر لگالو جو خط معلوم سے نقطہ
س پر ملے اور اوس کو ایسا د تک بڑھاؤ کہ س د برابر اوس کے ہو اور لاؤ ب د جو خط
مستقیم سے نقطہ ی پر ملے پس ی
نقطہ مطلوب ہوگا

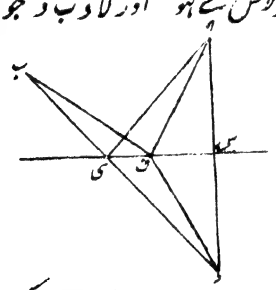

اسواسطے کہ خط مستقیم معلوم مین کوئی نقطہ
ق مقرر کرو چونکہ اس برابر ہے س د کے
اور س ی دونون مثلثون اس ی اور
د س ی مین مشترک ہے اور زاویہ قائمہ اس ی برابر ہے زاویہ قائمہ د س ی کے تو
ا ی برابر ہے د ی کے اور علی ہذا القیاس ا ق برابر ہے د ق کے اور مجموعہ د ق اور
ق ب کا بحکم (۲۰ ش ا م) کے بڑا ہے ب د سے اور اسیواسطے مجموعہ ب ی اور ا ی کا بڑا
ب د سے یعنی مجموعہ ب ی اور ا ی کا بڑا ہے مجموعہ ا ق اور ق ب سے پس مجموعہ ا ق
اور ق ب کا چھوٹا ہوا مجموعہ ا ی اور ی ب سے فہو المراد

۱۸۔ ایک قاعدے پر جو متساوی مثلث واقع ہون اون مین مجموعہ اضلاع مثلث متساوی الساقین
کا سب سے چھوٹا ہوتا ہے

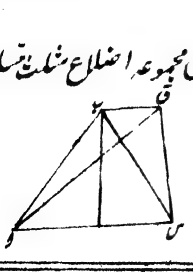

فرض کرو کہ ا ب س ایک مثلث متساوی الساقین ہے
اور ا س ق ایک اور مثلث اوسکے برابر قاعدہ ا س پر ہے

ملاؤ ب ق تو بحکم (۲۹ ش ۱م) کے ق ب متوازی ر س کا ہوگا اور بحکم (۱۸ ش ۱) کے نتیجہ یہ حاصل ہوگا کہ ر ق اور ق س ملکر بڑے ہین ر ب اور س ب سے

۱۹- اگر ایک کثیر الاضلاع مساوی الاضلاع ہو تو ایک اور کثیر الاضلاع اوسکے برابر ساحتاً ایسی بن سکتی ہے کہ مجموعہ اضلاع اوسکا کم ہو اور تعداد اضلاع وہی رہے

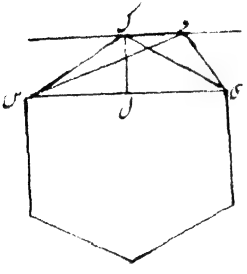

فرض کرو کہ س د اور د ی وغیرہ مساوی الاضلاع کثیر الاضلاع کے ہین ملاؤ س ی اور نقطہ د سے خط مستقیم متوازی س ی کا نکالو اور س ی کے نقطہ ل پر تنصیف کرو اور ل سے ایک خط مستقیم زاویے قائمے س ی پر بناتا ہوا کھینچو جو اوس خط مستقیم سے کہ د سے متوازی نکالا جاے نقطہ ک پر ملے کثیر الاضلاع معلوم سے سرکا کر اوسکی جگہ مثلث ک س ی جو اوسکی برابر ساحتاً ہے رکھو تو ایک کثیر الاضلاع ایسی حاصل ہوگی کہ جسکی تعداد اضلاع اور رقبہ کثیر الاضلاع معلوم کے برابر ہوگا لیکن اوسکا مجموعہ اضلاع بحکم (۱۸ ش ۱) کے کم ہوگا

۲۰- نقاط معلوم ر اور ب ایک ہی جہت مین ایک خط مستقیم معلوم کے واقع ہین اور ر ب ملایا گیا اور خارج کیا گیا خط معلوم سے نقطہ س پر ملتا ہے تو تمام نقاط مین سے جو س کے دونون طرف واقع ہین اوس نقطہ کا دریافت کرنا مرکوز ہے کہ اوسپر زاویہ سامنے ر ب کے نہایت بڑے سے بڑا پیدا ہو۔ بحکم (۱۰ ش ۱) کے ایک دائرہ کھینچو کہ نقاط ر اور ب پر گذرے اور خط معلوم کو نقطہ ق پر مس کرے پس ق نقطہ مطلوب ہوگا۔

اسواسطے کہ کوئی اور نقطہ مثلاً ی خط معلوم مین اوسی طرف س کے جس طرف ق ہے مقرر کرو

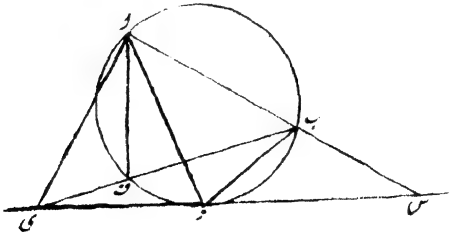

اور ا ی اور ب ی ملاؤ تو ایک انمین سے ضرور دائرہ کو کسی نقطہ پر مثلاً ف پر قطع کرے گا ملاؤ
ا ف تو بحکم (۳۱ ش ۳ م) کے زاویہ ا ف ب برابر ہے زاویہ ا ب د کے اور بحکم (۱۶ ش ۱ م) زاویہ
ا ف ب بڑا ہے زاویہ ا ی ب سے تو زاویہ ا د ب بڑا ہوا زاویہ ا ی ب سے فہو المراد

۲۱ - ایک دائرہ کے اندر دو نقاط معلوم ا اور ب ہین اور ا ب ملایا گیا ہے اور دونون
طرف خارج کیا گیا ہے اس طرح سے کہ محیط دائرہ کی اوس نے دو قوسین کردی ہین تو ہر قوس
مین ایک نقطہ ایسا دریافت کرو کہ اوسپر زاویہ سامنے ا ب کے نہایت بڑا ہوا
بحکم (۱۰ ش) کے ایک دائرہ ایسا کھینچو کہ ا اور ب پر گذرے اور محیط کہ جسمین نقطہ دریافت کرنا ہی
مس کرے پس نقطہ تماس نقطہ مطلوب ہوگا ثبوت اسکا اور ۲۰ شکل کا ایک ہی ہے

۲۲ - ا اور ب دو نقطے معلوم باہر ایک دائرہ معلوم کے واقع ہین دائرہ معلوم کے
محیط مین ایسا نقطہ دریافت کرو کہ جسپر سامنے ا ب کے بڑے سے بڑا اور چھوٹے سے چھوٹا
زاویہ واقع ہو فرض کرلو کہ نہ ا ب اور نہ ا ب خارج شدہ دائرہ کو قطع کرتا ہے بحکم
(۱۰ ش) کے دو دائرے کھینچو جو نقاط ا اور ب پر گذرے اور دائرہ کو مس کرے
پس نقطہ تماس دائرہ کا جسپر دائرہ معلوم باہر کی طرف مس کرتا ہے نقطہ مطلوب ہوگا
جسپر بڑے سے بڑا زاویہ پیدا ہوتا ہے اور وہ نقطہ تماس جسپر دائرہ کھینچا گیا ہے اندر کی طرف
مس کرتا ہے وہ نقطہ مطلوب ہوگا جسپر زاویہ نہایت چھوٹے سے چھوٹا پیدا ہوتا ہے
اور اس شکل اور ۲۰ ش کا ثبوت ایک ہی ہے
اگر ا ب دائرہ کو قطع کرتا ہے تو دونون دائرے جو بحکم (۱۰ ش) کے کھینچے گئے ہین دائرہ کو اندر
کی طرف مس کرینگے اس صورت مین زاویہ جو ا ب کے سامنے نقطہ تماس پر واقع ہے نہایت چھوٹا
ہوگا ہر ایک زاویہ سے جو اوسکے سامنے محیط دائرہ کی کسی اور نقطہ پر ا ب کے اوسی جہت
مین واقع ہو اور زاویہ نہایت بڑا اون نقاط پر ہوگا جہان ا ب دائرہ کو قطع کرتا ہے اور
وہ برابر دو قائمون کے ہوگا۔
اگر ا ب خارج ہو کر قطع دائرہ معلوم کو کرتا ہے تو بحکم (۱۰ ش) کے جو دائرے کھینچے جاوینگے
وہ دائرہ معلوم کو باہر کی طرف مس کرینگے پس نقطہ تماس وہ نقطہ ہوگا جسپر سامنے ا ب
کے زاویہ بڑا ہوگا ہر ایک زاویہ سے جو محیط کے کسی نقطہ پر سامنے ا ب کے اوسی جہت مین واقع
ہو اور زاویہ نہایت چھوٹا وہان ہے جہان ا ب دائرہ کو قطع کرتا ہے اور وہ وہان صفر ہے

۲۳- اگر چار مقدارین متناسب ہون یعنے پہلی مقدار کو دوسری مقدار سے وہ نسبت ہو جو تیسری مقدار کو چوتھی مقدار سے تو اول اور دوم مقدارون کے مجموعہ کو اول اور دوم کے تفاوت ساتھہ وہ نسبت ہوگی جو تیسری اور چوتھی مقدارون کے مجموعہ کو ہے تیسری اور چوتھی مقدارون کے فرق کے ساتھہ اس لئے کہ بحکم (۱۶ اش ۵ م) کے اول اور دوم کے مجموعہ کو دوم کے ساتھہ وہ نسبت ہے جو تیسری اور چوتھی کے مجموعہ کو ہے چوتھی کے ساتھہ تو بحکم (۱۶ اش ۵ م) کے ابدال نسبت سے اول اور دوم کے مجموعہ کو تیسرے اور چوتھی کے مجموعہ کے ساتھہ وہ نسبت ہے جو دوم کو ہے چہارم کے ساتھہ اور ایسے ہی بحکم (۱۶ و ۱۶ اش ۵ م) کے فرق اول اور دوم کو فرق سوم و چہارم سے وہ نسبت ہے جو دوم کو ہے چہارم کے ساتھہ تو بحکم (۱۱ اش ۵ م) کے اول اور دوم کے مجموعہ کو اول اور دوم کے فرق کے ساتھہ وہ نسبت ہے جو سوم و چہارم کے مجموعہ کو ہے سوم و چہارم کے فرق کے ساتھہ

۲۴- اضلاع مثلث کے نقاط وسط سے جو عمود اونپر نکالین وہ ایک نقطہ پر ملتے ہین- فرض کرو کہ اب س ایک مثلث ہے ب س کی تنصیف نقطہ د پر اور س ا کی تنصیف نقطہ ی پر کرو اور د سے عمود ب س پر اور ی سے عمود س ا پر نکالو اور فرض کرو کہ یہ عمود نقطہ ح پر ملتے ہین تو ہم ثابت کرین گے کہ خط مستقیم جو ا ب کے زاویہ قائمہ پر تنصیف کرتا ہے نقطہ ح پر گذرتا ہے مثلثون ب د ح اور س د ح سے یہ ثابت ہو سکتا ہے کہ ب ح برابر ہے س ح کے اور مثلثون

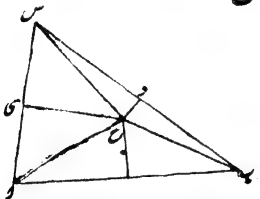

س ی ح اور ا ی ح سے یہ ثابت ہو سکتا ہے کہ س ح برابر ہے ا ح کے اسیواسطے ا ح برابر ہوا ب ح کے پس نقطہ ح سے اگر ایک خط مستقیم نقطہ وسط ا ب مین ملاوین تو ظاہر ہے کہ وہ ا ب پر عمود ہے یعنی خط مستقیم جو ا ب کے زاویہ قائمہ پر تنصیف کرتا ہے نقطہ ح پر گذرتا ہے

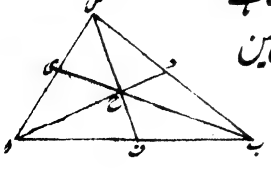

۲۵- اضلاع مثلث کے نقاط وسط اور مقابل کے زاویون مین جو خطوط مستقیم وصل ہوتے ہین ایک نقطہ پر تقاطع کرتے ہین فرض کرو کہ ا ب س مثلث ہی اور ب س کے

نقطہ د پر اور اس کے نقطہ ی پر اور اب کے نقطہ ف پر تنصیف ہوتی ہے اور ب ی اور س ف ملاؤ جو نقطہ ح پر متقاطع ہون اور ملاؤ ا ح اور ح د تو ا ح و ح د ایک خط مستقیم مین ہونگے۔ اسواسطے کہ بحکم (۲۸ ش ام) کے مثلث ب ی س برابر ہے مثلث ا ب ی کے اور مثلث ح ی س برابر مثلث ا ح ی کے تو بموجب (۳ علوم متعارفہ) کے مثلث ب ح س برابر ہوا مثلث ا ح ب کے اور اسی طرح مثلث ب ح س برابر ہے مثلث ا ح س کے اور اسیواسطے مثلث ا ح ب برابر ہوا مثلث ا ح س کے اور بحکم (۲۸ ش ام) کے مثلث ح س د برابر ہے مثلث ب ح د کی تو مثلث ب ح ا اور ب ح د ملکر برابر ہوئے مثلثون ا ح س اور د ح س کے اسیواسطے مثلث ب ح ا اور ب ح د ملکر برابر ہوئے نصف مثلث ا ب س کے تو ثابت ہوا کہ نقطہ ح خط مستقیم ا د مین واقع ہوا ہے یعنی ا ح اور ح د ایک خط مستقیم مین ہین

۲۶۔ مثلث کے زاویون کی تنصیف کرنیوالے خطوط مستقیم ایک نقطہ پر ملتے ہین

فرض کرو کہ مثلث ا ب س کے زاویون ب اور س کے خطوط مستقیم جو تنصیف کرتے ہین وہ نقطہ ح پر ملتے ہین اب ملاؤ ا ح تو زاویہ ا کی ا ح تنصیف کریگا۔ نقطہ ح سے ح د عمود ب س پر اور ح ی عمود ا س پر اور ح ف عمود ا ب پر نکالو مثلثون ب ح ف اور ب ح د سے ثابت ہی کہ ح ف برابر ہے ح د کے اور مثلثون س ح ی اور س ح د سے ثابت ہے کہ ح ی برابر ہے ح د کے اسیواسطے ح ف برابر ہوا ح ی کے تو مثلثون ا ف ح اور ح ا ی سے یہ ظاہر ہے کہ زاویہ ف ا ح برابر ہے زاویہ ی ا ح کے یہ شکل اس طرح بھی ثابت ہو سکتی ہے کہ ا ح کو خارج کرو کہ وہ ب س سے نقطہ ہ پر ملے۔

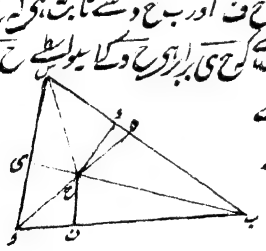

تو بحکم (۳ ش ۶ م) کے ا ب کو ب ہ سے وہ نسبت ہے جو ا ح کو ہے ح ہ سے اور ا س کو س د سے وہ نسبت ہے جو ا ح کو ہے ح ہ سے تو بحکم (۱۱ ش ۵ م) کے ا ب کو ب ہ سے وہ نسبت ہے جو ا س کو ہے س ہ سے تو بحکم (۱۱ ش ۵ م) کے ا ب کو ا س سے وہ نسبت ہے جو ب ہ کو ہے س ح سے تو بحکم (۳ ش ۶ م) کے ا ہ زاویہ ا کی تنصیف کرتا ہے

۲۷۔ ایک مثلث کے دو ضلعے قاعدہ کی طرف خارج کئے جاوین تو خطوط مستقیم جو

ان دونوں خارجی زاویوں کی تنصیف کرتے ہیں اور خط مستقیم جو زاویۂ راس مثلث کی تنصیف کرتا ہے ایک نقطہ پر ملاقی ہونگے یہ شکل موافق ۲۶ ش کے ثابت ہوسکتی ہے اور اگر اوسکو دوسری ترکیب سے ثابت کرین تو شکل ۱ مقالہ ششم کا حوالہ دینا چاہیئے۔

۲۸۔ جو عمود مثلث کے زاویوں سے مقابل کے اضلاع پر نکالے جاوین وہ ایک نقطہ پر تقاطع کرتے ہیں

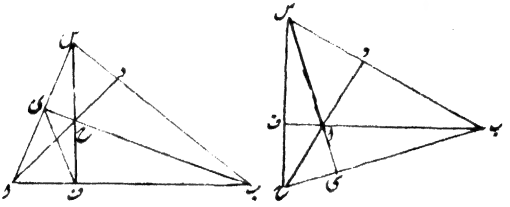

فرض کرو کہ ا ب س مثلث ہے اور وہ حادۃ الزوایا ہی ہے نقطہ ب سے ب ی عمود ا س پر اور نقطہ س سے س ف عمود ا ب پر نکالو اور یہ فرض کرلو کہ یہ دونوں عمود نقطہ ح پر ملتے ہیں اور ملاؤ ا ح اور اوسکو خارج کرو کہ ب س سے نقطہ د پر ملے تو ا د عمود ب س پر ہوگا۔ اسواسطے کہ بحکم (حاشیہ ۲۲ ش ۳ م) کے دائرہ ا ی ح ف پر کھنچ سکتا ہے تو بحکم (۱۱ ش ۳ م) کے زاویہ ف ا ح برابر ہے زاویہ ف ی ح کے اور اس سبب سے کہ بحکم (حاشیہ ۲۲ ش ۳ م) کے دائرہ ب س ی ف کے ہی گرد کھنچ سکتا ہے تو زاویہ ف ی ب برابر ہوگا زاویہ ب س ف کے اسی واسطے زاویہ ب ا د برابر ہوا زاویہ ب س ف کے اور زاویہ ب دونوں مثلثوں ا ب د اور ب س ف مین مشترک ہے تو بحکم (حاشیہ ۳۲ ش ۱ م) کے تیسرا زاویہ ب د ا برابر ہوا زاویہ ب ف س کے لیکن زاویہ ب ف س قائمہ بنایا ہے تو ب د ا بھی قائمہ ہوا

اگر مثلث منفرج الزاویہ ہو تو دعوی خواہ پہلی طرح ثابت کرلو یا پہلے ثبوت سے استنباط کرلو اس طرح سے کہ فرض کرلو زاویہ ا مثلث کا منفرجہ ہے اور عمود جو ب سے مقابل کے ضلع پر نکالا ہے وہ ضلع خارجہ سے نقطہ ی پر ملتا ہے اور س سے جو عمود مقابل کے ضلع پر نکالا ہے وہ ضلع خارجہ سے نقطہ ف پر ملتا ہے۔

اور فرض کرو کہ ب ی اور س ف خارج ہو کر نقطہ ح پر ملین مثلث ب س ح مین عمود ب ف اور س ی نقطہ آ پر ملتے ہین تو بحکم صورت اول ح آ ملا کر خارج کیا گیا ہے ب س پر عمود ہوگا

۲۹- ایک مثلث کے گرد دائرہ بنایا ہے اور اوسکے محیط مین کسی نقطہ سے عمود مثلث کے اضلاع پر نکلے ہین تو تقاطع کے تینون نقطے ایک خط مستقیم مین ہونگے۔

فرض کرو کہ آ ب س مثلث ہے اور اوسکے اوپر دائرہ کھنچا اور اوسکے محیط مین کوئی سا نقطہ ع ہے اور نقطہ ع سے عمود ع د اور ع ف اور ع ی اضلاع ب س اور س آ اور آ ب پر نکالے ہین تو نقاط د اور ی اور ف ایک خط مستقیم مین ہونگے

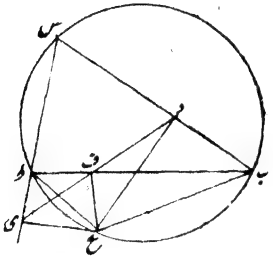

ہمنے یہ فرض کر لیا ہے کہ ع اوس قوس مین ہے کہ آ ب سے قطع ہوتا ہے اور مقابل س کے ہے اور نقطہ ی خط س آ پر جو آ کی طرف خارج ہوا ہے واقع ہے اس فرض کی اس صورت اور اور اختلافات کے ثبوت مین کچھ ہی فرق ہے

بحکم (حاشیہ ۲۲ ش ۳ م) کے گرد ع ی آ ف کے دائرہ کھنچ سکتا ہے اسی واسطے بحکم (۲۱ ش ۳ م) کے زاویہ ع ف ی برابر ہے زاویہ ع آ ی کے لیکن بحکم (۱۳ ش ۱ م) کے زاویہ ع آ ی اور ع آ س ملکر برابر دو قائمون کے ہین اور بحکم (۲۲ ش ۳ م) کے زاویے ع آ س اور ع ب س ملکر برابر دو قائمون کے ہین۔ اسیواسطے ع آ ی برابر ہوا زاویہ ع ب س کے اور اسی لئے زاویہ ع ف ی برابر ہو زاویہ ع ب س کے

اور بحکم (حاشیہ ۲۱ ش ۳ م) کے ع ف د ب کے گرد دائرہ کھنچ سکتا ہے تو بحکم (۲۲ ش ۳ م) کے زاویہ ع ف د اور ع ب د ملکر برابر دو قائمون کے ہے لیکن زاویہ ع ب د برابر ع ف ی کے ثابت ہو چکا ہے۔ اسیواسطے زاویے ع ف د اور ع ف ی ملکر برابر دو قائمون کے ہوئے اسیواسطے ی ف اور ف د ایک خط مستقیم مین ہوئے

۳۰- آ ب س ایک مثلث ہے اور نقاط آ اور ب اور س سے مقابل کے اضلاع پر عمود نکالے گئے نقطہ ر پر تقاطع کرتے ہین پس جو دائرہ نقاط وسط ر آ اور ر ب اور ر س پر گذریگا وہ ضرور موقع عمودون اور اضلاع کے نقاط وسط مین گذریگا

فرض کرو کہ ر ا اور ر ب اور ر س کے نقاط وسط د اور ی اور ف ہین اور ح موقع عمود ہے جو ا سے ب س پر نکلے اور ب س کا نقطہ وسطہ ہ ہے

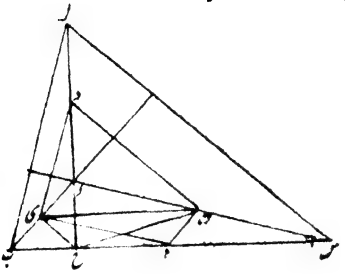

مثلث ر ب ح قائم الزاویہ ہے اور ی نقطہ وسط وتر ر ب کا ہے اسیواسطے ی ح برابر ہے ر ی کے اسیواسطے زاویہ ی ح ر برابر ہے زاویہ ی ر ح کے

اور ایسے ہی زاویہ ف ح ر برابر ہے زاویہ ف ر ح کے اسیواسطے زاویہ ف ح ی برابر ہوا زاویہ ف ر ی کے لیکن زاویہ ف ر ی اور ب ا س ملکر برابر دو قائمون کے ہین۔ اسیواسطے زاویہ ف ح ی اور ب ا س ملکر برابر دو قائمون کے ہین اور زاویہ ب ا س برابر ہے زاویہ ی د ف کے اسواسطے کہ بحکم (۲ ش ۶ م) کے د ی اور د ف متوازی ا ب اور ا س کے ہین پس زاویہ ف ح ی اور ی د ف ملکر برابر دو قائمون کے ہوئے تو بحکم (حاشیہ ۲۲ ش ۳ م) کے ح اوس دائرہ کے محیط مین ہے جو نقاط ی اور د اور ف پر گذرتا ہے اور ف ح متوازی ر ب کا ہے اور ی ہ متوازی ر س کا ہے اسی واسطے زاویہ ی ہ ف برابر ہوا زاویہ ی ح ف کے اس سبب سے ہ بھی محیط دائرہ مین ہے اور اسی طرح سے اور اضلاع مثلث کے ان دو نقطون کا محیط دائرہ مین ہونا ثابت ہو سکتا ہے دائرہ ہوا اس طرح سے ف نقطون مین گذرتا ہے اوسکو نو نقطون کا دائرہ کہتے ہین اور اوسکی عجیب خاصیتین ہین اور دو اونمین سے لکھتے ہین

اول نصف قطر نو نقطون کے دائرہ کا نصف قطر دائرہ سے جو اصل مثلث کے گرد کھینچا جاوے نصف ہوتا ہے

اسواسطے کہ مثلث د ی ف کے اضلاع علی التناظر نصف اضلاع مثلث ا ب س سے ہین تو مثلث متشابہ ہوئے اس سے ثابت ہوا کہ دائرہ جو گرد مثلث د ی ف کے کھینچا جاوے اوسکا نصف قطر آدھا اوس دائرہ کے نصف قطر سے ہوتا ہے جو مثلث ا ب س کے گرد بنائین۔ دوم مثلث ا ب س کے گرد جو دائرہ بنایا جاوے اگر اوسکا مرکز ہو

تو ص ر کا نقطہ وسط مرکز نو نقطون کے دائرہ کا ہوگا

اسواسطے کہ ہ ص عمود ب س پر ہے وہ متوازی ح ر کا ہے پس خط مستقیم جو ہ ح کی تنصیف کرتا ہے ص ر کی تنصیف زاویہ قائمہ پر کریگا اور ہ اور ح دائرہ و نقاط کے محیط مین ہین تو خط مستقیم جو ہ ح کے زاویہ قائمہ پر تنصیف کرتا ہے مرکز مین نو نقطون کے دائرہ کے گذریگا۔ اور اسیطرح سے مثلث ا ب س کے اور اضلاع سے دو خط مستقیم حاصل ہوسکتے ہین جو دائرہ نہ نقاط کے مرکز مین گذرے اور ص ر کی تنصیف بھی کرین پس معلوم ہوا کہ مرکز نو نقاط کا نقطہ وسط ص ر پر منطبق ہے

یہ بھی ثابت ہوسکتا ہے کہ دائرہ نہ نقاط کسی مثلث کا دائرہ اندرونی اور خارجی مثلث کو مس کرتا ہے اسکا ثبوت اور کہین لکھا جاویگا

۳۱- اگر مثلث کے دو زاویون کے خطوط مستقیم تنصیف کرین اور اضلاع مقابل پر منتہی ہون اور آپسمین متساوی ہون تو وہ زاوئے مثلث کے آپسمین متساوی ہونگے

فرض کرو کہ مثلث ا ب س کے زاویہ ب کی ب د تنصیف کرتا ہے اور ا س پر منتہی ہوتا ہے اور زاویہ س کی خط س ی تنصیف کرتا ہے اور ا ب پر منتہی ہوتا ہے اور خط ب د برابر ب س کے تو زاویہ ب برابر ہوگا زاویہ س کے

فرض کرو کہ ب د اور س ی نقطہ ر پر متقاطع ہین اگر زاویہ ا ب س اور ا س ب آپسمین متساوی نہون تو ضرور ہے کہ اونمین ایک بہ نسبت دوسرے کے بڑا ہوگا فرض کرو کہ ا ب س بڑا ہے چونکہ س ب اور ب د علی التناظر برابر ہین ب س اور س ی کے اور زاویہ ا ب س بڑا ہے زاویہ ی س ب سے تو بحکم (۲۴ ش ا م) کے

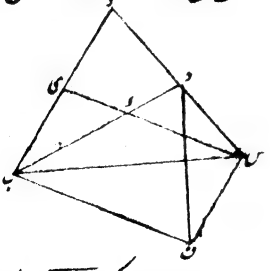

س د بڑا ہوا ب ی سے اور ب س کے دوسری طرف بحکم (۲۲ ش ا م) کے مثلث ب س ف برابر مثلث ب س ی کے بناو اس طرح سے کہ ب ف برابر ہو س ی کے اور س ف برابر ہو ب ی کے اور ملاؤ د ف تو اس سبب سے کہ ب ف برابر ہے ب د کے زاویہ ب ف د برابر ہے زاویہ ب د ف کے اور زاویہ ر س د بموجب فرض کے چھوٹا زاویہ ا ب ی سے ہے اور زاویہ س ر د برابر ہے زاویہ ب ر ی کے

تو بحکم (۲۳ ش ۱م) زاویہ ر د س بڑا ہے زاویہ ر ب ی سے اور اسیواسطے زاویہ ر د س بڑا ہے زاویہ ب ف س سے

ان غیر مساویون مین مساوی زاویے ب د ف اور ب ف د ساقط کرے تو زاویہ ف د س بڑا ہوا زاویہ د ف س سے اسیواسطے بحکم (۱۹ ش ۱م) کے س ف بڑا ہوا س د سے

تو ب ی بڑا ہوا س د سے

لیکن یہ ثابت ہو چکا ہے کہ س د بڑا ہے ب ی سے اور یہ ناممکن ہے

تو اس سے ثابت ہوا کہ زاویہ ر ب س اور ر س ب آپسمین غیر مساوی نہین ہین بلکہ مساوی ہین اسیواسطے زاویہ ب برابر ہوا زاویہ س کے

۳۲ - جس ذو اربعۃ الاضلاع کے گرد دائرہ کھینچنا ناممکن ہو اوسمین مقابل کے دو دو اضلاع کی سطح کا مجموعہ اوس کے اوتار کی سطح سے بڑا ہوتا ہے

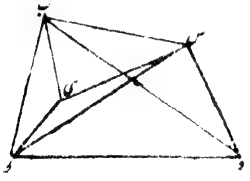

فرض کرو کہ ا ب س د ذو اربعۃ الاضلاع ہے جسکے گرد دائرہ نہین کھنچ سکتا تو سطح ا ب اور ر س کے مع سطح ب س اور ا د کے سطح ا س اور ب د سے بڑے ہونگے

اسواسطے کہ زاویہ ا ب ی برابر زاویہ د ب س کے بناؤ اور زاویہ ب ا ی برابر زاویہ ب د س کے تو بحکم (۴ ش ۶م) کے مثلث ا ب ی متشابہ مثلث ب د س کے ہوگا اسی واسطے ا ب کو ا ی سے وہ نسبت ہے جو ب د کو ہے د س سے اسیواسطے سطح ا ب کی د س مین برابر ہوئی سطح ا ی اور ب د کی

ملاؤ ی س - چونکہ زاویہ ا ب ی برابر ہے زاویہ د ب س کے تو زاویہ س ب ی برابر ہے زاویہ د ب ا کے اور چونکہ مثلث ا ب ی اور د ب س متناسب ہین تو ا ب کو د ب سے وہ نسبت ہے جو ب ی کو ہے ب س سے اسواسطے بحکم (۶ ش ۶م) کے مثلث ا ب د اور ی ب س متناسب و متشابہ ہین اور اسی لئے س ب کو س ی سے وہ نسبت ہے جو د ب کو ہے د ا سے

اور اسی واسطے سطح س ب اور د ا کے برابر ہے سطح س ی اور د ب کے پس سطح

اب اور دس کی مع سطح ب س اور د ا کی برابر ہے سطح ا ی اور ب د مع سطح س ی
اور ب د کے یعنی سطح ب د اور مجموعہ ا ی اور ی س کے
لیکن مجموعہ ا ی اور ی س کا بحکم (۲ ش ام) کے بڑا ہے اس سے تو سطح ا ب اور
دس کی مع سطح ب س اور ا د کی بڑی ہوئی سطح ا س اور ب د سے
۳۳ - اگر ایک ذو اربعۃ الاضلاع کے دو دو مقابل ضلعون کے سطوح کا مجموعہ برابر دو ترون کے
سطح کے ہو تو اوس ذو اربعۃ الاضلاع کے گرد دائرہ بن جاویگا
یہ عکس شکل مقالہ ششم کا ہے اور وہ شکل ۲۲ کی استعانت سے بہی ثابت ہو سکتی ہے
۳۴ - ایک خط مستقیم مین چار نقطے معلوم ہین اوسمین ایک نقطہ ایسا دریافت کرو
کہ دو دو معلوم نقطون سے اوسکے فاصلون کی سطحین آپسمین برابر ہون
فرض کرو کہ ا اور ب اور س اور د چار نقطے معلوم ایک ہی خط مستقیم مین ہون تو ایک نقطہ
کا خط مستقیم مین دریافت کرنا ایسا منظور ہے کہ ا اور ب سے اوس کے فاصلون کے
سطح برابر ہو س اور د سے اوسکے
فاصلون کی سطح کے

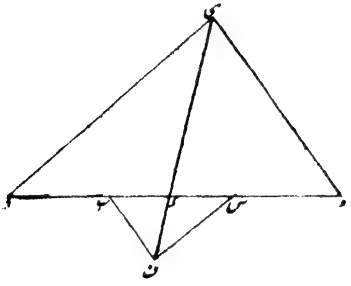

ا د پر کوئی سا مثلث ا ی د بناؤ
اور س پر ایک مثلث متناسب مثلث
ا ی د کے اس طرح سے بناؤ کہ ف س
متوازی ا ی کا اور ب ن متوازی ی د ہوگا
اور ملاؤ ی ن جو خط معلوم کو نقطہ ر پر تقاطع کرے پس ر نقطہ مطلوب ہوگا
دلیل یہ ہے کہ بحکم (۲ ش ۴ م) کے ا ی کو ر ا سے وہ نسبت ہے جو ر ف کو ہے ا س
سے اسیواسطے بحکم (۲ ش ۵ م) کے ا ی کو ر ن سے وہ نسبت ہے جو
ر ل کو ہے ا س سے
ایسے ہی ی ر کو ر ن سے وہ نسبت ہے جو ا د کو ہے ب ا سے - اسیواسطے بحکم
(۱۱ ش ۵ م) کے ر د کو ر س سے وہ نسبت ہے جو ا د کو ہے ب ا سے
اسیواسطے سطح ا د اور ب ا کی برابر ہے سطح ر س اور ر د کے
اگر مقام نقطون کا تبدیل ہوگا تو ضرور شکل مین کچھ فرق آویگا مگر جب مقام نقطون کا

مقرر ہو جاوے تو اوسوقت ایک ہی نقطہ مطلوب رہوگا۔ اسواسطے کہ اگر فرض کرین اوپر کی شکل مین کہ سوائے ت کے کوئی اور نقطہ ع بھی ہے اور نقطون کی ترتیب یہ ہے کہ ا اور س اور د اور ب اور ر اور ع ملاؤ ع اور ی اور فرض کرو کہ وہ س ف خارج شدہ سے نقطہ ح پہلے۔ ملاؤ ب ح تو سطح ح ا اور ع ب کی بموجب فرض کے برابر ہے سطح ع س اور ع د کے اسیواسطے ع ا کو ع س سے وہ نسبت ہے جو ع د کو ہے ع ب سے لیکن بحکم (۲ ش ۶ م) کے ع ا کو ع س سے وہ نسبت ہے جو ع ی کو ہے ع ح سے تو (۱۱ ش ۵ م) ع د کو ع ب سے وہ نسبت ہے جو ع ی کو ہے ع ح سے تو ب ح متوازی ہوا دی کا لیکن ب ت متوازی دی کا نکالا تھا تو بحکم (۳۰ ش ۱ م) ب ح اور ب ت باہم متوازی ہوئے اور یہ ناممکن اس سے ثابت ہوا کہ ع ایسا نقطہ نہین ہے جیساکہ مطلوب ہے۔

تحلیل اور ترکیب ہندسیہ

عموماً اسلوب تحلیلی کے یہ معنی ہین کہ اشیاء کو اون اجزاء مین تقسیم کرین جن سے وہ ملکر بنتے ہین اور پھر اون اجزاء کا جدا جدا امتحان کرین اور اسلوب ترکیبی کے یہ معنی ہین کہ اشیاء کو اس طرح ترکیب دین کہ کل جزو اوس سے مرتب ہو جائین مثلاً گھڑی کا سمجھانا منظور ہو تو اوسکو کھول ڈالین اور سب اوسکے پرزے اور اجزاء جدا جدا کرین اور پھر اون اجزاء کو سمجھائین تو اوسکو اسلوب تحلیلی کہتے ہین اور اگر اجزاء جدا جدا ہون اور اونکو ملا کر سمجھائین کہ گھڑی کسطرح بنتی ہے تو اوسکو اسلوب ترکیبی کہین گے عموماً معنی اسلوب تحلیلی اور ترکیبی کے یہ ہین لیکن خاص معنی اونکے علم ہندسہ مین یہ ہین کہ جب کوئی دعوی ثابت کرنیکے لیے پیش ہو تو ہم اثبات مین آغاز اون نتائج سے کرین جو ابتک پایہ ثبوت کو پہونچ چکے ہین اور آخر مین اوس سے کوئی نتیجہ پیدا کرین اس طرح اسلوب ترکیبی سے اون اشکال نظری اور عملی سے جو ابتک پہ براہین اور دلائل ثابت ہوئی ہین ایک اور نئی شکل نظری یا عملی ثابت ہوتی ہے اور اسلوب تحلیلی وہ ہے کہ اثبات کے اندر ابتدا ہی سے دعوی شکل نظری یا عملی کو مان لیتے ہین اور پھر اوس سے آخر کو ایک نتیجہ دلائل کا تسلسل باندھ کے بتدریج استنباط کرتے ہین اور اس آخر نتیجہ کو دیکھتے ہین کہ وہ مطابق کسی نتیجہ کے جو بہ براہین پہلے ثابت ہو چکا ہے یا نہین اور اس طرح دعوی کا امتحان صحت ہو جاتا ہے۔

۳۶- اقلیدس مین سب دعوی اشکال کے اسلوب ترکیبی سے ثابت ہوئے ہین ہر ایک دعوی اپنے ماسبق کے دعوون کے ثبوت سے ثابت ہوتا ہے - ساری کتاب ایسے ہی دعوون کے اجتماع سے بنی ہے لیکن کہین تمام کتاب مین اشارہ بھی اسبات کا نہین ہے کہ یہہ دعوی اصل مین کس طرح اختراع ہوئے بعض شکلون کی وضع اور ثبوت مین تصنع ایسا پایا جاتا ہے کہ بے اختیار طبیعت کو تمسس ہوتا ہے کہ کوئی قاعدہ یا حکمت ایسی ہے کہ جس سے نئے نئے دعوون کی تحقیقات مین تسہیل ہوتی ہے

۳۷- اثبات تحلیلی کو لوگون نے ایسی زبان مین بیان کیا ہے کہ جس سے معلوم ہوتا ہے کہ وہ ایسی حکمت ہے کہ جس سے خواہ کوئی دعوی عملی یا اثباتی پیش ہو تو اوسکی ہدایت اسے طالب علم اثبات مین کامیاب ہوگا مگر حقیقت مین اوس سے ایسی ہدایت نہین ہوتی اوسکی حد تو فقط یہی ہے کہ جب کسی دعوی عملی یا اثباتی کو ہم تصدیق کرین اور اوس سے نتائج درجہ بدرجہ نکالے جائین اور آخر نتیجہ کو اون نتائج سے کہ ابتک ثابت ہوئے ہین مقابلہ کرین اگر نتیجہ آخر جو ہمنے نکالا ہے وہ اونکے خلاف ہے تو جان لین کہ ہماری تصدیق دعوی کی باطل ہے اور اگر نتیجہ جو ہمنے نکالا ہے وہ مطابق اون نتائج کے ہو جو اب تک پایہ ثبوت کو پہونچ گئے ہین تو ہمکو یہ معلوم ہوگا کہ تصدیق دعوی باطل نہین ہے پس جب یہ معلوم ہوگیا تو نتیجہ آخری پر بتدریج رجعت ثبوت دعوی پر اسلوب ترکیبی سے ہم کرین گے لیکن یہہ ہدایت کوئی قاعدہ نہین ہے کیونکہ اثبات تحلیلی مین کوئی قاعدہ نہین بتلایا گیا کہ جس سے نتائج بتدریج بعد از دیگرے نکالتے جائین پس جب اس بات کا کوئی قاعدہ نہوا تو درحقیقت اصل مطلب کے لئے بھی کوئی قاعدہ نہوا اور علاوہ اسکے کوئی محک امتحان نہین کہ جس سے ہم تحقیق کرلین کہ جو نتیجہ صحیح ہمنے کسی دعوی کو تسلیم کرکے نکالا ہے تو اوس سے وہ دعوی بھی صحیح ہوگا

ہوسکتا ہے کہ نتیجہ صحیح ہو اور دعوی غلط ہو مثلاً اس شکل نظری مین کہ مثلث مین ایک زاویہ کو دوسرے زاویہ سے وہ نسبت ہوتی ہے جو پہلے زاویہ کے مقابل ضلع کو ہے دوسرے زاویہ کے مقابل ضلع سے اب اس دعوی کی تسلیم سے یہ نتیجہ آخری مستنبط ہوگا جو اقلیدس کے ۱۹ ش پہلے مقالہ مین ثابت ہوا ہے لیکن اقلیدس کے اس نتیجہ (۱۹ ش ۱) کے نکلنے سے ہم بتدریج رجعت اصلی دعوی پر نہین کرسکتے جو واقع مین باطل ہے

غرض اس بیان سے یہ ہے کہ گو ایک دعوی باطل ہو مگر اسلوب تحلیلی مین آخر نتیجہ اوسکا صحیح نکل آتا ہی فقط اس اثبات تحلیلی کے نتیجہ آخری سے اوس صورت مین کہ وہ خلاف اون نتائج مسلمہ کے ہون جو اب تک ثابت ہوئے ہین یہ معلوم ہو جاوے گا کہ دعوی باطل ہے خلاصہ یہ ہے کہ دعوی کا باطل ہونا معلوم ہو جاویگا مگر صحیح ہونا نہین ثابت ہوگا

۳۸ - یہ بہی ہمکو لکہنا ضرور ہے کہ اگر اسلوب تحلیلی مین کسی ایک نتیجہ کو ہم دکہادین کہ اونہین اون شکلون کا کام پڑتا ہے جنکا حل ہونا ناممکن ثابت ہوا ہے تو بہی ہم یہ کہین گے کہ وہ نتیجہ خلاف اون نتائج کے ہے جو ابتک ثابت ہوے ہین اور وہ تین مسائل ہین جنکا اثبات علم ہندسہ کی قدرت سے باہر ہے۔ اول محیط دائرہ کی برابر ایک خط مستقیم کا بنانا دوم زاویہ معلوم کی ثلیث سوم دو خطون کے درمیان دو وسط فی النسبت کا داخل کرنا وہ دلائل جن سے ان سوالات کا حل ہندسہ سے ہونا ناممکن ثابت ہوا ہے وہ علم ریاضی کی فروع اعلی سے متعلق ہین اسلئے یہان نہین بیان ہوسکتے طالبعلم کو فقط اسی پر قناعت کرنی چاہیئے کہ اصول ہندسہ سے ان سوالات کے حل کرنے مین بے انتہا مندسین نے کوشش کی ہین مگر ابتک کوئی کامیاب نہین ہوا اور محنت رائگان گئی۔ کتب انگریزی مین اوسکی تصریح بخوبی ہے جنکو شوق ہو اونہین دیکہ لے اب ہم چند مثالین اسلوب تحلیلی کی لکہتے ہین

۳۹ - دو نقطون سے دو خط مستقیم ایک خط مستقیم معلوم کے ایک نقطہ تک ایسے کہینچو کہ اونکا میلان خط معلوم کے ساتہہ برابر ہو

فرض کرو کہ ا اور ب نقاط معلوم اور س د خط مستقیم معلوم ہین

اب فرض کرلو کہ ا ی اور ی ب ایک ہی میلان خط مستقیم معلوم س د کے ساتہہ رکہتے ہین

س د پر عمود ب ف کہینچو

اور ا ی اور ب ف کو

خارج کرو کہ نقطہ ح

پر ملین

اور بموجب فرض کے

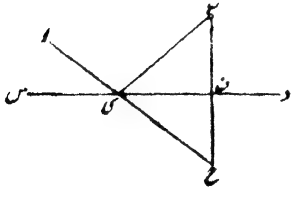

زاویہ ب ی د برابر ہے زاویہ ا ی س کے اور بحکم (۱۵ ش ام) کے زاویہ ا ی س برابر ہے زاویہ د ی ح کے تو بحکم (۲۶ ش ام) کے مثلث ب ی ف اور ف ی ح سبطرح سے آپسمین برابر ہوئے اور اسیواسطے ف ح برابر ہوا ب ف کے

پس نتیجہ اخیری سے اسلوب ترکیبی اس طرح استنباط ہوتا ہے کہ ب ف عمود س د پر نکالکر اوسے خارج ح تک ایسا کرو کہ ف ح برابر ب ف کے ہو اور ملاؤ ا ح پس ا ح نقطہ مطلوب پر س د کو قطع کریگا۔

۴۰ - ایک خط مستقیم معلوم کو ایسے دو حصون مین تقسیم کرو کہ اونکے مربعون کا حاصل تفریق برابر ایک مربع معلوم کے ہو

فرض کرو کہ ا ب خط معلوم ہے اور س اوسپر نقطہ مطلوب ہے آپ ا س اور س ب کے مربعون کا فرق برابر ایک مربع معلوم کے ہے لیکن ا س اور س ب کے مربعون کا فرق برابر ہے اونکے مجموعہ اور فرق کے سطح کے تو یہ سطح برابر مربع معلوم کے ہونی چاہیے

پس اسلوب ترکیبی یہ ہوگا کہ بحکم (۵۴ ش ام) ب س د

کے ا ب پر ایک متوازی الاضلاع

قائم الزاویہ برابر مربع معلوم کے بنادین تو فرق ا س اور ب س کا برابر ہوگا قائم الزاویہ کے اوس ضلع کے جو متصل ا ب کے ہے اور اس سبب سے فرق ضلعون کا دریافت ہوگیا اور مجموعہ ا س اور ب س کا ا ب پہلے سے معلوم ہے اور جب فرق اور مجموعہ ا س اور س ب کا معلوم ہوگیا تو ا س اور س ب خود معلوم ہوگئے۔

یہ ظاہر ہے کہ مربع معلوم ا ب کے مربع سے زیادہ نہو کیونکہ اگر ایسا ہوگا تو سوال کا حل غیر ممکن ہوجائیگا۔

اگر یہ تخصیص نہ کی جاے کہ دو حصون ا س اور س ب مین کونسا بڑا ہے تو س کے دو مقام ہونگے مگر جب یہ تخصیص ہوجاوے تو فقط ایک ہی مقام س کا ہوگا

پس اسی طرح سے اس دعوی کو بھی ثابت کرسکتے ہین کہ ایک خط مستقیم معلوم کو اسقدر زیادہ کرو کہ کل خط مع زیادتی اور فقط زیادتی کے مربعون کا برابر ایک مربع معلوم کے ہو جو خط معلوم کے مربع سے کم نہین۔

اس دعوی کو اور پہلے دعوی کو اس طرح فقط ایک دعوی مین بیان کرسکتے ہین کہ ایک

خط مستقیم کی داخلی خارجی تقسیم کرو کہ اوسکے حصون کے مربعے برابر ایک مربع معلوم کے ہون۔

۴۱ - دائرہ معلوم کے محیط مین ایک نقطہ ایسا دریافت کرو کہ اگر خطوط مستقیم اس نقطہ اور اوس خط کے اطراف مین جسپر قطع دائرہ واقع ہے ملائے جائین تو وہ ملکر برابر ایک خط مستقیم معلوم کے ہون۔



فرض کرو کہ اس ب محیط قطعہ دائرہ معلوم کا ہے اور س ایسا نقطہ مطلوب ہی کہ اس اور س ب ملکر برابر ایک خط مستقیم معلوم کے ہین۔

اس کو د تک ایسا خارج کرو کہ س د برابر ب س کے ہو اور ملاؤ ب د ا د برابر ہے خط معلوم کے بحکم (۳۲ ش ام) کے زاویہ ا س ب برابر ہے مجموعہ زاویون س ب د اور س د ب کے جو بحکم (۵ ش ام) آپسمین برابر ہین تو زاویہ ا س ب دو چند ہوا زاویہ ا د ب سے اسی لئے نصف زاویہ فی القطع معلوم سے ہوا۔

پس اسلوب ترکیبی یہ ہوا کہ ا ب پر ایک قطعہ دائرہ ایسا کینچو کہ اوسکا زاویہ فی القطع نصف زاویہ فی القطع معلوم سے ہو اور ا کے مرکز اور خط معلوم کے برابر نصف قطر پر دائرہ کینچو اور اس دائرہ اور قطعہ دائرہ کے ایک نقطہ تقاطع مین اور نقطہ ا مین خط ملاؤ تو خط ملایا گیا قطعہ معلوم کو نقطہ مطلوب پر قطع کرے گا اور اوس سے ہمارا مطلب حاصل ہوگا۔ چاہئے کہ خط معلوم ا ب سے بڑا ہو اور ایک اور خط سے بڑا نہو جسکا ہم بیان کرتے ہین۔ فرض کرو کہ محیط قطعہ معلوم کا نقطہ ی پر تنصیف ہوتا ہے - ملاؤ ا ی اور اوسکو خارج کرو کہ محیط قطعہ دائرہ سے کہ کینچا گیا ہے نقطہ ف پر ملے تو بحکم (۲۸ ش ۳ م) کے ا ی برابر ہے ی ب کے اور جس دلیل سے کہ س ب برابر ہے س د کے اوسی دلیل سے ی ف برابر ہے ی ب کے تو ی ا اور ی ب اور ی ف آپس مین برابر ہوے تو بحکم (۹ ش ۳ م) کے ی مرکز اوس دائرہ کا ہوا جسکا ا د ب قطعہ ہے تو ا ب بڑے سے بڑا خط مستقیم ہے جو اس قطعہ دائرہ مین کھنچ سکتا ہے پس اس سے ثابت ہوا کہ خط معلوم دو چند ا ی سے بڑا نہو۔

۴۲ - ایک مثلث متساوی الساقین ایسا بناؤ کہ اوسکے قاعدہ کا ہر ایک زاویہ دو چند تیسرے زاویہ سے ہو۔

یہ شکل چوتھے مقالہ کی دسوین شکل ہے ایسا معلوم ہوتا ہے کہ اوسکا اثبات اس اسلوب تحلیلی سے مستنبط ہوا ہو۔

فرض کرو کہ اب د مثلث مطلوب ہے کہ ہر ایک زاویہ ب اور د کا دو چند زاویہ ا سے ہے زاویہ د کی تنصیف خط مستقیم س د سے کرو

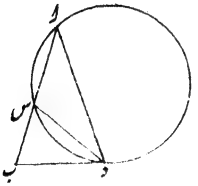

تو زاویہ ا د س برابر ہوا زاویہ ا کے تو س ا برابر ہوا س د کے اور زاویہ س ب د بموجب فرض کے برابر ہے زاویہ ا د ب کے اور زاویہ س د ب برابر ہے زاویہ ا کے تو بحکم (۳۲ ش ام) کے تیسرا زاویہ ب س د برابر ہوا زاویہ ا ب د کے اسیواسطے بحکم (۶ ش ام) کے ب د برابر ہے س د کے اور اسی واسطے ب د برابر ہے ا س کے

چونکہ زاویہ ب د س برابر ہے زاویہ ا کے تو خط مستقیم ب د اور دائرہ کو کہ مثلث ا ب س پر کھینچا جاوے بحکم حاشیہ (۲۶ ش ۳ م) کے مس کریگا اسی واسطے سطح ا ب اور س ب کے برابر ہوئے مربع ب د کے تو سطح ا ب اور ب س کی برابر ہوئی مربع ا س کے تو ا ب نقطع س پر ایسا تقسیم ہوا جیسا کہ (۱۱ ش ۲ م) مین ہوا ہے۔

پس یہان سے اسلوب ترکیبی دیکھ لو کہ وہی ہے جو اقلیدس نے لکھا ہے

۴/۳ - ایک مثلث معلوم مین مربع بناؤ۔

فرض کرو کہ ا ب س مثلث معلوم اور دی ف ح اوسمین مربع مطلوب بنا ہوا ہے اور ہ عمود ب س پر نکالو اور ا ک متوازی ب س کا نکالو اور ب ف ملا کر خارج کرو جو ا ک سے نقطہ ک پر ملے تو ب ح کو ح ف سے وہ نسبت ہے جو ب ا کو ہے ا ک سے اور بحکم (۴ ش ۶ م) کے ب ح کو ح د سے

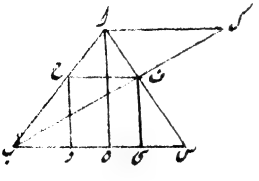

وہ نسبت ہی جو ا ب کو ہی ا ہ سے لیکن بموجب فرض کے ف ح اور ح د آپس مین برابر ہین تو بحکم (۱ ش و ۱۱ ش ۵ م) کے ب ا کو ا ک سے وہ نسبت ہی جو ب ا کو ہے ا ہ سے تو بحکم

(۱۰ش ۵م) کے ا ک اور ا ہ آپسمین برابر ہوئے۔
اسلوب ترکیبی یہ مستنبط ہوا کہ ا ک متوازی ب س کا برابر ا ہ کے نکالو اور ملاؤ ب ک
پس ب ک جس نقطہ پر ا س سے ملتا ہے وہان ایک کوشہ مربع مطلوب ہوگا آگے خود ثابت کرلو
۴۴۔ خطوط مستقیم معلوم کے درمیان ایک نقطہ معلوم ہے اوس سے ایک خط مستقیم ایسا
کینچو کہ سطح اوسکے حصون کے جو درمیان اس نقطہ اور خطوط معلومہ کے واقع ہون برابر
ایک سطح معلوم کے ہو۔

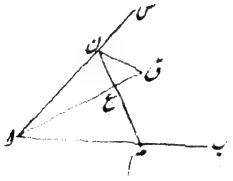

مثلاً نقطہ معلوم ع درمیان معلوم
خطوط ا ب اور ا س کے ہو
اور یہ فرض کرو کہ م ع ن خط
مطلوب ایسا ہے کہ سطح م ع
اور ن ع کے برابر سطح معلوم کے ہے ا ع کو ق تک ایسا خارج کرو کہ سطح ا ع اور
ع ق برابر سطح معلوم کے ہو۔ تو سطح ن ع اور م ع کی برابر سطح ا ع اور ق ع
کے ہوئی تو بحکم (حاشیہ ۳۵ش ۳م) دائرہ گرد ا م ق ن کے کینچے گا اور بحکم
(۱۱ش ۳م) کے زاویہ ع ن ق برابر زاویہ م ا ع کے ہوگا۔
پس اسی واسطے اسلوب ترکیبی یہ ہوگا کہ ا ع کو ق تک ایسا خارج کرو کہ سطح ا ع
اور ع ق کی برابر سطح معلوم کے ہو اور ع ق پر ایک قطعہ دائرہ بناؤ جسکا زاویہ برابر
زاویہ م ا ع کے ہو پس ع اور اوس نقطہ مین جہان یہ قطر دائرہ ا س کو قطع کرے
خط مستقیم ملاؤ تو یہ خط ہمارے دعوی کو ثابت کردیگا۔
۴۵۔ دائرہ معلوم مین مثلث ایسا بناؤ کہ اوسکے دو ضلعے تو دو نقاط معلوم مین
گذرین اور تیسرا ضلع متوازی ایک خط معلوم کا ہو
مثلاً ا اور ب نقاط معلوم اور س د خط معلوم ہو اور فرض کرلو کہ مثلث ع م ن مثلث مطلوب
دائرہ کے اندر ہے۔
ن ی متوازی ا ب کا کینچو اور ملاؤ ی م اور اوسے خارج کرو کہ ا ب سے نقطہ ق پر ملے
پس اگر نقطہ ق معلوم ہو جائے تو گویا سوال حل ہوگیا۔
اسواسطے کہ ی ن م ایک زاویہ معلوم ہے تو اوس کے وتر ی م کی مقدار معلوم ہے

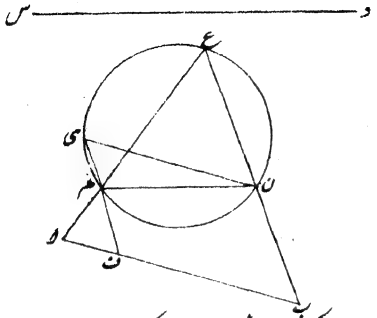

اور چونکہ ف معلوم اور ی م کی مقدار معلوم ہے تو مقام م کا معلوم ہوگیا پس اب یہ ثابت کرنا باقی رہا کہ ف کس طرح معلوم ہوسکتا ہے بحکم (۲۹ ش ۱ م) کے زاویہ م ی ن برابر ہے زاویہ م ف ا کے اور زاویہ م ی ن بحکم (۲۱ ش ۳ م) کے برابر ہے زاویہ م ع ن کے اس سے معلوم ہوا کہ بحکم (۴ ش ۶ م) کے مثلث م ا ف اور ب ا ع آپس مین متشابہ ہوئے اسی واسطے م ا کو ا ف سے وہ نسبت ہے جو ا ب کو ہے ا ع سے اسیواسطے بحکم (۶ ش ۶ م) سطح م ا اور ا ع کی برابر ہوئی سطح ب ا اور ا ف کے لیکن ا نقطہ معلوم ہے تو سطح م ا اور ا ع کی معلوم ہوئی اور ا ب بھی معلوم ہے تو ا ف معلوم ہوجاویگا۔

۴۶- ایک دائرہ مین ایک مثلث ایسا بناؤ کہ اوسکے اضلاع نقاط معلوم پر گذرین فرض کرو تین نقاط معلومہ ا اور ب اور س ہون اور یہ فرض کرلو کہ ع ن م دائرہ معلوم مین مثلث مطلوب بنایا گیا ہے۔ ن ی متوازی ا ب کا نکالو اور نقطہ ف کو اوسی طرح دریافت کرو جس طرح کہ پہلی شکل مین دریافت کیا تھا

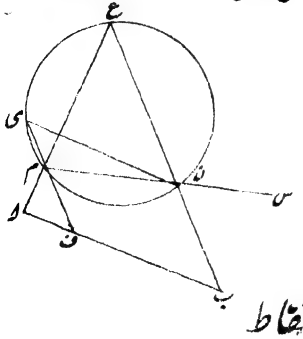

پس اب سوال کی صورت یہ ہوگی کہ مثلث ی م ن ایسا دائرہ معلوم مین کھینچو کہ نقاط معلوم ف اور س پر گذرے اور تیسرا ضلع متوازی ا ب کے ہو اور یہ بموجب شکل گذشتہ کے ہوسکتا ہے۔

مقام النقاط

۴۷- خط مقام النقاط وہ خط ہے کہ جسکے سارے نقطے خاص شرائط کو پورا کرتے ہون اور وہی

نقطے ایسے ہون کہ اون شرائط کو پورا کرتے ہون۔ مثلاً وہ مقام النقاط جسکا یہ نقطہ ایک نقطہ معلوم سے بعد معلوم پر واقع ہو سطح کرہ ہے جو اوس نقطہ معلوم کے مرکز اور بعد معلوم کے نصف قطر پر بنایا جاوے اور اگر یہ شرط لگائی جاوے کہ وہ ایک سطح مستوی مین ہو تو محیط دائرہ ہوگا جو نقطہ معلوم کے مرکز اور بعد معلوم کے نصف قطر پر کھینچا جاوے جس مقام النقاط مین قید سطح مستوی کی ہوگی اوسکو مقام النقاط مستوی کہتے ہین۔

بہت سے دعوی اقلیدس مین ایسے لکھے ہین کہ وہ مقام النقاط کی مثالین ہین مثلاً مثلث جو ایک قاعدہ پر ایک ہی جہت مین واقع ہون اور مساحتاً برابر ہون اونکی راسون کا مقام النقاط ایک خط مستقیم متوازی قاعدہ کا ہوگا اور یہ ۳۷ و ۳۹ ش پہلے مقالہ مین ثابت ہے۔ دوسری مثال یہ ہے کہ جو مثلث ایک ہی قاعدہ پر ایک ہی جہت مین واقع ہون اور اونکے زاویے راس کے آپسمین برابر ہون تو نقاط ان راسون کا محیط قطعہ دائرہ ہوگا جو مثلث کے قاعدہ پر کھینچا جاے (۲۱ ش ۳ م) مین ثبوت اوسکا مذکور ہے پس مقام النقاط کے ہی نقطے ایسے نہین ہوتے جو شرائط کو پورا کرین اب ہم چند مثالین اوسکی لکھتے ہین ہر مثال مین طالب علم کو یہ بات بھی ثابت کرنی چاہیے کہ مقام نقاط جو ہم دریافت کرتے ہین اوسی کے نقطے تو شرائط کو پورا کرتے ہین اور سوا اوسکے اور نقطے ایسے نہین ہوسکتے جو شرائط کو پورا کرین دو آخر مثالون مین ہمنے مشکل جانکر یہ بات خود ثابت کردی ہے کہ سوائے مقام النقاط کے کوئی اور نقطہ شرائط کا پورا کرنیوالا نہین ہوسکتا اور باقی شکلون مین طالبعلم کی مشق کے لئے اثبات چھوڑ دیا ہے

۴۸۔ مقام اون نقطون کا دریافت کرو کہ جنکا فاصلہ دو نقاط معلوم سے مساوی ہو فرض کرو کہ آ اور ب نقاط معلوم ہین آب ملاؤ اور اوسکے نقطہ وسط سے اوس پر عمود نکالو تو یہ عمود مقام نقاط ہوگا۔ اسلئے کہ اوسکا ہر ایک نقطہ کا مساوی الابعاد ہونا آ اور ب سے آسانی سے ثابت ہوسکتا ہے۔

۴۹۔ مقام نقاط اون مثلثون کے راسون کا دریافت کرو کہ ایک قاعدہ معلوم آب پر ایسے بنائے جاوین کہ مربع اوس ضلع کا جو آ کی طرف ختم ہوتا ہے اوس ضلع کے مربع سے جو ب کی طرف ختم ہوتا ہے بقدر ایک مربع معلوم کے زائد ہو۔

فرض کرو کہ س ایک نقطہ مقام النقاط مطلوب کا ہے نقطہ س سے عمود اب پر نکالو جو اوسی نقطہ د پر ملے بصورت ضرورت اب کو خارج بھی کرلو تو بحکم (۴۷ ش ام) کے مربع اس کا برابر ہے مربع اد اور س د کے اور مربع ب س کا برابر ہے مربعون ب د اور س د کے اسواسطے مربع اس کا مربع ب س سے اوسی قدر زائد ہے جیسے کہ اد کا مربع ب د کے مربعے سے زائد ہے اس سے معلوم ہوا کہ بحکم (۴۰ ش) کے د ایک نقطہ معین اب مین یا ب کی طرف خارج شدہ اب مین ہے پس مقام النقاط وہ خط مستقیم ہے جو نقطہ د سے اب پر عمود نکالا جاے۔

۵۰۔ مقام النقاط اوس نقطہ کا دریافت کرو جس سے مماس دو معلوم دائرون کے نکالیگئے آپسمین متساوی ہون۔

فرض کرو کہ ا مرکز دائرہ کلان اور ب مرکز دائرہ خورد کا ہے اور ع کوئی نقطہ مقام النقاط مطلوب کا ہے چونکہ نقطہ ع سے مماس دائرون کے آپسمین نکالے گئے مساوی ہین تو اونکے مربعے بھی آپسمین مساوی ہونگے لیکن ان مساوی مربعون سے ع ا اور ع ب کے مربعے بقدر مربعات نصف قطرون کے زائد ہین پس اس سے معلوم ہوا کہ ا ع کا مربع ع ب کے مربعے سے اسقدر زائد ہے جسقدر کہ مربع نصف قطر دائرہ کا جسکا مرکز ا ہے بڑا ہے اوس دائرہ کے نصف قطر سے کہ جسکا مرکز ب ہے تو بحکم (۴۰ ش) کے مقام النقاط مطلوب ایک خط مستقیم ہوا جو اب پر عمود ہے

اس خط مستقیم کو محور اصلی اون دائرون کا کہتے ہین اگر دائرے متقاطع ہون تو بحکم (۳۶ ش ۳ م) کے ظاہر ہے کہ دونون دائرون کا وتر مشترکہ کا حصہ خارجی منطبق مقام النقاط پر ہے۔

۵۱۔ ایک دائرہ مین وتر ایک نقطہ متعین پر گذرتے ہین اونکے نقاط وسط کا مقام النقاط دریافت کرو۔

فرض کرو کہ ا مرکز دائرہ معلوم کا ہے اور ب ایک نقطہ معین ہے کوئی وتر کھینچو کہ وہ خارج ہو کے یا بغیر خارج ہونے کے نقطہ

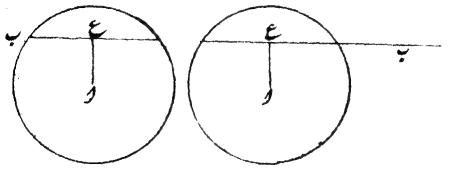

ب پر گذرے اور ع نقطہ وسط اس وتر کا ہو تو ع مقام النقاط مطلوب کا ایک نقطہ ہے۔

چونکہ ع نقطہ وسط وتر کا ہے تو ع ع بحکم (۳ ش ۳ م) کے اوسپر عمود ہوگا اور اسی واسطے نقطہ ع اوس دائرہ کے محیط پر ہوگا جو ا ب کے قطر پر بنایا جاوے پس اس سے معلوم ہوا کہ اگر نقطہ ب دائروں کے اندر ہے تو مقام النقاط محیط دائرہ ہے جو ا ب کے قطر پر بنایا جاوے اور اگر ب باہر دائرہ کے ہے تو مقام النقاط اوسی قدر محیط دائرہ ہے جس قدر کہ وہ دائرہ کے اندر واقع ہوتا ہے

۵۲- ر ایک نقطہ متعین ہے اور اوس سے کوئی خط مستقیم ایک خط مستقیم معین سے ع پر ملتا ہوا کھینچا گیا ہے اور ر ع مین ایک نقطہ ق ایسا مقرر کیا گیا ہے کہ ر ق کو ر ع سے ایک نسبت مقررہ ہے تو مقام النقاط ق کا دریافت کرو۔

ہم ثابت کرین گے کہ ق کا مقام النقاط ایک خط مستقیم ہے اسواسطے کہ ر سے ر س عمود خط متعین سے نقطہ س پر ملتا ہوا نکالو اور ر س مین ایک نقطہ د ایسا مقرر کرو کہ ر د کو ر س سے نسبت متعینہ ہو اور نقطہ ر سے کوئی خط مستقیم ر ع خط متعینہ سے نقطہ ع پر ملتا ہوا کھینچو اور ر ع مین ایک نقطہ ق مقرر کرو کہ ر ق کو ر ع سے نسبت معینہ ہو۔ ملاؤ ق د تو مثلث ر د ق اور ر س ع متشابہ بحکم (۶ ش ۶ م) کے ہین۔

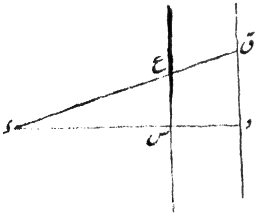

اسیواسطے زاویہ ر د ق برابر زاویہ ر س ع کے ہے اور اسیواسطے قائمہ ہے پس اس سے معلوم ہوا کہ ق اوس خط مستقیم پر ہے کہ ر د پر نقطہ د سے عمود نکالا جاوے۔

۵۳- ر ایک نقطہ معین ہے اوس سے کوئی خط مستقیم ایک دائرہ متعین کے محیط سے نقطہ ع پر ملتا ہوا کھینچا گیا ہے اور ر ع مین ایک نقطہ ق ایسا مقرر کیا گیا ہے کہ ر ق اور ر ع مین ایک نسبت معینہ ہے تو مقام النقاط ق کا دریافت کرو

ہم ثابت کرین گے کہ مقام النقاط

ق کا محیط ایک دائرہ کا ہوگا اسواسطے کہ فرض کرو کہ مرکز دائرہ متعینہ کا س ہے رس
مین کوئی نقطہ د ایسا مقرر کرو کہ رد اور رس مین نسبت متعینہ ہو اور س ع نصف قطر
دائرہ متعینہ کا کینچو اور دق متوازی س ع کا رع سے نقطہ ق پر ملتا ہوا نکالو بصورت
ضرورت رع کو خارج کرلو تو بحکم (۴ ش ۶ م) کے مثلث رس ع اور رد ق متشابہ ہین اور
اسیواسطے رق کو رع سے وہ نسبت ہے جو رد کو نسبت ہے رس سے یعنی نسبت متعینہ ہے
اسیواسطے ق ایک نقطہ مقام النقاط پر ہے اور دق اور س ع مین ایک نسبت متعینہ ہی تو دق کا
طول ہمیشہ یکسان رہیگا اس سے معلوم ہوا کہ مقام النقاط محیط دائرہ ہے جسکا مرکز د ہے۔

۵۴۔ ایک خط مستقیم مین چار نقطے ر اور ب اور س اور د ہین ایسا مقام النقاط دریافت
کرو کہ اوس کے ہر ایک نقطہ پر اب اور س د محاذی مساوی زاویون کے ہون
بحکم (۳۴) کے ر ایک نقطہ خط مستقیم معلوم مین ایسا دریافت

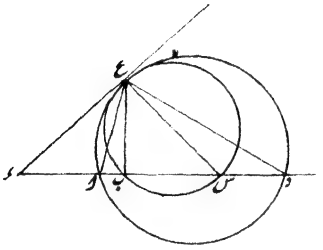

کرو کہ سطح ر ا اور ر د کی برابر سطح ر ب
اور ر س کے ہو بحکم (۴ ش ۲ م) کے
ر ک ایسا مقرر کرو کہ اوسکا مربع برابر
اون مساوی سطحون مین سے کسی ایک
سطح کے ہو تو مرکز ر اور نصف قطر ر ک
پر جو دائرہ کینچا جاویگا وہ مقام النقاط مطلوب ہوگا۔

ہم اول وہ صورت لیتے ہین جن مین نقاط بالترتیب اسی طرح واقع ہین جیسے کہ ر اور
ا اور ب اور س اور د ہین۔

فرض کرو کہ ع کوئی نقطہ اس دائرہ کے محیط مین ہے گرد مثلث ع ا د اور ع ب س کے
دائرے کینچو تو بحکم (۳۷ ش ۳ م) کے ر ع ہر ایک دائرہ کا مماس ہوگا تو بحکم (۳۲ ش ۳ م)
کے زاویہ ر ع ا برابر ہے زاویہ ع د ا کے اور زاویہ ر ع ب برابر زاویہ ر س ع اور
زاویہ ر ع ب برابر ہے مجموعہ زاویون ر ع ا اور ا ع ب کے اور بحکم (۳۲ ش ۱ م)
کے زاویہ ع س ب برابر ہے زاویہ ع د ا اور س ع د کے مجموعہ کے اور یہ ثابت
ہوچکا ہے کہ زاویہ ر ع ا برابر ہے زاویہ ع د ا کے تو زاویہ ا ع ب برابر ہوا زاویہ
د ع س کے پس ہمنے ثابت کردیا کہ ہر ایک نقطہ محیط اس دائرہ کا شرائط مفروضہ کو پورا کرتا ہی اب ہم

ثابت کرتے ہین کہ جو نقطہ ان شرائط کو پورا کرتا ہی وہ محیط دائرہ پر واقع ہے اسواسطے کہ کوئی نقطہ ق جو شرائط مفروضہ کو پورا کرے فرض کرو اور دائرہ گردن ا د اور ق ب س سے کھینچو تو یہ دائرے ایکہی خط کو نقطہ ق پر مس کرینگے اسواسطے کہ زاویہ ا ق ب اور س ق د اپسمین مساوی ہین اور عکس (۳۲ ش ۳ م) کا صحیح ہے فرض کرو کہ یہ خط جو دائرون کو نقطہ ق پر مس کرتا ہے کھینچا جاوے اور اوس خط سے کہ جسمین چارون نقطے ہین نقطہ ر پر ملے تو سطح ر ا اور ر د کی برابر سطح ر ب اور ر س کے ہوگئی اس لئے کہ بحکم (۳۶ ش ۳ م) کے ہر ایک سطح برابر مربع ر ق کے ہے۔ اسواسطے بحکم (۳۴ ش) کے منطبق پر ہوگا اور اسی واسطے ر ق برابر ر ک کے ہوگا تو ثابت ہوا کہ ق اوس دائرے کے محیط پر ہے جسکا مرکز ر ہے اور ر ک نصف قطر ہے۔

۵۵۔ مثلثات ا ب س مین جو ایک قاعدہ معلوم ا ب پر قائم ہین اور ضلع ا س کو ضلع ب س سے ہمیشہ ایک نسبت مقررہ ہی تو اونکے راسون کا مقام انقطاع دریافت کرو اگر اضلاع ا س اور ب س مساوی ہین تو مقام انقطاع ایک خط مستقیم ہوگا جو ا ب کو زاویہ قائمہ پر تنصیف

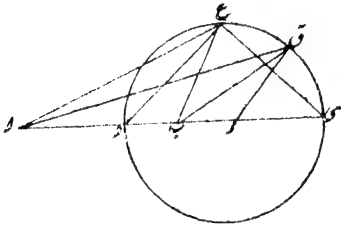

کرتا ہے اور اگر یہ فرض کرین کہ اونمین نسبت عظمی ہے یعنی ا س بڑا ضلع ہے تو بحکم (۱۰ ش ۶ م) کے ا ب کو نقطہ د پر ایسا تقسیم کرو کہ ا د کو د ب سے نسبت مقررہ ہو اور ا ب کو نقطہ ی تک خارج کرو ایسا کہ ا ی کو ی ب سے نسبت مقررہ ہو فرض کرو کہ ع کوئی نقطہ مقام انقطاع مطلوب کا ہے ملاؤ ع د ع ب اور ع ی تو ع د تنصیف زاویہ ا ع ب کے اور ع ی تنصیف اوس زاویہ کی جو درمیان ب ع اور ی ع خارج شدہ کے واقع ہے کرتا ہے اسواسطے د ع ی قائمہ ہے اسواسطے ع اوس محیط مین اوس دائرہ کے واقع ہے کہ جسکا قطر د ی ہے پس ہمنے ثابت کر دیا کہ کوئی نقطہ جو شرائط کو پورا کرتا ہے وہ محیط دائرہ پر ہے جو د ی کو قطر بنا کر کھینچا جاوے اب ہم یہ ثابت کرتے ہین کہ جو نقطہ محیط دائرہ مین واقع ہے وہ ان شرائط کو پورا کرتا ہی فرض کرو کہ کوئی نقطہ ق محیط دائرہ مین واقع ہے ق ا کو ق ب سے نسبت معلوم ہوگی اسواسطے کہ ر مرکز

دائرہ کا دریافت کرو اور ملاؤ ق ر تو بموجب ساخت شکل کے ای کو ی ب سے وہ نسبت ہے جو ا د کو ہے د ب سے اسواسطے ابدال نسبت سے ای کو ا د سے وہ نسبت ہے جو ی ب کو ہے د ب سے اسی واسطے بحکم (۲۳ ش) کے مجموعہ ای اور ا د کو فرق ای اور ا د سے وہ نسبت ہوگی جو مجموعہ ی ب اور د ب کو ہے فرق ی ب اور د ب سے یعنی دو چند ا ی کو دو چند د ر سے وہ نسبت ہے جو دو چند د ر کو ہے دو چند ب ر سے اسیواسطے ا ر کو د ر سے وہ نسبت ہے جو د ر کو ہے ب ر سے یعنی ا ر کو ر ق سے وہ نسبت ہے جو ر ق کو ہے ر ب سے اسیواسطے بحکم (۶ ش ۶ م) کے مثلث ا ر ق اور ق ر ب متشابہ ہوئی اسیواسطے ا ق کو ق ب سے وہ نسبت ہی جو ق ر کو ہے ر ب سے اس سے ثابت ہوتا ہے کہ نسبت ا ق کی ب ق سے نسبت مقررہ ہے اور اب یہ ثابت کرتے ہین کہ یہ نسبت مقررہ وہ ہی نسبت ہے جو پہلے مقرر کی گئی ہے ابھی ہم ثابت کر آئے کہ ا ر کو د ر سے وہ نسبت ہے جو د ر کو ب ر سے اسیواسطے بحکم (۷ ش ۵ م) کے فرق ا ر اور د ر کو د ر سے وہ نسبت ہے جو فرق د ر اور ب ر کو ہے ب ر سے یعنی ا د کو د ر سے وہ نسبت ہے جو کہ ب د کو ب ر سے اسیواسطے ا د کو ب د سے وہ نسبت ہے جو د ر کو ہے ب ر سے یعنی ا د کو د ب سے وہ نسبت ہے جو ق ر کو ہی ب ر سے اس سے معلوم ہوا کہ نسبت ق ر کو ب ر سے وہی ہے جو نسبت مقررہ ہے۔

زمانہ حال کا علم ہندسہ

۵۶ - اب تک ہم اپنے بیانات مین اصول اقلیدس کے مقید رہے اور جو دعوی ہمنے ثابت کئے اونمین اقلیدس کی ترکیبون کو استعمال مین لائے اب زمانہ حال مین بہت اور ترکیبین ایجاد ہوئین اور اونسے نتائج اعظم ثابت ہوئے ہین ان ترکیبون کا نام نیم علم ہندسہ رکھنا چاہئے اسواسطے کہ وہ زمانہ قدیم کا خالص ہندسہ نہین ہے بلکہ اوسمین علم حساب و جبر مقابلہ شامل کردیا ہی زمانہ حال مین حساب و جبر مقابلہ کو ہندسہ کے ساتھ اکثر قواعد ہندسیہ مین ملاتے ہین بڑی بڑی کتابین اسطرح کے علم ہندسہ مین موجود ہین اگر شوق ہے تو مطالعہ کرو اب ہم مسئلہ قاطع الخطوط کی چند اشکال نظری لکھتے ہین جس سے کیفیت زمانہ حال کے علم ہندسہ کی کھلے گی کوئی خط خواہ مستقیم یا منحنی جو ایک مجموعہ خطوط کو قطع کرے تو اوسکو قاطع الخطوط کہتے ہین جو شالین نیچے لکھتے ہین اونمین خطوط مستقیم سے بحث ہی اور مجموعہ خطوط ایسا لیا گیا ہے کہ جنمین تمام خطوط مستقیم ہین اور اون سے

مثلث بنتا ہے شکل نظری جو ابھی ہم ثابت کرتے ہین اوسکے دعوی کو مختصر کرکے لکھا ہے تاکہ یاد رہے لیکن بیان دعوی سمجھ مین نہین آئیگا جب تک کہ اوسکا اثبات نہ سمجھ لینگے

۷۵ - اگر خط مستقیم مثلث کے اضلاع خارج شدہ کو قطع کرے تو حاصل ضرب اضلاع کے تین حصون کا جو بالترتیب لئے جاوین برابر ہوگا حاصلضرب باقی تین حصون کے

فرض کرو کہ اب س مثلث ہے اور خط مستقیم ضلع ب س کو نقطہ د پر اور ضلع اس کو نقطہ ی پر اور ضلع اب کو جو ب کی طرف خارج ہوا نقطہ ف پر قطع کرتا ہی

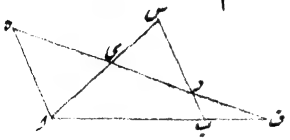

تو ب د اور د س کو حصص ضلع اس اور ا ی

اور س ی کو حصص ضلع ا س اور ا ف

اور ف ب کو حصص ضلع ا ب کہتے ہین

نقطہ ا سے ایک خط مستقیم متوازی ب س کا د ف خارج شدہ سے نقطہ ہ پر ملتا ہوا نکالو تو مثلث س ی د اور ی ا ہ متساوی الزوایا ہین اسیواسطے بحکم (۴ ش ۶ م) کے ا ہ کو س د سے وہ نسبت ہے جو ا ی کو ہے ی س سے اسیواسطے بحکم (۱۶ ش ۶ م) کے سطح ا ہ اور ی س برابر ہے سطح س د اور ا ی کے اب پھر مثلثات ف ا ہ اور ف ب د متساوی الزوایا باہم ہین اسیواسطے بحکم (۴ ش ۶ م) کے ا ہ کو ب د سے وہ نسبت ہے جو ف ا کو ہے ف ب سے اسیواسطے بحکم (۱۶ ش ۶ م) کے سطح ا ہ اور ف ب کی برابر ہے سطح ب د اور ف ا کے اب فرض کرو خطوط مستقیم اعداد سے جس طرح حاشیہ مقالہ دوم مین بیان کیا گیا ہے تعبیر کئے جاوین تو ہمکو دو نتائج حسابیہ حاصل ہونگے کہ حاصلضرب ا ہ اور ی س کا برابر حاصلضرب س د اور ا ی کی اور حاصل ضرب ا ہ اور ف ب کا برابر ہے حاصل ضرب ب د اور ف ا کے اسیواسطے موافق قاعدہ حسابیہ کے حاصل ضرب ا ہ اور ی س اور ب د اور ف ا کا برابر ہوا حاصل ضرب ا ہ اور ف ب اور س د اور ا ی کے اسیواسطے موافق قاعدہ حساب کے حاصل ضرب ب د اور ی س اور ب ا کا برابر ہوا حاصل ضرب د س اور ی ا اور ف ب کے یہ وہ نتیجہ ہے جو دعوی مین بیان کیا گیا ہی ہر حاصلضرب مین تین حصے ہین ہر ایک حصہ ایک ایک ضلع مین سے لیا گیا ہے اور دو حصے جو ایک زاویہ پر منتہی ہوتے ہین کسی حاصل ضرب مین نہین لئے گئے پس اگر حاصل ضرب کو حصہ ب د سے شروع کرین تو دوسرا حصہ ب س کا یعنی د س دوسرے حاصل ضرب مین

واقع ہوگا اور حصہ س ی پہلے حاصل مین آتا ہے اس لئے دو اور حصے س د اور س ی جو نقطہ س پر ختم ہوتے ہین ایک حاصل ضرب مین مین واقع ہوتے

طالبعلمون کو چاہئے کہ وہ اوس صورت دعوی کی بھی جسمین خط مستقیم سب اضلاع خارج شدہ کو قطع کرتا ہے شکل بناوے اور یہی نتیجہ حاصل کرے۔

۵۸۔ عکس شکل سابق کا بھی ثابت ہوسکتا ہے یعنی اگر حاصل ضرب ب د اور س ی اور ا ف کا برابر حاصل ضرب د س اور ی ا اور ف ب کے ہو تو تینون نقطے د اور ی اور ف ایک مستقیم مین ہون گے۔

۵۹۔ اگر ایک مثلث کے تینون زاویون سے تین خط مقابل کے اضلاع تک کھینچے جاوین اور وہ ایک نقطہ پر ملین تو حاصلضرب اون تینون حصون کا جو بالترتیب لے جائین برابر ہوگا حاصلضرب باقی تین حصون کے۔ فرض کرو کہ ا ب س مثلث ہے اور زاویون سے خطوط مستقیم ا د اور ب ی اور س ف نقطہ ر پر ملتے ہوئے کھینچے گئے ہین تو حاصل ضرب ا ف اور ب د اور س ی برابر ہوگا حاصلضرب ف ب اور د س اور ی ا کے اسواسطے کہ مثلث ا ب د خط قاطع ف ر س سے قطع ہوتا ہے تو بموجب (۵۷ ش) کے حاصل ضرب ا ف اور ب س اور د ر برابر حاصلضرب ف ب اور س د اور ر ا کے ہے

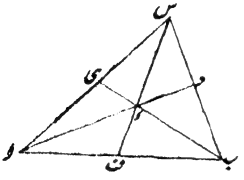

اور مثلث ا س د خط قاطع ی ر ب سے قطع ہوتا ہے تو بموجب شکل ۵۷ کے حاصل ضرب ا ر اور د ب اور س ی کے برابر ہے حاصل ضرب ر د اور ب س اور ی ا کے اسی واسطے بموجب قواعد حسابیہ کے حاصل ضرب ا ف اور ب س اور د ر حاصلضرب ا ر اور د ب اور س ی برابر ہوا حاصل ضرب ف ب اور د س اور ر ا مع حاصلضرب د د اور ب س اور ی ا کے

اسیواسطے حاصل ضرب ا ف اور ب د اور س ی برابر ہوا حاصل ضرب ف ب اور د س اور ی ا کے ہمنے نقطہ ر کو مثلث کے اندر فرض کیا ہے اگر ر باہر مثلث کے ہو تو نقاط د اور ی اور ف اضلاع خارج شدہ پر واقع ہونگے۔

۶۰۔ عکس شکل مذکور کا برہان خلف سے اس طرح ثابت ہوسکتا ہے کہ اگر حاصل ضرب

اف اور ب د اور س ی برابر حاصل ضرب ف ب اور د س اور ی ا کو ہو تو خطوط مستقیم ا د اور ب ی اور س ف ایک نقطہ پر ملین گے

۶۱- سوالات ہندسیہ مین الفاظ تناسب حسابیہ اور ہندسیہ اور موسیقی کے وہی معنی ہین جو حساب مین ہین ایک شکل تناسب موسیقی قابل تحریر ہے سو اوسکو ہم لکھتے ہین-

۶۲- فرض کرو کہ ا ب س مثلث ہے اور زاویہ ا خط مستقیم سے تنصیف کیا گیا ہے جو ب س سے نقطہ د پر ملتا ہے اور زاویہ خارجہ ا بھی خط مستقیم سے جو ب س سے کہ س کی طرف خارج کیا جاوے نقطہ ی پر ملتا ہے تو ب د اور ب س اور ب ی تناسب موسیقی رکھین گے اسواسطے کہ بحکم (۳ ش ۶ م) کے ب د کو د س سے وہ نسبت ہی جو ب ا کو ہی ا س سے

اور بحکم (۱ ش ۶ م) کے ا ب کو ا س سے وہ نسبت ہی جو ب ی کو ہی ی س سے

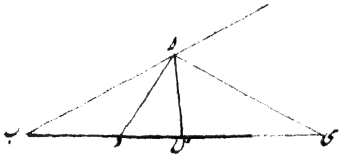

اسیواسطے بحکم (۱۶ ش ۵ م) کے ب د کو ب ی سے وہ نسبت ہی جو د س کو ہے ی س سے

اسیواسطے بحکم (۱۶ ش ۵ م) کے ب د کو ب ی سے وہ نسبت ہے جو د س کو ہے ی س سے پس اس طرح سے تین خطوط مستقیم ب د اور ب س اور ب ی مین پہلے کو تیسرے کے ساتھ وہ نسبت ہے جو کہ دوسرے اور پہلے کے فرق کو ہے تیسرے اور دوسرے کے فرق کے ساتھ-

اسیواسطے ب د اور ب س اور ب ی تناسب موسیقی مین ہین اور کبھی اس مطلب کو یون بھی ادا کیا کرتے ہین کہ ب ی نسبت موسیقی مین د اور س پر تقسیم ہوا ہے

نتائج مقالۂ اول

اول شکل سے پندرہوین شکل تک

(۱) خط معلوم پر ایسا مثلث متساوی الساقین بناؤ کہ جسکی ساق برابر خط معلوم کے ہو۔

(۲) اگر مقالہ اول کے ۲ش مین دائرہ خرد کا قطر دائرہ کلان کا نصف قطر ہو تو بتلاؤ نقطہ معلوم کہان ہوگا اور مثلث متساوی الاضلاع بنایا جائیگا اوسکا راس کہان ہوگا +

(۳) اگر دو خطوط مستقیم متقاطع علی القوائم ایک دوسرے کو تنصیف کرتی ہون تو اون مین سے ہر خط پر ایک نقطہ دوسرے خط کے اطراف سے برابر فاصلہ پر ہوگا +

(۴) مثلث متساوی الساقین کے فوق القاعدہ کے زاوئے اب س اور اس ب خطوط ب د اور س د سے تنصیف کئے جائین تو ثابت کرو کہ ب س د مثلث متساوی الساقین ہوگا

(۵) مثلث متساوی الساقین ب اس کے زاویون ب اور س مین سے ہر ایک دو چند زاویہ اسے ہی پس اگر زاویہ ب کی ب د تنصیف کرکے اس سے نقطہ د پر ملے تو ثابت کرو کہ ب د برابر ا د کے ہوگا۔

(۶) مقالۂ اول کی شکل پنجم مین اگر ف س اور ب ح نقطہ ھ پر ملین تو ثابت کرو ف ھ برابر ح ھ کے ہوگا +

(۷) مقالۂ اول کی شکل پنجم مین اگر ف س اور ب ح نقطہ ھ پر ملین تو ثابت کرو زاویہ ب اس کی ا ھ تنصیف کرتا ہے +

(۸) ذوا اربعۃ الاضلاع ا ب س د کے اضلاع ا ب اور ا د باہم متساوی ہین اور وتر ا س زاویہ ب ا د کی تنصیف کرتا ہی تو اضلاع ب ا اور س د بھی باہم برابر ہین اور وتر اس زاویہ ب س د کی تنصیف کرتا ہی +

(۹) دو مثلث اس ب اور ا د ب ایک ہی جہت مین اب پر اسطرح سے واقع ہین کہ اس برابر ہی ب د کے اور ا د برابر ہی ب س کے اور ا د اور ب س نقطہ ح پر متقاطع ہین تو ثابت کرو کہ مثلث ا ب ح متساوی الساقین ہوگا۔

(۱۰) ایک معین کے مقابل کے زاوئے آپسمین برابر ہوتے ہین +

(۱۱) معین کے قطر جن زاویون مین گذرتے ہین اونکی تنصیف کرتے ہین +

(۱۲) اگر ایک قاعدہ پر دو مثلث متساوی الساقین واقع ہون اور اونکی راس کے زاویون مین خط وصل کیا جاوے تو یہہ خطیون ہی خارج ہوکر قائمے زاویونپر قاعدہ کی تنصیف کریگا +

(۱۳) خط مستقیم معلوم مین ایسا نقطہ دریافت کرو کہ اوسکا فاصلہ دو نقاط معلوم سے مساوی ہو

(۱۴) خط مستقیم معلوم کے مقابل سمتون مین دو نقطے معلوم ہین اونسے ایسے دو خط کھینچو کہ وہ اوس خط معلوم پر ملین اور اونکے درمیان کا زاویہ خط معلوم سے تنصیف ہو +

(۱۵) اگر زاویہ معلوم ب ا س کی تنصیف کیجائے اور ح تک س ا بڑھایا جائے اور زاویہ ب ا ح کی تنصیف کیجائے تو یہہ خطوط تنصیف کرنے والے ایک دوسرے پر زاویے قائمے پیدا کرینگے +

(۱۶) اگر چار خطوط مستقیم ایک نقطہ پر اس طرح سے ملین کہ مقابل کے زاویے آپسمین برابر ہون تو اونمین دو ملکر ایک خط مستقیم مین ہونگے +

۱۶ شکل سے ۲۶ شکل تک

(۱۷) مثلث ا ب س کے زاویہ ا کی خط مستقیم ا د تنصیف کرتا ہی اور ب س سی نقطہ د پر ملتا ہی تو ثابت کرو کہ ب ا بڑا ا ب د سی اور س ا بڑا ا س د سے ہے +

(۱۸) (۱۷ شکل ام) مین ب س مین کوئی نقطہ لیکر اوسمین اور ا مین خط وصل کرکے یہ ثابت کرو کہ زاویہ ا ب س اور ا س ب ملکر دو قائمون سے کم ہین +

(۱۹) ذوا اربعۃ الاضلاع ا ب س د ہی جسمین ا د سب اضلاع سے بڑا اور ب س سب سے چھوٹا ضلع ہی تو ثابت کرو زاویہ ا ب س بڑا زاویہ ا د س سی ہی اور زاویہ ب س د بڑا زاویہ ب ا د سے ہے +

(۲۰) اگر مربع کے کسی زاویہ کی راس د سی ایک خط دوسرے ضلع کو کاٹتا ہوا اور تیسرے ضلع خارج شدہ سے نقطہ ف پر ملتا ہوا کھینچا جائے تو ثابت کرو کہ ا ف بڑا قطر مربع سے ہوگا +

(۲۱) جتنے خطوط مستقیم ایک نقطہ معلوم سے ایک خط مستقیم معلوم تک کھینچی جائین اونمین سے عمود سب سے چھوٹا ہوتا ہے اور جو خط اوسکے قریب ہوتا ہے وہ بعید سے چھوٹا ہوتا ہے فقط دو ہی خط مستقیم باہم متساوی اوس خط مستقیم تک کھینچ سکتے ہین جن مین ہر ایک ایک ایک جانب مین واقع ہو +

(۲۲) مثلث کے اندر کوئی نقطہ لیکر زاویون مین خطوط وصل کرین تو ان خطوط کا مجموعہ مثلث کے نصف محیط اضلاع سے بڑا ہوتا ہے۔

(۲۳) ہر ذوار بعۃ الاضلاع کے چارون ضلعون کا مجموعہ اونکے دونو وترونکے مجموعہ سے بڑا ہوتا ہی +

(۲۴) مثلث کے ذو ضلعون کا مجموعہ اوس خط مستقیم کے دوچند سے بڑا ہوتا ہے جو زاویہ راس اور نقطہ وسط قاعدہ مین ملایا جائے +

(۲۵) اگر کسی مثلث کا ایک زاویہ برابر باقی دو زاویون کے مجموعہ کے ہو تو وہ مثلث دو متساوی الساقین مثلثون مین تقسیم ہو سکے گا +

(۲۶) اگر مثلث مین ا اور ب کے زاویون کا مجموعہ برابر زاویہ س کے ہو تو ضلع ا ب اوس خط مستقیم سے دوچند ہوگا جو س اور نقطہ وسط ا ب مین وصل کیا جائے +

(۲۷) مثلث بناؤ جسکا قاعدہ اور قاعدہ پر کا ایک زاویہ اور مجموعہ اضلاع معلوم ہی۔

(۲۸) مثلث کے دو ضلعونکے درمیان زاویہ کے جو خط تنصیف کرتا ہی اوسکے کسی نقطہ سے اضلاع پر عمود نکالین تو وہ آپسمین برابر ہونگے۔

(۲۹) خط مستقیم معلوم مین ایسا نقطہ دریافت کرو کہ اگر اوسی دو خطوط مستقیم معلوم پر عمود نکالین تو وہ آپس مین مساوی ہون +

(۳۰) نقطہ معلوم سے ایسا خط کھینچو کہ اگر اوسپر عمود دو اور نقاط معلوم سے نکالین تو وہ آپسمین برابر ہون اور اوس خط کی مختلف جانبون مین واقع ہون +

(۳۱) مثلث ا ب س کے زاویہ ا کو خط مستقیم تنصیف کرتا ہی اور نقطہ ب سے عمود ب د اس خط تنصیف کرنیوالے پر نقطہ د پر ملتا ہوا نکالا گیا ہی اور ب د خارج ہو کر اس یا ب س خارج شدہ سے نقطہ ی پر ملتا ہی تو ثابت کرو کہ ب د برابر ہے ب ی کے۔

(۳۲) دو خط مستقیم ا ب اور ا س نقطہ ا پر ملتے ہین نقطہ ع سے ایک خط مستقیم اون دونو خطون سے نقاط ی اور ف پر ملتا ہوا کھینچو کہ ا ی اور ا ف آپسمین مساوی ہون +

(۳۳) دو مثلث قایم الزاویہ ہین جنکے وتر آپسمین برابر ہین اور ایک ایک اور ضلع بھی آپسمین برابر ہے تو ثابت کرو کہ مثلث سب طرح آپسمین برابر ہین +

۲۷ شکل سے ۳۱ شکل تک

(۳۴) مثلث متساوی الساقین کے قاعدہ کا جو خط متوازی ہوگا وہ مثلث کی

ساقو پر برابر زاوئے بنائیگا +

(۳۵) اگر دو خط مستقیم آ اور ب متوازی ہون دو اور خطوط مستقیم س اور د کے موافق اپنی اپنی نظیر کے تو ثابت کرو کہ میلان آ کا ب کے ساتھہ وہی ہوگا جو س کا میلان د کے ساتھہ ہے +

(۳۶) خط مستقیم دو متوازی خطون پر ختم ہوتا ہے تو اس خط مستقیم کے نقطہ وسط سے جو خط مستقیم خطوط متوازیہ تک کھینچا جائیگا تو اس نقطہ پر وہ بھی تنصیف ہوگا۔

(۳۷) کسی نقطہ سے جو مساوی البعد دو خطوط مستقیم متوازیہ سے ہون دو خطوط مستقیم اون خطوط متوازیہ کو قطع کرتے ہوئے کھینچے جائین تو ان خطوط کے درمیان خطوط متوازیہ کے حصے مساوی واقع ہونگے +

(۳۸) اگر مثلث کے زاویہ خارجہ کی تنصیف ایک خط کرے اور وہ متوازی قاعدہ کے بھی ہو تو وہ مثلث متساوی الساقین ہوگا +

(۳۹) خط مستقیم معلوم س د مین نقطہ ب ایسا دریافت کرو کہ اگر اوسمین اور نقطہ معلوم ا مین خط ملایا جائے تو زاویہ ا ب س برابر زاویہ معلوم کے ہو۔

(۴۰) اگر کسی مثلث کے زاویہ کی تنصیف خط مستقیم کرتا ہو اور وہ مقابل کے ضلع کو قطع کرتا ہو اور اس نقطہ تقاطع سے خطوط متوازی مقابل کے اضلاع کے نکالے جائین اور وہ انہین اضلاع پر ختم ہو جائین تو یہہ خطوط آپسمین مساوی ہونگے +

(۴۱) مثلث ا ب س کا ضلع ب س نقطہ د تک بڑھایا گیا ہے اور زاویہ ا س ب کی تنصیف خط مستقیم س ی کرتا ہے اور ا ب سے نقطہ ی پر ملتا ہے اور نقطہ ی سے خط مستقیم متوازی ب س کا کھینچا گیا ہے اور وہ ا س سے نقطہ ف پر ملتا ہے اور ا س خط سے جو زاویہ خارجہ ا س د کی تنصیف کرتا ہے نقطہ ح پر ملتا ہے تو ثابت کرو ی ف اور ف ح آپسمین برابر ہین +

(۴۲) مثلث قایم الزاویہ ا ب س کے وتر ا ب مین نقطہ د ایسا دریافت کرو کہ ب د برابر اوس عمود کے ہو جو د سے ا س پر نکالا جائے۔

(۴۳) مثلث متساوی الساقین ا ب س کی ساقین ا ب اور ا س برابر ہین اونپر نقاط د د اور ی ایسی دریافت کرو کہ ب د اور د ی اور ی س آپسمین متساوی ہون +

(۴۴) مثلث متساوی الساقین اب س کے قاعدہ ب س پر خط مستقیم زاویہ قائمہ پیدا کرکے ضلع اب کو نقطہ د پر اور س ا خارج شدہ کو نقطہ ی پر قطع کرتا ہے تو ثابت کرو ا ی د مثلث متساوی الساقین ہے +

۳۲ شکل ام

(۴۵) مثلث متساوی الساقین کے قاعدہ کے اطراف سے عمود مقابل کے اضلاع پر نکالے گئے ہین تو ثابت کرو کہ ہر ایک زاویہ جو یہہ عمود قاعدہ پر پیدا کریگا مساوی نصف زاویہ راس کے ہوگا +

(۴۶) اگر مثلث متساوی الاضلاع اب س کے اضلاع پر مثلث متساوی الاضلاع ب س د اور س ی ا اور ا ب ف اوپر کی طرف بنائے جاوین تو خطوط مستقیم ا د اور ب ی اور س ف باہم مساوی ہونگے +

(۴۷) مسمن منتظم کے ایک زاویہ کی مقدار بتاؤ +

(۴۸) دو اقساط معلومہ سے خط مستقیم معلوم المقام تک ایسے دو خط کھینچو کہ مثلث متساوی الاضلاع پیدا ہو +

(۴۹) اگر مثلث متساوی الساقین کے فوق القاعدہ کے زاویے خطوط مستقیم سے تنصیف کیے جائین اور یہہ خطوط مستقیم خارج ہوکر آپسمین ملین اونکے درمیان زاویہ برابر مثلث کی زاویہ خارجہ کے پیدا ہوگا +

(۵۰) مثلث متساوی الساقین کا راس ا ہی اور ب ا نقطہ د تک ایسا بڑھایا گیا ہے کہ ا د برابر ب ا کے ہی اور د س ملایا گیا ہی تو ثابت کرو کہ ب س د زاویہ قائمہ ہی +

(۵۱) مثلث اب س کے زاویہ خارجے ب اور س خطوط مستقیم ب د اور س د سے تنصیف ہوئے ہین اور یہہ خطوط نقطہ د پر ملتے ہین تو ثابت کرو کہ زاویہ ب د س اور نصف زاویہ اب س ملکر زاویہ قائمہ ہے +

(۵۲) ثابت کرو کہ اگر مثلث کا ایک زاویہ برابر باقی دو زاویون کے ہو تو وہ مثلث قائم الزاویہ ہوگا اور اگر باقی دو زاویون کے مجموعہ سے بڑا ہو تو مثلث منفرج الزاویہ ہے اور اگر چھوٹا ہے تو مثلث حادۃ الزوایا ہی +

(۵۳) ایسا مثلث متساوی الساقین بناؤ کہ زاویہ راس ہر ایک قاعدہ پر کے زاویہ سے چوچند ہو +

(۵۴) مثلث اب س کا ضلع ب س نقطہ ی پر اور ضلع اب نقطہ ح پر تنصیف ہوا ہے اور ا ی ایسا ف تک خارج کیا گیا ہے کہ ی ف برابر ہے ا ی کے اور س ح ایسا ھ تک خارج کیا گیا ہے کہ ح ھ برابر ہے س ح کے تو ثابت کرو کہ خطوط ا ف ب اور ھ ب ایک خط مستقیم مین ہونگے +

(۵۵) مثلث متساوی الساقین ایسا بناؤ کہ فوق القاعدہ کی ہر ایک زاویہ کی تہائی برابر نصف زاویہ راس کے ہو +

(۵۶) دو خطوط مستقیم اب اور اس معلوم المقام ہین اونمین دو نقطے ع اور ق ایسے دریافت کرو کہ اگر ع ق ملائین تو ا ع اور ع ق ملکر برابر خط مستقیم معلوم کے ہون اور اونکے درمیان کا زاویہ برابر زاویہ معلوم کے ہو -

(۵۷) مثلث متساوی الساقین کی راس سے سمت بعید مین قاعدہ کے اطراف سے قاعدہ کے ساتھہ زاویے برابر ایک تہائی مثلث کی مساوی زاویونکے بناتے ہوئے خطوط کھینچے گئے ہین اور وہ اضلاع ممدودہ سے ملاقی ہوتے ہین تو تینو مثلث جو پیدا ہون گے وہ متساوی الساقین ہونگے +

(۵۸) خطوط مستقیم ا ی ب اور س ی دباہم نقطہ ی پر تقاطع کرتے ہین اور خطوط مستقیم ا س اور ب د کھینچکر مثلث ا ی س اور ب ی د پیدا کی گئی ہین اور زاویے د ب ی اور ا س ی خطوط مستقیم ب ف اور س ف سے تنصیف کی گئی ہین تو ثابت کرو کہ زوایا ی ا س اور ب د ی کا نصف مجموعہ برابر ہی زاویہ ب ف س کے

(۵۹) اگر مثلث قائم الزاویہ کے وتر کے نقطہ وسط اور راس قائمہ مین خط وصل کرین تو وہ برابر نصف وتر کے ہوگا -

(۶۰) ایک مثلث اب س کے وتر کے عمود مقابل کے ضلع پر نکالا ہے اور یہہ عمود اس ضلع سے یا ضلع ممدودہ سے نقطہ د پر ملتا ہے اور ایسے ہی نقطہ ب سے مقابل کے ضلع پر عمود نکالا ہے اور ضلع سے یا ضلع ممدودہ سے نقطہ ی پر ملتا ہی تو ثابت کرو کہ خطوط جو نقاط د اور ی سے نقطہ وسط اب تک کھینچے جائینگے آپسمین برابر ہونگے +

(۶۱) اگر مثلث کے قاعدہ کے طرفین سے عمود مقابل کے اضلاع پر نکالین تو خط مستقیم جو اضلاع کے نقاط تقاطع مین ملائین اوس عمود سے تنصیف ہوگا کہ قاعدہ کے نقطہ وسط سے اوسپر نکالین +

(اگر ضرورت پڑے تو اضلاع کو خارج کرلو)

(۶۲) پہلی شکل پہلے مقالہ مین اگر دائرون کے نقاط تقاطع س اور ہ ہون اور اب خارج ہوکر ایک دائرہ سے ک پر ملے تو س ہ ک مثلث متساوی الاضلاع ہوگا۔

(۶۳) مثلث متساوی الساقین کے فوق القاعدہ کے زاویون کے خطوط تنصیف کرنیوالے اضلاع سے نقاط داوری پر ملاقی ہوتے ہین تو ثابت کرو کہ دئی قاعدہ کا متوازی ہوگا۔

(۶۴) دو خطوط مستقیم معلوم اب اور اس ہین اور ع نقطہ معلوم پہلے خط مین ہے اب مطلوب یہہ ہے کہ ع سے خط مستقیم ایسا کھینچین کہ اس سے نقطہ ق پر اس طرح سے ملین کہ زاویہ اع ق سہ چند زاویہ اق ع سے ہو

(۶۵) مثلث قائم الزاویہ بناؤ جسکا وتر اور مجموعہ اضلاع معلوم ہے۔

(۶۶) مثلث قائم الزاویہ بناؤ جسکا وتر اور اضلاع کا تفاوت معلوم ہے۔

(۶۷) مثلث قائم الزاویہ بناؤ جسکا وتر اور عمود جو وتر پر قائمہ سے نکالین معلوم ہے +

(۶۸) مثلث قائم الزاویہ بناؤ جسکا مجموعہ اضلاع اور ایک زاویہ معلوم ہین +

(۶۹) زاویہ قائمہ کی تثلیث یعنی تین حصے برابر کرو۔

(۷۰) خط مستقیم محدود معلوم کی تثلیث کرو +

(۷۱) دو خطوط متوازیہ تک نقطہ معلوم سے دو خط متساوی جنکے درمیان کا زاویہ قائمہ ہو کھینچو

(۷۲) مثلث جسکا مجموعہ اضلاع معلوم ہے ایسا بناؤ کہ اوسکے زاویے برابر مثلث معلوم کے زاویون کے ہون +

۳۳ و ۳۴ شکل

(۷۳) اگر ذوا اربعۃ الاضلاع کے دو ضلعے متوازی اور دو ضلعے غیر متوازی مگر متساوی ہون تو اوسکے ہر ایک دو مقابل کے زاویونکا مجموعہ برابر دو قائمونکے ہوگا۔

(۷۴) اگر دو خطوط مستقیم غیر متوازی متساوی ہون اور اونکے ایک جہت کے اطراف مین خط مستقیم وصل ہو اور وہ اپنی ایک جہت مین مساوی زاویے پیدا کرے تو اون خطونکے دوسرے اطراف مین جو خط وصل کیا جائیگا متوازی پہلے خط کا ہوگا۔

(۷۵) مثلث کے قاعدہ کے اطراف سے جو خطوط مستقیم مقابل کے اطراف تک کھینچے جائین وہ ممکن نہین کہ ایک دوسرے کو تنصیف کرین +

(۷۶) اگر ذوا ربعۃ الاضلاع کے مقابل کے اضلاع آپس مین متساوی ہون تو وہ متوازی الاضلاع ہوگی +

(۷۷) اگر ذوا ربعۃ الاضلاع کے مقابل کے زاویے آپس مین متساوی ہون تو وہ متوازی الاضلاع ہوگی +

(۷۸) متوازی الاضلاع کے قطر آپسمین ایک دوسرے کو تنصیف کرتے ہین +

(۷۹) اگر ذوا ربعۃ الاضلاع کے وتر ایک دوسرے کو تنصیف کرتے ہون تو وہ متوازی الاضلاع ہوئی

(۸۰) اگر متوازی الاضلاع کے مقابل کے زاویون مین خط مستقیم ملایا گیا اون زاویون کی تنصیف کرے تو وہ متوازی الاضلاع متساوی الاضلاع ہوگی +

(۸۱) ایک نقطہ معلوم سے خط مستقیم ایسا کھینچو کہ اوسکا ایک حصہ درمیان خطوط متوازیہ معلوم کے برابر طول مفروض کے ہو +

(۸۲) خطوط مستقیم جو متوازی الاضلاع کے دو متصل کے زاویون کی تنصیف کرتے ہین متقاطع علی القوائم ہوتے ہین +

(۸۳) متوازی الاضلاع کے مقابل کے زاویون کی تنصیف کرنیوالے خطوط مستقیم کیا تو متوازی ہوتے ہین یا منطبق ایک دوسرے پر +

(۸۴) جس سطح متوازی الاضلاع کے قطر آپسمین متساوی ہون اوسکے سب زاویے آپسمین متساوی ہوتے ہین +

(۸۵) ایک نقطہ ایسا دریافت کرو کہ اگر اوس سے عمود دو خطوط مستقیمہ معلومہ پر نکالین تو وہ برابر دو خطوط مستقیم معلومہ کے علیحدہ علیحدہ ہون اور بتلاؤ ایسے کتنے نقطے دریافت ہوسکتے ہین +

(۸۶) خط مستقیم ایسا کھینچا چاہتے ہین کہ وہ ایک خط مستقیم کا مساوی اور دوسرے کا متوازی ہو اور اطراف اوسکے دو خطوط مستقیم معلوم پر واقع ہون +

(۸۷) سطح متوازی الاضلاع اب س د کے اضلاع اب اور ب س اور س د پر تین مثلث متساوی الاضلاع اس طرح بنائے ہین کہ ب س پر تو اوسی جہت مین جس جہت مین متوازی الاضلاع ہے اور اب اور س د پر مقابل کی جہت مین تو ثابت کرو کہ اب اور س د پر جو مثلث بنائے گئے ہین اون کی راسون کے فاصلے اوس مثلث کی راس سے

سے جو ب س پر بنایا ہے برابر متوازی الاضلاع کے دونو قطرون کے موافق اپنی اپنی نظیر کے ہون گے +

(۸۸) اگر سطح متوازی الاضلاع کا زاویہ جو درمیان دو متصل کے اضلاع کے واقع ہو زیادہ ہوتا جائے اور طول ضلعون کا کچھہ تبدیل نہو تو قطر جو ان اضلاع کے نقطہ تقاطع سے کھینچا جائے کم ہوتا جائیگا +

(۸۹) خط مستقیم مین تین نقطے ا اور ب اور س اسطرح سے واقع ہین کہ ا ب برابر ب س کے تو ثابت کرو کہ مجموعہ اون عمودونکا جو نقاط ا اور س سے کسی خط مستقیم پر جو ا اور س کے درمیان نہ گذرتا ہو نکالین دو چند اوس عمود سے ہوگا جو نقطہ ب سے اوسی خط مستقیم پر نکالین +

(۹۰) اگر سطح متوازی الاضلاع کے زاویون سے کسی خط مستقیم پر جو باہر سطح متوازی الاضلاع سے ہی عمود نکالین تو دو عمود جو مقابل کے زاویون سے نکالے ہین ملکر آپسمین برابر ہونگے +

(۹۱) اگر چہہ ضلعے کی مستقیم الاضلاع کے مقابل کے اضلاع متوازی اور متساوی ہون تو تینون خطوط مستقیم جو مقابل کے زاویون مین ملائین ایک نقطہ پر متقاطع ہونگے +

(۹۲) دو خطوط مستقیم ا ب اور س د معلوم ہین اور اونکے درمیان نقطہ ی معلوم ہے اس نقطہ ی سے خط ی ھ ایسا کھینچو کہ اوسکا حصہ ح ھ جو مابین خطوط معلوم کے واقع ہی نقطہ ی پر تنصیف ہو +

(۹۳) متوازی الاضلاع معلوم کے اندر ایک معین اسطرح بناؤ کہ اونکے ایک زاویہ کا راس اوس نقطہ معلوم پر ہو جو متوازی الاضلاع معلوم کے کسی ایک ضلع مین ہے +

(۹۴) سطح متوازی الاضلاع ا ب س د مین اضلاع ا ب اور ب س کے نقاط وسطی ی اور ف ہین ثابت کرو کہ ب ی اور د ف سطح متوازی الاضلاع کے قطر ا س کی تثلیث کرتے ہین +

۳۵ سے ۴۵ تک ا م

(۹۵) ذوار بعۃ الاضلاع ا ب س د کے اضلاع ب س اور ا د باہم متوازی ہین تو ثابت کرو کہ ذوار بعۃ الاضلاع کی سطح وہی ہی جو اوس متوازی الاضلاع کی ہے کہ س د کے نقطہ وسط سے ا ب کے متوازی نکال لینے سے بنتی ہے +

(۹۶) ذوار بعۃ الاضلاع ا ب س د مین ب س متوازی ا د کا ہی اور د س کا نقطہ وسطی ہی تو ثابت کرو کہ مثلث ا ی ب ذوار بعۃ الاضلاع کا نصف ہی +

(۹۷) قطر متوازی الاضلاع کے نقطہ وسط سے جو خط کھینچا جائے اور وہ مقابل کے اضلاع پر منتہی ہو تو ثابت کرو کہ وہ خط اوس سطح کی تنصیف کریگا +

(۹۸) متوازی الاضلاع کے اندر نقطہ معلوم ہی اوس سے ایسا خط کھینچو کہ اوسکی تنصیف کرے۔

(۹۹) ایک معین برابر سطح متوازی الاضلاع کے بناؤ۔

(۱۰۰) اگر دو مثلثون کے دو دو ضلعے موافق اپنی اپنی نظیر کے مساوی ہون اور ان اضلاع کے درمیانی زاویون کا مجموعہ برابر دو قائمونکے ہو تو ثابت کرو کہ مثلث مساحتاً متساوی ہونگے

(۱۰۱) سطح متوازی الاضلاع ا ب س د کی ایک خط تنصیف کرتا ہوا د ی نقطہ ی اور ب س سے نقطہ ف پر ملتا ہی تو ثابت کرو کہ مثلث ی ب ف اور س د ی آپسمین مساوی ہونگے +

(۱۰۲) سطح متوازی الاضلاع قطرون سے جن چار مثلثون مین تقسیم ہوتی ہے اونکے رقبے آپسمین برابر ہوتے ہین۔

(۱۰۳) دو خط مستقیم ا ب اور س د نقطہ ی پر تقاطع کرتے ہین اور مثلث ا ی س اور ب ی د آپسمین مساوی ہین تو ثابت کرو کہ ب س اور ا د باہم متوازی ہونگے۔

(۱۰۴) متوازی الاضلاع ا ب س د قطر ب د مین کوئی نقطہ ع مقرر کرکے خطوط مستقیم ع ا اور ع س کھینچے گئے ہین تو ثابت کرو کہ مثلث ع ا ب اور ع س ب آپس مین مساوی ہین +

(۱۰۵) اگر ایسا مثلث بنائین کہ اوسکے دو ضلعے برابر ایک ذوار بعۃ الاضلاع کے دونو وترون کے ہون اور زاویہ درمیانی اونکا برابر کسی ایک زاویہ درمیانی وترونکے ہو تو سطح اس مثلث کی برابر ذوار بعۃ الاضلاع کے رقبہ کے ہوگی

(۱۰۶) خط جو کسی مثلث کی اضلاع کے نقاط وسط مین وصل ہوتا ہی قاعدہ کا متوازی ہوتا ہی۔

(۱۰۷) ذوار بعۃ الاضلاع کے اضلاع متصلہ کے نقاط وسط مین جو خطوط وصل کئے جائین اونسے سطح متوازی الاضلاع پیدا ہوتی ہی۔

(۱۰۸) مثلث کے اضلاع ا ب اور ا س کے نقاط وسط د اور ی ہین خطوط س د اور ب ی نقطہ ف پر قطع ہوتے ہوئے ملائے ہین تو ثابت کرو کہ مثلث ب ف س برابر ذوار بعۃ الاضلاع ا د ف ی کے ہوگا۔

(۱۱۰) مثلث کی دو ضلعونکے جو خط مستقیم تنصیف کریگا وہ قاعدہ سے نصف ہوگا۔

(۱۱۰) مثلث کے قاعدہ اس مین کوئی نقطہ د مقرر کرکے ا د اور د س اور ا ب اور ب س کی نقاط
ی اور ف اور ح اور ھ پر تنصیف کی گئی ہی تو ثابت کرو کہ ی ح برابر اور متوازی ف ھ کے ہوگا۔
(۱۱۱) اضلاع مثلث کے نقاط وسط معلوم ہین مثلث بناؤ۔
(۱۱۲) اگر مثلث کے اضلاع کی تنصیف کرکے نقاط وسط مین خط ملائین تو جو مثلث پیدا ہوگا وہ مثلث
معلوم کی چوتھائی ہوگا۔
(۱۱۳) مثلث معلوم ا ب س کے اضلاع ا ب اور ا س نقاط ی اور ف پر تنصیف کئے گئے ہین
اور نقطہ ا سے ایک عمود مقابل کے ضلع پر نقطہ د پر اوس سے ملتا ہوا نکالا گیا ہے تو ثابت
کرو کہ زاویہ ف د ی برابر ہے زاویہ ب ا س کے اور یہہ بھی ثابت کرو کہ شکل ا ف د ی
نصف مثلث ا ب س سے ہی
(۱۱۴) دو مثلث جنکے رقبے آپسمین برابر ہین ایک قاعدہ پر اوسکے دو جانب مین قائم ہین تو
ثابت کرو کہ اون کی راسون مین خط ملایا گیا قاعدہ سے یون ہی یا قاعدہ ممدودہ سے
تنصیف ہوگا +
(۱۱۵) تین متوازی الاضلاع جو سب طرح سے آپسمین متساوی ہین اسطرح سے اپنے مساوی
قاعدون پر واقع ہوئے ہین کہ اونکے قاعدے ایک خط مستقیم مین ہین اور اول سطح کے
قاعدہ کے اطراف مین اور تیسری سطح کے اوس ضلع کی اطراف مین جو اوس کے قاعدہ
کے مقابل واقع ہے خطوط وصل کئے گئے ہین تو ثابت کرو کہ یہہ نئی سطح متوازی الاضلاع
جو بنائی گئی ہے اوسکا وہ حصہ جو درمیان سطح متوازی الاضلاع دوم کے واقع ہی نصف
ہر ایک سطح متوازی الاضلاع سے ہے +
(۱۱۶) سطح متوازی الاضلاع ا ب س د کے نقطہ د سے خط مستقیم د ف ح خط ب س سے نقطہ ف پر
اور ا ب خارج شدہ سے نقطہ ح پر ملتا ہوا کھینچو اور ملاؤ ا ف اور س ح تو ثابت کرو کہ مثلث
ا ب ف اور س ف ح آپسمین برابر ہونگے۔
(۱۱۷) مثلث ا ب س معلوم ہی اوسکے برابر رقبے مین مثلث بناؤ جسکا قاعدہ ایک خط معلوم
ا د ہو جسکا مقام ا ب پر منطبق ہوتا ہے۔
(۱۱۸) مثلث ا ب س معلوم ہی اوسکے برابر رقبہ مین مثلث بناؤ جسکا زاویہ راس ایک نقطہ
معلوم پر ب س مین ہو اور قاعدہ اوسکا سیدھ مین خط ا ب کے ہو۔

(۱۱۹) ذوار بعۃ الاضلاع معلوم اب س د ہی ایک ذوار بعۃ الاضلاع بناؤ جو رقبہ مین اوسکے برابر ہو اور اوسکا ایک ضلع اب ہو اور دوسرا ضلع اوس خط مستقیم مین ہو جو اب کا متوازی نقطہ معلوم سے کہ س د مین جو کھینچا جائے +

(۱۲۰) اب س د ایک ذوار بعۃ الاضلاع ہے ایک مثلث بناؤ جسکا قاعدہ اب کی سیدھ مین ہو اور جسکا راس نقطہ معلوم ع پر ہو جو س د مین ہی اور اوسکا رقبہ برابر ذوار بعۃ الاضلاع ہو۔

(۱۲۱) مثلث اب س معلوم ہی ایسا مثلث بناؤ جسکا رقبہ اوسکی برابر ہو اور اوسکا قاعدہ اب کی سیدھ مین ہو اور اوسکا راس ایک خط مستقیم معلوم مین ہو جو اب کا متوازی ہو +

(۱۲۲) مثلث معلوم کے ضلع مین نقطہ معلوم سے اوس سے ایسا خط مستقیم کھینچو کہ وہ اس مثلث کی تنصیف کرے +

(۱۲۳) ذوار بعۃ الاضلاع معلوم کے زاویہ معلوم سے ایسا خط مستقیم کھینچو کہ اس ذوار بعۃ الاضلاع کی تنصیف کرے +

(۱۲۴) متوازی الاضلاع اب س د کے اضلاع کے متوازی نقطہ ر سے دو خطوط مستقیم کھینچین اور متوازی الاضلاع ر ب اور ر د آپسمین برابر ہون تو نقطہ ر قطر اس مین ہوگا۔

۴۶ سے ۴۸ تک مقالہ اول

(۱۲۵) مثلث اب س کے اضلاع اس اور ب س پر مربعے اس د ی اور ب س ف ھ کے بنائے ہین تو ثابت کرو کہ خطوط مستقیم ا ف اور ب د آپسمین مساوی ہین +

(۱۲۶) مثلث کے زاویہ حادہ کے ضلع مقابل پر جو مربع بنایا جائے وہ اون دونو مربعون کے مجموعہ سے کہ اضلاع پر بنائے جائین کم ہوتا ہی +

(۱۲۷) مثلث کے زاویہ منفرجہ کے مقابل کے ضلع پر مربع بنایا جائے وہ اون دونو مربعون کے مجموعہ سے بڑا ہوتا ہی جو اور اضلاع پر بنائے جائین +

(۱۲۸) اگر مثلث مین ایک ضلع کا مربع چھوٹا ہو باقی دونو اضلاع کے مربعونکے مجموعہ سے تو ان اضلاع کے درمیان کا زاویہ حادہ ہوگا اور اگر بڑا ہو تو زاویہ منفرجہ ہوگا +

(۱۲۹) مثلث قایم الزاویہ مین خط مستقیم متوازی وتر کا نکالا ہی اور جن نقطون پر یہہ خط مستقیم اضلاع کو قطع کرتا ہے اون نقطون سے خطوط مستقیم مقابل کے زاویون مین وصل کئے ہین تو ان ملائے ہوئے خطوط مستقیم کے مربعون کا مجموعہ برابر وتر کے مربع اور اوس خط

کے مربع کے ہوگا جو وتر کا متوازی نکالا ہے +

(۱۳۰) کسی مستطیل کے زوایا آ اور ب اور س اور د کی راسون مین اور کسی نقطہ ع مین خطوط وصل کئے جائین تو ع آ اور ع س کے مربعون کا مجموعہ برابر ہوگا ع ب اور ع د کے مربعون کے مجموعہ کے۔

(۱۳۱) اگر مثلث قائم الزاویہ مین اضلاع قائمہ ایسی ہون کہ ایک ضلع کا مربع سہ چند دوسرے ضلع کے مربع سے ہو اور زاویہ قائمہ سے دو خط مستقیم کھینچے جائین ایک تو مقابل کے ضلع کی تنصیف کرتا ہی اور دوسرا اوسپر عمود ہو تو یہہ خطوط زاویہ قائمہ کی تثلیث کرینگے۔

(۱۳۲) اگر مثلث ا ب س مین زاویہ آ قائمہ ہو اور ب ی اور س ف مقابل کے اضلاع کی تنصیف کرتے ہوئے کھینچین تو ثابت کرو کہ مربعون ب ی اور س ف کا جو چند مجموعہ مربع ب س کے پچگنی کے برابر ہوگا +

(۱۳۳) مثلث قائم الزاویہ ا ب س کے وتر ب س پر اور اضلاع س آ اور ا ب پر مربعے ب د ی س اور ا ف اور ا ج بنائے ہین تو ثابت کرو کہ مربعے د ج اور ی ف پر ملکر مربع ب س کے پچگنی کے برابر ہونگے +

اسے اتک مقالہ دوم

(۱۳۴) اگر خط مستقیم دو حصونمین تقسیم ہو اور دو چند سطح دونو حصون کی برابر ہو دونون حصونکے مربعونکے تو ثابت کرو کہ وہ خط مستقیم تنصیف ہوا ہی۔

(۱۳۵) خط مستقیم معلوم کو ایسے دو حصونمین تقسیم کرو کہ ان دونو حصونکی سطح حتی الامکان بڑی ہو +

(۱۳۶) دو معلوم مربعون کے فرق کے برابر ایک مستطیل بناؤ۔

(۱۳۷) خط مستقیم معلوم کو ایسے دو حصونمین تقسیم کرو کہ ان دونو حصون کے مربعے ملکر حتی الامکان چھوٹے ہون

(۱۳۸) ثابت کرو کہ دو خطوط مستقیم کے مجموعہ پر جو مربع بنائین وہ مع اوس مربع کے جو اونکے فرق پر بنائین برابر اون خطوط مستقیم کے دو چند مربعونکے ہوگا۔

(۱۳۹) خط مستقیم معلوم کو ایسے دو حصون مین تقسیم کرو کہ مجموعہ اونکے مربعون کا برابر مربع معلوم کے ہو۔

(۱۴۰) خط مستقیم معلوم کو ایسے دو حصون مین تقسیم کرو کہ ایک حصہ کا مربع دو چند دوسرے حصہ کے مربع سے ہو +

(۱۴۱) اشکل ۲ م مین اگر س ھ کھینچین اور وہ ب ت کی نقطہ ل پر ملے تو ثابت کرو کہ س ل عمود ب ت پر ہی

(۱۴۲) شکل یازدہم مقالہ دوم مین اگر ب ی اور س ھ نقطہ ح پر ملین تو ثابت کرو کہ ا ز ا د ی یہ قائمہ س ھ پر پیدا کرتا ہی

(۱۴۳) ثابت کرو کہ اگر کوئی خط مستقیم ایسا تقسیم کیا جاے جیسا کہ شکل یازدہم مقالہ دوم مین ہوا ہی تو دونو حصونکے مجموعہ اور فرق کی سطح برابر اون دونو حصون کے سطح کے ہوگی۔

مقالہ دوم ۱۲ سے ۱۴ تک

(۱۴۴) مثلث متساوی الساقین کے قاعدہ کا مربع برابر ہوتا ہی دو چند سطح ایک ساق اور اوس خط مستقیم کی جو واقع ہی درمیان طرف قاعدہ اور موقع عمود کے جو مقابل کے زاویے سے اوس ساق پر نکالا جائے +

(۱۴۵) مثلث مین دو ضلعونکے مربعون کا مجموعہ برابر ہوتا ہی نصف قاعدہ کے دو چند مربع اور دو چند مربع اوس خط مستقیم کے جو راس اور نقطہ وسط قاعدہ مین ملایا جائے۔

(۱۴۶) مثلث ا ب س کے اضلاع ا ب اور ا س اپسمین برابر ہین اگر ا ب پر سے قاعدہ سے د تک ایسا بڑہایا جائے کہ ب د برابر ہو ا ب کے تو ثابت کرو کہ مربع س د کا برابر ہی مربع ا ب اور دو چند مربع ب س کے

(۱۴۷) متوازی الاضلاع کے اضلاع کے مربعون کا مجموعہ برابر ہوتا ہے اوس کے قطرون کے مربعون کے مجموعہ کے۔

(۱۴۸) قاعدہ مثلث کا معلوم ہی اور وہ دائرہ معلوم کے مرکز سے تنصیف ہوتا ہی اس مثلث کا راس اگر محیط دائرہ مین ہو تو ہمیشہ اضلاع مثلث کے مربعون کا مجموعہ ایک مقدار معینہ مستقل ہوگی +

(۱۴۹) ذو اربعۃ الاضلاع کے وترونکے مربعونکا مجموعہ برابر ہوتا ہے دو چند مربعون اون خطوط مستقیم کے جو اضلاع مقابل کے نقاط وسط مین ملائے جائین۔

(۱۵۰) اگر سطح متوازی الاضلاع کے قطرون کے نقطہ تقاطع کو مرکز بنا کر ایک دائرہ کھینچین تو اوسکے محیط مین کوئی سا نقطہ لیکر خطوط متوازی الاضلاع کے زاویون کی راسون مین ملائین تو اونکے مربعونکا مجموعہ ہمیشہ ایک مقدار معینہ مستقل ہوگی۔

(۱۵۱) ذوا ربعۃ الاضلاع کے اضلاع کے مربعونکا مجموعہ اونکے دو وترون کے مجموعہ سے بڑا ہوتا ہے بقدر چوچند مربع اوس خط کے کہ وترونکے نقاط وسط مین ملا جائے +

(۱۵۲) ایک دائرہ کے قطر اب پر نقاط س اور د برابر فاصلہ پر مرکز سے مقرر کئے جائین اور کوئی نقطہ ی محیط مین معین کرکے ی س اور ی د کھینچے جائین تو ثابت کرو کہ ی س اور ی د کے مربعون کا مجموعہ برابر اس اور اد کے مربعونکے مجموعہ کے ہوگا -

(۱۵۳) ایک مثلث کے قاعدہ ب س مین نقطہ د ایسا معین کیا گیا ہے کہ اب اور ب د کے مربعونکا مجموعہ برابر ہے اس اور س د کے مربعونکے مجموعہ کے تو نقطہ وسط اد کا مساوی البعد نقاط ب اور س سے ہوگا +

(۱۵۴) مثلث متساوی الساقین کی راس سے قاعدہ تک جو خط مستقیم کھینچا جائے اوسکا مربع ہر ایک ساق کے مربع سے بقدر سطح حصص قاعدہ کے چھوٹا ہوتا ہے -

(۱۵۵) مثلث قائم الزاویہ اب س کے وتر ب س پر مربع ب د ی س بنایا گیا ہے تو ثابت کرو کہ د ا اور ا س کے مربعونکا مجموعہ برابر ہے ی ا اور ا ب کے مربعونکے مجموعہ کے -

(۱۵۶) مثلث اب س مین زاویہ س قائمہ ہے اس مین نقطہ د سے د ی عمود اب پر نکالا ہے تو ثابت کرو کہ سطح اب اور ا ی کی برابر سطح اس اور ا د کے ہوگی -

(۱۵۷) اگر مثلث متساوی الاضلاع کے کسی زاویہ سے ایک خط مستقیم کھینچا جائے اور مقابل کے ضلع ممدودہ سے اسطرح ملے کہ جو ضلع ممدودہ پیدا ہوا اوسکے سطح حصہ ممدودہ مین برابر ایک ضلع کے مربع کے ہو تو ثابت کرو کہ مربع اس خط مستقیم کا جو کھینچا گیا ہے برابر ہوگا ضلع کے دو چند مربع کے -

(۱۵۸) ایک مثلث مین جسکا زاویہ راس قائمہ ہے عمود راس سے قاعدہ پر نکالا ہے تو ثابت کرو کہ اس عمود کا مربع برابر ہوگا قاعدہ کے حصون کی سطح کے +

(۱۵۹) مثلث مین جسکا زاویہ راس قائمہ ہے عمود راس سے قاعدہ پر نکالا ہے تو ثابت کرو کہ مثلث کے ضلعون مین سے کسی ایک ضلع کا مربع برابر ہوگا سطح قاعدہ اور اوس حصہ قاعدہ کے جو متصل اوس ضلع کے ہے -

(۱۶۰) مثلث اب س مین زاویئے ب اور س حادے ہین اور عمود مقابل کے زاویون سے اس اور اب پر نکالے ہین اور اونسے نقاط ی اور ف پر ملتے ہین تو ثابت کرو کہ ب س کا مربع برابر سطح اب اور ب ف مع سطح اس اور س ی کے ہوگا -

(۱۶۱) خط مستقیم معلوم کو ایسے دو حصوں مین تقسیم کرو کہ سطح اونکے برابر ایک خط مستقیم معلوم کے مربع کے ہو جو پہلے خط مستقیم کے نصف سے چھوٹا ہی

مقالہ سوم - اسے ۵ تک

(۱۶۲) مرکز معلوم پر ایسا دائرہ کھینچو کہ وہ قطر دائرہ معلوم کو اطراف قطر پر قطع کرے +

(۱۶۳) دائرہ کے اندر ذوا اربعۃ الاضلاع بنی ہوئی ہی اگر اوسکے ضلعونکے نقاط وسط سے اضلاع پر عمود نکالین تو ثابت کرو کہ وہ سب ایک نقطہ پر ملینگے -

(۱۶۴) دو دائرے متقاطع ہین اگر نقاط تقاطع سے دو خطوط متوازی دائرہ کو قطع کرتے ہوئے کھینچین تو ثابت کرو کہ وہ آپسمین مساوی ہونگے -

(۱۶۵) دو دائرے جنکے مرکز ا اور ب ہین نقطہ س پر متقاطع ہین اگر نقطہ س سے اوتار س ح اور س د ح یکسان میلان اب پر رکھتے ہوئے کھینچے جائین اور محیطون پر ختم ہون تو د ی اور ف ح آپسمین مساوی ہونگے +

(۱۶۶) دو معلوم متقاطع دائرون کے کسی نقطہ تقاطع سے خط مستقیم دائرونکے محیطون پر ختم ہوتا ہوا ایسا کھینچو کہ حتی الامکان بڑا ہو +

(۱۶۷) دائرے کے قطر مین کسی نقطہ سے خطوط مستقیم اطراف وتر مین جو متوازی قطر کی ہو کھینچی جائین تو ان خطوط مستقیم کے مربعونکا مجموعہ برابر ہوگا اون حصص قطر کے مربعون کے مجموعہ کے جو اوس نقطہ سے ہوئے ہین +

(۱۶۸) ایک دائرہ ھ ع ق ر کے باہر نقاط ا اور ب متعین ہین اوسکے محیط مین ایک نقطہ ع ایسا ایسا دریافت کرو کہ اع اور ب ع کے مربعے ملکر حتی الامکان کم ہون -

(۱۶۹) اگر دو دائرے ایک دوسرے کو مس کرین اور اونکے دو قطر متوازی باہم کھینچے جائین تو ہر قطر کے طرفین اور نقطہ تماس ایک خط مستقیم مین ہونگے

(۱۷۰) ایک دائرہ کے نصف قطر کو قطر بنا کر دوسرا دائرہ دائرہ کے اندر بنایا گیا ہی اور بڑے دائرہ کے دو وتر اس طرح سے کھینچے ہین کہ ایک تو چھوٹے دائرہ کے مرکز پر قطر مشترک پر زاویے قائمے بناتا ہی اور جہان یہہ وتر دائرہ خرد کو کاٹتا ہی اوس نقطہ پر اسی وتر پر زاویے قائمے بناتا ہوا دوسرا وتر کھینچا گیا ہی تو ثابت کرو کہ ایک وتر کے حصے برابر دوسرے وتر کے حصوں کے موافق اپنی اپنی نظیر کے ہونگے +

(۱۷۱) دائرہ کے اندر نقطہ معلوم سے چھوٹے سے چھوٹا وتر کھینچو۔

(۱۷۲) دائرہ کا مرکز ہی اور اوسکے محیط مین ع ایک نقطہ معین ہے اور ایک قطر متعین پر ع ن عمود نکالا ہے تو جو خط زاویہ ع ن کی تنصیف کریگا ہمیشہ دو نقاط معینہ مین سے ایک پر گذریگا۔

(۱۷۳) تین دائرے باہر کی طرف نقاط ا اور ب اور س پر آپسمین مس کرتے ہین اور نقطہ ا سے خطوط مستقیم ا ب اور ا س خارج کئے گئے دائرہ ب س کو نقاط د اور ی پر قطع کرتے ہین تو ثابت کرو کہ د ی قطر دائرہ ب س کا ہے اور متوازی اوس مستقیم کا ہی جو اور دائرون کے مرکزون مین ملایا جائے +

(۱۷۴) ذوار بعۃ الاضلاع کے اضلاع کو قطر بنا کر دائرے کھینچے ہین تو ثابت کرو کہ اوتار مشترک جو دو دو متصل کے دائرون مین ہونگے متوازی ہونگے +

(۱۷۵) ایسا دائرہ کھینچو کہ ایک اور دائرے کو مس کرے اور اوسکا مرکز ایک خط مستقیم معلوم مین ہو اور دوسرے خط مستقیم معلوم کے نقطہ معلوم پر گذرے۔

۱۶ سے ۱۹ تک ۳ م

(۱۷۶) ثابت کرو کہ ایک نقطہ سے جو دائرہ سے باہر ہو دو ہی مماس دائرے کے جو آپسمین برابر ہوتے ہین نکل سکتے ہین۔

(۱۷۷) دائرہ معلوم کو خط مستقیم مس کرتا ہوا متوازی خط مستقیم معلوم کا نکالو۔

(۱۷۸) دائرہ معلوم کو خط مستقیم مس کرتا ہوا عمود خط مستقیم معلوم پر نکالو۔

(۱۷۹) دائرہ معلوم کے قطر کو خارج کرو اور حصہ خارج شدہ مین ایسا نقطہ دریافت کرو کہ اگر اوسسے مماس نکالین تو اسکا طول برابر طول معلوم کے ہو۔

(۱۸۰) دو دائرے متحد المرکز ہین تو ثابت کرو کہ جتنی وتر دائرہ اندرونی کو مس کرینگے باہم مساوی ہونگے

(۱۸۱) نقطہ معلوم سے خط مستقیم ایسا کھینچو کہ اوسکا ایک حصہ جو دائرہ معلوم کے محیط کے درمیان واقع ہو وہ خط مستقیم معلوم کے برابر ہو بشرطیکہ وہ قطر سے بڑا نہو۔

(۱۸۲) دائرہ کے قطر کے اطراف مقابل سے دو مماس نکالے ہین اور وہ تیسرے مماس کا حصہ ا ب قطع کرتے ہین تو ثابت کرو کہ اگر س مرکز دائرہ ہی تو زاویہ ا س ب قائمہ ہے۔

(۱۸۳) ایسا دائرہ کھینچو کہ وہ نصف قطر معلوم رکھے اور دوسرے دائرے معلوم اور خط مستقیم

معلوم کو مس کرے +

(۱۸۴) دائرہ معلوم اور خط مستقیم معلوم کو ایک دائرہ مس کرتا ہوا کھینچا ہے تو ثابت کرو کہ محیط دائرہ معلوم کی ایک ہی نقطہ خاص پر ہمیشہ خط مستقیم نقاط تماس مین ملایا گیا گذریگا۔

(۱۸۵) خط مستقیم ایسا کھینچو کہ دو معلوم دائرون مین سے ہر ایک کو مس کرے۔

(۱۸۶) خط مستقیم ایسا کھینچو کہ ایک دائرہ معلوم کو مس کرے اور دوسرے دائرہ کے اندر اوسکا حصہ برابر ایک خط معلوم کے ہو بشرطیکہ یہہ خط معلوم قطر دائرہ دوم سے بڑا نہ ہو۔

(۱۸۷) خط مستقیم دو دائرون کو اسطرح سے قطع کرتا ہوا کھینچو کہ اوسکے حصے جو وتر دائرونکے بنین برابر خطوط معلوم کے ہون۔

(۱۸۸) دائرہ کے اوپر ذوار بعۃ الاضلاع جسکے سب ضلعے دائرہ کے مماس ہین بنی ہوئی ہی تو ثابت کرو کہ اوسکے دو دو مقابل کے ضلعون کے مجموعے آپسمین برابر ہین۔

(۱۸۹) ثابت کرو کہ دائرہ کے اوپر کوئی شکل متوازی الاضلاع سوا معین کے نہین کھینچ سکے۔

(۱۹۰) دو خطوط مستقیم اب داور اس سی دائرہ کو نقاط ب اور س پر مس کرتے ہین اگر دی ملایا جائے اور دی برابر اب داور س سی کے ہو تو ثابت کرو کہ دی دائرہ کو مس کرتا ہی۔

(۱۹۱) اگر دائرہ کے اوپر ذوار بعۃ الاضلاع بنائی جائے تو شکل کے دو مقابل کے اضلاع پر جو زاویے سامنے مرکز پر واقع ہونگے ملکر برابر دو قائمونکے ہونگے۔

(۱۹۲) اگر دائرہ کے اندر نصف قطر متقاطع علی القوائم ہون اور وہ خارج ہو کر ایک خط مستقیم کو جو دائرہ کو مس کرتا ہی قطع کرین اور نقاط تقاطع سے مماس دائرہ کے نکالے جائین تو یہہ مماس باہم متوازی ہونگے +

(۱۹۳) ایک خط مستقیم دو دائرون کو مس کرتا ہوا کھینچا گیا ہے تو ثابت کرو کہ وہ اوتار متوازی ہونگے جو نقاط تماس اور ان نقطون مین ملائے جائین جنپر دائرون کے مرکزون سے خط مستقیم گذرتا ہوا محیط دائرون سے ملتا ہی۔

(۱۹۴) اگر دو دائرے ایسی کھینچے جائین کہ وہ آپسمین بھی مس کرین اور ہر ایک اونمین سے ذوار بعۃ الاضلاع کے تین تین ضلعونکو بھی مس کرے تو مقابل کے دو دو ضلعونکے مجموعہ کا فرق برابر ہوگا دو چند اوس مماس مشترک کے کہ ذوار بعۃ الاضلاع کے عرض مین کھینچا جائے۔

(۱۹۵) نصف دائرہ کا قطر اب اور مرکز س ہی اور اوسمین دائرہ بنایا ہی جسکا مرکز ج ہے تو

ثابت کرو کہ ہ مساوی الابعاد ہوگا س اور مماس نصف دائرہ سی جو متوازی اب کا نکالا جائے۔

(۱۹۶) اگر دائرہ کے باہر نقطہ ہو اور اوس سے دو مماس دائرہ کے نکالین اور نقاط تماس مین خط وصل کرین اور ایک نقطہ تماس سے ایک قطر نکالین تو ان دونو کے درمیان جو زاویہ واقع ہوگا وہ نصف اوس زاویہ سے ہوگا جو اون دو مماسون کے درمیان واقع ہے۔

(۱۹۷) ایک ذوار بعۃ الاضلاع کی یہ صورت ہے کہ ایک ضلع تو اوسکا قطر دائرہ بنا ہے اور باقی تین اضلاع اس دائرہ کو مس کرتے ہین تو ثابت کرو کہ اس ذوار بعۃ الاضلاع کا رقبہ برابر ہوگا سطح قطر اور اوس ضلع کے جو اوسکے مقابل واقع ہے +

(۱۹۸) اگر ذوار بعۃ الاضلاع کے دو ضلعے متوازی ہون اور وہ دائرہ کے اوپر بنائی جائے تو خط مستقیم جو مرکز دائرہ سی متوازی ان اضلاع متوازیہ مین سے کسی ایک کا کھینچا جائے اور باقی اضلاع پر منتہی ہو تو وہ برابر ہوگا چوتھائی مجموعہ اضلاع ذوار بعۃ الاضلاع کے۔

(۱۹۹) متسلسل دائرے خط مستقیم قائم کو نقطہ قائم پر مس کرتے ہین اور خط مستقیم متوازی قائم کو قطع کر رہے ہین تو ان کے نقاط تقاطع سے جو مماس نکالینگے وہ ایک خاص دائرہ کو مس کرینگے۔

(۲۰۰) دو نقاط معلوم سی جسقدر خطوط مستقیم محیط دائرہ معلوم کے محدب طرف پر ملتے ہوئے کھینچے جائین اونمین سے سب سے چھوٹا اون خطوط مستقیم کا مجموعہ ہوتا ہے جو اوس مماس پر برابر زاویے بناتے ہین کہ اونکے نقطہ اتصال سے نکالا جائے +

(۲۰۱) دائرہ معلوم کا مرکز س اور نصف قطر س ا ہے اور نصف قطر پر ایک نقطہ ہے اور ایک اور نصف قطر زاویے قائمے س ا پر بناتا ہے اور ا ب ملا ہے اور خارج ہو کر محیط دائرہ سے نقطہ د پر ملتا ہے اور نقطہ د سے جو مماس نکالا گیا ہے وہ س ب خارج شدہ سے نقطہ ی پر ملتا ہے تو ثابت کرو کہ ب د ی مثلث متساوی الساقین ہے۔

(۲۰۲) فرض کرو کہ دائرہ کا قطر ب ا نقطہ ع تک اتنا بڑھائین کہ ا ع برابر نصف قطر کے ہو اور نقطہ ا سے مماس ا ی د کھینچین اور نقطہ ع سے ع ی س دائرہ کو نقطہ س پر مس کرتا ہوا کھینچین اور وہ پہلے مماس سے نقطہ ی پر ملے اور ب س کو ملا کر خارج کرین کہ ا ی د سی نقطہ د پر ملے تو مثلث د ی س متساوی الاضلاع ہوگا۔

۲۰ سے ۲۲ تک مقالہ سوم

(۲۰۳) دائرہ کے دو مماس ا ب اور ا س کھینچے ہین اور محیط دائرہ مین باہر مثلث ا ب س سے

کوئی نقطہ د مقرر کیا گیا ہی تو زاوئے ا ب د اور ا س د کا مجموعہ ہمیشہ ایک مقدار معینہ مستقل ہوگی۔

(۲۰۴) ا ب پر دو قطعے دائرے بنائے گئے ہین اور اونکے محیطون مین نقاط ع اور ق مقرر کئے گئے ہین اور زاوئے ع ا ق اور ع ب ق خطوط مستقیم ا ر اور ب ر سے جو نقطہ ر پر ملتے ہین تنصیف کئے گئے ہین تو ثابت کرو کہ زاویہ ا ر ب ہمیشہ مقدار معینہ مستقل ہے۔

(۲۰۵) ایک ہی قاعدہ ا ب پر دو قطعے دائرے کھینچے گئے ہین اور ع ایک نقطہ محیط مین کسی قطعہ کے معین ہی اور خطوط مستقیم ع د اور ب ع س دوسرے قطعہ کے محیط سے نقاط د اور س پر ملتے ہوئے کھینچے گئے ہین اور ا س اور ب د نقطہ ق پر ملتے ہین تو ثابت کرو کہ ا ق ب ایک مقدار معینہ مستقل ہے۔

(۲۰۶) دو دائرون ا ق ع اور ع ب ر کے نقطہ تقاطع ع سے ایک وتر متعین ا ع ب کھینچا گیا ہے اور ق ع ر ایک اور وتر نقطہ ع پر گذرتا ہوا کھینچا گیا ہے تو ثابت کرو کہ ا ق اور ب ر خارج ہوکر ایک زاویہ معینہ مستقل پر ملینگے۔

(۲۰۷) مثلث ا ب ج ہی اور ب ج مین نقطہ س اور ا ج مین نقطہ د ایسے ہین کہ زاویہ ب س د برابر ہی زاویہ ب ج ا کے تو ثابت کرو کہ ذو اربعۃ الاضلاع ا ب س د کے گرد دائرہ کھینچ سکتا ہے۔

(۲۰۸) دائرہ مین ذو اربعۃ الاضلاع ا ب س د ہی اور اضلاع ا ب اور س د خارج ہوکر نقطہ ر پر ملتے ہین تو ثابت کرو کہ مثلث ا ر س اور ب ر د متساوی الزوایا ہین۔

(۲۰۹) ثابت کرو کہ ہوا سطح قائم الزاویہ کی کوئی سطح متوازی الاضلاع دائرہ مین نہین کھینچ سکتے۔

(۲۱۰) دائرہ مین مثلث بنا ہوا ہی تو ثابت کرو کہ تینون قطعات دائرہ کے زاوئے جو مثلث باہر واقع ہین ملکر چار قائمون کے برابر ہونگے۔

(۲۱۱) دائرہ مین ذو اربعۃ الاضلاع بنی ہوئی ہے تو ثابت کرو کہ اون چارون قطعات کے زاوئے جو اوس سے باہر واقع ہین ملکر چھہ قائمونکے برابر ہونگے۔

(۲۱۲) دائرہ کو ایسے دو قطعون مین تقسیم کرو کہ زاویہ فی القطعہ ایک قطعہ کا دوسرے قطعہ کے زاویہ فی القطعہ سے دوچند ہو۔

(۲۱۳) دائرہ کو ایسے دو قطعون مین تقسیم کرو کہ زاویہ ایک قطعہ کا دوسرے قطعہ کے زاویہ سے دوچند ہو۔

(۲۱۴) اگر ذو اربعۃ الاضلاع کا زاویہ خارجہ برابر مقابل کے زاویہ داخلہ کے ہو تو ثابت کرو کہ ذو اربعۃ الاضلاع کا ہر ایک ضلع محاذی برابر زاویون کے

ذوار بعۃ الاضلاع کے مقابل زاویون پر ہوگا -

(۲۱۵) اگر دائرہ مین مسدس بنے اور اوسکے کوئی سے دو ضلعے متصل کے اپنے مقابل کے اضلاع کے متوازی ہون تو باقی ضلعے بہی اپنے اپنے سامنے کے اضلاع کے متوازی ہونگے +

(۲۱۶) دائرہ کے محیط پر بالترتیب چار نقاط ا اور ب اور س اور د متعین کئے گئے ہین اور خطوط مستقیم اب اور س د خارج ہوکر نقطہ ع پر اور ا د اور ب س نقطہ ق پر تقاطع کرتے ہین تو ثابت کرو کہ زاویون ا ع س اور ا ق س کی جو خطوط مستقیم تنصیف کرتے ہین وہ عمود ایک دوسرے پر ہین +

(۲۱۷) اگر ذوار بعۃ الاضلاع دائرہ کے اندر بنے اور خط مستقیم برابر زاویے زوج اضلاع مقابل کے ساتھہ بنایا ہو کہیچا جائے تو وہ دوسری زوج اضلاع مقابل کے ساتھہ ہی مساوی زاویے بنائیگا +

(۲۱۸) اگر ذوار بعۃ الاضلاع کے اندر اور باہر دائرے بنائین تو ثابت کرو کہ خطوط مستقیم جو مقابل کے نقاط تماس دائرہ اندرونی مین ملائین تو وہ عمود ایک دوسرے پر ہونگے +

۲۳ سے ۳۰ تک مقالۂ سوم

(۲۱۹) دائرہ کے اندر دو مساوی قوسونکے ایک سمت کی اطراف مین جو خطوط مستقیم ملینگے وہ متوازی ہونگے

(۲۲۰) دو متوازی وتروں کے اطراف مین جو خطوط وصل کئے جائین وہ آپسمین مساوی ہونگے -

(۲۲۱) دو دائرون کا وتر مشترک اب ہی اور ایک دائرہ کے محیط مین کسی نقطہ س سے خطوط مستقیم س ا د اور س ب ج کہیچے گئے ہین اور دوسرے دائرہ کے محیط پر ختم ہوتے ہین تو ثابت کرو کہ قوس د ج مین کبہی کچہہ تغیر نہوگا -

(۲۲۲) دائرہ کے محیط مین کسی نقطہ س سے خطوط مستقیم س ا ب اور د س ج دائرہ کو نقاط ب اور ج پر قطع کرتے ہوئے کہیچے گئے ہین تو ثابت کرو کہ جو خط مستقیم زاویون ا س ج اور د س ب کی تنصیف کرتا ہے وہ ایسے نقطہ پر محیط سے ملتا ہے کہ اوسکا بعد ب اور ج سے مساوی ہوتا ہی +

(۲۲۳) ذوار بعۃ الاضلاع جو دائرے کے اندر بنی ہوئی ہے اوسکے زاویہ داخلہ اور مقابل کے

زاویہ خارجہ کے خطوط مستقیم تنصیف کرنیوالے محیط سے ایک ہی نقطہ پر ملتے ہین۔

(۲۲۴) دائرہ کا قطر اب ہی اور د نقطہ معلوم دائرہ کے محیط پر ایسا واقع ہی کہ قوس دب چھوٹی نصف قوس دہ سے ہی تو وتر دی قطر اب کے ایک ہی سمت مین ایسا کھینچو کہ ایک قوس ی ا قوس ب د سے سہ چند ہو۔

(۲۲۵) مثلث ا ب س کے زاویون ا اور ب سے خطوط مستقیم مقابل کے اضلاع کے ساتھ مساوی زاویے معلوم نقاط ع اور ق پر بناتے ہوئے کھینچے گئے ہین تو ع اور ق مین جو خط مستقیم ملایا جائے اسکا طول ہمیشہ یکسان سب اون مثلثون مین رہیگا جو ایک ہی قاعدہ ا ب پر واقع ہین اور جنکا زاویہ راس برابر زاویہ س کے ہے۔

(۲۲۶) اگر دو مساوی دائرے باہم تقاطع کرین اور ایک نقطہ تقاطع سے خط مستقیم دونون کے محیطون پر ختم ہوتا ہوا کھینچا جائے تو خطوط مستقیم جو اس خط کے اطراف اور دوسرے نقطہ تقاطع مین وصل ہونگے آپسمین مساوی ہونگے۔

(۲۲۷) دائرہ کے تین وتر ا د اور ب د اور ب س ہین اور زاویہ ا د ب مساوی زاویہ ب د س کے ہے اور د ا بہ نسبت د ب کے نزدیک تر مرکز سے ہی نقطہ ب سے عمود د ا پر اوس سے نقطہ ع پر ملتا ہوا اور ایک عمود د س خارج شدہ پر نقطہ ق پر ملتا ہوا نکالا گیا ہی تو ثابت کرو کہ ا ع برابر ہے س ق کے۔

(۲۲۸) ا ب خط مستقیم محدود معلوم ہی اور نقطہ ا سے دو خط مستقیم غیر محدود یکسان میلان ا ب سے رکھتے ہوئے کھینچے گئے ہین تو کوئی دائرہ جو نقاط ا اور ب پر گذرتا ہوا اونکو ل اور م پر قطع کرے تو اس صورت مین کہ ا ب مابین ا ل اور ا م کے واقع ہو مجموعہ ا ل اور ا م ہمیشہ ایک مقدار معین مستقل ہوگی اور اگر وہ مابین نہین ہے تو فرق ا ل اور ا م ہمیشہ ایک مقدار معین مستقل ہوگی +

(۲۲۹) دائرہ کے قطر ا ب اور س ر متقاطع علی القوائم ہین اور قوس ا س مین نقطہ ی ہے اور ی ف ح وتر ہی جو س ر سے نقطہ ق پر ملتا ہوا اوس جہت مین کھینچا گیا ہے کہ ی ف برابر ہی نصف قطر کے تو ثابت کرو کہ ب ح سہ چند ا ی سے ہوگا۔

(۲۳۰) جو مثلث ایک ہی قاعدہ پر ایک ہی جہت مین واقع ہون اور اون کے زاویے راس آپسمین برابر ہون تو اونکے راس کے زاویون کے خطوط مستقیم تنصیف کرنیوالے سب ایک نقطہ پر تقاطع کرینگے +

(۲۳۱) اگر دو دائرے اندر کی طرف متماسہ ہون تو جو وتر دائرہ بیرونی دائرہ اندرونی کو مس کریگا وہ نقطہ تماس پر ایسے دو حصون مین تقسیم ہوگا کہ اسکے سامنے نقطہ تماس دو دائرہ پر زاوئے برابر ہونگے۔

۳۱ شکل مقالہ سوم

(۲۳۲) ایک وتر پر مثلثات قائم الزاویہ بنائے گئے ہین تو ثابت کرو کہ اون سب کے راس دائرہ کے محیط پر واقع ہین جو وتر کو قطر بناکر کھینچا جائے۔

(۲۳۳) مثلث متساوی الساقین کے کسی ساق کو قطر بناکر دائرہ کھینچو تو وہ دائرہ قاعدہ کو نقطہ وسط پر قطع کریگا۔

(۲۳۴) ثابت کرو کہ بڑی سے بڑی جو سطح قائم الزاویہ دائرہ مین کھینچ سکتی ہے وہ مربع ہے۔

(۲۳۵) مثلث قائم الزاویہ اب س کا وتر اب نقطہ د پر تنصیف کیا گیا ہے اور اب پر زاویہ قائمہ بناتا ہوا ی ف کھینچا گیا ہے اور د ی اور د ف مین سے ہر ایک برابر د ا کے قطع ہوا ہے اور س ی اور س ف ملائے گئے ہین تو ثابت کرو کہ یہہ خطوط س ی اور س ف زاویہ س اور اوسکے متمم کی تنصیف کرینگے۔

(۲۳۶) مثلث اب س کے ضلعے اب کو قطر بناکر ایک دائرہ کھینچا ہے اور قطر ی ف متوازی ب س کا نکالا ہے تو ثابت کرو کہ ب پر زاویہ داخلہ اور خارجہ کی خطوط مستقیم ی ب اور ف ب تنصیف کرتے ہین۔

(۲۳۷) اگر مثلث اب س کے اضلاع ب س اور اب پر عمود ا د اور س ی نکالے جائین اور د ی ملایا جائے تو ثابت کرو کہ زاوئے ا د ی اور ا س ی آپسمین متساوی ہونگے۔

(۲۳۸) اگر دو دائرے اب س اور اب د نقاط ا اور ب پر قطع کرین اور ا س اور ا د دو قطر ہون تو ثابت کرو کہ خط مستقیم س د نقطہ ب پر گذریگا۔

(۲۳۹) اگر ر دائرہ کا مرکز اور ر ا نصف قطر ہو اور اس ر ا کو قطر بناکر ایک دائرہ بنائین تو جو وتر دائرہ بیرونی کا نقطہ ا سے اس دائرہ اندرونی کے اندر گذرتا ہوا کھینچا جائیگا وہ محیط دائرہ اندرونی سے تنصیف ہوگا۔

(۲۴۰) ایک دائرہ ایسا کھینچو کہ وہ خط مستقیم کو ایک نقطہ معلوم پر مس کرے اسطرح سے کہ اگر اوس خط مستقیم مین دو نقاط معلوم سے دو مماس نکالین تو وہ متوازی ہون +

(۲۴۱) نصف قطر معلوم پر دائرہ ایسا بناؤ کہ خط مستقیم معلوم کو مس کرے اسطرح سے کہ مماس جو اور دو نقاط معلوم سے کہ اوس خط مستقیم معلوم مین ہین کھینچین تو وہ متوازی ہون۔

(۲۴۲) اگر مثلث کے قاعدہ کی زاویون سے عمود مقابل کے ضلعون پر نکالے جائین اور اگر ضرورت ہو تو وہ خارج بھی کرلیئے جائین اور نقاط تقاطع مین خط ملایا جائے تو یہ خط مستقیم اوس عمود سے تنصیف ہوگا کہ مرکز قاعدہ سے اوسپر نکالا جائے۔

(۲۴۳) دائرہ کا قطر اد ہی اور اد کی ایک ہی جہت مین محیط پر نقاط ب اور س معین ہین ب س س کی طرف سے س خارج ہوا ہے اور اوسپر نقطہ د سے عمود نکالا گیا ہے اور اوس سے نقطہ ی پر ملتا ہی تو اد کا مربع اب اور ب س اور س د کے مربعون کے مجموعہ سے بقدر دو چند سطح ب س اور س ی کے بڑا ہوگا۔

(۲۴۴) نصف دائرہ کا قطر اب ہی اور اوسکے محیط مین نقطہ ع ہی اور ع م عمود اب پر نکالا ہے اور ام اور ب م کو قطر بنا کر دو نصف دائرے بنائے ہین اور اع اور ب ع ان دائرون کے محیطون سے نقاط ق اور ر پر ملتے ہین تو ثابت کرو کہ اون دو نصف دائرون کا مماس مشترک ق ر ہوگا +

(۲۴۵) اب اور اس دو خطوط مستقیم معلوم ہین اور ب اور س اونمین نقاط معلوم اور ب د عمود اس پر نکالا ہے اور د ی عمود اب پر اور اسی طرح سے س ف عمود اب پر اور ف ح عمود اس پر تو ثابت کرو ب س کا متوازی ی ح ہے۔

(۲۴۶) دو دائرے نقاط ا اور ب پر تقاطع کرتے ہین اور ان نقاط سے دو وتر ایک دائرہ کے محیط مین نقطہ س پر ملتے ہوئے کھینچے گئے ہین اور یہ وتر خارج ہو کر دوسرے دائرہ کے محیط کو نقاط د اور ی پر تقطع کرتے ہین تو خط مستقیم د ی دائرہ اب س کے اوس قطر کو کہ نقطہ س سے کھینچا جائے زاویہ قائمہ پر قطع کریگا۔

(۲۴۷) اگر مثلث قائم الزاویہ کے اضلاع پر اور وتر پر مربعے بنائین اور وتر پر جو مربعے بنے اوسکے قطرون سے نقطہ تقاطع اور زاویہ قائمہ مثلث مین خط مستقیم ملائین تو وہ عمود اوس خط مستقیم پر ہوگا جو اور اضلاع کے مربعون کے قطرون کے نقاط تقاطع مین ملائین۔

(۲۴۸) دائرہ کا مرکز س ہی اور ایک خط مستقیم س و نصف قطر سے کم ہی محیط مین وہ نقطہ دریافت کرو جہان س و محاذی ایک بڑے سے بڑے زاویہ کے ہو۔

(۲۴۹) نصف دائرہ کا قطر اب ہی اور اوسکے محیط مین دو نقطے د اور ی ہین اور اونار جو د اور ب کو نقاط د اور ی کے ساتھ ملاتے ہین وہ ہر سمت مین نقاط ف اور ح پر قطع ہوتے ہین تو ثابت کرو کہ خط مستقیم ف ح ملا کر کہیچا گیا عمود اب پر ہوگا

(۲۵۰) دو برابر دائرے باہر کیطرف آپسمین مس کرتے ہین اور نقطہ تماس سے ہر دائرہ مین ایک ایک وتر اسطرح نکالا ہی کہ وہ ایک دوسرے پر زاویہ قائمہ بناتا ہی تو ثابت کرو کہ اونکے دوسرے اطراف مین جو خط مستقیم ملایا جاویگا مساوی اور متوازی اوس خط مستقیم کا ہوگا جو اونکے مرکزون مین ملایا جائے +

(۲۵۱) اگر معین کے قطر خرد کو قطر دائرہ بنا کر دائرہ کہیچین جو اضلاع کو قطع کرے اور نقاط تقاطع اور اطراف قطر معین مین محرف خط ملائے جائین تو ثابت کرو سطح متوازی الاضلاع جو پیدا ہوگی وہ معین ہوگی اور اوسکے زاوئے برابر معین کے زاویون کے ہونگے۔

(۲۵۲) اگر دائرہ کے دو وتر اوسکے اندر یا اوس سے باہر متقاطع علی القوائم ہون تو حصص اوتار کے مربعونکا مجموعہ برابر قطر کے مربع کے ہوگا +

۳۲ سے ۳۴ تک م

(۲۵۳) دائرہ کا مرکز س ہی اور اوسکے محیط مین نقطہ ب ہی اور ع د مماس نقطہ ع پر ہے اور وہ س ب خارج شدہ سے نقطہ د پر ملتا ہی اور ع د عمود س ب پر نکالا گیا ہے تو ثابت کرو کہ خط مستقیم ع ب زاویہ د ع د کی تنصیف کرتا ہی +

(۲۵۴) اگر دو دائرے ایک دوسرے کو مس کرین تو جو خط مستقیم نقطہ تماس سے کہیچا جائیگا وہ قطعات دائرہ متشابہ قطع کریگا +

(۲۵۵) ایک دائرہ کا اب وتر اور د د مماس نقطہ د پر ہی اور متوازی وتر اب کا متوازی خط مستقیم د ع ق محیط دائرہ کو ع اور ق پر قطع کرتا ہے تو ثابت کرو کہ مثلث ع د د اور مثلث ق د ب متساوی الزوایا ہونگے +

(۲۵۶) دو دائرے د ب د ھ اور د ب ح ایک دوسریکو نقاط د اور ب پر قطع کرتے ہین اور نقطہ ب سے خط مستقیم ب د ا ایک دائرہ کو مس کرتا ہوا دوسرے دائرہ مین کہیچا گیا ہی اور نقطہ د سے ایک تر دائرونکو نقاط ح اور ھ پر قطع کرتا ہوا کہیچا گیا ہی تو ثابت کرو کہ د ھ کا متوازی ب ح ہے

(۲۵۷) دو دائرے نقاط د اور ب پر متقاطع ہین اور نقطہ د سے د س اور د د مماس ہر ایک دائرہ کے

دوسرے دائرہ کے محیط پر ختم ہوتی ہوئی نکالی گئی ہین اور س ب اور ب د ملائے گئے ہین تو ثابت کرو کہ ا ب بغیر خارج ہونیکے یا خارج ہوکر زاویہ س ب د کی تنصیف کریگا۔

(۲۵۸) دو دائرے نقاط ا اور ب پر متقاطع ہین اور کسی دائرہ کے محیط مین ایک نقطہ ع سے اوسی وتر ع ا اور ع ب دوسرے دائرہ کو نقاط س اور د پر قطع کرتے ہوئے کھینچے گئے ہین تو ثابت کرو کہ اوس مماس کا متوازی س د ہے جو نقطہ ع سے نکالا جائے +

(۲۵۹) اگر دائرہ کے محیط مین کسی نقطہ سے وتر اور مماس دائرہ کے نکالے جائین تو قوس محاذی الوتر کے نقطہ وسط سے عمود وتر اور مماس پر نکالے گئے آپسمین برابر ہونگے۔

(۲۶۰) دائرہ کا وتر ا ب ہی اور اوسکے محیط مین نقطہ ع ہی اور ا ب پر ع م عمود ہے اور وہ خارج ہوکر محیط دائرہ سے نقطہ ق پر ملتا ہی اور ع سے ایک دائرہ کا مماس نکالا گیا ہے اور اوسپر عمود ا ن ڈالا گیا ہی تو ثابت کرو کہ مثلث ن م ع اور ع ق م متساوی الزوایا ہونگے۔

(۲۶۱) ایک دائرہ کے دو قطر ا ب اور س د متقاطع علی القوائم ہین اور ع ایک نقطہ محیط مین ہے اور مماس جو نقطہ ع سے نکالا جائے وہ س د خارج شدہ سے نقطہ ق پر ملتا ہی اور ا ع اور ب ع بہی س د سے نقاط ر اور ص پر ملتے ہین تو ثابت کرو کہ ر ق اور ص ق آپسمین برابر ہین +

(۲۶۲) مثلث بناؤ جسکا قاعدہ اور زاویہ راس اور وہ نقطہ قاعدہ پر جہان راس سے عمود نکالا گیا ملتا ہے معلوم ہین۔

(۲۶۳) قاعدہ اور زاویہ راس اور ارتفاع معلوم ہین مثلث بناؤ۔

(۲۶۴) قاعدہ اور زاویہ راس اور طول اوس خط مستقیم کا جو زاویہ راس سے نقطہ وسط قاعدہ مین ملایا جائے معلوم ہین مثلث بناؤ۔

(۲۶۵) مثلث قاعدہ اور زاویہ راس معلوم ہے تو ثابت کرو کہ مثلث بڑے سے بڑا جب ہوگا کہ متساوی الساقین ہو۔

(۲۶۶) دائرہ کا مرکز ہی اور اوسکے باہر ا نقطہ ہی اوس سے خط مستقیم دائرہ کو نقاط ب اور س پر قطع کرتا ہوا ایسا کھینچو کہ رقبہ ب و س حتی الامکان بڑا ہو۔

(۲۶۷) دو خطوط مستقیم جنکے درمیان زاویہ معینہ مستقل ہے ہمیشہ دو نقاط متعین پر گذرتے ہین اور اون خطوط کے مقام کی کچھہ قید نہین ہی سوا اسکے کہ وہ دو نقاط متعینہ پر گذرین تو

ثابت کرو کہ خط مستقیم جو اوس زاویہ کی تنصیف کرتا ہے ہمیشہ دو نقاط متعین مین سے کسی ایک پر ہمیشہ گذرے گا +

(۲۶۸) مثلث بناؤ جسکا زاویہ اور اوسکے مقابل کا ضلع اور باقی دو ضلعونکا مجموعہ معلوم ہین -

۳۵ سے ۳۷ مقالہ سوم

(۲۶۹) اگر دو دائرے متقاطع ہون اور وتر مشترک خارج شدہ مین کوئی نقطہ لیکر مماس اون دائرونکے کھینچین تو وہ آپسمین مساوی ہونگے -

(۲۷۰) دو دائرے ایک دوسرکو نقاط ا اور ب پر قطع کرتے ہین تو ثابت کرو اب خارج ہوکر دائرون کے مماس مشترک کو تنصیف کریگا -

(۲۷۱) اگر مثلث اب س کے اضلاع ب س اور اب پر ا د اور س ی عمود نکالین تو ثابت کرو کہ سطح د ب س اور ب د کی برابر ہے سطح ب ا اور ب ی کے -

(۲۷۲) اگر دو دائرے متقاطع ہون اور اونکے وتر مشترک مین کوئی نقطہ لیکر ایک ایک وتر ہر ایک دائرہ مین کھینچین تو اون وترون کے چارون طرفین ایک دائرہ کے محیط مین ہونگے -

(۲۷۳) نقطہ معلوم کو مرکز بناکر دائرہ ایسا بناؤ کہ خط مستقیم معلوم کو دو نقطون پر یون قطع کرے کہ سطح اون فاصلونکی کہ درمیان اون دو نقطون اور خط مستقیم کے ایک نقطہ معین کے درمیان واقع ہون برابر ہو ایک مربع معلوم کے -

(۲۷۴) دو دائرے اب س د اور ی ب س ف جنکی مماس مشترک د ی اور د ف ہین وہ نقاط ب اور س پر ایک دوسرے کو قطع کرتے ہین اور وتر ب س خارج ہوکر مماسون کو نقاط ج اور ھ پر قطع کرتا ہے تو ثابت کرو کہ ج ھ کا مربع د ی یا د ف کے مربع سے بقدر مربع ب س کے زیادہ ہے -

(۲۷۵) ایک سلسلہ دوائر متقاطع کا ایسا ہی کہ ایک نقطہ معین سے اونکے مماس نکالے گئے آپسمین متساوی ہین تو ثابت کرو کہ اون مین سے ہر زوج دائرہ کے نقاط تقاطع مین خط ملایا گیا ضرور اس نقطہ پر گذریگا -

(۲۷۶) اب س ایک مثلث قائم الزاویہ ہی اور وتر ب س مین کسی نقطہ د سے عمود ب س پر نکالا گیا ہے اور وہ اس ہی نقطہ ی پر ملتا ہی اور ب ا خارج شدہ سے نقطہ ف پر تو ثابت کرو کہ د ی کا مربع برابر ہے سطح ب د اور د س اور سطح د ی اور س ی کے فرق کے اور مربع د ف کا

برابر ہے سطح ب د اور د س اور سطح ا ف اور ف ب کے مجموعہ کے۔

(۲۷۷) دائرہ کے قطر کے ایک طرف سے مماس نکالا گیا ہی تو اس مماس مین ایک نقطہ ایسا دریافت کرو کہ اگر اوسمین اور دوسری طرف مین قطر کے خط مستقیم ملایا جائے تو اس خط مستقیم کے حصے جو دائرہ کے اندر اور باہر واقع ہون اونکی سطح برابر ایک مربع معلوم کے ہو جو قطر دائرہ کے مربع سے بڑا نہین ہی۔

اسے ۴ تک مقالہ چہارم

(۲۷۸) (۴ ش ۴ م) مین ثابت کرو کہ خطوط مستقیم نقاط ا اور ب سے جو مس کرتے ہوئے دائرہ کے نکالے گئے ہین آپسمین ملتے ہین۔

(۲۷۹) (۴ ش ۴ م) مین ثابت کرو کہ زاویون ا اور ب کی جو خطوط مستقیم تنصیف کرتے ہین آپس مین ملتے ہین۔

(۲۸۰) ۴ ش ۴ م مین ثابت کرو کہ زاویہ ا کی د ا تنصیف کرتا ہی۔

(۲۸۱) مثلث ا ب س مین دائرہ کھینچا گیا اوسکی اضلاع ا ب اور ا س کو نقاط د اور ی پر مس کرتا ہے اور ایک خط مستقیم نقطہ ا سے مرکز دائرہ مین محیط دائرہ سے نقطہ ح پر ملتا ہوا کھینچا گیا ہے تو ثابت کرو کہ ح اوس دائرہ کا مرکز ہی جو مثلث ا د ی مین بنایا جائے۔

(۲۸۲) جو دائرے مثلث کے ایک ضلع اور دو اضلاع ممدودہ کو مس کرتے ہین اونکے مرکزون مین جو خطوط مستقیم ملائین وہ مثلث کے زاویون کی راسون مین گذرینگے۔

(۲۸۳) مثلث ا ب س کے ضلع ب س اور باقی اضلاع ممدودہ کو ایک دائرہ مس کرتا ہی اور مثلث کے اندر دائرہ بنایا گیا ہی ب س کو جن نقاط پر یہ دونو دائرے مس کرینگے اونکے درمیان کا بعد برابر اضلاع ا ب اور ا س کے تفاوت کے ہی۔

(۲۸۴) مثلث ا ب س کے اندر دائرہ بنایا ہی اور اس مثلث مین سے دائرہ کے مماس نکال کر ہر زاویہ پر مثلث قطع کئے ہین تو ثابت کرو کہ سطح سے جو تین مثلث قطع ہونگے اونکے اضلاع کا مجموعہ ملکر مثلث ا ب س کے اضلاع کے مجموعہ کے برابر ہوگا۔

(۲۸۵) مثلث ب ا س جو دائرہ کے اندر بنایا جائے اوسکا مرکز د ہی اور ا د ملایا گیا ہے اور خارج ہو کر اوس خط مستقیم سے جو نقطہ ب سے ب د پر زاویہ قائمہ بناتا ہوا کھینچا ہے نقطہ ی پر ملتا ہے تو اوس دائرہ کا مرکز ی ہوگا جو ضلع ب س اور اضلاع ا ب اور ا س ممدودہ کو مس کرتا ہی۔

(۲۸۶) تین دائرے کھینچو ہین جنمین سے ہر ایک مثلث اب س کے ایک ضلع کو اور دو اضلاع محدودہ کو مس کرتا ہی اگر د ضلع ب س کا اور ی ضلع اس کا اور ف ضلع اب کا نقطہ تماس اپنے دائرہ کے ساتھ ہو تو ثابت کرو کہ اری برابر ہے ب د کے اور ب ف برابر ہی س ی کے اور س د برابر ہی ا ف کے۔

(۲۸۷) دائرہ کھینچو جو دائرہ معلوم کو مس کرے اور دو خطوط مستقیم معلوم کو جو خود ایک دائرہ معلوم کو مس کر رہے ہین مس کرے۔

(۲۸۸) اگر تینون نقطون مین جہان دائرہ مثلث کے اندر اضلاع کو مس کرتا ہی خطوط مستقیم ملائین تو جو مثلث پیدا ہوگا اوسکو حادۃ الزوایا ثابت کرو۔

(۲۸۹) ذوار بعۃ الاضلاع کے مقابل کے دو دو ضلعونکے مجموعے آپسمین برابر ہون اور ہر ایک زاویہ دو قائمون سے کم ہو تو ثابت کرو کہ اوسپر دائرہ کھینچ سکتا ہی۔

(۲۹۰) دو دائرے ھ ع ل اور ک ع م ایک دوسریکو باہر کی طرف مس کرتے ہین اور اونکے مماس مشترکہ ھ ک اور ل م ہین اور ھ ل اور ک م آپسمین ملائے گئے ہین تو ثابت کرو کہ ذوار بعۃ الاضلاع ھ ک م ل پر دائرہ کھینچ سکتا ہے۔

(۲۹۱) مثلث کے دو دائر خارجی کے مرکزون اور اونکے مقابل کے زاویون مین خطوط مستقیم ملائین تو ثابت کرو کہ یہ خطوط مستقیم مرکز دائرہ پر جو مثلث کے اندر بنایا جائے متقاطع ہونگے۔

(۲۹۲) ایسا مثلث ہی کہ جسکے اضلاع کا مجموعہ ہمیشہ ایک ہی رہتا ہی اوسکے دو ضلعونکا مقام معلوم ہی تو ثابت کرو کہ تیسرا ضلع ہمیشہ اوسکا ایک خاص دائرہ کا مماس ہوگا۔

(۲۹۳) مثلث بناؤ جسکا قاعدہ اور زاویہ راس اور نصف قطر دائرہ کا جو مثلث کے اندر بنائین معلوم ہین +

۵ سے ۹ تک م ۴

(۲۹۴) ۵ ش ۴ م مین ثابت کرو کہ ب س پر نقطہ ف سے جو عمود نکالا جائیگا وہ ب س کی تنصیف کریگا

(۲۹۵) اگر مثلث اب س کے قاعدہ ب س کا متوازی دی نکالا جائے تو جو دائرے کہ مثلث اب س اور اری پر بنائے جائینگے وہ ایک مماس مشترک رکھینگے۔

(۲۹۶) اگر مثلث کے اندر اور باہر دائرے بنائے گئے متحد المرکز ہون تو مثلث متساوی الاضلاع ہوگا +

(۲۹۷) مثلث کے اوپر اور اندر جو دائرے بنائے جائین اگر اونکے مرکزونمین خط مستقیم وصل کیا گیا ایک زاوئے پر مثلث کے گذرے تو ثابت کرو کہ مثلث متساوی الساقین ہے۔

(۲۹۸) دو دائرونکا وتر مشترک کسی نقطہ ع تک خارج کیا گیا ہے اور ع ا ایک دائرہ کو نقطہ ا پر مس کرتا ہوا کھینچا گیا ہے اور ع ب س ایک وتر دوسرے دائرہ کا نکالا گیا ہے تو ثابت کرو کہ دائرہ جو ا اور ب اور س پر گذریگا وہ اس دائرہ کو مس کریگا جسکا ع ا مماس ہے۔

(۲۹۹) دائرہ کے اندر ذوار بعۃ الاضلاع ا ب س د بنی ہے اور ا د اور ب س خارج ہو کر نقطہ ی پر ملتے ہین تو ثابت کرو کہ مثلث ی س د جو دائرہ پر بنایا جائے گا اوسکا مماس نقطہ ی پر ا ب کا متوازی ہوگا۔

(۳۰۰) دائرہ کھینچو جو خط مستقیم معلوم کو مس کرے اور دونو نقطون معلوم پر اسکا محیط گذرے۔

(۳۰۱) دائرہ کھینچو جو دو نقاط معلوم پر گذرے اور ایک خط مستقیم معلوم مین سے ایک وتر برابر ایک خط مستقیم معلوم کے قطع کرے +

(۳۰۲) دائرہ کھینچو جسکا مرکز ایک خط مستقیم معلوم مین ہو اور دو اور خطوط مستقیم معلوم مین سے اوتار جنکا طول معلوم ہو قطع کرے۔

(۳۰۳) دو مثلثونکے قاعدہ اور زاوئے اس آپسمین برابر ہین تو ثابت کرو کہ اونکے اوپر جو دائرے بنائے جائینگے اونکے نصف قطر آپسمین مساوی ہونگے +

(۳۰۴) دائرہ کھینچو جو دو نقاط معلوم پر گذرے اسطرح سے کہ ایک اور نقطہ معلوم سے جو اوسکا مماس نکالا جاے وہ ایک طول معلوم کے برابر ہو۔

(۳۰۵) ایک دائرہ کا مرکز س ہے اور س ا اور س ب دو نصف قطر متقاطع علی القوائم ہین اور نقطہ ب سے کوئی وتر ب ع قطع کرتا ہوا س ا کو نقطہ ن پر کھینچا گیا ہے اور دائرہ مثلث ا ن ع کے گرد کھینچا گیا ہے تو ثابت کرو کہ وہ ب ا کو مس کریگا۔

(۳۰۶) ا ب اور س د دو خطوط مستقیم متوازی ہین اور خطوط مستقیم جو اونکے اطراف مین وصل کئے جائین نقطہ ی پر قطع ہوتے ہین تو دائرے جو مثلث ا ب ی اور س د ی کے اوپر بنائے جائین وہ آپسمین مس کرینگے۔

(۳۰۷) مثلث کے اضلاع مین سے تین مساوی وتر ایک دائرہ قطع کرتا ہے اوسکا مرکز دریافت کرو۔

(۳۰۸) مثلث ا ب س مین دائرہ بنایا ہے جسکا مرکز ی ہے اور ی ا خارج کیا گیا ہے یہان تک کہ وہ

کہ وہ اوس دائرہ کے محیط سے کہ مثلث کے اوپر بنایا جائے نقطہ ف پر ملتا ہے تو ثابت کرو کہ ف ب اور ف ء اور ف س آپسمین متساوی ہین +

(۳۰۹) دائرہ کے اندر ذو اربعۃ الاضلاع بنی ہوئی ہی اور اسکے اضلاع مقابل خارج ہو کر نقاط ع اور ق پر ملتے ہین اور اسیطرح سے مثلث جو باہر ذو اربعۃ الاضلاع کے پیدا ہوئے ہین اونپر دائرے نقطہ ر پر ملتے ہوئے کھینچے گئی ہین تو ثابت کرو کہ نقاط ع اور ق اور ر ایک خط مستقیم مین ہونگے +

(۳۱۰) مثلث کا زاویہ اوس ب اور قاعدہ اب قائمی زاویون پر اون خط مستقیم سے تنصیف ہوتا ہے کہ نقطہ د پر ایک دوسرے کو تقاطع کرتے ہین تو ثابت کرو کہ زاویے اوس ب اور ا د ب ملکر برابر دو قائمونکے ہونگے +

(۳۱۱) نصف دائرہ اوس ب ہی اور اب اوسکا قطر ہی اور دو وتر ا د اور ب س نقطہ ی متقاطع ہین تو ثابت کرو کہ س د ی پر جو دائرہ کھینچا جائیگا وہ پہلے دائرہ کو زاویے قائمے پر قطع کریگا -

(۳۱۲) ذو اربعۃ الاضلاع اب س د کے اوتار نقطہ ہ پر متقاطع ہین تو ثابت کرو کہ مثلثون ا ہ ب اور ب ہ س اور ہ س د اور د ہ ا پر جو دائرے بنائے جائینگے اونکے مرکز ایک سطح متوازی الاضلاع کے زاویونکے راسونپر واقع ہونگی +

(۳۱۳) مثلث اب س پر دائرہ بنایا ہی اور نقطہ س سے مماس نکالا ہی اور وہ اب خارج شدہ سے نقطہ د پر قطع ہوتا ہی اور دائرہ جسکا مرکز د ہی اور نصف قطر د س ہی اب کو نقطہ ی پر قطع کرتا ہی تو ثابت کرو کہ زاویہ اوس ب کی تنصیف ی س کرتا ہی -

(۳۱۴) اب اور اوس دو خطوط مستقیم معلوم المقام ہین اور ب س ایک خط مستقیم ہے جسکا طول معلوم ہے اور د اور ی نقاط وسط اب اور اوس کے ہین اور د ف اور ی ف عمود اب اور س اوپر نکالے گئے ہین تو ثابت کرو کہ ب س کے سب مقامون مین ا ف کی ایک ہی مقدار ہوگی +

(۳۱۵) مثلث متساوی الساقین اب س پر جسکی ساقین اب اور اوس مساوی ہین دائرہ بنایا ہی اور نقطہ ا سے خط مستقیم قاعدہ سے نقطہ د پر اور دائرہ سے نقطہ ی پر ملتا ہو کھینچا ہی تو ثابت کرو کہ دائرہ جو نقاط ب اور د اور ی پر گذرتا ہی وہ د ب کو مس کرتا ہی -

(۳۱۶) دائرہ معلوم کا وتر اوس ہی اور ب اور د دو نقاط معلوم اسمین ہین خواہ یہہ دونو دائرہ کے اندر ہون خواہ دونو باہر اگر ایک دائرہ ب اور د پر گذرتا ہوا اور دائرہ معلوم کو مس کرتا ہوا

کھینچین تو ثابت کرو کہ اب اور س د محاذی مساوی زاویونکے نقطہ تماس پر ہین۔

(۳۱۷) دائرہ کے اندر نقاط معلوم ا اور ب ہین محیط مین نقطہ ع ایسا دریافت کرو کہ اگر ع د ھ ا اور ع ب ک دائرہ سے نقاط ھ اور ک پر ملتے ہوئے کھینچے جائین تو د ر ھ ک حتی الامکان بڑا ہو۔

(۳۱۸) دائرہ معلوم کا مرکز مساوی الابعاد دو خطوط مستقیم معلوم سے ہی ایک اور دائرہ ایسا کھینچو کہ وہ ان دونو خطونکو مس کرے اور دائرہ معلوم مین سے ایک قطعہ ایسا قطع کرے کہ اوسکا زاویہ برابر زاویہ معلوم کے ہو۔

(۳۱۹) مثلث ا ب س پر دائرہ بنایا ہی اوسکا مرکز ہی اور د اور ی اور ف مواقع عمود ہین جو ا اور ب اور س سے مقابل کے اضلاع پر نکالے جائین تو ثابت کرو کہ ا د اور ب ی اور س ف برابر ہین ی ف اور ف د اور د ی کے موافق اپنی اپنی نظیر کے۔

(۳۲۰) اگر محیط دائرہ کے کسی نقطہ سے خطوط مستقیم دائرہ کے مربع اندرونی کے زاویون کی راہ مین ملائے جائین تو ان چار خطونکے مربعونکا مجموعہ قطر کے مربع سے دوچند ہوگا۔

(۳۲۱) ثابت کرو کہ دائرہ کے گرد کوئی شکل قائم الزاویہ سوا مربع کے نہین کھینچ سکتے۔

(۳۲۲) مستطیل کے گرد دائرہ بناؤ۔

(۳۲۳) دائرون کے دو قطرون کے اطراف سے مماس نکالے جائین تو شکل متوازی الاضلاع جو اسطرح پیدا ہوگی معین ہوگی۔

دائشہم

(۳۲۴) (دائشہم) مین ثابت کرو کہ زاویہ اس د مثلث کے زاویہ راس سے سہ چند ہی۔

(۳۲۵) (دائشہم) مین ثابت کرو کہ دو مثلث موافق شرائط دعوی کے بن سکتی ہین اور یہہ بھی ثابت کرو کہ ایک مثلث یہان ایسا ہی کہ اوسکے مساوی زاویون مین ہر ایک زاویہ سہ چند تیسرے زاویہ سے ہی۔

(۳۲۶) (دائشہم) مین ثابت کرو کہ قاعدہ مثلث کا برابر ایک ضلع مشعر منتظم کے ہی جو دائرہ خرد کے اندر بنایا جائے۔

(۳۲۷) خط مستقیم پر ایسا مثلث متساوی الساقین بناؤ جسکا تیسرا زاویہ سہ چند ہر ایک قاعدہ کے زاویہ سے ہو

(۳۲۸) (دائشہم) مین ثابت کرو کہ دو دائرے نقطہ ی پر قطع ہوتے ہین تو د ی برابر د س کے ہوگا۔

(۳۲۹) (دائشہم) مین جو مثلث بنایا گیا ہی اوسکا راس تو ا ہوا اور ب د قاعدہ ہوا اور د ا ایک نقطہ

تقاطع دائرونکا ہو جو شکل بنانے مین کھینچی گئی ہین اور ی د سے نقطہ تقاطع ہو اور ا ی کھینچا جائے اور ب د خارج شدہ سے نقطہ ح پر ملے تو ثابت کرو کہ مثلث ح ا ب بھی اوسی قسم کا مثلث ہی جس قسم کا اس شکل مین بنایا گیا ہے۔

(۳۳۰) (دائرہ ۴ م) مین دو وتر مساوی دائرہ خرد کے خارج کئے جائین اور بڑے دائرہ کو قطع کرین اور ان نقاط تقاطع مین خطوط وصل کئے جاوین تو مثلث انہین صفات کا بنجائیگا جیسا کہ اس شکل مین بنایا گیا ہے۔

(۳۳۱) (دائرہ ۴ م) مین فرض کرو کہ دو دائرے نقطہ ی پر تقاطع کرتے ہین اور ا ی اور س ی ملائے ہین اور ا ی اور ب د خارج کئے ہین اور نقطہ ح پر ملتے ہین تو س د ح ی ایک متوازی الاضلاع ہوگی۔

(۳۳۲) شکل دہم مقالہ چہارم مین ثابت کرو کہ چھوٹا دائرہ جو کھینچا گیا ہے وہ برابر اوس دائرہ کے ہی جو مثلث مطلوب کے اوپر بنائین۔

(۳۳۳) (دائرہ ۴ م) مین اگر د ف چھوٹے دائرہ کا قطر ہو تو د ف اوس دائرہ کے نصف قطر کی برابر ہوگا جو مثلث ب س د پر بنائین۔

۱۱ سے ۱۶ تک مقالہ چہارم

(۳۳۴) مخمس منتظم کے زاویون مین جو متصل ہون اگر خطوط مستقیم وصل کئے جائین تو وہ متقاطع ایک اور مخمس منتظم کے زاون پر ہونگے۔

(۳۳۵) مخمس منتظم ا ب س د ی ہی ملاؤ ا س اور ب ی اور فرض کرو کہ نقطہ ف پر ا س سے ب ی ملتا ہے تو ثابت کرو کہ ا س برابر ہے مجموعہ ا ب اور ب ف کے

(۳۳۶) ثابت کرو کہ مخمس منتظم مین ہر مثلث جو متصل کے دو ضلعون کے اطراف مین خط مستقیم ملانے سے پیدا ہوتا ہی مساوی ہے تہائی مخمس سے کم اور چوتہائی مخمس سے زیادہ ہوتا ہی۔

(۳۳۷) کسی طرح سے مثلث متساوی الاضلاع سے جو دائرہ کے اندر ہے مسدس پیدا کر سکتے ہین اور شکل کے بناوٹ سے مین ثابت کرو کہ ضلع مسدس برابر نصف قطر دائرہ کے ہوتا ہی اور مسدس دوچند اوس مثلث سے۔

(۳۳۸) دائرہ مین مثلث ایسا بناؤ کہ اوسکے زاویون مین نسبت ۲ و ۵ و ۸ کی ہو۔

(۳۳۹) اگر ا ب ج د ی ف مسدس منتظم ہو اور ا س اور ب د اور س ی اور د ف اور ی ا

اور ف ب ملائے جائین تو ایک اور مسدس پیدا ہوگا جو مساحتاً تہائی مسدس سابق سے ہوگا
(۳۴۰) جو شکل متساوی الاضلاع دائرہ کے اندر بنائی جائیگی مساوی الزوایا ہوگی۔

اوسش مقالہ ششم

(۳۴۱) ثابت کرو کہ شکل دہم مقالہ چہارم مین ایک مثلث وسطی النسبت باقی دو مثلثون مین ہے۔

(۳۴۲) مثلث ا ب س کی قاعدہ مین کسی نقطہ د سے خطوط مستقیم د ی اور د ف متوازی الاضلاع ا ب اور ا س کے نکالے گئے ہین اور اضلاع سے نقاط ی اور ف پر ملتے ہین تو ثابت کرو کہ مثلث ا ی ف وسطی النسبت مثلثون ف ب د اور د ی س مین ہے۔

(۳۴۳) مثلث متساوی الاضلاع کے اضلاع پر کسی نقطہ سے کہ مثلث کے اندر ہے عمود نکالے گئے ہین تو ثابت کرو انکا مجموعہ ہمیشہ یکسان رہیگا کبھی نہین بدلیگا۔

(۳۴۴) مثلث کی اندر نقطہ ایسا دریافت کرو کہ اگر اوسمین اور مثلث کے زاویون کی راسون مین خطوط مستقیم ملائین تو تینون مثلث جو پیدا ہونگے آپسمین مساوی ہونگے۔

(۳۴۵) مثلثون ا ب س اور ا د ب کے قاعدے مشترک مین کسی نقطہ ی سے ا س اور ا د کے متوازی خطوط مستقیم نکالے ہین اور وہ ب س اور ب د سے نقاط ف اور ح پر ملتے ہین تو ثابت کرو کہ س د کا متوازی ف ح ہے۔

(۳۴۶) مثلث کی قاعدہ کے کسی نقطہ سے خطوط مستقیم متوازی اضلاع کے نکالے جائین تو ثابت کرو کہ جو متوازی الاضلاع اسطرح سے پیدا ہونگی اونکے قطرونکے نقاط تقاطع ایک ہی خاص خط مستقیم مین ہونگے۔

(۳۴۷) مثلث ا ب س مین خط مستقیم ا د عمود خط مستقیم ب د جو زاویہ ب کی تنصیف کرتا ہے نکالا گیا ہے تو ثابت کرو کہ خط مستقیم نقطہ د سے متوازی ا ب س کا نکالا گیا اوس کی تنصیف کریگا۔

(۳۴۸) مثلث ا ب س ہے اور ب س کا متوازی کوئی خط مستقیم ا ب سے نقطہ د پر اور ا س سے نقطہ ی پر ملتا ہے اور ب ی اور س د ملائے ہین اور وہ نقطہ ف پر تقاطع کرتے ہین تو ثابت کرو کہ مثلث ا د ف برابر ہوگا مثلث ا ی ف کے۔

(۳۴۹) مثلث ا ب س ہے اور کوئی خط مستقیم متوازی ب س کا ا ب سے نقطہ د پر اور

اوس سے نقطہ ی پر ملتا ہی اور ب ی اور س د ملائے ہین جو نقطہ ف پر آپسمین ملے ہین اگر ا ف خارج کیا جائے تو ثابت کرو کہ وہ ب س کی تنصیف کریگا۔

(۳۵۰) اگر ذو اربعۃ الاضلاع کے دو ضلعے متوازی ہون تو ہر خط مستقیم متوازی ان اضلاع کا اوس شکل کے باقی اضلاع کو ایک ہی نسبت پر قطع کریگا۔

(۳۵۱) ا ب س مثلث ہی اور ا ب مین یا ا ب خارج شدہ مین نقطہ معلوم ع ہی اوسے خط مستقیم د س یا ا س خارج شدہ تک ایسا کھینچو کہ ب س کی تنصیف کرے۔

۳ سے ۱۱ تک ۶ مقالہ

(۳۵۲) مثلث ا ب س کا ضلع ب س نقطہ د پر تنصیف ہوا ہی اور زاوئے ا د ب اور ا د س خطوط مستقیم د ی اور د ف سے تنصیف ہوئے ہین اور وہ نقاط ی اور ف پر اضلاع ا ب اور ا س سے ملتے ہین تو ثابت کرو کہ ی ف متوازی ب س کا ہی

(۳۵۳) دائرہ کا قطر ا ب ہی اور وتر د س اوسپر عمود ہے اور س د مین کوئی نقطہ ی ہے ا ی اور ب ی دائرہ کو نقاط ف اور ح پر قطع کرتے ہوئے کھینچے ہین تو ثابت کرو کہ ذو اربعۃ الاضلاع س ف د ح کے کوئی سے دو متصل کے ضلعون مین وہی نسبت ہوگی جو باقی اوسکے اضلاع مین ہوگی +

(۳۵۴) ۳ شکل مقالہ ششم کی استعانت سے خط مستقیم محدود کی تثلیث کرو +

(۳۵۵) دائرہ کا قطر ا ب ہی اور اوسکے محیط مین نقطہ ع ہے اوس سے ا ع کے مقابل جہت مین اوس سے یکسان میلان رکھتے ہوئے ع س اور ع د کھینچے گئے ہین تو قطر ا ب سے نقاط د اور س پر ملتے ہین تو ثابت کرو کہ ا س کو ب س سے وہ نسبت ہے جو ا د کو ہے ب د سے۔

(۳۵۶) و ب ایک خط مستقیم ہی اور د اوسمین کوئی نقطہ ہے ا ب خارج شدہ مین ایک نقطہ ع ایسا دریافت کرو کہ ع ا کو ع ب سے وہ نسبت ہو جو د ا کو ہی د ب سے۔

(۳۵۷) ایک ہی نقطہ ا سے خطوط مستقیم زاوئے ب ا س اور س ا د اور د ا ی مین سے ہر ایک برابر نصف قائمہ کے بناتے ہوئے کھینچے ہین اور وہ ایک خط مستقیم ب س د ی سے قطع ہوتے ہین اور وہ ب ا ی مثلث متساوی الساقین بناتا ہے تو ثابت کرو کہ ب س یا د ی وسط فی النسبت ب د اور س د مین ہی۔

(۳۵۸) مثلث ا ب س کا زاویہ ا خط ا د سے تنصیف ہوتا ہی اور ا د قاعدہ سے نقطہ د پر ملتا ہے اور ب س کا نقطہ وسط ہ ہے تو ثابت کرو د ہ کو وہی نسبت د ب سے ہی جو فرق اضلاع کو ہے مجموعہ اضلاع سے۔

(۳۵۹) مثلث ا ب س کے نقطہ ا پر زاویہ داخلہ اور زاویہ خارجہ کو خطوط مستقیم ا د اور ا ی تنصیف کرتے ہین اور قاعدہ سے نقاط د اور ی پر ملتے ہین اور ہ نقطہ وسط ب س کا ہی تو ثابت کرو کہ ہ ب وسط فی النسبت ہ د اور ہ ی کا ہے

(۳۶۰) مثلث ا ب س کے اضلاع مین تین نقطے د اور ی اور ف ہین اور انمین خطوط وصل کرنیسے ایک دوسرا ایسا مثلث پیدا ہوتا ہی کہ اوسکے دو ضلعے پہلے مثلث کے جس ضلع پر ملتے ہین اوسکے ساتھہ برابر زاویے بناتے ہین تو ثابت کرو کہ ا د اور ب ی اور س ف زاویے قائمے ب س اور س ا اور ا ب پر بناتے ہین۔

۴ سے ۶ تک

(۳۶۱) اگر مساوی قاعدون پر دو مثلث درمیان ایک ہی خطوط متوازیہ کے ہون تو کوئی خط مستقیم متوازی انکے قاعدون کا نکالین وہ سطوح متساوی ان مثلثون مین سے قطع کرے گا +

(۳۶۲) ا ب اور س د خطوط متوازیہ ہین اور س ہ کا نقطہ وسطی ہے اور ا س اور ب ی نقطہ ف پر اور ا ی اور ب د نقطہ ح پر ملتے ہین تو ثابت کرو کہ ف ح متوازی ا ب کا ہے۔

(۳۶۳) خط مستقیم مین ا ا و ب اور س تین نقاط متعینہ ہین اور کوئی خط مستقیم س سے کھینچا ہے تو ثابت کرو کہ اس خط پر جو عمود نقاط ا ا و ب سے نکالے جاوینگے اونمین ہمیشہ ایک ہی نسبت مقررہ ہوگی۔

(۳۶۴) اگر خط مستقیم پر دو عمود دو نقاط معینہ سے نکالے گئے نسبت مقررہ ہمیشہ رکھین تو ضرور وہ خط مستقیم ایک تیسرے نقطہ متعینہ پر گذریگا۔

(۳۶۵) ایسا خط مستقیم دریافت کرو کہ اگر اوسپر تین نقاط معلومہ سے عمود نکالین تو اونمین ایک دوسرے کے ساتھہ نسبت معلوم ہو۔

(۳۶۶) نقطہ معلوم سے خط مستقیم ایسا نکالو کہ اوسکے حصے جو درمیان اس نقطہ اور

اون عمودون کے مسقطون کے واقع ہون جو د اور نقاط متعینہ سے اوسپر نکالے جائین آپسمین نسبت معلوم رکھین۔

(۳۶۷) دائرہ کا آ سے مماس نکالا گیا د متوازی مماسون کو جو دائرہ کو نقاط د اور ی پر مس کرتے ہین نقاط ب اور س پر قطع کرتا ہی اور ب ی اور س د ملائے گئے نقطہ ق پر قطع ہوتے ہین تو ا ق متوازی مماسون ب د اور س ی کا ہوگا۔

(۳۶۸) ع اور ق دو نقاط اور ا ب اور س د دو خطوط متوازیہ متعینہ ہین کوئی خط مستقیم نقطہ ع سے کھینچا گیا ہی اور ا ب سے نقطہ م پر ملتا ہے اور نقطہ ق سے خط مستقیم متوازی ع م کا نکالا ہے اور س د سے نقطہ ن پر ملتا ہے تو ثابت کرو کہ نسبت ع م اور ق ن کی ہمیشہ یکسان رہیگی اور اسی سبب سے خط مستقیم وصل کیا گیا م اور ن مین ایک نقطہ متعینہ پر ہمیشہ گذرتا ہے۔

(۳۶۹) ثابت کرو کہ ذوا ربعۃ الاضلاع مین جسکے دو ضلعے باہم متوازی ہون اور ایک ضلع دوسرے ضلع سے دوچند ہو تو دو نو وتر متقاطع کی نقطہ تقاطع پر تثلیث ہوتی ہی۔

(۳۷۰) دائرہ کا مرکز س ہی اور اوسکے محیط مین دو نقطے ا اور ب ہین اون سے دو مماس نقطہ ط پر ملتے ہوئے نکالے ہین اور نقطہ ا سے ان عمود ب س پر نکالا ہے تو ثابت کرو کہ ب ط کو ب س سے وہ نسبت ہی جو ب ن کو ہی ا ن سے۔

(۳۷۱) مثلث ا ب س کے اضلاع ا ب اور ا س مین دو نقطے د اور ی ایسے مقرر کئے گئے ہین کہ ب د برابر ہی س ی کے اور د ی اور ب س خارج ہو کر نقطہ ق پر ملتے ہین تو ثابت کرو کہ ا ب کو ا س سے وہ نسبت ہی جو ی ق کو ہی د ق سے۔

(۳۷۲) اگر دو دائرے مثلث کے راس او قاعدہ کے ایک ایک طرف مین گذرتے ہوئے کھینچے جائین اور یہ دائرے قاعدے پر یا قاعدہ ممدودہ پر متقاطع ہون تو اون دائرون کے قطرون مین وہ نسبت ہوگی جو مثلث کے اضلاع مین ہی۔

(۳۷۳) نقطہ ایسا دریافت کرو کہ اون سے جو عمود اضلاع مثلث پر نکالین اونمین نسبت معلوم ہو۔

(۳۷۴) مستطیل کے دو متصل کے اضلاع ا ب اور ا س پر مثلث متشابہ بنائے گئے ہین اور ا ب اور ا س پر اون زاویون سے جنکے وہ محاذی ہین عمود نقطہ ع پر ملتے ہوئے

نکالے ہین پس اگر اب اور اس اضلاع نظیر ہون تو ثابت کرو کہ ع سب صورتون مین مستطیل کے ایک قطر مین ہوگا۔

(۳۷۵) شکل ۳ مقالہ اول مین ثابت کرو کہ اگر ی ح اور ف ھ کو خارج کرین تو وہ اس خارج شدہ پر کہین نہ کہین ضرور ملینگے۔

(۳۷۶) ا ع ب ا د س ق خطوط متوازیہ ہین اور ا ع کو ع ب سے وہ نسبت ہی جو د ق کو ہی ق س سے تو ثابت کرو کہ خطوط مستقیم ع ق اور اس اور ب د ایک نقطہ ملینگے اگر ضرورت ہو تو انکو بڑہا ہی لو اور یہ بہی ثابت کرو کہ خطوط مستقیم ع ق اور ا د اور ب س بہی ایک نقطہ پر ملینگے اگر ضرورت ہو تو اونکو بڑہا لو۔

(۳۷۷) ا ب س ایک مثلث ہی اور اوسکا ضلع اس نقطہ د تک اس قدر بڑہایا کہ س د برابر اس کے بنا ہی اور ب د ملایا ہے پس اگر کوئی خط مستقیم متوازی ا ب کا اضلاع ا س اور س ب کو قطع کرتا ہی اور نقاط تقاطع سے خطوط متوازی ا ب کی نکلین تو ثابت کرو کہ ا ب سے یہ خطوط مستقیم اون نقطون پر ملینگے جنکا بعد ا ب کی اطراف سے متساوی ہے

(۳۷۸) اگر دو دوائر متماسہ بیرونی کو ایک دائرہ مس کرے تو خط مستقیم جو نقاط تماس مین گذرتا ہی اوس خط مستقیم کو جو دوائر معلوم کے مرکز مین گذرتا ہی ایک نقطہ معینہ پر قطع کرتا ہی۔

(۳۷۹) مثلث ا ب س کے ضلع ب س کا نقطہ وسط د ہی اور ا د مین کوئی نقطہ ع کا ہے اور نقطہ ع سے خطوط مستقیم ب ع ی اور س ع ف اور اضلاع سے نقاط ی اور ف پر ملتے ہوئے کہینچے گئے ہین تو ثابت کرو کہ ی ف متوازی ب س کا ہوگا۔

(۳۸۰) دائرہ کا قطر ا ب ہی اور نصف قطر ا ب کا نقطہ وسط ی ہے اور ی ا اور ی ب کو قطر بنا کر دائرے کہینچے گئے ہین اور ع ق ل مماس مشترک اونکا دائرون سے نقاط ع اور ق پر اور ا ب خارج شدہ سے نقطہ ل پر ملتا ہی تو ثابت کرو کہ ب ل متساوی نصف قطر دائرہ خرد کے ہے۔

(۳۸۱) ا ب س د ی مخمس منتظم ہے اور ا د اور ب ی نقطہ ء پر متقاطع ہین تو ثابت کرو کہ ضلع مخمس کا وسط فی البست ء ا اور ا د مین ہے۔

(۳۸۲) ا ب س د متوازی الاضلاع ہی اور خط مستقیم مین جو متوازی ا ب کا ہی ع اور ق دو نقطے ہین اور ع و اور ق ب نقطہ ر پر ملتے ہین اور ع د اور ق س نقطہ ص پر ملتے ہین تو

ثابت کرو کہ رص متوازی ود کا ہی۔

(۳۸۳) ا اور ب دو نقاط معلوم ہین اور اس اور ب دو عمود ایک خط مستقیم معلوم س د پر ہین اور ا د اور ب س نقطہ ی پر متقاطع ہین اور نقطہ ی سے ی ف عمود س د پر نکالا ہے تو ثابت کرو کہ ا ف اور ب ف مساوی زاویے س د کے ساتھہ بناتے ہین +

(۳۸۴) متوازی الاضلاع ا ب س د کے زاویون کی راسون سے عمود اوسکے قطرون پر نقاط ی اور ف اور ح اور ھ پر ملتے ہوئے نکالے ہین تو ثابت کرو کہ ی ف ح ھ ایک متوازی الاضلاع متشابہ ا ب س د کے ہی۔

(۳۸۵) اگر نقطہ معلوم پر دو دائرے متقاطع ہون اور اس نقطہ سے دو خطوط مستقیم معین گذرتے ہین اور اونمین دائرونکے مرکز ہین تو ثابت کرو کہ دائرونکی خواہ کچھہ ہی مقدار ہو اونکے مماس مشترکہ ہمیشہ اون خطوط مستقیمہ مین سے جو اوس نقطہ معلوم پر گذرتے ہین ایک خط مستقیم سے ملینگے +

۷ سے ۱۸ تک ۶ مقالہ

(۳۸۶) اگر دو دائرے آپسمین ہی مس کرین اور خط مستقیم کو بھی مس کرین تو اس مماس کا حصہ نقاط تماس کے مابین وسط فی النسبت درمیان دائرونکے قطرونکے ہوگا۔

(۳۸۷) قوس معلوم کو ایسے دو حصونمین تقسیم کرو کہ اونکے وتر دونمین نسبت معلوم ہو۔

(۳۸۸) مثلث معلوم کے اندر خط مستقیم متوازی کسی ضلع کا ایسا نکالو کہ وہ وسط فی النسبت حصص قاعدہ مین ہو۔

(۳۸۹) ا ب س مثلث ہی اور ا سے عمود مقابل کے ضلع پر نکالا ہے اور اوس سے نقطہ د پر درمیان ب اور س کے ملتا ہی اگر یہہ عمود وسط فی النسبت ب د اور س د مین ہو تو ثابت کرو کہ زاویہ ب ا س قائمہ ہے۔

(۳۹۰) ا ب س مثلث ہی اور ا سے عمود مقابل کے ضلع پر نکالا ہے اور اوس سے نقطہ د پر درمیان ب اور س کے ملتا ہے پس اگر ا د وسط فی النسبت ب د اور ب س کے درمیان ہی تو ثابت کرو کہ زاویہ ب ا س قائمہ ہی۔

(۳۹۱) دائرہ کا مرکز س ہے اور نقطہ ا اوسکے اندر ہے س ا نقطہ د مین گذرتا ہوا نقطہ ب تک

ایسا کیجا ہو کہ نصف قطر وسط فی النسبت س ا اور س ب مین ہے تو ثابت کرو کہ اگر ع کوئی نقطہ محیط مین لین تو زاوے س ع ا اور س ب ع آپسمین مساوی ہونگے۔

(۳۹۲) خط مستقیم ا ا مین نقطہ معین ہے اور دائرہ نصف قطر معلوم کا اوس خط مستقیم پر اس طرح سے حرکت کرتا ہے کہ ہمیشہ ا ا اوسکا مماس رہتا ہے اور ایک مماس ع ع دائرہ کا نقطہ ا سے نکالا ہے اور ع ع کو بڑھا کر ق ق ثالث فی النسبت ا ا اور نصف قطر مین بنایا ہے تو ثابت کرو کہ حسب دائرہ ا ا پر حرکت کرے گا تو ق ایک خط مستقیم مین متحرک ہوگا۔

(۳۹۳) دائرہ کو دو خط مستقیم مس کرتے ہین اور ص ع ط تیسرا مماس ہے جو پہلی دونون سے نقاط ص اور ط پر ملتا ہی اور دائرہ کو نقطہ ع پر مس کرتا ہے تو ثابت کرو کہ سطح ص ع اور ع ط کی ہمیشہ یکسان رہیگی خواہ ع کا کوئی مقام ہو۔

(۳۹۴) مثلث کے ضلع مین نقطہ ایسا دریافت کرو کہ اگر اوس سے دو خطوط مستقیم کھینچے جائین ایک تو مقابل کے زاویہ مین اور دوسرا متوازی قاعدہ کا تو دو مثلث متساوی پیدا ہون ایک راس کی طرف دوسرا قاعدہ کی طرف۔

(۳۹۵) اس ب ایک مثلث قائم الزاویہ ہی جسکا زاویہ س قائمہ ہے ا سے ایک خط مستقیم زاویہ قائمہ بناتا ہوا ا ب کے ساتھہ نکالا ہے اور وہ ب س خارج شدہ سے نقطہ ی پر ملتا ہے اور نقطہ ب سے خط مستقیم زاویہ قائمہ بناتا ہوا ا ب کے ساتھہ نکالا ہی اور ا س خارج شدہ کو نقطہ د پر قطع کرتا ہی تو ثابت کرو کہ مثلث ی س د برابر ہے مثلث ا ب س کے۔

(۳۹۶) مثلث ا ب س کے زاویہ ا ب س کی خط تنصیف کرنیوالا اون خطوط مستقیم سے کہ ا اور س سے متوازی اضلاع ب س اور ا ب کے نکالین نقاط ی اور ق پر ملتا ہے تو ثابت کرو کہ مثلث س ب ی اور ا ب ق آپسمین برابر ہین۔

(۳۹۷) ثابت کرو کہ ہر ذو اربعۃ الاضلاع کہ دائرہ کے اندر بنائی جائے اپنے وترون سے چار ایسے مثلثون مین تقسیم ہوتی ہے کہ اون مین سے دو دو آپس مین متشابہ ہین اور اسی سے ۲۵ ش مقالہ سوم کی ثابت کرو۔

(۳۹۸) ا ب اور س د دائرہ کے وتر ہین اور نقطہ ی پر گذرتے ہین ی ق ایک وتر

متوازی ب کا نکالا ہی اور س ی اور د ف ملائے ہین یہ خطوط ا ب کو نقاط ح اور ھ پر قطع کرتے ہین اور د ی اور س ف ملائے ہین اور یہہ خطوط ا ب کو نقاط ک اور ل پر قطع کرتے ہین تو ثابت کرو کہ سطح و ح اور و ھ کی برابر سطح و ک اور و ل کے ہو گی۔

(۳۹۹) دائرہ مین ذو اربعۃ الاضلاع ا ب س د ہی اور خطوط مستقیم س ی اور د ی زاویون ا س ب اور ا د ب کی تنصیف کرتے ہین اور ب د اور ا س نقاط ف اور ح پر قطع ہوتے ہین تو ثابت کرو کہ ی ف کو ی ح سے وہ نسبت ہی جو ی د کو ہے ی س سے۔

(۴۰۰) مثلث کے زاویون سے دو خطوط مستقیم کھینچے ہین ایک تو مقابل کے ضلع تک اور دوسرا اوس دائرہ کے محیط تک کہ مثلث کے اوپر بنایا جاے اور وہ دائرہ سے ایک قطعہ ایسا جدا کرتا ہے کہ اوسکا زاویہ فی القطعہ برابر ہے اوس زاویہ کے جو پہلے خط مستقیم اور ضلع مذکور کے درمیان واقع ہی تو ثابت کرو کہ سطح ان دونو خطوط مستقیم کی مساوی ہو گی مثلث کے اضلاع کی سطح کے۔

(۴۰۱) مثلث کا زاویہ راس س خط مستقیم سے کہ قاعدہ سے نقطہ د پر ملتا ہے تنصیف ہوتا ہے اور یہ خط مستقیم نقطہ ی تک ایسا بڑہایا ہے کہ سطح س د اور س ی کی مساوی سطح ا س اور س ب کے ہو اگر قاعدہ اور زاویہ راس معلوم ہو تو ثابت کرو کہ مقام ی کا ہمیشہ ایک ہی جگہہ ہو گا۔

(۴۰۲) مثلث قائم الزاویہ ا ب س کے اندر مربع بنایا ہے اور مربع کا ضلع د ی وتر ا ب پر منطبق ہے تو ثابت کرو کہ رقبہ مربع کا برابر ہے سطح ا د ا اور ب ی کے۔

(۴۰۳) ا ب س د متوازی الاضلاع ہی اسکے زاویہ ب سے خط مستقیم کھینچا ہے تو قطر ا س کو نقطہ ف پر اور ضلع د س کو نقطہ ح پر اور ا د خارج شدہ کو نقطہ ی پر قطع کرتا ہے تو ثابت کرو کہ سطح ی ف اور ف ح مساوی ہی مربع ب ف کے۔

(۴۰۴) اگر مثلث متساوی الساقین کے زاویے راس سے خط مستقیم قاعدہ تک کھینچین اور اسی خط کو بڑہائین جب تک کہ محیط دائرہ سے کہ مثلث کے اوپر بنائین ملے تو اس ممدودہ خط مستقیم کی سطح بیچ اوس حصہ کے جو مابین راس اور قاعدہ کے واقع ہے مثلث کی

ایک ساق کے مربع کے برابر ہوگی

(۴۰۵) ایک دائرہ کا مرکز ی ہے اور اوسکے دو مماس نقطہ ا سے نکالے ہین اور نقاط تماس مین خط مستقیم ملایا ہے جو ی ا کو نقطہ ھ پر قطع کرتا ہے اور ھ ا کو قطر بناکر ایک دائرہ کھینچا ہے تو ثابت کرو کہ نقطہ ی سے جو مماس اس دائرہ کا کھینچیگا وہ اس دائرہ کو محیط دائرہ مذکور پر مس کریگا۔

۱۹ سے دتک ۹ م

(۴۰۶) اگر مثلث متساوی الساقین ایسا بنائین کہ ہر ایک فوق القاعدہ کا زاویہ دو چند زاویہ راس سے ہو اور زاوئے فوق القاعدہ کی تنصیف کرین اور جن نقاط پر یہ خطوط مستقیم اضلاع مقابل سے ملین اونہین خطوط مستقیم ملائین تو مثلث ایسے دو حصون مین تقسیم ہوگا کہ اونمین وہ نسبت ہوگی جو قاعدہ اور مثلث کی ایک ساق مین ہے۔

(۴۰۷) اگر دائرہ کے اندر کوئی کثیر الاضلاع منتظم بنائین تو وہ وسط فی النسبت درمیان اون منتظم کثیر الاضلاعون کے ہوگی جنکے اضلاع کی تعداد پہلے کثیر الاضلاع سے نصف ہے اور ایک دائرہ کے اوپر اور دوسرے دائرہ کے اندر بنی ہے

(۴۰۸) ۲۴ ش ۶ مقالہ مین ثابت کرو کہ ی ح اور ک ھ آپسمین متوازی ہونگے

(۴۰۹) ایک مثلث کے ایک ایسے خط مستقیم سے دو برابر حصے کرو جو کسی ضلع پر زاوئے قائمے بنائے

(۴۱۰) متوازی الاضلاع ا ب س د کے قطر ا س مین نقطہ ع مقرر کیا ہے اور ایک خط مستقیم ب س سے نقطہ ی پر اور ا د سے نقطہ ف پر ملتا ہوا کھینچا گیا ہے اور نقطہ ع سے ایک دوسرا خط مستقیم ا ب نقطہ ح پر ملتا ہوا اور س د سے نقطہ ھ پر ملتا ہوا کھینچا ہے تو ثابت کرو کہ ح ف متوازی ی ھ کا ہے۔

(۴۱۱) دائرہ معلوم مین ایسا وتر کھینچو کہ اوس نقطہ پر نسبت معلوم مین تقسیم ہو۔

(۴۱۲) دائرہ کے باہر نقطہ ہے اوس سے خط مستقیم دائرہ کو قطع کرتا ہوا ایسا کھینچو کہ اوسکے دونون حصے مساوی ہون۔

(۴۱۳) ۱۱ ش ۲ م مین ثابت کرو کہ سوائے خط معلوم کے اور چار خطوط مستقیم بھی موافق دعوی شکل کے تقسیم ہوتے ہین۔

(۴۱۴) مثلث بناؤ جسکا قاعدہ زاویہ راس اور اضلاع مثلث کی سطح معلوم ہے۔

(۴۱۵) مثلث متساوی الاضلاع پر دائرہ بنایا ہے اور محیط سے کسی نقطہ کے مثلث کے زاویون مین خطوط مستقیم ملائے ہین تو ثابت کرو کہ ایک خط مستقیم اونمین سے برابر دو خطوط مستقیم کے ہوگا۔

(۴۱۶) مثلث متساوی الساقین اب س کے قاعدہ کے اطراف ب اور س سے عمود اب اور اس پر نکالے ہین اور یہ عمود نقطہ د پر قطع ہوتے ہین تو ثابت کرو کہ سطح ب س اور ا د کی دو چند سطح ا ب اور د ب سے ہوگی

(۴۱۷) اب س مثلث متساوی الساقین ہے اور ساق ا ب برابر ہے ساق ا س کے اور ب س کا نقطہ وسط ف ہے کسی خط مستقیم پر جو نقطہ ا سے گذرے عمود ف ح اور س ی کھینچے ہین تو ثابت کرو کہ سطح ا س اور ی ف کی برابر ہے مجموعہ سطح ف س اور ی ح اور سطح ف ا اور ف ح کے

ا سے ۱۲ تک ۱۱ م

(۴۱۸) نقطہ معلوم سے خطوط مستقیم متساوی جو ایک سطح تک کھینچین میلان متساوی سطح سے رکھتے ہین۔

(۴۱۹) اگر دو خطوط ایک سطح مین دوسرے سطح کے ساتھ میلان متساوی رکھین تو وہ اونکی فصل مشترک کے ساتھ بھی یکسان میلان رکھین گے

(۴۲۰) نقطہ ا سے عمود سطح پر قائم ہوا ہے اور اس سطح سے نقطہ ب پر ملتا ہے اور نقطہ ب سے عمود اسی سطح مین ایک خط مستقیم معلوم پر نکالا ہے اور اون سے س پر ملتا ہے تو ثابت کرو کہ اس عمود خط مستقیم پر اور اس سطح مین ہے۔

(۴۲۱) اب س مثلث ہے اور عمود جو ا اور ب سے مقابل کے اضلاع پر کھینچین نقطہ د پر ملتے ہین اور نقطہ د سے عمود سطح مثلث پر قائم کیا ہے اور اس خط مستقیم مین کوئی نقطہ ی مقرر کیا ہے تو ثابت کرو کہ خط مستقیم نقطہ ی اور مثلث کسی زاویہ مین ملایا جاوے سے عمود اس خط مستقیم پر ہوگا کہ اوس زاویہ سے متوازی متساوی مقابل کے ضلع مثلث کا نکالا جاوے

(۴۲۲) سطح کے باہر نقطے معلوم ہین اونسے دو خطوط مستقیم کھینچے گئے ہین اور ایک نقطہ پر

اوس سطح مین ملتے ہین تو بتاؤ مجموعہ ان خطوط مستقیم کا کب کم ازکم ہوگا۔

(۴۲۳) تین خطوط مستقیم کہ ایک سطح مین نہین ہین ایک نقطہ پر ملتے ہین اور ایک سطح برابر فاصلہ پر اس نقطہ سے اون خطون کو قطع کرتی ہے تو جو عمود اس نقطہ سے اس سطح پر نکالین تو وہ اوس سے اوس نقطہ پر ملیگا جو مرکز دائرہ اندرونی اوس مثلث کا ہے جو درمیان سطوح کے کہ خطوط مین گذرتے ہین گھرتا ہے

(۴۲۴) تین خطوط مستقیم نقطہ پر ملتے ہین ایک خط ایسا کھینچو کہ وہ اون تینون خطون کے ساتھہ یکسان میلان رکھے

(۴۲۵) نقطہ ی ت ہی س اور ی د عمود دو سطوح س ا ب اور د ا ب پر جو ا ب پر قطع ہوتے ہین نکالے ہین اور نقطہ د سے د ف عمود سطح س ا ب پر نکالا ہے جو سطح سے نقطہ ف پلتا ہی تو ثابت کرو کہ س ف بغیر خارج ہونے کے یا خارج ہو کر عمود ا ب پر ہوگا۔

(۴۲۶) ایک نقطہ سے دو عمود ایک سطح پر اور دوسرا خط مستقیم پر نکالا گیا ہے اگر مسقط عمودون مین خط ملائین تو وہ خط مستقیم پر عمود ہوگا۔

۱۳ سے ۲۱ تک ۱۱ م

(۴۲۷) دو مخروطون کا قاعدہ مشترک ب س د ہے اور اونکی راس ا اور ی اوس سطح مین واقع ہین کہ ب س مین گذرتی ہے اور ا ب اور ا س عمود ہین اطراف ب ی د اور س ی د پر تو ثابت کرو کہ ا پر جو زاوئے ہین اونمین سے ایک مع اون زاویون کے جو نقطہ ی پر ہین ملکر برابر چار قائمون کے ہین۔

(۴۲۸) مثلث اندر مثلث کے بنا ہے تو ثابت کرو کہ مجموعہ اون زاویون کا مثلث اندرونی کے اضلاع کے سامنے کسی نقطہ پر جو مثلثون کے سطح مین نہین ہے کم ہوتا ہے بہ نسبت اون زاویون کے جو مثلث بیرونی کے اضلاع کے سامنے اوس نقطہ پر واقع ہین۔

(۴۲۹) ا ب اور س د دو خطوط متوازیہ کی اطراف سے خطوط متوازیہ ا ر اور ب ت اور س ش اور د ذ کھینچے گئے ہین اور وہ ایک سطح سے نقاط ر اور ت اور ش اور ذ پر ملتے ہین تو ثابت کرو کہ ا ب کو س د سے وہ نسبت ہے جو ر ت کو ہے ش ذ سے

(۴۳۰) مجسم جو چار برابر متساوی الاضلاعون سے بنتے ہین اگر اونکے راس سے عمود مقابل کی طرف

پر نکالین اور موقع عمود سے ایک اور عمود کسی اور طرف پر نکالین تو پہلا عمود دوسرے عمود سے سہ چند ہوگا
(۴۳۱) مخروط مثلثی متساوی الاضلاع قاعدہ پر قائم ہے اور زاویے راس پر قائمے ہین تو ثابت کرو
کہ مجموعہ عمودون کا جو سطح قاعدہ مین کسی نقطہ سے اطراف مقابل پر نکالین ہمیشہ یکسان رہیگا
(۴۳۲) تین خطوط مستقیم جو ایک سطح مین نہین ہین ایک نقطہ پر تقاطع کرتے
ہین اور اونکے نقطہ تقاطع سے درمیان زاویہ مجسمہ کے جو اون سے بنا ہے
ایک خط نکالا ہے تو ثابت کرو کہ مجموعہ ان زاویون کا جو یہ خط مستقیم اون خطوط سے
بناتا ہے چھوٹا کل مجموعہ سے اور بڑا نصف مجموعہ اون زاویون سے جو وہ خطوط
مستقیم ایک دوسرے کے ساتھ بناتے ہین ہوگا۔
(۴۳۳) تین خطوط مستقیم جو ایک سطح مین نہین ہین اور وہ ایک ہی نسبت پر تین
سطوح سے قطع ہوتے ہین اور ان سطوح مین سے دو متوازی ہین تو ثابت کرو
تیسری سطح بھی اون دونون سطح کی متوازی ہوگی بشرطیکہ وہ تینون خطوط
مستقیم کو ایسے نقطون پر نہین قطع کرتے کہ وہ ایک خط مستقیم مین ہون۔
(۴۳۴) دو سطحین متوازی کھینچو ایسی کہ ایک تو اونمین سے ایک خط مستقیم مین گذرے
اور دوسری ایک خط مستقیم مین جو پہلے خط سے نہین ملتا۔
(۴۳۵) اگر دو سطوح غیر متوازیہ دو سطوح متوازیہ سے قطع ہون تو فصل مشترک پہلے دو سطوح
اور پچھلے دو سطوح کے برابر برابر زاویہ پیدا کرینگے۔
(۴۳۶) نقطہ آ سے جو دو سطوح مین سے کسی ایک مین ہے آب زاویے قائمے بنانا ہے
اول سطح پر نکالا ہے اور اس عمود دوسری سطح پر اور دوسری سطح سے یہ عمود
ب اور س پر ملتے ہین تو ثابت کرو کہ ب س عمود اون دونون سطحون کی فصل
مشترک پر ہوگا۔
(۴۳۷) منشور کو سطوح متوازیہ قطع کرکے جو کثیر الاضلاعین پیدا کرتی ہین آپسمین متوازی
ہوتے ہین۔
(۴۳۸) مخروط کو جو سطوح متوازیہ قطع کرتے ہین اون سے کثیر الاضلاعین متشابہ
پیدا ہوتی ہین۔
(۴۳۹) خط مستقیم ع ب ت غ دو سطوح متوازیہ کو نقاط ب اور ت پر قطع کرتا ہے

اور نقاط ع اور غ مساوی الابعاد سطوح سے ہیں اور اور خطوط مستقیم ع ر اور غ ش س نقاط ع اور غ سے کھینچے گئے سطوح کو قطع کرتے ہیں تو ثابت کرو کہ مثلث ا ب س اور ر ت ش آپس میں متساوی ہیں۔

(۴۴۰) نقاط ا اور ب سے جو سطح کے اوپر ہیں دو عمود ا ی اور ب ف سطح پر نکالے ہیں اور نقطہ ا سے ایک سطح عمود ا ب پر کھینچی ہے تو ثابت کرو کہ جس خط مستقیم پر یہ سطح سطح معلوم کو قطع کرے وہ عمود ی ف پر ہے۔

اسے ۴۸ تک مقالہ اول

(۴۴۱) ا ب س مثلث ہے اور ع اوسکے اندر نقطہ ہے ثابت کرو کہ ع ا اور ع ب اور ع س کا مجموعہ مثلث کے مجموعہ اضلاع سے کم ہے۔

(۴۴۲) دو دائروں کے مرکز ا اور ب سے دو نصف قطر ا ع اور ب ق متوازی نکالے ہیں اور خط ع ق محیطوں سے نقاط ر اور ص پر ملتا ہے تو ثابت کرو کہ ب س کا متوازی ا ر ہے

(۴۴۳) اگر سطح متوازی الاضلاع کے اندر نقطہ مقرر کریں تو اون مثلثوں کا مجموعہ جو اس نقطہ اور دو مقابل کے اضلاع کے انجاسوں میں خطوط ملانے سے پیدا ہوتے ہیں متوازی الاضلاع سے نصف ہوگا۔

(۴۴۴) اگر ذو اربعۃ الاضلاع کے ایک وتر سے تنصیف ہوتی ہو تو دوسرا وتر اس پہلے وتر سے تنصیف ہوگا۔

(۴۴۵) جو ذو اربعۃ الاضلاع اپنے دونوں وتروں سے تنصیف ہوتی ہے وہ متوازی الاضلاع ہوتی ہے۔

(۴۴۶) شکل پنجم مقالہ اول میں اگر اخراج ساقین قاعدہ کے نیچے نہو بلکہ اس کے اوپر ہو تو ثابت کرو کہ پندرہوین شکل مقالہ اول کا ثبوت اول ہے پانچ شکلوں سے ہو سکتا ہے۔

(۴۴۷) نقطہ معلوم ا ہے اور ایک اور نقطہ معلوم ب خط مستقیم میں ہے اب مطلوب یہ ہے کہ نقطہ ا سے خط مستقیم ا ع اوس خط مستقیم تک ایسا کھینچیں کہ ا ع اور ع ب کا مجموعہ برابر طول مفروض کے ہو۔

(۴۴۸) ثابت کرو کہ (۲۶ ش ام) کی صورت اول عملی انطباق سے اور صورت دوم

۱۶ شکل کی استعانت سے ہوسکتی ہے۔

(۴۴۹) مثلث متساوی الساقین کی ایک ساق پر ایک طرف خط مستقیم منتہی ہوتا ہے اور دوسری طرف دوسری ساق ممدودہ پر اور قاعدہ سے تنصیف ہوتا ہے تو ثابت کرو کہ مجموعہ اون خطون کا کہ اس خط مستقیم اور زاویہ راس کے درمیان واقع ہون برابر مجموعہ دونون مساوی ساقون کے ہوتا ہے۔

(۴۵۰) مثلث کے قاعدہ ب س کے نقطہ وسط م سے دم ی ایسا خط مستقیم کھنچا ہے کہ وہ اضلاع ا ب اور ا س مین سے مساوی حصے قطع کرتا ہے تو ثابت کرو کہ ب د برابر س ی کے ہے اگر ضرورت پڑے تو اضلاع کو خارج کرلو۔

(۴۵۱) جن سطوح متوازی الاضلاع کے قطر مساوی ہوتے ہین اونمین سبین سب سے بڑا ہوتا ہے۔

(۴۵۲) اول مقالہ کے (۱۸ ش اور ۳۲ ش) کی استعانت سے ثابت کرو کہ اگر مثلث قائم الزاویہ ا ب س کا وتر نقطہ د پر تنصیف ہو تو ا د اور ب د اور س د آپسمین برابر ہونگے۔

(۴۵۳) اگر دو مساوی خطوط مستقیم کہین زاویہ قائمہ پر متقاطع ہون تو دو اربعۃ الاضلاع جو اونکے انجامون مین خطوط وصل کرنے سے بنے گی ہر ایک خط مستقیم کے مربع سے نصف ہوگی۔

(۴۵۴) مثلث معلوم مین ایسی سطح متوازی الاضلاع بناؤ جسکے قطر نقطہ معلوم پر جو مثلث کے اندر ہے متقاطع ہون

(۴۵۵) مثلث بناؤ جسکا رقبہ اور دو ضلعے معلوم ہین۔

(۴۵۶) مثلث بناؤ جسکا قاعدہ اور دو اضلاع کا فرق اور زاویون کا فرق معلوم ہے۔

(۴۵۷) ا ب اور ا س دو خطوط مستقیم معلوم ہین مطلوب یہ ہے کہ ا ب مین ایسا نقطہ ع دریافت کرین کہ اگر ع ق عمود ا س پر نکالین تو مجموعہ ا ع اور ا ق کا ملکر برابر خط معلوم کے ہو۔

(۴۵۸) اگر مثلث کا زاویہ راس قائمہ ہو تو اوس کے راس کا بعد قاعدہ کے نقطہ وسط سے برابر نصف قاعدہ کے ہوتا ہے اور اگر زاویہ راس حادہ ہو تو نصف قاعدہ سے بڑا ہوتا ہے اور اگر زاویہ راس منفرجہ ہو تو نصف قاعدہ سے چھوٹا ہوتا ہے۔

(۴۵۹) مربع کے ہر ایک ضلع مین ایک ایک نقطہ برابر فاصلہ پر زاویہ سے مقرر کرین اور ان نقطون مین خطوط مستقیم ملائین جو شکل پیدا ہوگی وہ مربع ہوگی

(۴۶۰) خط مستقیم معلوم کو قاعدہ بنا کر ایسا مثلث بناؤ جسکے اضلاع مین فرق معلوم ہو اور ایک ضلع اوسکا نقطہ معلوم پر گذرے۔

(۴۶۱) اب س مثلث ہے جس مین ب آ بڑا س آ سے ہے اور زاویہ آ اوس خط مستقیم سے نصف ہوتا ہے کہ ب س سے نقطہ د پر ملتا ہے تو ثابت کرو کہ ب د بڑا س د سے۔

(۴۶۲) اگر مثلث کا ایک زاویہ سہ چند دوسرے زاویہ سے ہو تو مثلث دو متساوی الساقین مثلثون مین تقسیم ہوسکتا ہے۔

(۴۶۳) اگر مثلث کا ایک زاویہ دو چند دوسرے زاویہ سے ہو تو اس مثلث پر ایک مثلث متساوی الساقین ایسا زیادہ ہو سکتا ہے کہ یہ دونون مثلث ملکر ایک مثلث متساوی الساقین ہون۔

(۴۶۴) فرض کرو کہ مثلث متساوی الساقین کی ایک ساق نقطہ د پر تنصیف ہوتی ہے اور ایک طرف قاعدہ کی جانب مین ی تک خارج ہوکر دو چند ہوئی ہے تو قاعدہ کے دوسری طرف کا فاصلہ ی سے بہ نسبت د کے دو چند ہوگا۔

(۴۶۵) اوس نقطہ کا مقام انقاط دریافت کرو کہ جسکا بعد ایک نقطہ معلوم سے بہ نسبت دوسرے نقطہ معلوم کے دو چند ہے

(۴۶۶) خط مستقیم اب کی تنصیف نقطہ س پر ہوتی ہے اور اس اور ب س کو قطر بنا کر سطوح متوازی الاضلاع اوس ی اور س ف ب ح بنائی گئی ہین اور دو متوازی الاضلاع جن کے متصل کے ضلعے س د اور س ف ہین اور س ی اور س ح مکمل بنائی گئی ہین تو ثابت کرو کہ ان آخر متوازی الاضلاعون کے قطر ایک خط مستقیم مین ہونگے۔

(۴۶۷) اب س د مستطیل ہے جسکے آ اور س مقابل کے زاویے ہین اور ضلع ب س مین نقطہ ی اور س د مین نقطہ ف مقرر کئے ہین تو ثابت کرو کہ دو چند رقبہ مثلث ا ی ف کا مع سطح ب ی اور د ف کے برابر مستطیل اب س د کے ہوگا

(۴۶۸) ایک ہی قاعدہ پر دو مثلث اب س اور د ب س ہین اور مثلث اب س کا

ضلع اب برابر ضلع اس کے ہے اور دائرہ جو نقاط س اور د پر گذرتا ہے اوسکا
ہی مرکز س ا پر ہے اور دائرہ جو د اور ب پر گذرتا ہے اوسکا مرکز ب ا پر ہے تو
ثابت کرو کہ ذوار بعۃ الاضلاع ا ی و ف کے دو ضلعون کا مجموعہ برابر ہے باقی دو ضلعون کے
مجموعہ کے اگر ضرورت پڑے تو اس اور اب کو بڑھا لو۔

(۴۶۹) دو خطوط مستقیم اب اور اس معلوم المقام ہین مطلوب یہ ہے کہ اب مین ایسا
نقطہ ع دریافت کرین کہ اگر اوس سے عمود اس پر نکالین تو خط مستقیم ا ع س
عمود سے بقدر طول مفروض کے بڑا ہو۔

(۴۷۰) مسدس مساوی الزوایا کے اضلاع مقابل کے متوازی ہوتے ہین اور کوئی سے
دو ضلعے اوسکے ملکر اپنے متوازی دو ضلعون کے برابر ہوتے ہین۔

(۴۷۱) مثلث قائم الزاویہ اب س کے وتر ب س پر مربع ب د ی س کے دو گوشون د
اور ی سے عمود د م اور ی ن اضلاع اب اور اس پر نکالے ہین تو ثابت کرو کہ
ا م برابر ہے اب کے اور ا ن برابر اس کے

(۴۷۲) اب اور اس دو خطوط مستقیم معلوم ہین اور ع نقطہ معلوم ہے اور مطلوب
یہ ہے کہ نقطہ ع سے ایک ایسا خط مستقیم کھینچین کہ اب اور اس کے ساتھ وہ شامل
ہو کر حتی الامکان چھوٹا مثلث پیدا کرے۔

(۴۷۳) اب س مثلث ہے اور اوسکا زاویہ س قائمہ ہے تو بتاؤ کہ کس طرح سے
خط مستقیم متوازی خط مستقیم معلوم کا نکالین کہ وہ س ا اور س ب پر منتہی ہو اور
اب سے تنصیف۔

(۴۷۴) اب س مثلث متساوی الساقین ہے اور اوسکا زاویہ ب چوچند ہر ایک زاویہ
مثلث سے ہے اور اب د تک ایسا خارج کیا ہے کہ ب د دو چند اب سے ہے اور س د ملایا ہی
تو ثابت کرو کہ مثلث اس د اور اب س متساوی الزوایا ہین۔

(۴۷۵) سطح متوازی الاضلاع اب س د کے اندر ایک نقطہ ک ہی اور اوس سے خطوط
متوازی اضلاع سطح کے کھینچے ہین تو ثابت کرو کہ فرق سطوح متوازی الاضلاع کا جنکے
قطر ک ا اور ک س ہین برابر دو چند مثلث ب ک د کے ہے

(۴۷۶) مثلث قائم الزاویہ بناؤ جسکا ایک ضلع اور دوسرے ضلع اور وتر کا فرق معلوم ہے۔

(۴۷۷) مثلث کے اضلاع ب س اور اس کی خطوط مستقیم ا د اور ب ی تنصیف کرتے ہین اور نقطہ ح پر متقاطع ہین تو ثابت کرو کہ ا ح دو چند ح د سے ہے

(۴۷۸) ب ا س مثلث قائم الزاویہ سے اور زاویہ قائمہ ا کے خط مستقیم تنصیف کرتا ہوا کہنچا ہے اور دوسرا خط قاعدہ ب س کے زاویہ قائمہ پر تنصیف کرتا ہے اور یہ خطوط نقطہ ی پر تقاطع کرتے ہین پس اگر ب س کا نقطہ وسط ہو تو ثابت کرو کہ د ی برابر ہے د ا کے

(۴۷۹) مربع ا ب س د کے قطر ا س پر ایک معین ا ی ف س جو مساحتاً برابر مربع کے بنایا ہے اور اوسکا زاویہ حادہ نقطہ ا پر ہے اگر ا ف ملائین تو ثابت کرو کہ زاویہ ب ا س تین برابر زاویون مین تقسیم ہوگا۔

(۴۸۰) ا ب اور ا س دو خطوط مستقیم متعین زاویے قائمے بناتے ہین اور د کوئی نقطہ ا ب مین ہے اور ی کوئی نقطہ ا س مین ہے اور د ی کو قطر بنا کر نصف مربع جس کا راس ح ہے بنایا گیا ہے تو ثابت کرو کہ ح کا مقام انقاط ایک خط مستقیم ہے جو زاویہ ب ا س کی تنصیف کرتا ہے

(۴۸۱) ثابت کرو کہ سطوح متوازی الاضلاع مین جنکے مجموعہ اضلاع آپس مین برابر ہین مربع کا رقبہ سب سے بڑا ہوتا ہے۔

(۴۸۲) مربع معلوم مین مربع معلوم المقدار بناؤ۔

(۴۸۳) ا ب س مثلث ہے اور ا د تہائی ا ب کی اور ا ی ایک تہائی ا س کی ہے اور س د اور ب ی نقطہ ف پر متقاطع ہین تو ثابت کرو کہ مثلث ب ف س نصف مثلث ب ا س سے ہے اور ذو اربعۃ الاضلاع ا د ی ف برابر ہے ہر ایک مثلث س ف ی اور ب د ف کے۔

(۴۸۴) ا ب س مثلث ہے اور اوسکا زاویہ س قائمہ ہے اور زاویہ ا خط مستقیم سے تنصیف کیا گیا ہے اور وہ ب س سے نقطہ د پر ملتا ہے اور زاویہ ب خط مستقیم تنصیف کیا گیا ہے اور وہ ا س سے نقطہ ی پر ملتا ہے اور ا د اور ب ی نقطہ ہ پر تقاطع کرتے ہین تو ثابت کرو کہ مثلث ا ر ب ذو اربعۃ الاضلاع ا ب د ی کا نصف ہے

(۴۸۵) ثابت کرو کہ مثلث مختلف الاضلاع ایسے دو حصون مین تقسیم نہین ہوسکتا کہ وہ ایک دوسرے پر منطبق ہو جائین۔

(۴۸۶) برابر قاعدون ب س اور س ی پر درمیان ایک ہی خطوط متوازیہ ا د اور ب ی کے سطوح متوازی الاضلاع ا ب س د اور ا س ی د واقع ہین اور خطوط مستقیم ب د اور ا ی نقطہ ف پر متقاطع ہین تو ثابت کرو کہ ب ف برابر ہے د ف چند د ف کے

(۴۸۷) مثلث ا ب س سے باہر ا س اور ب س پر سطوح متوازی الاضلاع ا ف ح س اور س ب ک ہ بنائے ہین اور ف ح اور ک ہ نقطہ ط پر ملتے ہین اور ط س ملایا ہے اور ا د اور ب ہ سے خطوط مستقیم ا د اور ب ی دونون متوازی ط س کے کھینچے ہین اور ف ح اور ک ہ سے نقاط د اور ی پر ملتے ہین تو ثابت کرو کہ شکل ا د ی ب متوازی الاضلاع ہے اور متوازی الاضلاعون ف س اور س ک کے مجموعہ کی برابر ہے۔

(۴۸۸) اگر ذو اربعۃ الاضلاع کے دو ضلعے متوازی ہون تو ثابت کرو کہ خط مستقیم جو انکا متوازی نقطہ تقاطع اوتار ذو اربعۃ الاضلاع سے نکالا جاے اس نقطہ تقاطع پر تنصیف ہوگا۔

(۴۸۹) ایک ہی خطوط متوازیہ کے درمیان برابر قاعدون پر دو مثلث واقع ہین تو ثابت کرو کہ جو خط مستقیم ان قاعدون کا متوازی ہو اسکے حصے مثلثون کے اندر جو آتے ہین متساوی ہین۔

(۴۹۰) مثلث قائم الزاویہ ہین جسکا ا زاویہ قائمہ ہے اگر ضلع ا س دو چند ضلع ا ب سے ہو تو زاویہ ب بڑا دو چند زاویہ س سے ہوگا۔

(۴۹۱) متوازی الاضلاع کے کسی زاویہ سے خطوط مستقیم کھینچکر اوسکی تثلیث کرو۔

(۴۹۲) ا ک ہ مثلث متساوی الاضلاع ہے اور ا ب س د ایک معین ہے جسکا ایک ضلع برابر مثلث کے ایک ضلع کے ہے اور جسکے ضلعے ب س اور س د نقطے ہ اور ک پر گذرتے ہین تو ثابت کرو کہ معین کا زاویہ ا قائمہ کے دس نوین حصے کے برابر ہوگا۔

(۴۹۳) مثلث کے ایک ضلع مین نقطہ معلوم ہے اوس سے خطوط مستقیم کھینچکر مثلث کی تثلیث کرو۔

(۴۹۴) ش ا م ہ مین متوازی الاضلاعون کے قطر قاعدہ کی ہر ایک طرف سے ملائے جائین تو قطرون کے نقطہ تقاطع اور اضلاع کے نقطہ تقاطع مین خط ملایا گیا قاعدہ کو تنصیف کریگا اگر ضرورت پڑے تو اضلاع کو بڑھا لو۔

ا سے ۱۴ تک ۲ مقالہ

(۴۹۵) مثلث کے ضلع کو اتنا بناؤ کہ سطح اس ضلع اور حصہ محدودہ کے برابر دونون ضلعون کے مربعون کے فرق کے ہو۔

(۴۹۶) ایک خط مستقیم کو اس قدر زیادہ کرو کہ اس خط مستقیم کا مربع مع حصہ زائد کے مربع کے برابر ہو دو چند سطح کل خط مع حصہ زائد اور حصہ زائد کے۔

(۴۹۷) خط مستقیم کو اسقدر زیادہ کرو کہ خط معلوم پر کا مربع مع مربع کل خط ممدودہ کے برابر ہو دو چند سطح خط ممدودہ اور حصہ ممدودہ کے

(۴۹۸) خط مستقیم کو اسقدر زیادہ کرو کہ سطح کل خط ممدودہ اور حصہ ممدودہ کے برابر ہو مربع معلوم کے

(۴۹۹) مثلث متساوی الساقین منفرجہ الزاویہ ایسا بناؤ کہ ضلع اعظم کا مربع ساق کے مربع سے سہ چند ہو

(۵۰۰) اوس مثلث کا زاویہ منفرجہ دریافت کرو کہ جسمین زاویہ منفرجہ کے سامنے کے ضلع کا مربع باقی دو ضلعون کے مربعون کے مجموعہ سے بڑا ہے بقدر دو چند سطح اضلاع کے جو زاویہ منفرجہ کے محیط ہین۔

(۵۰۱) متوازی الاضلاع قائم الزاویہ برابر مربع معلوم کے ایسے بناؤ کہ اوسکے متصل کے دو ضلعون کا مجموعہ برابر ایک مقدار معلوم کے ہو۔

(۵۰۲) سطح قائم الزاویہ برابر مربع معلوم کے ایسے بناؤ کہ اوسکے دو متصل کے ضلعون کا ق برابر مقدار معلوم کے ہو۔

(۵۰۳) مربع کے اندر جو سب سے چھوٹا مربع بنے گا وہ اوس مربع سے نصف ہوگا۔

(۵۰۴) خط مستقیم کو ایسے دو حصون مین تقسیم کرو کہ مربع کل خط کا سہ مربع ایک حصہ کے دو چند ہو دوسرے حصہ کے مربع سے

(۵۰۵) دو سطوح متوازی الاضلاع قائمۃ الزاویہ مساحتاً مساوی ہین اور اونکے مجموعہ اضلاع بھی آپسمین مساوی ہین تو ثابت کرو کہ سب طرح سے وہ آپسمین مساوی ہونگے

(۵۰۶) ا ب س د متوازی الاضلاع قائمۃ الزاویہ ہی اور ع ایک نقطہ ایسا ہی کہ مجموعہ ع ا اور ع س کا برابر ہے مجموعہ ع ب اور ع د کے تو ثابت کرو کہ ع کا مقام انتقاطہ دو خطوط مستقیم ہین جو مرکز متوازی الاضلاع قائم الزاویہ سے متوازی اوسکے اضلاع کے نکالین۔

ا سے ۳۷ تک ۳ م

(۵۰۷) دائرہ کھینچو کہ نقطہ معلوم پر گذرے اور خط مستقیم معلوم کو نقطہ معلوم پر مس کرے۔

(۵۰۸) دائرہ کھینچو کہ نقطہ معلوم پر گذرے اور دائرہ معلوم کو نقطہ معلوم پر مس کرے۔

(۵۰۹) دائرہ کینچو کہ دائرہ معلوم کو نقطہ معلوم پر مس کرے اور خط مستقیم معلوم کو مس کرے
(۵۱۰) مثلث کے زوایا ر ا اور ب سے مقابل کے اضلاع پر عمود ا د اور ب ی نکالے ہین اور
ب ف عمود ہے ی د پر یا ی د خارج شدہ پر تو ثابت کرو کہ زاویہ ف ب د برابر ہی زاوی ب ا کے
(۵۱۱) اگر ا ب س مثلث ہو اور ب ی اوس ف عمود ضلعون پر مقابل کے زاویون سے
نکالین اور ک نقطہ وسط تیسرے ضلع کا ہو تو ثابت کرو کہ زاوئے ف ی ک اور ی ف ک
آپسمین مساوی ہین۔
(۵۱۲) دائرہ کا قطر ا ب ہے اور ا س اور ا د دو وتر ہین جو اوس مماس سے کہ نقطہ ب سے
نکالین نقاط ی اور ف پر ملتے ہین تو ثابت کرو کہ زاوئے ف س ی اور ف د ی آپس
مین متساوی ہین۔
(۵۱۳) کسی ذو اربعۃ الاضلاع کے زاویون کی تنصیف کرنے والے چار خطوط سے جو ذو اربعۃ الاضلاع
پیدا ہوتی ہے وہ دائرہ کے اندر کینچ سکتی ہے۔
(۵۱۴) جو دائرے آپسمین ملتے نہون اونمین چھوٹے سے چھوٹا فاصلہ دریافت کرو۔
(۵۱۵) دو دائرے نقطہ ا پر متقاطع ہین مطلوب یہ ہے کہ نقطہ ا سے ایسا خط مستقیم کینچین
کہ اوسکا وہ حصہ کہ درمیان دو دائرے کے واقع ہو برابر ایک خط مستقیم معلوم کے ہو۔
(۵۱۶) اگر دائرہ کے اندر جہت اضلاع کی کثیر الاضلاع بنائی جائے تو اوسکے زوایا علی التبادل
کا مجموعہ سہ دو قائمون کے اتنے قائمے ہونگے جتنی تعداد اضلاع کثیر الاضلاع ہے
(۵۱۷) دائرہ کے محیط مین نقطہ معلوم ہے اوس سے ایسا وتر کینچو کہ وہ دائرہ کے معلوم سے
قطع ہو کر نقطہ تقاطع پر تنصیف ہو۔
(۵۱۸) اگر دائرہ کے اوپر کثیر الاضلاع مساوی الاضلاع کینچی جائے تو ضرور متساوی الزوایا
ہوگی بشرطیکہ تعداد اضلاع طاق ہو اور کسی اور صورت مین یہ کیفیت نہین ہوگی۔
(۵۱۹) دائرہ کا مرکز س ہے اور اوسکا قطر ا ب ہے اور د س ی اوسکا ایک قطاع ہے جسکے
قوس د ی کبھی بدلتے نہین ا ب اور ب ی ملاؤ جو نقطہ ع پر تقاطع کرین تو زاویہ ا ع ب
ہمیشہ یکسان رہیگا کبھی بدلنے کا نہین۔
(۵۲۰) قاعدہ ب س پر ایک ہی جہت مین بہت سے مثلث واقع ہین جنکے زاوئے راس آپسمین
مساوی ہین اور ب اور س سے عمود نقطہ د پر قطع ہوتے ہوئے مقابل کی اضلاع پر نکالین تو

تو دریافت کرو کہ مقام النقاط نقطہ د کا کیا ہوگا اور یہ ثابت کرو کہ خطوط مستقیم جو زاویہ ب د س کی تنصیف کرین گے ہمیشہ ایک ہی نقطہ پر گذرین گے۔

(۵۲۱) دائرہ کے محیط مین فرض کرو کہ ر اور س نقاط معینہ ہین اور ر و وتر ہے اگر س ر ملائین اور ب تک اتنا بڑہائین کہ ر ب برابر ر و کے ہو تو ب کا مقام النقاط ایک دائرہ برابر پہلے دائرہ کے ہوگا

(۵۲۲) سطح متوازی الاضلاع ا ب س د کے قطر ب د مین کسی نقطہ ع سے عمود ع ی اور ع ف اور ع ح اور ع ہ اضلاع ا ب اور ب س اور س د اور د ا پر علی التناظر نکالے گئے ہین تو ثابت کرو کہ ح ہ کا متوازی ی ف ہوگا۔

(۵۲۳) دائرہ کے وتر مین ایک نقطہ متعین ہے اوس سے اور اوتار دائرہ کینچے ہین تو ثابت کرو کہ خطوط مستقیم جو اول وتر کے نقطہ وسط اور اور وترون کے نقاط وسط مین ملائین گے وہ سب ایک زاویہ اون وترون کے ساتھ بنائین گے۔

(۵۲۴) ا ب س خط مستقیم ہے اور کسی نقطہ پر دو حصون مین تقسیم ہوا ہے اور ا د ب اور س د ب دائرہ کے قطعات متشابہ ہین جنکا وتر مشترک ب د ہے اور س د اور ا د خارج کئے ہین اور محیط سے نقاط ف اور ی پر ملتے ہین اور ا ف اور س ی اور ب ف اور ب ی ملائے ہین تو ثابت کرو کہ ا ب ف اور س ب ی مثلث متساوی الساقین ہین اور آپسمین اونکے زاویے بھی برابر ہین۔

(۵۲۵) اگر دو دائرے باہر کی طرف متماسہ ہون اور اونکے مرکز متعین ہون تو اونکا مماس مشترک اوس دائرہ کا مماس ہوگا جسکا قطر وہ خط مستقیم ہے کہ اون دائرون کے متعینہ مرکزون مین ملایا جاے۔

(۵۲۶) نقطہ معلوم آ سے دو خط ایسے کینچو کہ اونکے درمیان زاویہ معلوم ہو اور خط معلوم کا حصہ اونکے درمیان مین برابر طول معلوم کے آئے۔

(۵۲۷) دو دائرے اور ایک خط مستقیم معلوم ہین اور خط مستقیم مین ایسا نقطہ دریافت کرو کہ جس سے مماس دائرون کے نکالین تو وہ آپسمین متساوی ہون۔

(۵۲۸) دائرہ معلوم مین دو وتر جنکا طول معلوم ہے کینچے ہین اس طرح سے کہ تقاطع نہین کرتے اور ایک کا اونمین سے مقام متعین ہے اب اون وترون کے اطراف مقابل مین خطوط مستقیم وصل کئے ہین جو دائرہ کے اندر تقاطع کرتے ہین تو ثابت کرو کہ نقطہ تقاطع کا

مقام التقاط محیط دائرہ کا وہ حصہ ہوگا جو وتر متعینہ کے اطراف مین گذریگا۔

(۵۲۹) دو دائرے اندر کی طرف نقطہ س پر باہم مس کرتے ہین اور ا اور ب اونکے مرکز ہین اور وہ ایک تیسرے دائرہ کو بھی جسکا مرکز د ہے اندر اور باہر کی طرف نقاط ی اور ف پر مس کرتے ہین تو ثابت کرو کہ زاویہ ا د ب دو چند زاویہ ی س ف سے ہوگا۔

(۵۳۰) ایک دائرہ کا مرکز س ہے اور س ع ایک عمود و ا ع ب پر ہے پس جب س ع برابر ہوگا ا ع کے تو س ع اور ا ع کا مجموعہ نہایت بڑا ہوگا۔

(۵۳۱) دائرہ مین کثیر الاضلاع بنائی ہے اور اوسکے تین متصل کے اضلاع ا ب اور ب س اور س د ہین اور قوسین ا ب اور ب س اور س د نقاط ل اور م اور ن پر منصف ہوتے ہین اور ب ا اور ب س کو ل م نقاط ع اور ق پر تقاطع کرتا ہے تو ثابت کرو کہ ب ع ق مثلث متساوی الساقین ہے اور زاویے ا ب س اور ب س د دو چند ہین زاویہ ل م ن سے۔

(۵۳۲) دائرہ معلوم کے محیط مین ایسا نقطہ دریافت کرو کہ اگر اوس سے دائرہ کے وتر ایک وتر معلوم کے اطراف تک کھینچین تو ان وترون کا فرق برابر ہو ایک خط مستقیم معلوم کے جو وتر معلوم سے بڑا نہین ہے۔

(۵۳۳) مثلث بناؤ جسکے اضلاع کا مجموعہ اور قاعدہ کے اون حصون کا فرق جو اوس عمود سے بنتے ہین کہ زاویہ راس سے قاعدہ پر نکالین اور فوق القاعدہ کے زاویون کے فرق معلوم ہین۔

(۵۳۴) خط مستقیم ا ب کو قاعدہ بنا کر دو قطعے دائرے ایک جہت مین بنائے ہین اور ع ایک نقطہ کسی ایک قطعہ دائرہ کے محیط مین ہے اور خط مستقیم ع ب دوسرے قطعہ دائرہ کے محیط کو نقطہ ق پر قطع کرتا ہے تو ثابت کرو کہ زاویہ ع ا ق برابر ہے اوس زاویہ کے جو درمیان مماسون کے کہ نقطہ ا سے کھینچین واقع ہے۔

(۵۳۵) ا ک ل خط مستقیم متعین ہے اور دائرہ معلوم کو نقاط ک اور ل پر قطع کرتا ہے اور ا ع ق اور ا ر ص دو اور خطوط مستقیم ہین اور برابر زاویے ا ک ل کے ساتھ بناتے ہین دائرہ کو نقاط ع اور ق اور ر اور ص پر قطع کرتے ہین تو ثابت کرو کہ مقامات ا ع ق اور ا ر ص کے خواہ کچھ ہی ہون نقاط وسط ع ق اور ر ص مین خط مستقیم ملایا گیا ہمیشہ ر ص کا متوازی رہیگا۔

(۵۳۶) اگر ذوار بعۃ الاضلاع کے گرد ایک اور ذوار بعۃ الاضلاع اس طرح سے بنائین کہ اوسکا ہر ایک ضلع پہلے ذوار بعۃ الاضلاع کے دو ضلعون کے ساتھ جو اوس سے ملتے ہین یکسان میلان رکھے تو پہلے ذوار بعۃ الاضلاع پر دائرہ کھینچ سکتا ہے

(۵۳۷) دو دائرے ایک دوسرے کو اندر کی طرف نقطہ آ پر مس کرتے ہین مطلوب یہ ہے کہ نقطہ آ سے خط مستقیم ایسا کھینچین کہ اوسکا ایک حصہ مابین دائرون کے برابر ایک خط مستقیم کے ہو اور یہ خط معلوم لون دائرون کے قطرون کے فرق سے بڑا نہین ہے۔

(۵۳۸) اب س د متوازی الاضلاع ہے اور ای ضلع اب کے ساتھ اور س ی ضلع س ب کے ساتھ زاوئے قائمے بناتا ہے تو ثابت کرو کہ اگر ی د بڑھائین تو اس کو زاویہ قائمہ پر قطع کریگا۔

(۵۳۹) اگر مثلث کے ہر ایک زاویہ سے عمود مقابل کے ضلع پر نکالین تو نقطہ تقاطع پر تینون عمودون مین سے ہر عمود کے ایسے حصے ہون گے کہ اونکی سطحین آپسمین برابر ہونگی۔

(۵۴۰) مثلث کے دو زاوئے فوق القاعدے کے دو خطوط مستقیم سے تنصیف ہوے ہین اور اون خطوط پر زاویہ راس سے عمود نکالے ہین اور موقع عمودون مین خط مستقیم وصل کیے گئے ہین تو ثابت کرو کہ یہہ خط متوازی قاعدہ کا ہوگا اور اضلاع کی تنصیف کریگا۔

(۵۴۱) دائرہ معلوم مین مسطح متوازی الاضلاع قائم الزاویہ برابر شکل مستقیمۃ الاضلاع کے بناؤ۔

(۵۴۲) مثلث حادۃ الزوایا اب س مین عمود او اور ب ی اضلاع ب س اور س ا پر نکالے ہین اور اس اور ب س کو قطر بنا کر جو دائرے کے کھینچے ہین وہ ب ی اور ا د سے نقاط ف اور ح اور ہ اور ک پر ملتے ہین تو ثابت کرو کہ نقاط ف اور ح اور ہ اور ک ایک دائرہ کے محیط مین ہین۔

(۵۴۳) دائرہ کے اندر دو قطر متقاطع علی القوائم ہین اونکے اطراف سے چار خطوط متوازی نکالے گئے ہین تو ثابت کرو کہ وہ محیط دائرہ کو چار مساوی حصون مین تقسیم کرتے ہین۔

(۵۴۴) نصف قوس محیط ا ی ب کا نقطہ وسطی ہے اور س د وتر ہے کہ قطر کو نقطہ د پر اور محیط کو نقطہ س پر قطع کرتا ہے تو ثابت کرو کہ مربع س ی کا مربع دو چندی ذوار بعۃ الاضلاع د ی ب س سے۔

(۵۴۵) دائرہ کا وتر اب متعین ہے اور اپنی جگہ سے ہلتا نہین ہے اور اوسی دائرہ مین دوسرا وتر اس متحرک ہے ایک متوازی الاضلاع ایسی بنائی ہے جسکے اضلاع متصلہ اب اور اس مین توسط متوازی الاضلاع کے قطرون کے نقطہ تقاطع کا مقام النقاط دریافت کرو۔

(۵۴۶) دائرہ کا وتر اب ایسا ہے کہ اپنی جگہ سے ہلتا نہین اور اس وتر متحرک اوس دائرہ کا ہے اور ایسی سطح متوازی الاضلاع بنائی ہے جسکے اضلاع متصلہ اب اور اس مین تو نقطہ ا سے جو قطر بڑے سے بڑا اس متوازی الاضلاع کا کھینچ سکے وہ دریافت کرو۔

(۵۴۷) اگر برابر دو دائرے اس قدر فاصلہ سے رکھین کہ ایک دائرہ کے مرکز سے جو دوسرے دائرہ کا مماس نکالا جاے تو وہ برابر ایک دائرہ کے قطر کے ہو تو ثابت کرو کہ اونکا مماس مشترک برابر نصف قطر دائرہ کے ہوگا

(۵۴۸) دائرہ معلوم مین ایک ایسا نقطہ دریافت کرو کہ جس سے اگر دو مماس ایک دائرہ معلوم کے کھینچین تو وتر اس دائرہ کا جو مابین نقاط تماس کے واقع ہو برابر ہو پہلے دائرہ کے اوس وتر کے جو مابین نقاط تقاطع خارج شدہ مماسون کے واقع ہے اور یہ بھی دریافت کرو کہ یہ سوال کس حد تک ممکن ہے۔

(۵۴۹) ایک دائرہ کا اب قطر ہے اور اف وتر ہے اور اب مین کوئی نقطہ س ہے اوسے خط مستقیم زاویہ قائمہ بناتا ہوا اب پر نکالا ہے اور وہ اف سے نقطہ ح پر اور محیط دائرہ سے نقطہ د پر ملتا ہے تو سطح اف اور اح کی اور سطح اب اور اس کی اور مربع اد کا سب آپسمین برابر ہین اگر ضرورت ہو تو اف کو خارج کرو۔

(۵۵۰) مثلث بناؤ جسکا قاعدہ اور زاویہ راس اور وہ خط مستقیم جو زاویہ راس کی تنصیف کرتا ہوا قاعدہ تک کھینچا ہے معلوم ہے۔

(۵۵۱) دائرہ کے محیط مین تین نقطے ا اور ب اور س معلوم ہین نقطہ ع ایسا دریافت کرو کہ اگر اع اور ب ع اور س ع دائرہ سے نقاط د اور ی اور ف پر ملین تو قوسین دی اور ی ف برابر معلوم قوسون کے ہون۔

(۵۵۲) دائرہ معلوم کے محیط مین ایسا نقطہ دریافت کرو کہ جسکے بعدون کا مجموعہ دو خطوط مستقیم متقاطع علی القوائم سے کہ دائرہ کو قطع نہین کرتے نہایت بڑے سے بڑا یا چھوٹے سے چھوٹا ہو۔

(۵۵۳) مثلث کے اضلاع پر قطعات دائرہ اندر کی طرف مثلث مین بنائین اور ہر قطعہ کا زاویہ فی القطعہ برابر ہی اوس زاویہ کے جو اپنے مقابل کے زاویہ مثلث کے ساتھہ ملکر برابر دو قائمون کے ہوتا ہی تو ثابت کرو کہ دائرونکے نصف قطر آپسمین مساوی ہین اور سب دائرے ایک نقطہ پر آپسمین گذرتے ہین اور اونکے اوتار کہ نقاط تقاطع مین ملائین عمود مقابل کے اضلاع پر ہین ٭

اسے ۶ آتک مقالہ چہارم

(۵۵۴) مثلث اب س کے زاویون سے مقابل کے اضلاع پر عمود نکالین اور وہ اضلاع سے نقاط د اور ی اور ف پر ملین تو ثابت کرو کہ دی اور دف یکسان میلان اد کے ساتھہ رکھتے ہین۔

(۵۵۵) مثلث کے دائرہ اندرونی کے نقاط تماس مین خطوط مستقیم ملائین اور مثلث جو اسطرح سے پیدا ہوا اوسکے زاویونسے عمود مقابل کے اضلاع پر نکالین اور موقع عمودون مین خطوط ملائین تو مثلث جو اسطرح سے پیدا ہوگا اوسکے ضلع متوازی اصل مثلث کے اضلاع کے ہونگے۔

(۵۵۶) مثلث بناؤ جسکے دائرہ اندرونی اور بیرونی کی نصف قطر اور اوسکا ایک زاویہ معلوم ہین۔

(۵۵۷) ایک ہی قاعدہ پر مثلث جنکے زاویے راس آپسمین مساوی ہین بنائے ہین تو ثابت کرو کہ مقام النقاط اون دائرون کے مرکزونکا جو ایک ضلع کو بابر کی طرف اور دوسرے ضلع اور قاعدہ ممدودہ کو مس کرتے ہین وہ قوس دائرہ ہی کہ جسکا مرکز اوس محیط دائرہ مین ہے کہ مثلث کی اوپر بنائین

(۵۵۸) مثلث کے زاویون د اور ب اور س سے عمود مقابل کے اضلاع پر نکالین اور وہ نقاط د اور ی اور ف پر محیط دائرہ سے کہ مثلث کے اوپر بنائین ملین اور ان تینون عمودون کا نقطہ تقاطع ل ہو تو د ل اور ل ی اور ل ف اضلاع مثلث سے تنصیف ہونگے۔

(۵۵۹) اب س د ی مخمس منتظم ہی اس اور ب د نقطہ ہ پر تقاطع کرتے ہوئے ملائے ہین تو ثابت کرو کہ د ہ برابر ہے د ی کے اور اس اور س ی کی سطح برابر ہے ب س کے مربع کے۔

(۵۶۰) خط مستقیم ع ق جسکا طول معلوم ہی متحرک اسطرح سے ہی کہ ہمیشہ اسکے دونو طرف خطوط مستقیم معلوم متعین س ع اور س ق پر رہتے ہین اور خطوط مستقیم ع اور ق سے زاویہ بناتے ہوئے س ع اور س ق نقطہ ر پر تقاطع کرتے ہین اور عمود نقاط ع اور ق سے س ف اور س ع پر نکالے گئے نقطہ ص پر تقاطع کرتے ہین تو ثابت کرو کہ ر اور ص کے مقام النقاط دائرے ہونگے جنکا مرکز مشترک س ہوگا۔

(۵۶۱) وتر واحد پر مثلث قائم الزاویہ بنائے ہین تو ثابت کرو کہ مقام النقاط اون دائرونکے

مرکزون کا جو اون مثلون کی اندر بنائے ہین ربع محیط ایک دائرہ کا ہوگا جسکا وتر مشترک
وتر مشترک ہوگا +

(۵۶۲) کسی خط مستقیم معلوم اب پر کوئی مثلث اس بنایا ہے اور اوسکے اضلاع اس
اور ب س کی تنصیف کی ہی اور نقاط تنصیف سی عمود اونپر نکالے ہین جو نقطہ د پر ملتے ہین
نقطہ د کا مقام النقاط دریافت کرو۔

(۵۶۳) مثلث بناؤ جسکا قاعدہ اور زاویہ قاعدہ پر کا اور بعد اون دو دائرونکے مرکزونکا کہ
ایک مثلث کے اندر اور دوسرا خارج مین اسطرح سے بنایا جائے کہ ایک ضلع اور دو اضلاع
محدودہ کو مس کرے معلوم ہین۔

(۵۶۴) دائرہ کھینچو کہ ایک خط مستقیم کو ایک نقطہ معلوم پر مس کرے اور دائرہ معلوم کے محیط
کو تنصیف کرے۔

(۵۶۵) دائرہ کھینچو جو نقطہ معلوم پر مس کرے اور دو معلوم دائرونکے محیط کو تنصیف کرے۔

(۵۶۶) دائرہ کے اندر دو دائرے ایسی بناؤ کہ وہ باہم بھی مس کرین اور دائرہ معلومہ کو بھی مس کرین

(۵۶۷) اگر دائرہ معلوم کا نصف قطر موافق ۱۱ش ۲م کے تقسیم کیا جاے تو حصہ کلان اوسکا
اوس شعر منتظم کا ضلع ہوگا جو دائرہ کے اندر بنایا جائے۔

(۵۶۸) اگر دائرہ کا نصف قطر موافق ۱۱ش ۲م کے تقسیم ہو تو بڑے حصہ کا مربع مع مربع نصف قطر
کے برابر ضلع مخمس کے مربع کے ہوگا۔

(۵۶۹) مثلث کی راس سے قاعدہ تک ایسا خط مستقیم کھینچو کہ اوسکا مربع برابر ہو سطح حصص قاعدہ
کے جو اوس سے پیدا ہون۔

(۵۷۰) ایک بسیط مین چار خطوط مستقیم سطح کھینچے ہین کہ چار مثلث پیدا ہوتے ہین تو ثابت
کرو کہ ان مثلثون پر جو دائرہ کھینچین وہ ایک نقطہ پر تقاطع کرینگے۔

(۵۷۱) مثلث کی زاویون ا اور ب سے عمود مقابل کے اضلاع پر نکالے ہین اور وہ نقطہ د پر
تقاطع کرتے ہین تو دائرے جو مثلث ا د س پر اور د ب س پر بنائین وہ ا ب یا ا ب خارج شدہ
کو نقاط ی اور ق پر قطع کرین تو ثابت کرو کہ ا ی برابر ب ق کے ہوگا۔

(۵۷۲) چار دائرے جنمین سے ہر ایک اون چار دائرون مین سے تین کے مرکز پر گذرتا ہے
جو اضلاع مثلث کو مس کرتے ہین آپسمین برابر ہونگے۔

(۵۷۳) چار دائرے اس طرح سے کھینچے ہین کہ ہر ایک دو اربعۃ الاضلاع کے تین ضلعونکو مس کرتا ہی تو ثابت کرو کہ دائرہ ایسا کھینچ سکتا ہی کہ وہ اون چارون دائرونکے مرکزونپر گذرے۔

(۵۷۴) مثلث ا ب س کے گرد دائرہ کھینچا ہے اور محیط مین کسی نقطہ ع سے عمود اضلاع ب س اور س ا اور ا ب پر نکالے ہین جو دائرے سے پھر نقاط د اور ی اور ف ملتے تو ثابت کرو کہ مثلث ا ب س اور د ی ف سب طرح سے آپسمین مساوی ہونگے اور خطوط مستقیم ا د اور ا ب ی اور س ف متوازی ہونگے۔

(۵۷۵) دائرہ معلوم کے محیط مین کسی نقطہ کو مرکز بنا کر دائرہ کھینچا جاتا ہے جو دائرہ معلوم کو نقاط ا اور ب پر قطع کرتا ہے اور نقطہ ب سے ایک قطر ب د اس کھینچے ہوئے دائرے مین برابر اوسکے نصف قطر کے بنایا ہی اور ا د ملایا ہے جو دائرہ معلوم کو نقطہ ف پر قطع کرتا ہے تو ثابت کرو کہ ف د برابر ہے نصف قطر دائرہ معلوم کے +

(۵۷۶) مربع کے باہر ایک ایسا نقطہ مقرر کیا ہی کہ اون سے جو خطوط مستقیم مربع کے زاویون مین ملائے ہین اونمین سے جو دو خطوط مستقیم کہ انتہا پر واقع ہین اونکے درمیان کا زاویہ باقی دو خطوط مستقیم کے مثلث ہوتا ہی تو ثابت کرو کہ مقام النقاط اس نقطہ کا وہ دائرہ ہوگا جو مربع کے اوپر بنا ہے

(۵۷۷) مثلث کے ایک زاویہ سے مقابل کے ضلع پر عمود نکالنے سے جو دو مثلث بنتی ہین اونکے اندر دائرے بنائے ہین اور علی ہذا القیاس اور اسیطرح کے عمودون سے جو دو دو مثلث پیدا ہوتے ہین اونکے اندر اسطرح کے دائرے بنائے ہین تو ثابت کرو کہ اون پہلون دائرون کے قطرونکا مجموعہ مع مجموعہ اندرونی مثلث کے برابر دو چند مجموعہ عمودونکے ہوتا ہے۔

(۵۷۸) ایک بسیط مین تین دائرے متحد المرکز کھینچے ہین ایک خط مستقیم ایسا کھینچو کہ اوسکا وہ حصہ کہ دائرہ اندرونی اور بیرونی کے مابین واقع ہو محیط متوسط سے نصف ہو۔

اسے دتاب ۶ م

(۵۷۹) دائرہ کا قطر ا ب ہی اور محیط مین اوسکے کوئی سا نقطہ ع ہی اور ا ع اور ب ع ملائے ہین اور ضرورت کی صورتمین خارج ہی کرتے ہین اور ب مین کسی نقطہ س سے ایک خط مستقیم ا ع سے نقطہ د پر اور ب ع سے نقطہ ی پر اور محیط دائرہ سے نقطہ ف پر ملتا ہوا نکالا ہے تو ثابت کرو کہ س د ثالث فی النسبت س ی اور س ف مین ہوگا۔

(۵۸۰) خط مستقیم مین ا اور ب اور س تین نقطے ہین اور د اوسکے اوپر ایسا نقطہ ہی کہ ا ب پر

زاویے جو سامنے اب اور ب س کے بنتے ہین آپسمین مساوی ہین تو ثابت کرو کہ مقام النقاط د کا محیط دائرہ ہے۔

(۵۸۱) اگر مربع کے ایک گوشہ سے چوتھائی قطر کو قطع کرتا ہوا خط مستقیم کھینچا جائے تو وہ تہائی ایک ضلع کے قطع کرے گا اور اگر اسی طرح سے ہر گوشہ سے خطوط مستقیم کھینچے جائین اس طرح سے کہ ایک مربع بنجائے تو یہہ مربع دو جنس اصل مربع کا ہوگا۔

(۵۸۲) اگر مثلث اب س کے اضلاع اب اور اس نقاط د اور ی تک ایسے خارج ہون کہ دی متوازی ب س کا ہو اور خط مستقیم دی نقطہ ف پر ایسا تقسیم ہو کہ دف کو ف ی سے وہ نسبت ہو جو ب د کو ہی س ی سے تو ثابت کرو کہ مقام النقاط نقطہ ف کا خط مستقیم ہوگا۔

(۵۸۳) خط مستقیم مین ا اور ب اور س بالترتیب تین نقطے ہین نقطہ ع خط مستقیم کمین ایسا دریافت کرو کہ ع ب وسط فی النسبت ع ا اور ع س مین ہو

(۵۸۴) دائرہ معلوم کے محیط مین دو نقطے ا اور ب ایسے ہین کہ اپنی جگہہ سے ہلتے نہین اور ع ایک نقطہ متحرک محیط مین ہے ع ب پر نقطہ د ایسا مقرر کیا ہی کہ نسبت ع د اور ع ا کی ایک نسبت مقررہ ہے اور ع ا پر نقطہ ی ایسا مقرر کیا ہی کہ نسبت ع ی اور ع ب مین پہلی ہی سی نسبت ہی تو ثابت کرو کہ دی ہمیشہ ایک دائرہ متعینہ کو مس کریگا۔

(۵۸۵) اب س مثلث متساوی الساقین ہی اور اوسکا زاویہ ا چوچند ہر ایک زاویہ مثلث سے ہی اگر ب س کی تثلیث نقاط د اور ی پر ہو تو مثلث ا د ی متساوی الاضلاع ہوگا۔

(۵۸۶) سطح متوازی الاضلاع قائم الزاویہ کے دو مقابل کے زاویون سے قطر پر عمود نکالے ہین تو ثابت کرو کہ یہہ عمود قطر کو برابر حصون مین تقسیم کرینگے اگر سطح کے ایک ضلع کا مربع دوسرے ضلع کے مربع سے دو چند ہو۔

(۵۸۷) خط مستقیم اب کسی دو حصون مین نقطہ س پر تقسیم ہوا ہے اور کل خط پر اور اوسکے دونو حصون پر مثلث متساوی الاضلاع ا د ب اور ا س ی اور ب س ف اسطرح سے بنائے ہین کہ اونمین سے دو پچھلے مثلث تو خط مستقیم کے ایک طرف اور تیسرا مثلث اوسکے مقابل سمت مین ہی اور ح اور ھ اور ک مرکزون دائرون کے ہین جو اون مثلثون مین بنائین تو ثابت کرو زاویے ا ح ھ اور ب ح ک علی التناظر متساوی زوایا ا د س اور ب د س کے ہونگے اور ح ھ برابر ح ک کے۔

(۵۸۸) مثلث قائم الزاویہ کے دو ضلعونپر جو زاویہ قائمہ کے محیط مین مربعے بنائے ہین اور مثلث کے حادہ زاویون اور مربع کے مقابل کے زاویون مین خطوط مستقیم وصل کئے ہین تو ثابت کرو کہ یہ خطوط مساوی حصے اضلاع مین سے قطع کرینگے اور ہر ایک ان مساوی حصون مین سے وسط فی النسبت باقی حصون مین ہوگا۔

(۵۸۹) دو خطوط مستقیم اور ایک نقطہ درمیان مین اونکے معلوم المقام ہین اس نقطہ سے دو خطوط مستقیم ایسے کھینچو کہ وہ خطوط معلومہ پر منتہی ہون اور اونکے درمیان کا زاویہ برابر زاویہ معلوم کے ہو اور انمین نسبت باہم ایک نسبت معلوم ہو۔

(۵۹۰) ایک دائرہ معلوم اب س کی محیط مین نقطہ ا کو مرکز مانکر ایک دائرہ ع ب س کھینچا گیا ہی اور وہ دائرہ معلوم کو نقاط ب اور س پر قطع کرتا ہے اور دائرہ اول کا کوئی وتر ا د دوسرے مشترک ب س کو نقطہ ی پر اور محیط دائرہ ثانی کو نقطہ ہ پر قطع کرتا ہے تو ثابت کرو کہ زاویے ی ع د اور د ع ہ برابر ہین خواہ ع کا مقام کہین ہو۔

(۵۹۱) مثلث ا ب س اور ا ب ف ایک ہی قاعدہ پر واقع ہین اور انمین نسبت دو اور ایک کی ہے اور ا ف اور ب ف خارج ہو کر اضلاع سے نقاط د اور ی پر ملتے ہین اور ف ب مین سے ایک حصہ ف ح برابر ف ی کے قطع ہوا ہے اور ب ح نقطہ ہ پر منصف ہوا ہی تو ثابت کرو کہ ب ہ کو ب ی سے وہ نسبت ہی جو د ف کو ہی د ا سے۔

(۵۹۲) دائرہ کا مرکز ا ہے اور اوسپر دوسرا دائرہ گذر کر پہلے دائرہ کو نقاط ب اور س پر قطع کرتا ہے اور ا د وتر دوسرے دائرہ کا ب س سے نقطہ ی پر ملتا ہی اور د سے د ف اور د ح مماس پہلے دائرہ کے نکالے ہین تو ثابت کرو کہ ح اور ی اور ف ایک خط مستقیم مین واقع ہین۔

(۵۹۳) مثلث کے دو اضلاع ا ب اور ا س مین نقاط د اور ی مقرر کئے ہین اور ا ب اور ا س خارج ف اور ح تک ایسے کئے ہین کہ ب ف برابر ہے ا د کے اور س ح برابر ہے ا ی کے اور ب ح اور س ف ملائے ہین اور وہ نقطہ ھ پر ملتے ہین تو ثابت کرو کہ مثلث ف ھ ح برابر ہے مجموعہ مثلثون ب ھ س اور ا د ی کے۔

(۵۹۴) اگر کسی مثلث ا ب س مین ب د برابر ایک ربع ب س کے اور س ی برابر ایک ربع اس کے قطع کرین تو خط مستقیم نقطہ س سے نقطہ تقاطع ب ی اور ا د مین کھینچا گیا ا ب کو ایسے دو حصونمین تقسیم کریگا کہ اونمین نسبت ۹ اور ۱ کی ہوگی۔

(۵۹۵) دائرہ کے اندر شکل مستقیمۃ الاضلاع بنائی ہی تو ثابت کرو کہ قوسون کے نقاط تنصیف سے مماس متوازی الاضلاع کے نکال کر ایک شکل مستقیمۃ الاضلاع متشابہ مستقیمۃ الاضلاع اندرونی کے دائرہ کے اوپر بنا سکتے ہین۔

(۵۹۶) اون دو مثلثون قائم الزاویہ متشابہ کے درمیان وسط فی النسبت دریافت کرو جنکے اندر ایک ضلع زاویہ قائمہ کا مشترک ہی۔

(۵۹۷) مثلث اب س کے اضلاع اس اور ب س مین نقاط د اور ی ایسے مقرر کئے ہین کہ س د تہائی اس کا اور س ی تہائی ب س کا ہی اور ب د اور ا ی نقطہ ہ پر تقاطع کرتے ہوئے کھینچے ہین تو ثابت کرو کہ ی ہ چوتہائی حصہ ا ی کا اور د ہ چوتہائی حصہ ب د کا ہی۔

(۵۹۸) دو دائرے باہر کی طرف نقطہ س مس کرتے ہین اور س ا اور س ب اونکے قطر ہین اور وتر ا د ایک دائرہ کا خارج ہو کر دوسرے دائرہ کو نقطہ ی پر مس کرتا ہی اور دوسرے دائرہ کا وتر ب ف خارج ہو کر پہلے دائرہ کو نقطہ ح پر مس کرتا ہے تو ثابت کرو کہ سطح ا د اور ب ف کے چوچند دی اور ف ح کی سطح سے ہی۔

(۵۹۹) دو دائرے نقطہ ا پر تقاطع کرتے ہین اور ب ا س ا د س سے نقاط ب اور س پر ملتا ہوا کھینچا ہے ب اور س کو مرکز بنا کر دو دائرے ایسے کھینچے ہین کہ انمین سے ہر ایک پہلے دائرہ کو زاویہ قائمہ پر قطع کرتا ہے تو ثابت کرو کہ یہہ دونو دائرے اور وہ دائرہ جسکا قطر ب س ہے ایک نقطہ پر ملتے ہین۔

(۶۰۰) اب س دی ف مسدس منتظم ہے ثابت کرو کہ ا د کو ایک اور تین کی نسبت پر ب ف تقسیم کرتا ہے۔

(۶۰۱) دو مثلث اب س اور دی ف مین زاویہ ا برابر ہی زاویہ د کے اور ا ب برابر ہے د ف کے تو ثابت کرو کہ مثلثون کی سطحون مین وہ نسبت ہی جو ا س کو ہے د ی سے۔

(۶۰۲) مثلث اب س کا دائرہ اندرونی اور دائرہ خارجی مثلث کے ضلع اس کو نقاط م اور ن پر مس کرتے ہین تو ثابت کرو کہ اگر ب م خارج کیا جائے اور دائرے خارجی کو نقطہ ح پر تقاطع کرے تو ع ن قطر دائرہ ہوگا۔

(۶۰۳) مثلث اب س کا زاویہ ا قائمہ ہی اور د موقع عمود ہے جو ا سے ب س پر نکالا گیا ہی

اور دم اور دن عمود اب اور اس پر نکالے گئے ہین تو ثابت کرو کہ زاویہ بم س اور ب ن س آپسمین مساوی ہین -

(۶۰۴) ایک دائرہ کی قوس معلومہ کے نقطہ وسط سے دو خطوط مستقیم وتر قوس معلومہ اور محیط دائرہ کو قطع کرتے ہوئے کھینچے ہین تو چارون نقطے تقاطع کے ایک دائرہ کے محیط مین ہونگے -

(۶۰۵) مثلث اب س کے ضلع اب کو دائرہ اندرونی نقطہ د پر اور دائرہ خارجی کے نقطہ ی پر مس کرتا ہے تو ثابت کرو کہ دائرون کے نصف قطرون کی سطح برابر ہے سطح اد اور ب د کے اور سطح ای اور ی ب کے -

(۶۰۶) ثابت کرو کہ مقام النقاط نقاط وسط اون خطوط مستقیم کا کہ متوازی ایک مثلث کے قاعدہ کے ہین اور اضلاع پر منتہی ہین ایک خط مستقیم ہوتا ہے -

(۶۰۷) مثلث مین متوازی الاضلاع بنائی ہے جسکا ایک ضلع قاعدہ پر منطبق ہے اور دو متصل کے اضلاع ایک جہت مقررہ کی متوازی ہین تو ثابت کرو کہ اس سطح متوازی الاضلاع کے قطرونکے نقطہ تقاطع کا مقام النقاط ایک خط مستقیم ہوگا جو قاعدہ مثلث کو تنصیف کریگا -

(۶۰۸) ایک خط مستقیم معلوم اب کو وتر بنا کر اوسپر مثلث قائم الزاویہ بنایا ہی اور نقاط ا اور ب سے خطوط مستقیم اضلاع مقابل کی تنصیف کرتے ہوئے کھینچے ہین تو ثابت کرو کہ اونکے نقطہ تقاطع کا مجمع النقاط ایک دائرہ ہوگا -

(۶۰۹) ایک نقطہ باہر دو دائرونسے جو آپسمین ملتے نہین ہین واقع ہے اونسے ایک خط مستقیم ایسا کھینچو کہ اوسکے حصے جو دائرونکے اندر اوین متناسب دوائر کے نصف قطرون کے ہون -

(۶۱۰) مثلث مین معین بناؤ جسکا ایک ضلع قاعدہ پر ہو اور اوسکے ایک زاویہ کا راس قاعدہ کے کسی نقطہ پر منطبق ہوتا ہو -

(۶۱۱) اب س مثلث ہی جسکا زاویہ س قائمہ ہی وتر اب پر مربع اب دی بنایا ہی اور ف اور ح اور ھ اور ن مربعون کے قطرون کے نقاط تقاطع ہین جو وتر اور اضلاع پر بنائین تو ثابت کرو کہ زاویہ دس ی اور ح ف ھ مل کر برابر ایک قائمہ کے ہونگے +

سوالات متفرقہ

(۶۱۲) ا ایک نقطہ معین ہے جس سے ایسا خط مستقیم کھینچا ہے کہ وہ ایک خط مستقیم متعین سے نقطہ ع پر ملتا ہے اور ا ع مین نقطہ ق مقرر کیا ہے ایسا کہ سطح ا ع اور ا ق ایک مقدار مقررہ ہے تو ثابت کرو کہ مقام النقاط ق کا دائرہ کا محیط ہے۔

(۶۱۳) دائرہ کے محیط مین ا نقطہ متعین ہے اور اوس سے کوئی خط مستقیم محیط دائرہ سے نقطہ ع پر ملتا ہوا کھینچا ہے اور ا ع مین نقطہ ق ایسا مقرر کیا ہے کہ سطح ا ع اور ا ق کی مقدار ہمیشہ ایک ہی رہتی ہے تو ثابت کرو کہ مقام النقاط نقطۂ ق کا خط مستقیم ہے۔

(۶۱۴) اگر دائرہ کے ذو اربعۃ الاضلاع اندرونی کے اضلاع مقابل کے خارج ہو کر نقاط ع اور ق پر ملین تو ثابت کرو کہ مربع ع ق کا برابر ہے مجموعۂ مربعون اون مماسون کے کہ ع و ق سے دائرہ کے نکالین۔

(۶۱۵) دائرہ کے اندر ا ب س د ذو اربعۃ الاضلاع بنی ہوئی ہے اور اضلاع مقابل ا ب اور د س خارج ہو کر نقطہ ف پر ملتے ہین اور اضلاع مقابل ب س اور ا د کے خارج ہو کر نقطہ ی پر تو ثابت کرو کہ دائرہ جو ی ف کو قطر بنا کر کھینچین گے وہ دائرہ ا ب س د کو زاویہ قائمہ پر قطع کریگا۔

(۶۱۶) مثلث قائم الزاویہ کے زاویہ ر اس سے وتر پر عمود نکالا ہے اور موقع عمود سے ہر ایک ضلع مقابل پر عمود نکالا ہے تو ثابت کرو کہ رقبہ اوس مثلث کا جسکے دو ضلع یہہ پچھلے دو عمود ہین جو تہائی اصل مثلث کے رقبہ سی زیادہ نہین ہو سکتا۔

(۶۱۷) اگر دو خطوط مستقیم متقاطع کے اطراف مین خطوط مستقیم ملانے سے دو مثلث مقابل الراس پیدا ہون تو شکل جو خطوط معلومہ کے نقاط تنصیف مین ملانے سے پیدا ہو گی وہ متوازی الاضلاع ہو گی اور جسکا رقبہ برابر مثلثون کے رقبہ کے تفاوت کے ہو گا۔

(۶۱۸) دائرہ کے ا ب اور د س مماس ہین اور دائرہ کو نقاط ب اور س پر مس کرتے ہین اور ایک نقطہ اوس خط مستقیم مین ہے کہ ا ب اور د س کے نقاط وسط مین ملتا ہے تو ثابت کرو کہ ا ر برابر ہی اوس مماس کے کہ نقطہ ر سے دائرہ کا نکالا ہے۔

(۶۱۹) دائرہ کے اب اور اس مماس ہین اور ع ق ایک وتر ہے جو خط مستقیم سے کہ نقاط وسط اب اور اس مین وصل ہوا ہے نقطہ ر پر ملتا ہے تو ثابت کرو کہ زاویے ر ع اور ر ق ر باہم برابر ہین اگر ضرورت پڑے تو ع ق کو خارج کرلو۔

(۶۲۰) ذرا اربعۃ الاضلاع مین چار مثلث کہ دو دو متصل کے ضلعون اور اوسکے وتر سے بنتے ہین اونمین سے ہر ایک مثلث کے اضلاع کے نقاط وسط مین ایک ایک دائرہ کھینچا ہے تو چارون دائرے ایک نقطہ پر تقاطع کرینگے۔

(۶۲۱) مثلث متساوی الاضلاع کے زاویون کے تنصیف کرنیوالے خطوط پر کسی نقطہ سے عمود نکالین تو اونمین سے ایک عمود برابر باقی دو عمودونکے مجموعہ کے ہوگا۔

(۶۲۲) دو دائرے نقاط ا اور ب پر متقاطع ہین اور س ب د عمود اب پر نقطہ ب سے نکالا ہے اور دائرون سے ملتا ہے اور نقطہ ا سے خط مستقیم تنصیف کرتا ہوا زاویہ داخلہ یا خارجہ کے جو مابین اس اور اد کے واقع ہے کھینچا ہے اور وہ محیط سے نقاط ی اور ف پر ملتا ہے تو ثابت کرو کہ ی اور ف سے جو مماس دائرہ کے کھینچینگے وہ خط اب خارج شدہ پر متقاطع ہونگے۔

(۶۲۳) ایک مثلث کو دو اور خطوط مستقیم سے ایسے تین حصون مین تقسیم کرو کہ اگر اونکو ترتیب سے رکھین تو شکل متوازی الاضلاع ایسی بنے کہ اوسکے زاویے مساوی معلوم ہون۔

(۶۲۴) اب س د متوازی الاضلاع ہے اور ع کوئی نقطہ ہے تو ثابت کرو کہ مثلث ع اس برابر فرق مثلثون ع اب اور ع اد کے بشرطیکہ ع زاویہ ب ا د کے درمیان ہو اور اگر ع کا کوئی اور مقام ہو تو مثلث ع س برابر مجموعہ مثلثون ع اب اور ع اد کے ہوگا۔

(۶۲۵) دو دائرے متقاطع ہین اور خط مستقیم اب س د ی کھینچا ہے جو ایک دائرے سے نقاط ا و د پر ملتا ہے اور دوسرے سے ب اور ی پر اور اونکے وتر مشترک سے نقطہ س پر تو ثابت کرو کہ مربع ب د کا ا ی کے مربع سے وہ نسبت رکھتا ہے جو کہ ب س اور س د کی سطح نسبت رکھتی ہے اس اور س ی کی سطح سے فقط

تمت

اشتہار

ممالک مغربی و پنجاب اودہ کے مڈل سکول کی جماعتون مین بہت تہوڑا سا جغرافیہ ریاضیہ وطبعیہ اور علوم طبیعیہ کا درس جاری ہوا ہی اور دو ایک چہوٹی چہوٹی کتابین بہی اونکے درس مین جاری ہین جنکو طلبہ حفظ کرکے امتحانون مین پاس ہوجاتے ہین مینے یہ چار کتابین ایسی لکہی ہین کہ طالب علم ان اپنی کتب درسیہ مین جو مضامین پڑہتے ہین اونکی توضیح اور تشریح کرین اور سوا اسکے کچہہ اور مضامین بہی زیادہ کئے ہین اگر معلم اور طالب علم ان کتابون کو غور سے پڑہینگے تو مجہے یقین ہے کہ وہ کتب درسیہ مروجہ کے مضامین کو زیادہ خوبی سے سمجہنے لگینگے

نام کتاب	قیمت	محصول
جغرافیہ طبیعیہ	۶ر	۱ر
جغرافیہ ریاضیہ	۸ر	۱ر
علوم طبیعیہ کی الف بے تے	۶ر	۱ر
صحیفۂ فطرت	۶ر	۱ر

محمد ذکاء اللہ

آخری درج شدہ تاریخ پر یہ کتاب مستعار
لی گئی تھی مقررہ مدت سے زیادہ رکھنے کی
صورت میں ایک آنہ یومیہ دیرانہ لیا جائے گا۔

کتب خانہ

جامعہ عثمانیہ

۱۔ ارکین مجلس [illegible]

۲۔ [illegible]

۳۔ [illegible]

۴۔ [illegible]

۵۔ [illegible]

۶۔ [illegible]

۷۔ [illegible]

۸۔ [illegible]